د پوهنې وزارت

د تعلیمي نصاب، د ښوونکو د روزنې او د ساینس د مرکز معینیت

د تعلیمي نصاب د پراختیا او درسي کتابونو د تالیف لوی ریاست

ریاضي ۱۲

ټولګی

$$\lim_{x \to a} f(x) = ?$$

$$\int_a^b f(x)\,dx = ?$$

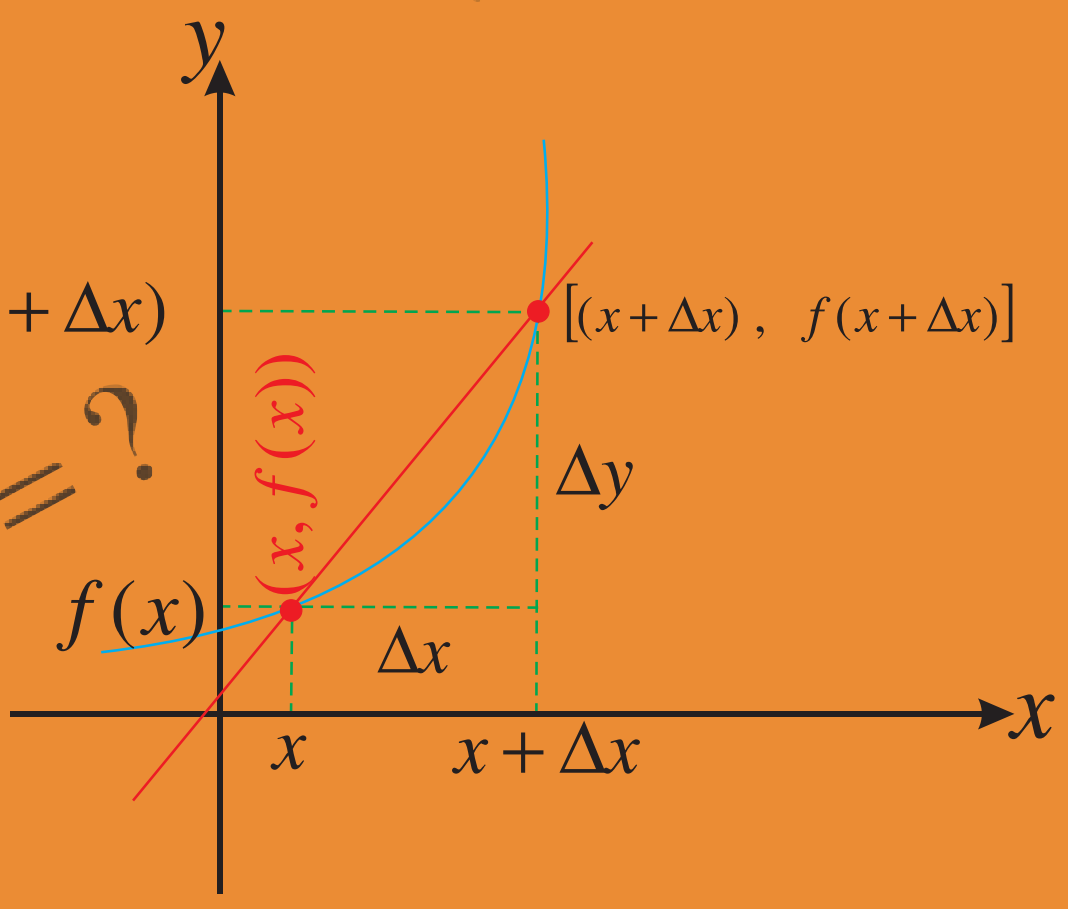

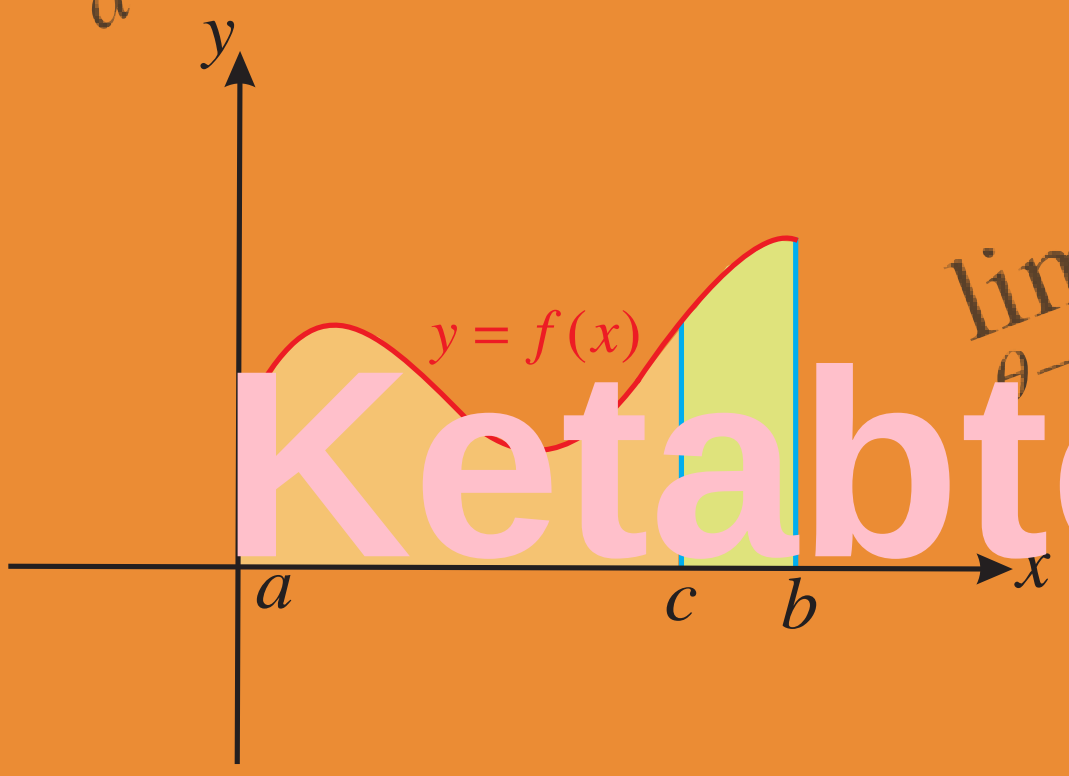

$$\lim_{\theta \to 0} \frac{\sin\theta}{\theta} = ?$$

د چاپ کال: ۱۳۹۰

ریاضي ۱۲ ټولګی

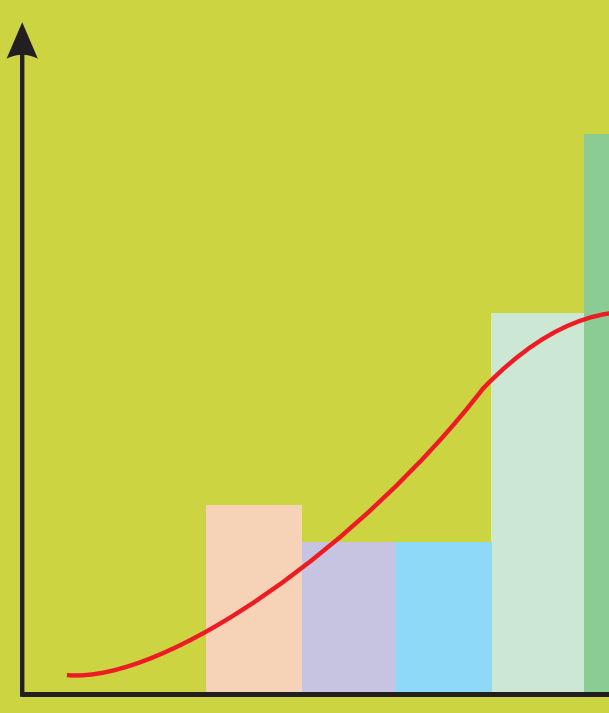

Ketabton.com

(c) ketabton.com: The Digital Library

د پوهنې وزارت

د تعليمي نصاب، د ښوونکو د روزنې او د ساينس د مرکز معينيت

د تعليمي نصاب د پراختيا او درسي کتابونو د تاليف

لوی رياست

رياضي ۱۲ ټولګی

د چاپ کال: ۱۳۹۰ هـ . ش.

لیکوالان:

- پوهیالی حمدالله شیرزی وردگ د پوهنې وزارت د درسي کتابونو د تألیف د پروژې غړی
- مؤلف مهناز توخي د تعلیمي نصاب د پراختیا او درسي کتابونو د تألیف علمي غړې
- پوهنمل طلاباز حبیب زی د پوهنې وزارت د درسي کتابونو د تألیف د پروژې غړی
- پوهندوی خالقداد فیروزکوهي د پوهنې وزارت د درسي کتابونو د تألیف د پروژې غړی
- سرمؤلف میرنقیب الله د تعلیمي نصاب د پراختیا او درسي کتابونو د تألیف علمي غړی
- د مؤلف مرستیال محمد خالد ستوری(څدراڼ) د تعلیمي نصاب د پراختیا او درسي کتابونو د تألیف علمي غړی

علمي او مسلکي ایډیټ:

- حبیب الله راحل د پوهنې وزارت سلاکار د تعلیمي نصاب د پراختیا په لوی ریاست کې.
- سرمؤلف نظام الدین د تعلیمي نصاب د پراختیا او درسي کتابونو د تألیف علمي غړی
- د مؤلف مرستیال رحیمه هدایت‌زی د تعلیمي نصاب د پراختیا او درسي کتابونو د تألیف علمي غړې

د ژبې ایډیټ:

- محمدقدوس ذکوخیل د تعلیمي نصاب د پراختیا او درسي کتابونو د تألیف علمي غړی

دیني، سیاسي او کلتوري کمیټه:

- مولوي عبدالوکیل د اسلامي تعلیماتو علمي غړی.
- حبیب الله راحل د پوهنې وزارت سلاکار د تعلیمي نصاب د پراختیا په لوی ریاست کې.

د څارنې کمیټه:

- دکتور اسدالله محقق د تعلیمي نصاب د پراختیا، د ښوونکو د روزنې او د ساینس مرکز معین
- دکتور شېر علي ظریفي د تعلیمي نصاب د پراختیا د پروژې مسؤول
- د سرمؤلف مرستیال عبدالظاهر گلستاني د تعلیمي نصاب د پراختیا او درسي کتابونو د تالیف لوی رئیس

طرح او ډیزاین:

ولید «نوید» نسیمي

(c) ketabton.com: The Digital Library

(c) ketabton.com: The Digital Library

ملي سرود

دا وطن افغانستان دی — دا عزت د هر افغان دی
کور د سولې کور د تورې — هر بچی یې قهرمان دی
دا وطن د ټولو کور دی — د بلوڅو د ازبکو
د پښتون او هزاره وو — د ترکمنو د تاجکو
ورسره عرب، ګوجر دي — پامیریان، نورستانیان
براهوي دي، قزلباش دي — هم ایماق، هم پشه یان
دا هیواد به تل ځلیږي — لکه لمر پر شنه آسمان
په سینه کې د آسیا به — لکه زړه وي جاویدان
نوم د حق مودی رهبر — وایو الله اکبر وایو الله اکبر

(c) ketabton.com: The Digital Library

بسم الله الرحمن الرحيم

د پوهنې د وزیر پیغام

گرانو ښوونکو او زده کوونکو،

ښوونه او روزنه د هر هېواد د پراختیا او پرمختګ بنسټ جوړوي. تعلیمي نصاب د ښوونې او روزنې مهم توکی دی چې د معاصر علمي پرمختګ او ټولنې د اړتیاوو له مخې رامنځته کېږي. څرګنده ده چې علمي پرمختګ او ټولنیزې اړتیاوې تل د بدلون په حال کې وي. له دې امله لازمه ده چې تعلیمي نصاب هم علمي او رغنده انکشاف ومومي. البته نه ښايي چې تعلیمي نصاب د سیاسي بدلونونو او د اشخاصو د نظریو او هیلو تابع شي.

دا کتاب چې نن ستاسو په لاس کې دی، پر همدې ارزښتونو چمتو او ترتیب شوی دی. علمي ګټورې موضوعګانې پکې زیاتې شوې دي. د زده کړې په بهیر کې د زده کوونکو فعال ساتل د تدریسي پلان برخه ګرځېدلې ده.

هیله من یم دا کتاب له لارښوونو او تعلیمي پلان سره سم د فعالې زده کړې د میتودونو د کارولو له لارې تدریس شي او د زده کوونکو میندې او پلرونه هم د خپلو لوڼو او زامنو په باکیفیته ښوونه او روزنه کې پرله پسې ګډه مرسته وکړي چې د پوهنې د نظام هیلې ترسره شي او زده کوونکو او هېواد ته ښې بریاوې ور په برخه کړي.

پر دې ټکي پوره باور لرم چې زموږ ګران ښوونکي د تعلیمي نصاب په رغنده پلي کولو کې خپل مسؤولیت په ریښتوني توګه سرته رسوي.

د پوهنې وزارت تل زیار کاږي چې د پوهنې تعلیمي نصاب د اسلام د سپېڅلي دین له بنسټونو، د وطن دوستی د پاک حس په ساتلو او علمي معیارونو سره سم د ټولنې د څرګندو اړتیاوو له مخې پراختیا ومومي.

په دې ډګر کې د هېواد له ټولو علمي شخصیتونو، د ښوونې او روزنې له پوهانو او د زده کوونکو له میندو او پلرونو څخه هیله لرم چې د خپلو نظریو او رغنده وړاندیزونو له لارې زموږ له مؤلفانو سره د درسي کتابونو په لا ښه تألیف کې مرسته وکړي.

له ټولو هغو پوهانو څخه چې د دې کتاب په چمتو کولو او ترتیب کې یې مرسته کړې، له ملي او نړیوالو درنو مؤسسو، او نورو ملګرو هېوادونو څخه چې د نوي تعلیمي نصاب په چمتو کولو او تدوین او د درسي کتابونو په چاپ او وېش کې یې مرسته کړې ده، مننه او درناوی کوم.

ومن الله التوفیق

فاروق وردګ

د افغانستان د اسلامي جمهوریت د پوهنې وزیر

(c) ketabton.com: The Digital Library

لړلیک

سرلیک | مخونه

لومړی څپرکي لیمیټ ۱-۴۰

- د لیمیټ مفهوم
- د ښي او کیڼي خوا لیمیټونه
- د لیمیټ خاصیتونه
- د نسبتي تابعګانو لیمیټونه
- د $\frac{\infty}{\infty}$ مبهم شکل
- د $\infty - \infty$ او $0\cdot\infty$ مبهم شکلونه
- د $0^0, \infty^0, 1^\infty$ مبهم شکلونه
- د مثلثاتي تابعګانو لیمیټ
- د تابعګانو متمادیت
- د متمادي تابعګانو خاصیتونه
- د څپرکي لنډیز او پوښتنې

دویم څپرکی مشتقات ۴۱-۸۲

- د یوې تابع مشتق
- د مشتق هندسي تعبیر
- د مشتق قوانین
- د مرکبو تابعګانو مشتق
- د مثلثاتي تابعګانو مشتق
- ضمني مشتقات
- لوړې مرتبه مشتقات
- د څپرکي لنډیز او پوښتنې

دریم څپرکی د مشتق د استعمال ځایونه ۸۳-۱۳۲

- د یوې تابع بحراني ټکی(اعظمي او اصغري)
- د انعطاف د ټکي ټاکل د دویم مشتق څخه په ګټې اخیستنې سره
- د منحنیګانو رسمول
- د توابعو د ګرافونو مجانبونه
- د هوموګرافیک تابعګانو ګراف
- د دریمې درجې یو مجهوله تابع ګراف
- د رول قضیه
- د متوسط قیمت قضیه
- د لوپیټال قاعده
- د بحراني ټکو تطبیق
- د څپرکي لنډیز او پوښتنې

(c) ketabton.com: The Digital Library

سرلیک | مخونه

څلورم څپرکی انتیگرال ۱۳۳-۱۷۲

- د ريمان مجموعه
- د انتيگرال مفهوم
- د غيرمعين انتيگرال خواص
- معين انتيگرال
- د معين انتيگرال خواص
- د مشتق او انتيگرال اساسي قضيې
- په تعويضي طريقې سره انتيگرال نيونه
- قسمي انتيگرالونه
- د څپرکي لنډيز او پوښتنې

پنځم څپرکی د لوګاریتمي او اکسپوننشیل تابعگانو مشتق او انتیگرال ۱۷۳-۱۹۸

- د لوگاريتمي او اکسپوننشيل تابعگانو مشتق
- د معکوسو تابعگانو مشتق
- قسمي کسرونه
- د اکسپوننشيل تابعگانو انتيگرالونه
- د لوگاريتمي تابعگانو انتيگرال
- د قسمي کسرونو په مرسته د انتيگرال محاسبه
- د څپرکي لنډيز او پوښتنې

شپږم څپرکی د انتیگرال تطبیقات ۱۹۹-۲۲۲

- د يوې منحني د محصور شوې سطحې د مساحت محاسبه
- د دوو محصور شويو منحنيگانو ترمنځ د مساحت محاسبه
- د دوراني جسمونو د حجم محاسبه
- د قوس د اوږدوالی محاسبه
- د څپرکي لنډيز او پوښتنې

اووم څپرکی احصائیه ۲۲۳-۲۶۰

- د احتمال د تابع توزيع
- د دوه جملهيي توزيع او د برنولي آزمايښت
- د پواسن د احتمال توزيع
- د نورمال توزيع
- د نورمال توزيع منحني لاندې مساحت او د هغې ستېنډرډ کول
- نمونه اخېستل
- د نمونې د اوسط توزيع
- د مرکزي لېميټ قضيه
- د نمونهيي توزيع نسبت
- د څپرکي لنډيز او پوښتنې

اتم څپرکی احتمالات ۲۶۱-۲۸۲

- پرېکړې او نښتي فضاگانې
- هم چانسه پېښې
- د نښتو يا پيوسته فضاگانو احتمال
- مشروط احتمال
- د حاصل ضرب اصل
- د ناځاپه پېښو استقلاليت
- د څپرکي لنډيز او پوښتنې

(c) ketabton.com: The Digital Library

(c) ketabton.com: The Digital Library

لومړی څپرکی

لیمیټ

(c) ketabton.com: The Digital Library

د لیمیټ مفهوم

په یوه مستوي کې درې دایرې داسې رسم کړئ چې د O ټکي د دایرو متحد مرکز او شعاعګانې یې په ترتیب سره r، $\frac{r}{2}$ او $\frac{r}{4}$ وي، دې عملیې ته نور هم دوام ورکولای شئ؟

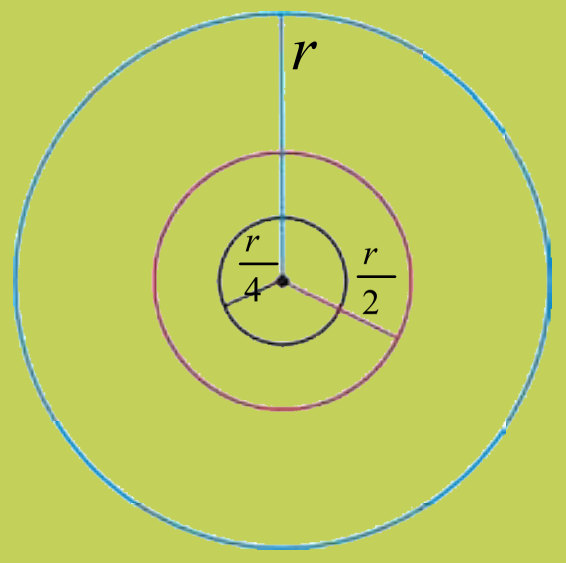

د $a_n = (1+\frac{1}{n})$ او $a_n^* = (1-\frac{1}{n})$ ترادفونه د $n \in IN$ لپاره په پام کې ونیسئ او لاندې فعالیت ترسره کړئ:

- د عددونو په محور باندې د a_1 او a_1^* موقعیت (ځای) وښیئ.
- ویلای شئ، چې د a_2 او a_2^* قیمتونه د $[a_1^*, a_1]$ د فاصلې دننه یا دباندې پراته دي.
- د a_1، a_1^* او a_2، a_2^* منځنی ټکی یو له بل سره پرتله کړئ.
- پورته پراوونو ته په پاملرنې سره ویلای شئ، چې د a_3 او a_3^* د ټکو موقعیت د عددونو پر محور په کوم ځای کې واقع دي.
- آیا ویلای شئ، چې د n د تر ټولو لویو قیمتونو په اخیستلو سره د a_n او a_n^* ردیفونه کومو قیمتونو ته نږدې کېږي؟

له پورتني فعالیت څخه لاندې پایله لیکلای شو:

پایله: لیدل کېږي، چې د a_n ترادف له ښي لوري څخه د 1 او د a_n^* ترادف له کین لوري څخه د 1 عدد ته د n په زیاتېدو سره نږدې کېږي، یعنې:

ـ د a_n ترادف کله چې n بې نهایت ته تقرب وکړي، مساوي په (1) سره کېږي او همداشان د a_n^* د ترادف $n-$ام حد که n بې نهایت ته نږدې شي هم مساوي له (1) سره کېږي.

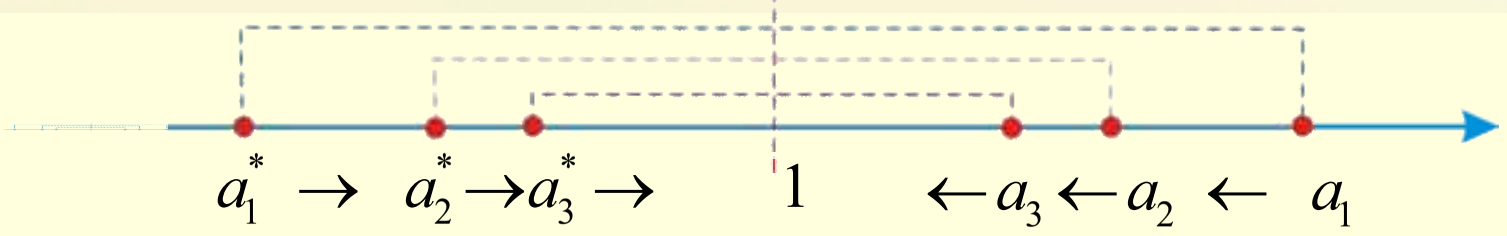

ددې لپاره چې د لیمیټ مفهوم مو ښه څرګند کړی وي، په لومړي پړاو کې هغه په خو ترادفونو کې د ګراف په پام کې نیولو سره تر څېړنې لاندې نیسو.

(c) ketabton.com: The Digital Library

مثال: لاندي ورکړل شوي رديفونه د n د تر ټولو لويو قيمتونو لپاره کوم قيمت ته تقرب کوي يا نږدی کېږي، موضوع په ګرافيکي ډول تشريح کړئ، په داسې حال کې چې:

$$a_n = \left(\frac{2n+3}{n}\right) \;...\; (i) \qquad b_n = \left(\frac{n-1}{n}\right) \;...\; (ii) \qquad c_n = (-1)^n \frac{1}{n} \;...\; (iii)$$

حل: پوهېږو چې د n د بېلابېلو قيمتونو لپاره ګرافيکي ښودنه په لاندې ډول ده.

n	1 , 2 , 3 , 4 , 5 , → ∞
b_n	$0 , \frac{1}{2} , \frac{2}{3} , \frac{3}{4} , \frac{4}{5} , \to 1$

n	1 , 2 , 3 , 4 , 5 , 6 , 7 , → ∞
a_n	$5 , \frac{7}{2} , 3 , \frac{11}{4} , \frac{13}{5} , \frac{15}{6} , \frac{17}{7} , \to 2$

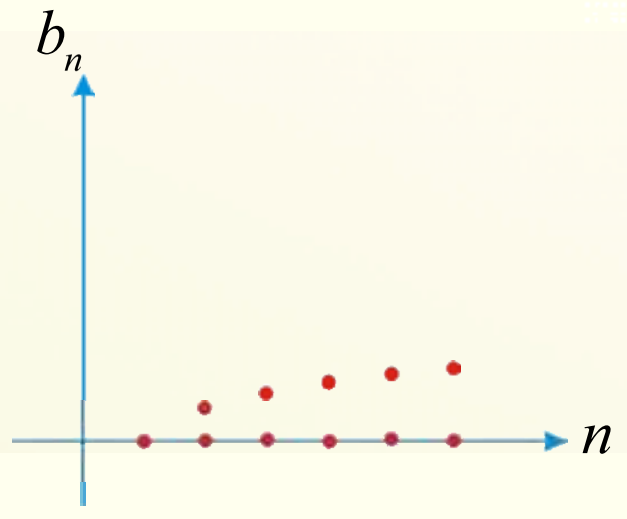

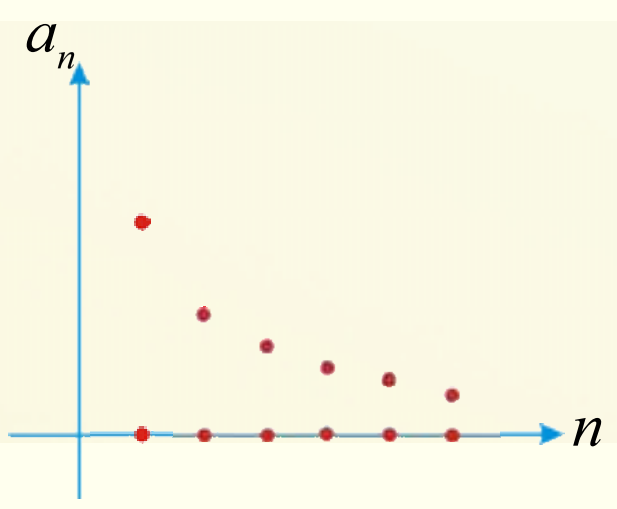

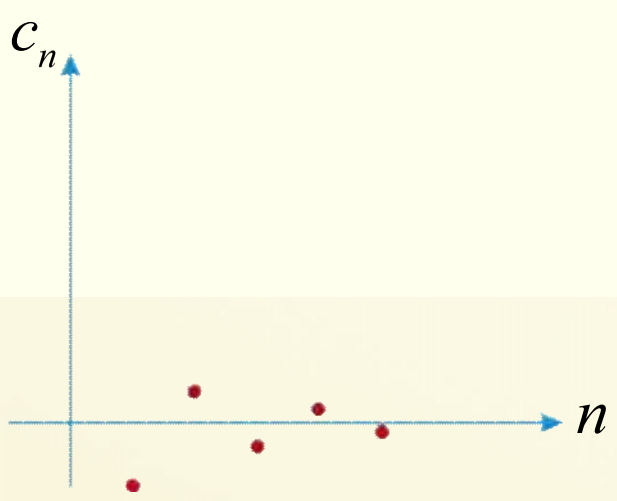

n	1 , 2 , 3 , 4 , 5 , → ∞
c_n	$-1 , \frac{1}{2} , -\frac{1}{3} , \frac{1}{4} , -\frac{1}{5} , \to 0$

له پورتينو ګرافونو څخه ليدل کېږي چې راکړل شوي ترادفونه د n د قيمتونو په زياتېدو سره د ترادفونو قيمت يوه ټاکلې عدد ته نږدې کېږي، لکه د a_n ترادف د 2 عدد ته د b_n ترادف د 1 عدد ته او د c_n ترادف صفر ته تقرب کوي، چې ترادف ته د ډېرو لويو قيمتونو په ورکولو سره موضوع په آسانۍ سره روښانه کېږي.

د ترادف د قيمتونو له جدول څخه د لېميټ قيمت څرګندېږي، د لېميټ په شته والی کې رديف يوه ټاکلې عدد ته نږدې کېږي. دغه ټاکلې عدد ته لېميټ (limit) وايي. چې په lim سره ښودل کېږي.

(c) ketabton.com: The Digital Library

ددې لپاره د $b_n = \frac{n-1}{n}$ ترادف په پام کې نیسو، لرو چې:

n	1	2	3	4	5	6	7	8	9	10	11	...
b_n	0	$\frac{1}{2}$	$\frac{2}{3}$	$\frac{3}{4}$	$\frac{4}{5}$	$\frac{5}{6}$	$\frac{6}{7}$	$\frac{7}{8}$	$\frac{8}{9}$	$\frac{9}{10}$	$\frac{10}{11}$	...

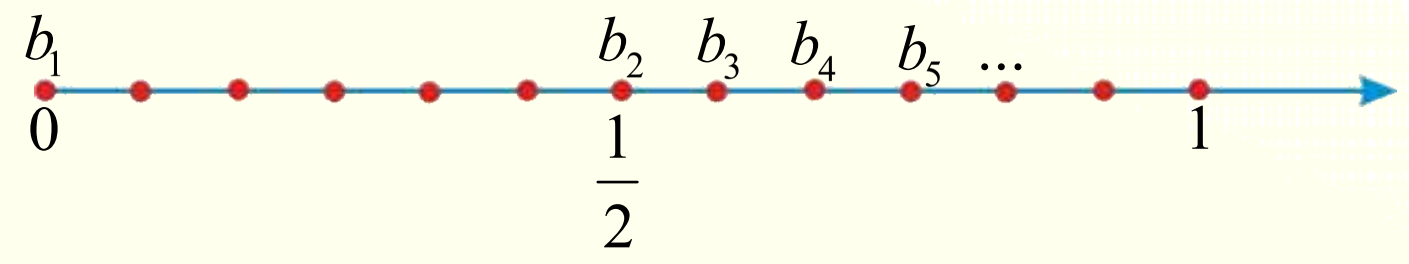

او یــــــاکـــــــه چیــــــــري I .... $\frac{1}{2}, \frac{1}{3}, \frac{1}{4}, \ldots, \frac{1}{n}$ ، II .... $2, \frac{3}{2}, \frac{4}{3}, \frac{5}{4}, \ldots, \frac{n+1}{n}$ او (III) .... $2,4,6, \ldots, 2n$ د عددونو ترادفونه په پام کې ونیسو، لیدل کېږي چې که n د بې نهایت لورې ته نږدې شي، نو د I ترادف صفر ته نږدې کېږي د II ترادف د (1) عدد ته نږدې کېږي د III ترادف د بې‌نهایت(∞) ته نږدې کېږي.

د متحول تقرب: ویل کېږي چې د x متحول د a عدد ته تقرب کوي، په داسې حال کې چې x په اختیاري ډول د a عدد ته نږدې کېږي، یعنې د x او a ترمنځ تفاوت له هر کوچني عدد($\delta > 0$) څخه کوچنی دی یا په لاندې ډول:

$$\forall \delta > 0 : |x-a| < \delta \quad \text{یا} \quad \lim_{x \to a} x = a \quad \text{یا} \quad x \to a \quad \text{یا} \quad |x-a| \to 0$$

له ښي لوري د متحول تقرب: ($x \to a^+$) که چیرې د x د قیمتونو یو متناقص ترادف موجود وي په داسې حال کې چې په تدریجي ډول د a اختیاري عدد ته نږدې شي.

$$x: \ a+0.1, \ a+0.01 \ , \ a+0.001 \ , \ a+0.0001 \ , \ \ldots \to a^+$$

له کیڼ لوري د متحول تقرب: ($x \to a^-$) که چیرې د x د قیمتونو یو متزاید ترادف موجود وي په داسې حال کې چې x په تدریجي ډول د a اختیاري عدد ته نږدې شي.

$$x: \ a-0.1, \ a-0.01 \ , \ a-0.001 \ , \ a-0.0001 \ , \ \ldots \to a^-$$

نو د x د متحول تقرب د a عدد ته معادل دی د x د متحول تقرب له ښي لوري او د x د متحول تقرب له چپ لوري؛ یعنې:

$$x \to a \iff (x \to a^+ \ , \ x \to a^-)$$

(c) ketabton.com: The Digital Library

لومړی بېلګه: د x متحول د 9 عدد ته نږدې کړئ یا په بل عبارت د $x \to 9$ مفهوم توضیح کړئ.

حل:

$x: 9.1 \ , \ 9.01 \ , \ 9.001 \ , \ 9.0001 \ , \ \ldots \ \to 9^+$

$x: 8.9 \ , \ 8.99 \ , \ 8.999 \ , \ 8.9999 \ , \ \ldots \to 9^-$

تعریف: که چیرې د $f(x)$ تابع په یوه غیر ترلي انټروال کې چې د a عدد په هغې کې ګډون لري کیدای شي چې تابع په a کې نه وي تعریف شوی. که چیرې د x متحول د a عدد ته نږدې شي نو د $f(x)$ تابع د l عدد ته نږدې کېږي، نو ویل کېږي چې د $f(x)$ تابع لیمیټ عبارت له l څخه دی، کله چې د x متحول د a عدد ته تقرب وکړي نو داسې یې لیکو: $\lim\limits_{x \to a} f(x) = l$ یا $\begin{matrix} x \to a \\ f(x) \to l \end{matrix}$

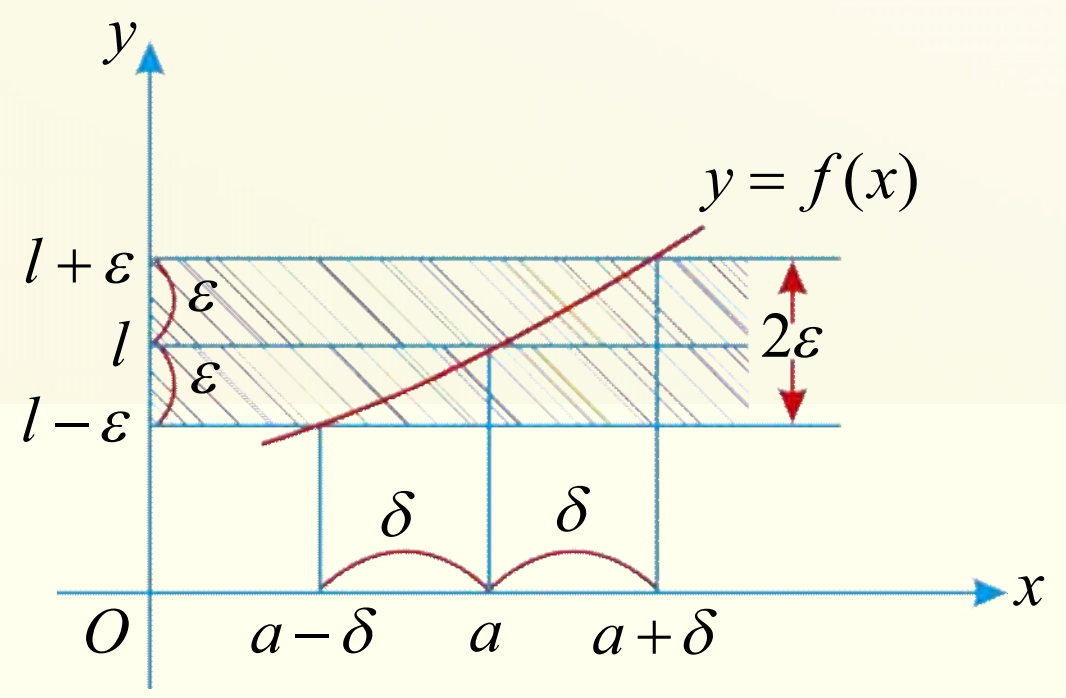

$$\forall \varepsilon > 0 \quad \exists \delta > 0 \ : |x - a| < \delta \ \Rightarrow \ |f(x) - l| < \varepsilon$$

$$\lim_{x \to a} f(x) = l \ \Leftrightarrow \ (|x - a| \to 0 \Rightarrow |f(x) - l| \to 0)$$

پوښتنه

د $f(x) = 2x$ تابع کې په ګرافیکي ډول وښیئ چې که x د (3) عدد ته نږدې شي $f(x)$ له (6) سره مساوي کېږي.

(c) ketabton.com: The Digital Library

د ښي او کيڼ خوا لیمیټونه

مخامخ تصویر ته پاملرنه وکړئ ووایئ چې مخامخ ونې ته له کومو خواوو څخه نږدې کېدای شو.

فعالیت

په لاندې جدول کې د $x \neq 1$ ، $f(x)=\dfrac{x^2-1}{x-1}$ ته ځینې قیمتونه ورکړل شوي.

x	0.98	0.99	0.999	?	1.001	1.01	1.02
$f(x)$	1.98	1.99	1.999	?	2.001	2.01	2.02

$\longrightarrow \qquad \longleftarrow$

- د تابع ګراف رسم کړئ.
- که x د (1) عدد ته نږدې شي، نو $f(x)$ کوم عدد ته نږدې کېږي.

د پورتني فعالیت څخه لاندې پایله لیکلای شو:

د ښي خوا لیمټ: د $f(x)$ تابع د a په عدد کې د ښي لوري l_1 لیمیټ لري که چیرې د هر $\varepsilon > 0$ لپاره یو کوچنی عدد د $\delta > 0$ موجود وي داسې چې که: $x \in (a, a+\delta) \Rightarrow f(x) \in (l_1-\varepsilon, l_1+\varepsilon)$ یا

$$\lim_{\substack{x\to a \\ x>a}} f(x) = \lim_{x\to a^+} f(x) = l_1$$

د کیڼ خوا لیمیټ: د $f(x)$ تابع د a په عدد کې د کیڼ لوري l_2 لیمیټ لري که چیرې د هر $\varepsilon > 0$ لپاره د $\delta > 0$ یو عدد پیدا شي داسې چې $x \in (a-\delta, a) \Rightarrow f(x) \in (l_2-\varepsilon, l_2+\varepsilon)$ یا

$$\lim_{\substack{x\to a \\ x<a}} f(x) = \lim_{x\to a^-} f(x) = l_2$$

د $f(x)$ تابع هغه وخت چې $x \to a$ ته نږدې شي د l لیمیټ لري، یعنې: $\lim_{x\to a} f(x) = l$ په دې شرط چې:

$$\lim_{x\to a^-} f(x) = l = \lim_{x\to a^+} f(x)$$

(c) ketabton.com: The Digital Library

دویمه بېلګه: و ښیئ چې $\lim_{x\to 3}\frac{x^2-9}{x-3}=6$ سره دی.

حل: د ښي او کیڼې خوا لیمیټونه تر څېړنې لاندې نیسو:

x	3.5	3.1	3.01	3.001	...	3^+
$f(x)$	6.5	6.1	6.01	6.001	...	6

$$\Rightarrow \lim_{x\to 3^+}\frac{x^2-9}{x-3}=6$$

x	2.5	2.9	2.99	2.999	...	3^-
$f(x)$	5.5	5.9	5.99	5.999	...	6

$$\Rightarrow \lim_{x\to 3^-}\frac{x^2-9}{x-3}=6$$

لیدل کېږي چې د ښی خوا او کیڼې خوا لیمیټونه سره مساوي دي، نو $\lim_{x\to 3}=\frac{x^2-9}{x-3}=6$ دي.

دویمه طریقه: د لیمیټ د تعریف په پام کې نیولو سره فرضوو چې د هر اختیاري کوچني عدد ε لپاره یو δ شتون لري داسې چې:

$$\forall\varepsilon>0 \quad \exists\delta>0 : \ |x-a|<\delta \ \Rightarrow \ |f(x)-l|<\varepsilon$$

$$|x-3|<\delta \ \Rightarrow \left|\frac{x^2-9}{x-3}-6\right|=\left|\frac{(x-3)(x+3)}{x-3}-6\right|=|x+3-6|=|x-3|<\varepsilon$$

$$\Rightarrow \varepsilon=\delta$$

له پورتنی اړیکې څخه دا معلومېږي چې ε له δ سره اړیکه لري، که δ ته قیمت ورکړو ε قیمت اخلي او که ε ته قیمت ورکړو δ قیمت اخلي، بنا پر دې هغه تعریف چې د لیمیټ لپاره موجود دی سم دی او تابع لیمیټ لري، یعني: $\lim_{x\to 3}\frac{x^2-9}{x-3}=6$

پوښتنه

وښیئ چې د $f(x)=\frac{|x-2|}{x-2}$ تابع کله چې $x\to 2$ لیمیټ نه لري.

(c) ketabton.com: The Digital Library

د لیمیټ خاصیتونه (Properties of Limit)

د مخامخ مساوات دلیمیټونو دواړه خواوې کله چې $x \to -1$ وکړي، سره مساوي دي او که نه؟

$$\lim_{x\to -1}(x^2 \pm x) = \lim_{x\to -1} x^2 \pm \lim_{x\to -1} x$$

فعالیت

ددې فعالیت د سرته رسولو لپاره لاندې پوښتنو ته ځوابونه پیداکړئ:

- که x د 2 عدد ته نږدې شي، نو د $f(x) = x + 2$ تابع لیمیټ به څو وي؟
- که $x \to 3$ ته تقرب وکړي، نو د $g(x) = 2x$ تابع لیمیټ پیداکړئ.
- $\lim_{x\to 2} f(x) \pm \lim_{x\to 2} g(x)$ پیداکړئ.
- $\lim_{x\to 2} f(x) \cdot \lim_{x\to 2} g(x)$ پیداکړئ.
- $\lim_{x\to 2} f(x) \div \lim_{x\to 2} g(x)$ پیداکړئ.

له پورتنی فعالیت څخه لاندې پایلې لیکلای شو:

که $\lim_{x\to a} f(x) = A$ او $\lim_{x\to a} g(x) = B$ وي، نو:

1) $\lim_{x\to a} Kf(x) = K\lim_{x\to a} f(x) = KA$

2) $\lim_{x\to a}[f(x) \pm g(x)] = \lim_{x\to a} f(x) \pm \lim_{x\to a} g(x) = A \pm B$

3) $\lim_{x\to a}[f(x)\cdot g(x)] = \lim_{x\to a} f(x)\cdot \lim_{x\to a} g(x) = A\cdot B$

4) $\lim_{x\to a}\left[\dfrac{f(x)}{g(x)}\right] = \dfrac{\lim_{x\to a} f(x)}{\lim_{x\to a} g(x)} = \dfrac{A}{B}\ ,\ \lim_{x\to a} g(x) = B \neq 0$

5) $\lim_{x\to a}\sqrt[n]{f(x)} = \sqrt[n]{\lim_{x\to a} f(x)} = \sqrt[n]{A}\ ,\ \lim_{x\to a} f(x) = A \geq 0$

له پورتنیو خواصو څخه درې خاصیتونه ثبوتوو او پاتې یې د زده‌کوونکو کورنی دنده ده.

بې نهایت کوچنی تابعګاني: د $\varepsilon(x)$ تابع کله چې $x \to a$ ته نږدې شي بې نهایت کوچنی بللې کېږي، که چیرې $\lim_{x\to a}\varepsilon(x) = 0$ وي.

(c) ketabton.com: The Digital Library

(c) ketabton.com: The Digital Library

1- ددې لپاره چې $\lim_{x\to a} f(x)=b$ سره شي، لازم او کافي ده چې د $f(x)$ تابع د یوه ثابت عدد b او یوې بې نهایت کوچني تابع $\varepsilon(x)$ کله چې $x\to a$ د مجموعې په حیث وښودل شي، یعنې:

$$\left.\begin{aligned} f(x)&=b+\varepsilon(x)\\ \lim_{x\to a}\varepsilon(x)&=0\end{aligned}\right\} \Leftrightarrow \lim_{x\to a} f(x)=b$$

2- که چیرې $\varepsilon(x)$ ، $x\to a$ ته نږدې شي، بې نهایت کوچنۍ تابع وي، خو صفر نه وي، نو $\lim_{x\to a}\frac{1}{\varepsilon(x)}=\infty$

د بې نهایت کوچنۍ تابعګانو مجموعه بیا هم یوه بې نهایت کوچنۍ تابع ده.

3- د بې نهایت کوچنیو تابعګانو د ضرب حاصل بیا هم یوه بې نهایت کوچنۍ تابع ده.

4- که چیرې $\varepsilon(x)$ یوه بې نهایت کوچنۍ تابع او $u(x)$ داسې یوه تابع وي چې لیمیټ یې صفر نه وي، نو د $v(x)=\frac{\varepsilon(x)}{u(x)}$ تابع یوه بې نهایت کوچنۍ تابع ده.

مثال:

I) د $\varepsilon(x)=x^2-9$ تابع کله چې $x\to 3$ ، یوه بې نهایت کوچنۍ تابع ده ځکه چې:

$$\lim_{x\to 3}(x^2-9)=0$$

II) $\varepsilon(x)=\frac{1}{2x}$ تابع کله چې $x\to\infty$ ته نږدې شي بې نهایت کوچنۍ تابع ده:

$$\lim_{x\to\infty}\varepsilon(x)=\lim_{x\to\infty}\frac{1}{2x}=0$$

مثالونه: د تېرو خاصیتونو په مرسته لاندې سوالونه حل کړئ.

$$1)\ \lim_{x\to 2}(2x^2-1)=\lim_{x\to 2}2x^2-\lim_{x\to 2}1=2\lim_{x\to 2}x^2-\lim_{x\to 2}1=2\cdot 2^2-1=7$$

$$2)\ \lim_{x\to -3}(x-1)^2=\lim_{x\to -3}(x-1)\cdot\lim_{x\to -3}(x-1)=(-4)(-4)=16$$

$$3)\ \lim_{x\to 0}\frac{4x-3}{x+1}=\frac{\lim_{x\to 0}4x-\lim_{x\to 0}3}{\lim_{x\to 0}x+\lim_{x\to 0}1}=\frac{0-3}{0+1}=-3$$

د پورتنیو مثالونو له حل څخه د لیمیټ یو خاصیت داسې بیان او ثبوو:

1. د څو تابعګانو د مجموعې لیمیټ د نومورو هرې تابع د لیمیټونو له مجموعې سره مساوي دي، یعنې: که چیرې د $f(x_1), f(x_2)$ تابعګانې وي، نو لرو چې:

$$\lim_{x\to a}\left[f(x_1)+f(x_2)\right]=\lim_{x\to a}f(x_1)+\lim_{x\to a}f(x_2)$$

ثبوت: که $\lim_{x\to a}f(x_2)=b_2$ ، $\lim_{x\to a}f(x_1)=b_1$ او ε_1 او ε_2 بې نهایت کوچنۍ تابعګانې وي، نو:

$$\lim_{x\to a}\left[f(x_1)\pm f(x_2)\right]=b_1\pm b_2$$

$$\left.\begin{aligned} f(x_1)&=b_1+\varepsilon_1\ \ .....\ I\\ f(x_2)&=b_2+\varepsilon_2\ \ .....\ II\end{aligned}\right\}\Rightarrow f(x_1)\pm f(x_2)=(b_1+\varepsilon_1)\pm(b_2+\varepsilon_2)=b_1\pm b_2+(\varepsilon_1\pm\varepsilon_2)$$

ځرنګه چې $(\varepsilon_1 \pm \varepsilon_2)$ د بې نهایت کوچنیو تابعګانو مجموعه او تفاضل ده او د بې نهایت کوچنیو تابعګانو مجموعه او تفاضل بیاهم یوه بې نهایت کوچنۍ تابع ده، نو:

$$\lim_{x\to a}\left[f(x_1)\pm f(x_2)\right]=b_1\pm b_2=\lim_{x\to a}f(x_1)\pm\lim_{x\to a}f(x_2)$$

2. د دوو یا څو تابعګانو د ضرب د حاصل لیمیټ د نوموړو تابعګانو د لیمیټونو د ضرب له حاصل سره مساوي دی:

ثبوت:

$$\lim_{x\to a}\left[f(x_1)\cdot f(x_2)\right]=\lim_{x\to a}f(x_1)\cdot\lim_{x\to a}f(x_2)=b_1\cdot b_2$$

$$\left.\begin{array}{l} f(x_1)=b_1+\varepsilon_1 \\ f(x_2)=b_2+\varepsilon_2 \end{array}\right\}\Rightarrow f(x_1)\cdot f(x_2)=(b_1+\varepsilon_1)(b_2+\varepsilon_2)$$

$$f(x_1)\cdot f(x_2)=b_1\cdot b_2+b_1\cdot\varepsilon_2+b_2\cdot\varepsilon_1+\varepsilon_1\cdot\varepsilon_2$$

ځرنګه چې ε_1 او ε_2 ډېر کوچنی عددونه دي، نو د ضرب حاصل یې د b_1 او b_2 سره او همداشان په خپلو کې بې‌نهایت کوچنی کېږي، نو:

$$\lim_{x\to a}\left[f(x_1)\cdot f(x_2)\right]=b_1\cdot b_2=\lim_{x\to a}f(x_1)\cdot\lim_{x\to a}f(x_2)$$

3. د دوو تابعګانو د نسبت لیمیټ د هغو تابعګانو د لیمیټونو له نسبت څخه عبارت دی؛ لکه په لاندې ډول:

$$\lim_{x\to a}\frac{f(x)}{g(x)}=\frac{\lim_{x\to a}f(x)}{\lim_{x\to a}g(x)}=\frac{b_1}{b_2}\quad,\quad g(x)=b_2\neq 0$$

ثبوت:

$$\left.\begin{array}{l} f(x)=b_1+\varepsilon_1 \\ g(x)=b_2+\varepsilon_2 \end{array}\right\}\Rightarrow\frac{f(x)}{g(x)}=\frac{b_1+\varepsilon_1}{b_2+\varepsilon_2}$$

د مساوات له دواړو خواوو څخه $\frac{b_1}{b_2}$ تفریق کوو:

$$\frac{f(x)}{g(x)}-\frac{b_1}{b_2}=\frac{b_1+\varepsilon_1}{b_2+\varepsilon_2}-\frac{b_1}{b_2}=\frac{b_2(b_1+\varepsilon_1)-b_1(b_2+\varepsilon_2)}{b_2(b_2+\varepsilon_2)}$$

$$=\frac{b_2b_1+b_2\varepsilon_1-b_1b_2-b_1\varepsilon_2}{b_2(b_2+\varepsilon_2)}=\frac{b_2\varepsilon_1-b_1\varepsilon_2}{b_2(b_2+\varepsilon_1)}$$

$$\Rightarrow\frac{f(x)}{g(x)}=\frac{b_2\varepsilon_1-b\varepsilon_2}{b_2(b_2+\varepsilon_2)}+\frac{b_1}{b_2}=\frac{b_2\varepsilon_1-b_1\varepsilon_2+b_1b_2+b_1\varepsilon_2}{b_2(b_2+\varepsilon_2)}$$

$$=\frac{b_2(b_1+\varepsilon_1)}{b_2(b_2+\varepsilon_2)}=\frac{b_1+\varepsilon_1}{b_2+\varepsilon_2}\quad\Rightarrow\frac{f(x)}{g(x)}=\frac{b_1+\varepsilon_1}{b_2+\varepsilon_2}$$

(c) ketabton.com: The Digital Library

خرنگه چې ε_1 او ε_2 ډېرې کوچنۍ مثبت عددونه($0<\varepsilon<1$)دي، نو کله چې $x \to a$ وکړي صفر کېږي او په پایله کې په لاس راځي، چې:

$$\lim_{x\to a}\frac{f(x)}{g(x)}=\frac{\lim_{x\to a}f(x)}{\lim_{x\to a}g(x)}=\frac{b_1}{b_2}$$

د ساندویچ قضیه: که چیرې د $f(x), g(x)$ او $h(x)$ تابعګانې د هر x لپاره په یوه غیر تړلي انټروال کې چې د a عدد په کې شامل دی(ولو که $x \neq a$) او $f(x)\le g(x)\le h(x)$ شرط صدق وکړي په هغه صورت کې چې $\lim_{x\to a}f(x)=b=\lim_{x\to a}h(x)$ وي، نو $\lim_{x\to a}g(x)=b$ دی.

مثال: که د $u(x)$ تابع دغه خاصیت($1-\frac{x^2}{4}\le u(x)\le 1+\frac{x^2}{2}$) ولري، نو $\lim_{x\to a}u(x)$ په لاس راوړئ.

حل: لیدل کېږي چې $\lim_{x\to 0}(1+\frac{x^2}{2})=1=\lim_{x\to 0}(1-\frac{x^2}{4})$ نو د ساندویچ د قضیې په پام کې نیولو سره لرو چې:

$$\lim_{x\to 0}u(x)=1$$

قضیه: که چیرې $f(x)$ او $g(x)$ داسې تابعګانې وي چې $f(x)<g(x)$ نو د لیمیټ د شتون په صورت کې یې لمیټ $\lim_{x\to a}f(x)\le\lim_{x\to a}g(x)$ سره دی.

مثال: د $f(x)=\frac{15x-4}{5x+6}$ او $g(x)=\frac{15x+4}{5x-6}$ تابعګانې په پام کې نیسو په واضح ډول معلومېږي چې $f(x)<g(x)$ دی، د $x>1$ لپاره لرو:

حل:

$$\lim_{x\to\infty}f(x)=\lim_{x\to\infty}\frac{15x-4}{5x+6}=\frac{15}{5}=3$$

$$\lim_{x\to\infty}g(x)=\lim_{x\to\infty}\frac{15x+4}{5x-6}=\frac{15}{5}=3$$

پوښتنې

لاندې لیمیټونه د امکان په صورت کې پیدا کړئ.

1) $\lim_{x\to 0}6x^3-2x^2+5x+3$ 2) $\lim_{x\to -1}x^7-2x-5$ 3) $\lim_{x\to 0}\frac{(9x+2)^2-4}{x}$

4) $\lim_{x\to 0}\frac{5x^2+7x}{(2x-5)^2-9}$ 5) $\lim_{x\to 2}\sqrt{x-2}$ 6) $\lim_{x\to 1}\frac{2x}{x^2-4x+1}$

(c) ketabton.com: The Digital Library

د نسبتي تابعګانو لیمیټونه

آیا پوهیږئ چې مخامخ اریکې په څه نامه یادیږي؟

$\frac{0}{0}, \frac{\infty}{\infty}$

$\infty - \infty$

$0 \cdot \infty$

فعالیت

- د $y = x^2 - 1$ تابع لیمیټ هغه وخت پیداکړئ، چې $x \to -2$ ته تقرب وکړي.
- د $y = \frac{x^2 - 1}{x - 1}$ تابع لیمیټ هغه وخت پیداکړئ، چې $x \to 1$ ته تقرب وکړي.
- د $y = \frac{x^2 - 1}{x + 1}$ تابع لیمیټ هغه وخت پیداکړئ، چې $x \to \infty$ ته تقرب وکړي.

له پورتني فعالیت څخه لاندې پایله لیکلای شو:

پایله

- د ځینو تابعګانو لیمیټ مستقیماً د قیمت په وضع کولو سره لاسته راځي.
- د ځینو تابعګانو لیمیټ مبهم شکلونه لري؛ لکه $\frac{0}{0}, \frac{\infty}{\infty}, \infty - \infty, 0 \cdot \infty \ldots$ چې د ابهام د له منځه وړلو څخه وروسته د تابع لیمیټ لاسته راځي، چې په لاندې ډول یې تر ځیړنې لاندې نیسو:

I- د $\frac{0}{0}$ **بڼه**:

فعالیت

- د $f(x) = \frac{x - 1}{x^2 - 1}$ تابع قیمت د $x = -1$ په نقطه کې وځیړئ.
- د $f(x)$ تابع لیمیټ کله چې $x \to 1$ وي د ابهام کومه بڼه لري.
- آیا د $f(x)$ تابع په داسې ډول ساده کولای شو چې د $x = 1$ لپاره یو معین قیمت ولري؟

د پورتني فعالیت پایله داسې بیانوو:

که چیرې یوه تابع د $\frac{0}{0}$ په شکل مبهمه بڼه ولري، د لیمیټ د پیداکولو لپاره یې لومړی تابع د تجزیې په مرسته ساده کوو د ابهام عامل(خبیثه فکتور) له منځه وړو او بیا یې د لیمیټ قیمت په لاس راوړو.

(c) ketabton.com: The Digital Library

مثال: لاندې لېمیټونه پیدا کړئ.

$$1)\ \lim_{x\to -2}\frac{x^2-4}{x+2}\quad,\quad 2)\ \lim_{x\to 2}\frac{x^2-6x+8}{x-2}\quad,\quad 3)\ \lim_{x\to 16}\frac{\sqrt{x}-4}{x-16}$$

حل: لومړی د لېمیټ بڼه ټاکو:

$$1)\ \lim_{x\to -2}\frac{x^2-4}{x+2}=\frac{(-2)^2-4}{-2+2}=\frac{0}{0}$$

څرنګه چې پاسنې لېمیټونه د $\frac{0}{0}$ بڼه لري، نو د تجزیې په مرسته یې وروسته له ساده کولو څخه د لېمیټ قیمت په لاندې ډول په لاس راوړو:

$$\Rightarrow \lim_{x\to -2}\frac{(x-2)(x+2)}{(x+2)}=\lim_{x\to -2}(x-2)=-2-2=-4$$

$$2)\ \lim_{x\to 2}\frac{x^2-6x+8}{x-2}=\frac{2^2-12+8}{2-2}=\frac{0}{0}$$

حل: بیا هم لېمیټ د $\frac{0}{0}$ مبهم شکل لري:

$$\Rightarrow \lim_{x\to 2}\frac{(x-2)(x-4)}{x-2}=\lim_{x\to 2}(x-4)=2-4=-2$$

$$3)\ \lim_{x\to 16}\frac{\sqrt{x}-4}{x-16}=\frac{0}{0}$$

حل: لیدل کېږي چې نوموړی لېمیټ بیا هم د $\frac{0}{0}$ بڼه لري، نو د لېمیټ د لاسته راوړلو لپاره د کسر صورت او مخرج د صورت په مزدوج کې ضربوو:

$$\Rightarrow \lim_{x\to 16}\frac{\sqrt{x}-4}{x-16}\cdot\frac{\sqrt{x}+4}{\sqrt{x}+4}=\lim_{x\to 16}\frac{(x-16)}{(x-16)(\sqrt{x}+4)}$$

$$=\lim_{x\to 16}\frac{1}{\sqrt{x}+4}=\frac{1}{8}$$

پوښتنې

$$1)\ \lim_{x\to 3}\frac{3-x}{\sqrt{x+1}-2}=?\qquad 2)\ \lim_{x\to 1}\frac{\frac{5}{2x-3}+5}{x^2-1}=?\qquad 3)\ \lim_{x\to 4}\frac{x-4}{\sqrt{x}-2}=?$$

$$4)\ \lim_{x\to 2}\frac{\frac{2x}{x^2+1}-\frac{4}{5}}{x-2}=?\qquad 5)\ \lim_{x\to 0}\frac{\frac{1}{x+3}-\frac{1}{3}}{x}=?$$

(c) ketabton.com: The Digital Library

II- د $\frac{\infty}{\infty}$ مبهم شکل

آیا د مخامخ تابع لېمیټ ټاکلی شئ؟

$$\lim_{x\to\infty}\frac{x^3-3x+8}{2x^2-2}$$

فعالیت

- د $f(x)=2x^4+x^3-4x-1$ د تابع لېمیټ چې $x\to\infty$ وڅېړئ.
- د $g(x)=x^3-2x-4$ د تابع لېمیټ چې $x\to\infty$ وڅېړئ.
- د $y=\frac{5}{x-2}$ د تابع لېمیټ چې $x\to\infty$ وڅېړئ.
- د $\frac{f(x)}{g(x)}$ د تابع لېمیټ هغه وخت په لاس راوړئ، چې $x\to 0$ وکړي.
- د $\frac{f(x)}{g(x)}$ د تابع لېمیټ هغه وخت په لاس راوړئ، چې $x\to\infty$ وکړي.

له پاسنی فعالیت څخه لاندې پایله په لاس راځي:

پایله: هغه توابع چې د $\frac{\infty}{\infty}$ بڼه ولري د لېمیټ د پیداکولو لپاره یې داسې کړنه کوو:

د تابع صورت او مخرج په هغه متحول، چې تر ټولو لوی توان ولري وېشو، وروسته له ساده کولو څخه یې لېمیټ په لاس راځي.

لومړی مثال: $\lim_{x\to\infty}\frac{x^2-1}{3x^2-2}$ پیداکړئ.

حل: لومړی د لېمیټ بڼه ټاکو:

$$\lim_{x\to\infty}\frac{x^2-1}{3x^2-2}=\frac{\infty-1}{\infty-2}=\frac{\infty}{\infty}$$

(c) ketabton.com: The Digital Library

څرنګه چې پوښتنه د $\frac{\infty}{\infty}$ شکل لري، نو صورت او مخرج په x^2 باندې وېشو:

$$\lim_{x\to\infty}\frac{x^2-1}{3x^2-2}=\lim_{x\to\infty}\frac{\frac{x^2}{x^2}-\frac{1}{x^2}}{\frac{3x^2}{x^2}-\frac{2}{x^2}}=\lim_{x\to\infty}\frac{1-\frac{2}{x^2}}{3-\frac{2}{x^2}}=\frac{1-\frac{1}{\infty}}{3-\frac{2}{\infty}}=\frac{1-0}{3-0}=\frac{1}{3}$$

دویم مثال: د $\lim_{x\to\infty}\frac{x^2-2}{x-2}$ پیدا کړئ.

حل: $\lim_{x\to\infty}\frac{x^2-2}{x-2}=\frac{\infty}{\infty}$

څرنګه چې پوښتنه د $\frac{\infty}{\infty}$ شکل لري، نو صورت او مخرج د x له ټولو په لوړ توان وېشو:

$$\lim_{x\to\infty}\frac{x^2-2}{x-2}=\lim_{x\to\infty}\frac{\frac{x^2}{x^2}-\frac{2}{x^2}}{\frac{x}{x^2}-\frac{2}{x^2}}=\lim_{x\to\infty}\frac{1-\frac{2}{x^2}}{\frac{1}{x}-\frac{2}{x^2}}=\frac{1-\frac{2}{\infty}}{\frac{1}{\infty}-\frac{2}{\infty}}=\frac{1-0}{0}=\frac{1}{0}=\infty$$

دریم مثال: $\lim_{x\to\infty}\frac{x-1}{x^2-2}$ پیدا کړئ.

حل: $\lim_{x\to\infty}\frac{x-1}{x^2-2}=\frac{\infty}{\infty}$

څرنګه چې پوښتنه $\frac{\infty}{\infty}$ شکل لري، نو صورت او مخرج د x له ټولو په لوړ توان وېشو:

$$\lim_{x\to\infty}\frac{x-1}{x^2-2}=\lim_{x\to\infty}\frac{\frac{x}{x^2}-\frac{1}{x^2}}{\frac{x^2}{x^2}-\frac{2}{x^2}}=\lim_{x\to\infty}\frac{\frac{1}{x}-\frac{1}{x^2}}{1-\frac{2}{x^2}}=\frac{\frac{1}{\infty}-\frac{1}{\infty}}{1-\frac{2}{\infty}}=\frac{0}{1-0}=\frac{0}{1}=0$$

یادونه: هغه تابعګانې چې د $\frac{\infty}{\infty}$ بڼه ولري، پرته له دې چې عملیه پرې سرته ورسوو کولای شو، په لاندې ډول د هغوی لیمیټ په لاس راوړو:

(c) ketabton.com: The Digital Library

د $f(x)=\dfrac{a_0x^m+a_1x^{m-1}+...+a_m}{b_0x^n+b_1x^{n-1}+...+b_n}$ تابع په پام کې ونیسئ که چیرې ($x\to\infty$) کړی وي؛ نو دلته درې حالتونه ممکن دي:

1- د $m=n$ لپاره د نومورې کسر لیمیټ عبارت دی له $\dfrac{a_0}{b_0}$.

2- د $m<n$ لپاره د نومورې کسر لیمیټ عبارت له صفر څخه دی.

3- د $m>n$ لپاره د نومورې کسر لیمیټ عبارت له $\pm\infty$ څخه دی.

څلورم مثال: لاندې لیمیټونه پیدا کړئ.

1) $\lim\limits_{x\to\infty}\dfrac{5x^2+6x^4-x^3+x-1}{-x^4+2x^2-3}$ 2) $\lim\limits_{x\to 3}\dfrac{-8+6x^3-x^2+x}{5x^3-x^4+6x-1}$ 3) $\lim\limits_{x\to\infty}\dfrac{3x^2-2}{x+1}$

حل:

1- څرنګه چې $m=n$ دی، نو:

$$\lim_{x\to\infty}\frac{5x^2+6x^4-x^3+x-1}{-x^4+2x^2-3}=\lim_{x\to\infty}\frac{6x^4}{-x^4}=-6$$

2- څرنګه چې $m<n$ دی، نو د نومورې تابع لیمیټ صفر دی.

$$\lim_{x\to\infty}\frac{-8+6x^3-x^2+x}{5x^3-x^4+6x-1}=0$$

3- څرنګه چې $m>n$ دی، نو د نومورې تابع لیمیټ مساوي له ∞ سره دی:

$$\lim_{x\to\infty}\frac{3x^2-2}{x+1}=\infty$$

یادونه: زده‌کوونکي دې ورکړل شوي ځوابونه په کورکې د عملیې د سرته رسولو څخه وروسته په لاس راوړي.

(c) ketabton.com: The Digital Library

(c) ketabton.com: The Digital Library

پوښتني

لاندې لېمیټونه پیدا کړئ؟

1) $\lim\limits_{x\to\infty} \dfrac{6}{x^2 - x}$

2) $\lim\limits_{x\to\infty} \dfrac{x^4 + x^2 + x + 6}{x^3 - 3x + 4}$

3) $\lim\limits_{x\to\infty} \dfrac{x^5 + x^2 - x + 9}{x^4 + x^2 - x + 5}$

4) $\lim\limits_{x\to\infty} \dfrac{x^3 + x^2 - x + 7}{x^3 - x + 5}$

5) $\lim\limits_{x\to\infty} \dfrac{3x^2 - 2}{x + 1}$

III- د $(\infty-\infty)$ او $(0\cdot\infty)$ مبهم شکلونه

د مخامخ لیمیټونو قیمتونو پیداکړئ.

$$\lim_{x\to2}\frac{1}{x^2-4}-\frac{x-1}{x^2-4}$$

$$\lim_{x\to3}(x^2-9)\cdot\frac{2x^3-4}{x-3}$$

فعالیت

- د $a+1$ مزدوج ولیکئ.
- د $\sqrt{x}-1$ مزدوج ولیکئ.
- د $f(x)=\sqrt{x}-\sqrt{x+1}$ لیمیټ پیداکړئ، کله چې $x\to\infty$ تقرب وکړي.
- د $f(x)=(2x-1)(x+1)$ تابع لیمیټ وټاکئ، کله چې $x\to\infty$ تقرب وکړي.

له پورتني فعالیت څخه پایله داسې بیانوو:

د هغو تابعګانو چې د $(\infty-\infty)$ او $(0\cdot\infty)$ مبهم شکلونه ولري، د لیمیټ د پیداکولو لپاره یې د کسرونو له جمع کولو، ضرب او مزدوج څخه ګټه اخلو او هغه داسې ساده کوو، تر څو چې د $\frac{0}{0}$ او یا $\frac{\infty}{\infty}$ بڼه غوره کړي، وروسته یې لیمیټ په لاس راورو.

مثال: لاندې لیمیټونه پیداکړئ.

1) $\lim_{x\to1}(\frac{9}{x-1}-\frac{8x+10}{x^2-1})=?$ 2) $\lim_{x\to1}(x-1)(\frac{1}{x^2+2x-3})=?$

حل 1:

$$\lim_{x\to1}(\frac{9}{x-1}-\frac{8x+10}{x^2-1})=\frac{9}{1-1}-\frac{8\cdot1+10}{1^2-1}=\frac{9}{0}-\frac{18}{0}=\infty-\infty$$

څرنګه چې نومړی لیمیټ د $(\infty-\infty)$ بڼه لري نو لیکلای شو، چې:

$$=\lim_{x\to1}\frac{9x+9-8x-10}{x^2-1}=\lim_{x\to1}\frac{x-1}{x^2-1}=\frac{0}{0}$$

$$=\lim_{x\to1}\frac{x-1}{(x-1)(x+1)}=\lim_{x\to1}\frac{1}{x+1}=\frac{1}{2}$$

(c) ketabton.com: The Digital Library

2) $\lim_{x\to 1}(x-1)\left(\frac{1}{x^2+2x-3}\right)=?$

حل2:

$$\lim_{x\to 1}(x-1)\left(\frac{1}{x^2+2x-3}\right)=(1-1)\left(\frac{1}{1^2+2-3}\right)=0\cdot\frac{1}{3-3}=0\cdot\frac{1}{0}=0\cdot\infty$$

لیدل کېږي چې نوموړی لیمیټ د $(0\cdot\infty)$ شکل لري، نو:

$$\lim_{x\to 1}\frac{x-1}{x^2+2x-3}=\lim_{x\to 1}\frac{x-1}{(x-1)(x+3)}=\lim_{x\to 1}\frac{1}{x+3}=\frac{1}{4}$$

پوښتنې

لاندې لیمیټونه پیدا کړئ.

1) $\lim_{x\to\infty}(\sqrt{x+1}-\sqrt{x})$

2) $\lim_{x\to 1}\left(\frac{1}{1-x}-\frac{1}{1-x^2}\right)$

3) $\lim_{x\to\infty}(x^5-8x^3)$

4) $\lim_{x\to 5}\left[(x^2-25)\frac{1}{x-5}\right]$

5) $\lim_{x\to\infty}(\sqrt{x+a}-\sqrt{x})$

(c) ketabton.com: The Digital Library

(c) ketabton.com: The Digital Library

د $0^0, \infty^0, 1^\infty$ شکلونه

د مخامخ لیمیټ مبهم شکل وټاکئ؟

$$\lim_{x\to 0}(1+\sin x)^{\frac{1}{x}} = ?$$

فعالیت

- د $y = x^x$ تابع لیمیټ په هغه صورت کې پیدا کړئ چې $x \to 0$ وکړي.
- د $y = (1+x)^{\frac{1}{x}}$ لیمیټ بنه په هغه صورت کې وټاکئ چې $x \to \infty$ وکړي.
- د کومې عملیې په مرسته کولای شو چې $0^0, \infty^0, 1^\infty$ شکلونه په ضرب بدل شو.

د پورتني فعالیت پایله داسې بیانوو:

که چیرې یوه تابع پورتني مبهم شکلونه ځانته غوره کړي هغه د طبیعي لوګاریتم په مرسته د $0\cdot\infty$ شکل ته د اړولو ور دي، یعني:

$$\lim_{x\to a}(f(x))^{g(x)} \Rightarrow \ln(\lim_{x\to a} f(x)^{g(x)}) = \lim_{x\to a}(\ln f(x)^{g(x)}) = \lim_{x\to a}[g(x)\ln f(x)]$$

یادونه:

I- که چیرې $n \to \infty$ وکړي د $a_n = (1+\frac{1}{n})^n$ ترادف $e = 2.71828182$ عدد ته تقرب کوي.

$$\lim_{n\to\infty}(1+\frac{1}{n})^n = e$$

چې په لاندې جدول کې ښکاریږي:

n	$\frac{1}{n}$	$1+\frac{1}{n}$	$(1+\frac{1}{n})^n$
1	1	2	2
2	0.5	1.5	2.25
5	0.2	1.2	2.48832
10	0.1	1.1	2.59374246
100	0.01	1.01	2.704813829
1000	0.001	1.001	2.716923932
10000	0.0001	1.0001	2.718145926
100000	0.00001	1.00001	2.718268237
1000000	0.000001	1.000001	2.718280469
1000000000	10^{-9}	$1+10^{-9}$	2.718281828

نو $\lim_{n\to\infty}(1+\frac{1}{n})^n = e = 2.718281828$ دی چې ... $e = 2.71$ عدد ته د Euler عدد وايي.

-II

1) $\lim_{\alpha\to 0}(1+\alpha)^{\frac{1}{\alpha}} = e$ 2) $\lim_{x\to\infty}(1+\frac{\alpha}{x})^{\beta x} = e^{\alpha\beta}$

3) $\lim_{x\to 0}\frac{Ln(1+x)}{x} = 1$ 4) $\lim_{x\to 0}\frac{e^x - 1}{x} = 1$

ثبوت: پوهېږو چې څلور واړه پوښتنې د 1^{∞} مبهم شکلونه لري.

1) $x = \frac{1}{\alpha} \Rightarrow \alpha = \frac{1}{x}$, $\alpha \to 0 \Rightarrow x \to \infty \Rightarrow \lim_{\alpha\to 0}(1+\alpha)^{\frac{1}{\alpha}} = \lim_{x\to\infty}(1+\frac{1}{x})^x = e$

2) $\lim_{x\to\infty}(1+\frac{\alpha}{x})^{\beta x} = e^{\alpha\beta}$

$$u = \frac{\alpha}{x} \Rightarrow x = \frac{\alpha}{u} \ , \quad x \to \infty \Rightarrow u \to 0$$

$$\lim_{u\to 0}(1+u)^{\beta\frac{\alpha}{u}} = \lim_{u\to 0}\left[(1+u)^{\frac{1}{u}}\right]^{\alpha\beta}$$

$$x = \frac{1}{u} \to u = \frac{1}{x} \ , \quad u \to 0 \Rightarrow x \to \infty$$

$$\lim_{u\to 0}\left[(1+u)^{\frac{1}{u}}\right]^{\alpha\beta} = \lim_{x\to\infty}\left[(1+\frac{1}{x})^x\right]^{\alpha\beta} = e^{\alpha\beta}$$

3) $\lim_{x\to 0}\frac{\ln(1+x)}{x} \Rightarrow \lim_{x\to 0}\left[\frac{1}{x}\ln(1+x)\right] = \lim_{x\to 0}\left[\ln(1+x)^{\frac{1}{x}}\right]$

$$\ln\left[\lim_{x\to 0}(1+x)^{\frac{1}{x}}\right] \ , \quad x = \frac{1}{u} \Rightarrow u = \frac{1}{x} \ , \quad x \to 0 \Rightarrow u \to \infty$$

$$\ln\left[\lim_{x\to 0}(1+x)^{\frac{1}{x}}\right] = \ln\left[\lim_{u\to\infty}(1+\frac{1}{u})^u\right] = \ln e = 1$$

(c) ketabton.com: The Digital Library

$$4)\ y=e^x-1 \Rightarrow e^x=1+y \Rightarrow x=\ln(1+y)$$

$$\Rightarrow \lim_{x\to 0}\frac{e^x-1}{x}=\lim_{y\to 0}\frac{y}{\ln(1+y)}=\lim_{y\to 0}\frac{1}{\frac{\ln(1+y)}{y}}=\frac{1}{\lim\limits_{y\to 0}\frac{\ln(1+y)}{y}}$$

$$=\frac{1}{\lim\limits_{y\to 0}\frac{1}{y}\ln(1+y)}=\frac{1}{\lim\limits_{y\to 0}\ln(1+y)^{\frac{1}{y}}}\ ,\ y=\frac{1}{x}\Rightarrow x=\frac{1}{y}\ ,\ y\to 0\Rightarrow x\to\infty$$

$$=\frac{1}{\ln\lim\limits_{x\to\infty}(1+\frac{1}{x})^x}=\frac{1}{\ln e}=\frac{1}{1}=1$$

د 1^∞ مبهم شکل عمومي حالت: که چیرې د اکسپوننشیل تابع لیمیټ یعني $\lim\limits_{x\to a}[u(x)]^{v(x)}$ د 1^∞ مبهم شکل ځانته غوره کړي په دې حالت کې $\alpha=u-1$ سره تعویضوو، په نتیجه کې:

$$\lim_{x\to a}u^v=\lim_{x\to a}[(1+u-1)]^{\frac{v}{u-1}u-1}=\lim_{x\to a}\left[(1+\alpha)^{\frac{v}{\alpha}\alpha}\right]=\lim_{x\to a}\left[(1+\alpha)^{\frac{1}{\alpha}}\right]^{\lim\limits_{x\to a}(v\alpha)}$$

ځرنګه چې $\alpha=u-1$ دی که چیرې $u\to 1$ نو $\alpha\to 0$ ته نږدې کېږي په پایله کې :

$$\lim_{x\to a}[u(x)]^{v(x)}=\left[\lim_{\alpha\to 0}(1+\alpha)^{\frac{1}{\alpha}}\right]^{\lim\limits_{x\to a}[v(u-1)]}=e^{\lim\limits_{x\to a}[v(u-1)]}=e^P$$

$$\lim_{x\to a}[u(x)]^{v(x)}=e^P\quad,\quad P=\lim_{x\to a}[v(u-1)]$$

لومړی مثال: د $\lim\limits_{x\to\infty}(1+\frac{2}{x})^x$ لیمیټ قیمت په لاس راوړئ.

حل: لومړی د لیمیټ بڼه ټاکو معلومېږي چې لیمیټ د 1^∞ مبهم شکل لري، نو له فورمول څخه کار اخلو:

$$u=1+\frac{2}{x}\quad,\quad v=x$$

$$\lim_{x\to\infty}(1+\frac{2}{x})^x=e^P\quad,\quad P=\lim_{x\to\infty}\left[x(1+\frac{2}{x}-1)\right]=2$$

$$\lim_{x\to\infty}(1+\frac{2}{x})^x=e^P=e^2$$

دویم مثال: د $\lim\limits_{x\to\infty}(1+\frac{1}{x})^{\frac{x-5}{2}}$ **قیمت محاسبه کړئ.**

حل: لومړی د لیمیټ بڼه ټاکو $\lim\limits_{x\to\infty}(1+\frac{1}{x})^{\frac{x-5}{2}}=1^\infty$

(c) ketabton.com: The Digital Library

ځرنګه چې معلومېږي نوموړی لېمیټ د 1^∞ مبهم شکل لري نو له فورمول څخه کار اخلو:

$$\lim_{x\to\infty}(1+\frac{1}{x})^{\frac{x-5}{2}}=e^P$$

$$u=1+\frac{1}{x}\quad,\quad v=\frac{x-5}{2}$$

$$P=\lim_{x\to a}[v(u-1)]=\lim_{x\to\infty}\left[\frac{x-5}{2}(1+\frac{1}{x}-1)\right]=\lim_{x\to\infty}\left[\frac{x-5}{2}(\frac{1}{x})\right]=\lim_{x\to\infty}\frac{x-5}{2x}=\frac{1}{2}$$

$$\lim_{x\to\infty}(1+\frac{1}{x})^{\frac{x-5}{2}}=e^P=e^{\frac{1}{2}}=\sqrt{e}$$

دریم مثال: $\lim_{x\to 0}(\cos x)^{\frac{1}{x}}=?$

حل: **د تېر په شان بیاهم لومړی د لېمیټ بڼه ټاکو،** $\lim_{x\to 0}(\cos x)^{\frac{1}{x}}=1^\infty$

ځرنګه چې معلومېږي لېمیټ د 1^∞ مبهم شکل لري د فورمول په مرسته یې محاسبه کوو:

$$u=\cos x\quad,\quad v=\frac{1}{x}$$

$$\lim_{x\to 0}(\cos x)^{\frac{1}{x}}=e^P$$

$$P=\lim_{x\to a}[v(u-1)]=\lim_{x\to 0}\left[\frac{1}{x}(\cos x-1)\right]=\lim_{x\to 0}\frac{\cos x-1}{x}=\lim_{x\to 0}\frac{(\cos x-1)(\cos x+1)}{x(\cos x+1)}$$

$$\frac{\cos^2 x+\cos x-\cos x-1}{x(\cos x+1)}=\lim_{x\to 0}\frac{\cos^2 x-\sin^2 x-\cos^2 x}{x(\cos x+1)}$$

$$=-\lim_{x\to 0}\frac{\sin x}{x}\cdot\lim_{x\to 0}\frac{\sin x}{\cos x+1}=-1\cdot 0=0$$

$$\lim_{x\to 0}(\cos x)^{\frac{1}{x}}=e^P=e^0=1$$

پوښتنې

لاندې لېمیټونه محاسبه کړئ.

1) $\lim_{x\to\infty}(1+\frac{1}{x})^{x+2}$

2) $\lim_{x\to 1}\frac{x-1}{\ln x}$

3) $\lim_{x\to\infty}(\frac{x+3}{x-1})^{x+2}$

4) $\lim_{x\to\infty}(1+\frac{1}{n^2})^{n^2}$

5) $\lim_{x\to 0}(\cos 2x)^{\frac{1}{x}}$

(c) ketabton.com: The Digital Library

د مثلثاتي تابعګانو لېمېټ

Trigonometric functions limits

که د يوې دايرې شعاع يو واحد (1unit) وي، نومورې دايرې ته څه ډول دايره وايي.

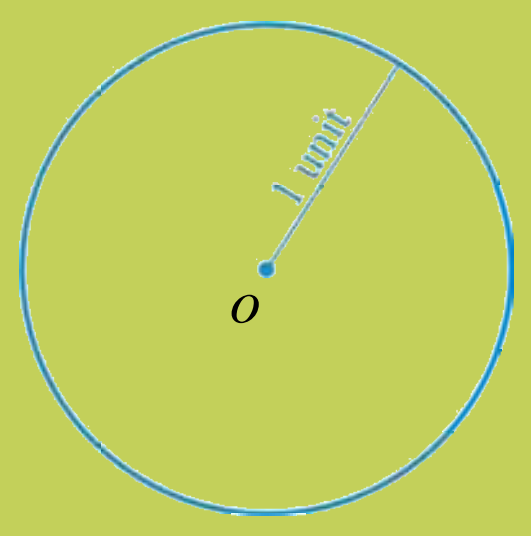

فعاليت

- دوضعيه کمياتو په سيستم کې د $C(o,r)$ په مثلثاتي دايره کې د θ مرکزي زاويه رسم کړئ.
- د C له بهرني ټکي څخه په دايره باندې د ox پر محور د $\overline{CA}$ مماس او $\overline{MB}$ عمود رسم کړئ.
- د C ټکی د دايرې له مرکز سره وصل کړئ.
- د مرکزي زاويې د مقابل قوس د اندازه کولو واحد په ګوته کړئ.

له پورتني فعاليت څخه قضيه داسې بيان او ثبوتوو:

قضيه: د يوې زاويې د ساين او د هغې زاويې د نسبت لېمټ مساوي په (1) دی، کله چې زاويه صفر ته تقرب وکړي.

$$\lim_{\theta\to 0}\frac{\sin\theta}{\theta}=1$$

ثبوت: په لاندې شکل کې د MOA او COA د مثلثونو او OMA د قطاع مساحتونه په لاس راوړو:

مثلث مساحت MOA د $=\frac{1}{2}\cdot\overline{OA}\cdot\overline{BM}=\frac{1}{2}\cdot r\cdot\overline{BM}=\frac{\overline{BM}}{2}\cdot r$

قطاع مساحت $O\overset{\frown}{A}M$ د $=\frac{1}{2}\theta r^2$

د θ د زاويې پراخوالی بايد په راديان لاسته راوړو.

مساحت $C\overset{\Delta}{O}A$ د $=\frac{1}{2}\cdot\overline{OA}\cdot\overline{AC}=\frac{1}{2}\cdot r\cdot\overline{AC}=\frac{\overline{AC}}{2}\cdot r$

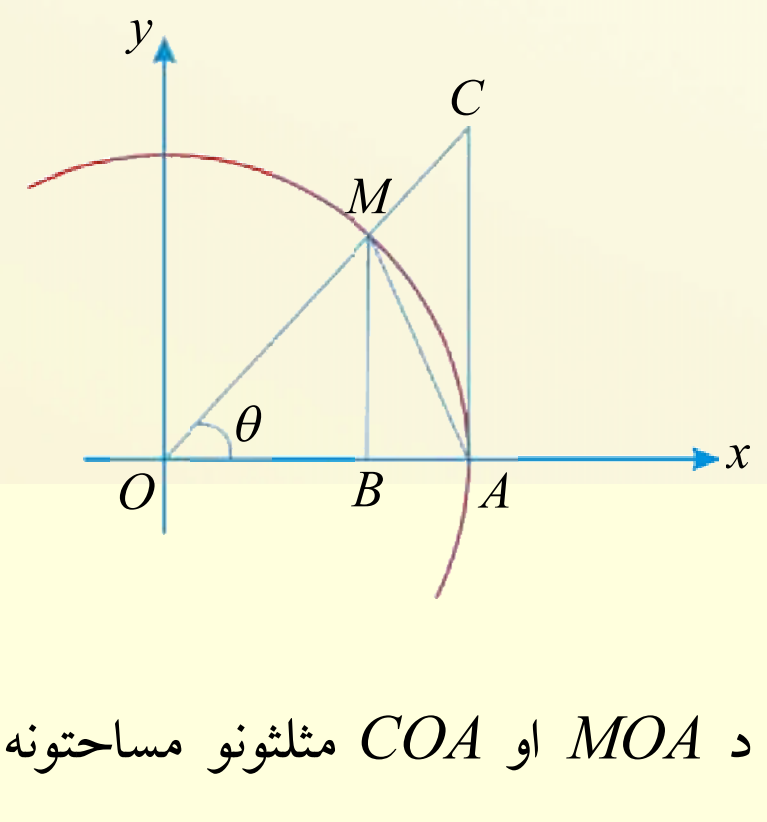

د MOA او COA مثلثونو مساحتونه د OMA د قطاع له مساحت سره پرتله کوو:

$$\frac{1}{2}r\,\overline{BM}<\frac{1}{2}\theta r^2<\frac{\overline{AC}}{2}\cdot r$$

(c) ketabton.com: The Digital Library

د نامساواتو دواړه خواوې په $\frac{2}{r^2}$ کې ضربوو:

$$\frac{\overline{BM}}{r} < \theta < \frac{\overline{AC}}{r} \Rightarrow \sin\theta < \theta < \tan\theta \Rightarrow 1 < \frac{\theta}{\sin\theta} < \frac{1}{\cos\theta}$$

$$\Rightarrow \cos\theta < \frac{\sin\theta}{\theta} < 1 \Rightarrow \lim_{\theta\to 0}\cos\theta \le \lim_{\theta\to 0}\frac{\sin\theta}{\theta} \le \lim_{\theta\to 0} 1$$

د سانډویچ د قضیې پر بنسټ معلومېږي چې $\lim_{\theta\to 0}\cos\theta = 1$ او همدارنګه $\lim_{\theta\to 0} 1 = 1$ دی، نو $\lim_{\theta\to 0}\frac{\sin\theta}{\theta} = 1$ دی.

پوهېږو چې د هرې زاویې ساین د (1) او (-1) د عددونو تر منځ تحول کوي:

$$-1 \le \sin\theta \le 1$$

$$-\frac{1}{\theta} \le \frac{\sin\theta}{\theta} \le \frac{1}{\theta}$$

$$-\lim_{\theta\to\infty}\frac{1}{\theta} \le \lim_{\theta\to\infty}\frac{\sin\theta}{\theta} \le \lim_{\theta\to\infty}\frac{1}{\theta}$$

د سانډویچ د قضیې پر اساس لیکلای شو چې:

$$\left.\begin{aligned} -\lim_{\theta\to\infty}\frac{1}{\theta} = 0 \\ \lim_{\theta\to\infty}\frac{1}{\theta} = 0 \end{aligned}\right\} \Rightarrow \lim_{\theta\to\infty}\frac{\sin\theta}{\theta} = 0$$

په پایله کې ویلای شو چې د یوې زاویې ساین او د هغې زاویې د نسبت لیمیټ مساوي په صفر دی هغه وخت چې زاویه بې‌نهایت ته نږدې شي.

لومړی مثال: $\lim_{x\to 0}\frac{\sin 2x}{x}$ پیدا کړئ.

حل: که $2x = \alpha$ نو $x = \frac{\alpha}{2}$ کېږي، څرنګه چې $x \to 0$ کړی دی، نو $\alpha \to 0$ کوي، نو لیکلای شو:

$$\frac{\sin\alpha}{\frac{\alpha}{2}} = 2\frac{\sin\alpha}{\alpha}$$

له پورته مساواتو څخه لاس ته راځي:

$$\lim_{x\to 0}\frac{\sin 2x}{x} = \lim_{\alpha\to 0}\frac{\sin\alpha}{\frac{\alpha}{2}} \Rightarrow 2\lim_{\alpha\to 0}\frac{\sin\alpha}{\alpha} = 2\cdot 1 = 2$$

(c) ketabton.com: The Digital Library

دویم مثال: $\lim\limits_{x\to 0}\frac{5\tan 2x}{7x}$ حل کړئ.

حل:

$$\frac{5\tan 2x}{7x}=\frac{5\frac{\sin 2x}{\cos 2x}}{7x}=\frac{5\sin 2x}{7x\cos 2x}=\frac{5\cdot 2x\frac{\sin 2x}{2x}}{7x\cos 2x}=\frac{10\frac{\sin 2x}{2x}}{7\cos 2x}$$

$$\lim_{x\to 0}\frac{5\tan 2x}{7x}=\frac{10}{7}\frac{\lim\limits_{x\to 0}\frac{\sin 2x}{2x}}{\lim\limits_{x\to 0}\cos 2x}=\frac{10}{7}$$

دریم مثال: $\lim\limits_{x\to 0}\frac{1-\cos 2x}{x}$ حل کړئ.

حل: پوهېږو چې $1-\cos 2x=2\sin^2 x$ سره دی، نو:

$$\lim_{x\to 0}\frac{1-\cos 2x}{x}=\lim_{x\to 0}\frac{2\sin^2 x}{x}$$

$$=2\lim_{x\to 0}\frac{\sin x}{x}\cdot\lim_{x\to 0}\sin x=2\cdot 1\cdot 0=0$$

څلورم مثال: $\lim\limits_{x\to 0}\frac{\tan 3x}{\sin 5x}$ پیدا کړئ:

حل:

$$\lim_{x\to 0}\frac{\tan 3x}{\sin 5x}=\lim_{x\to 0}\frac{\frac{\sin 3x}{\cos 3x}}{\sin 5x}=\lim_{x\to 0}\frac{\frac{3x\frac{\sin 3x}{3x}}{\cos 3x}}{5x\frac{\sin 5x}{5x}}=\frac{3x}{5x}\frac{\frac{\lim\limits_{x\to 0}\frac{\sin 3x}{3x}}{\lim\limits_{x\to 0}\cos 3x}}{\lim\limits_{x\to 0}\frac{\sin 5x}{5x}}=\frac{3}{5}\frac{\frac{1}{1}}{1}=\frac{3}{5}$$

پنځم مثال: $\lim\limits_{x\to 0}\frac{\cos 4x-\cos 6x}{x^2}$ په لاس راوړئ.

حل: پوهېږو چې $\cos\alpha-\cos\beta=-2\sin\frac{\alpha+\beta}{2}\sin\frac{\alpha-\beta}{2}$ نو:

$$\lim_{x\to 0}\frac{-2\sin\frac{4x+6x}{2}\sin\frac{4x-6x}{2}}{x^2}$$

$$=\lim_{x\to 0}\frac{-2\sin 5x\sin(-x)}{x^2}=-2\lim_{x\to 0}\frac{5\sin 5x}{5x}\lim_{x\to 0}\frac{-\sin x}{x}$$

(c) ketabton.com: The Digital Library

که $5x = y$ سره وي، او $x \to 0$ نو $y \to 0$ کوي، نو:

$$= 10\lim_{y\to 0}\frac{\sin y}{y}\cdot\lim_{x\to 0}\frac{\sin x}{x} = 10\cdot 1\cdot 1 = 10$$

پوښتني

لاندې لیمیټونه محاسبه کړئ.

1) $\lim_{x\to 0}\frac{\sin(x+\frac{\pi}{6})}{x+\frac{\pi}{6}}$ 2) $\lim_{x\to 0}\frac{\sin^2 x}{x}$ 3) $\lim_{x\to 0}\frac{1}{1+\tan^2 x}$

4) $\lim_{x\to 0}\frac{\sin x - x}{x}$ 5) $\lim_{x\to 0}\frac{\tan 2x}{\sin 3x}$ 6) $\lim_{x\to 0}\sin 5x\cos 3x$

7) $\lim_{x\to 0}\frac{\tan(2x-1)}{4x^2-1}$ 8) $\lim_{x\to 0}\sqrt{\cos 2x - \cos x + 1}$ 9) $\lim_{x\to 1}(\cos^2 x + \sin^2 x)$

(c) ketabton.com: The Digital Library

(c) ketabton.com: The Digital Library

د تابعګانو متماديت

Continuity of functions

شکلونو ته پام وکړئ.

لومړی او دويم پلونه څه توپير لري، خپل نظر بيان کړئ.

د تابعګانو ګرافونه مختلف شکلونه لري، چې ځيني يې په يوه قلم پرته له دې چې د قلم څوکه له کاغذ څخه پورته شي رسمېږي، متصلې يا متمادي تابعګانې بلل کېږي او ځيني يې په يوه قلم نه شي رسمېدلای يعنې د رسم په وخت کې بايد د قلم څوکه يو ځل يا څو ځلې د کاغذ څخه پورته شي، ځکه په يوه برخه کې يې ګراف غوڅ وي، دغه ډول تابعګانې په نومورې ټکې کې غير متصلې يا غير متمادي تابعګانې بلل کېږي.

فعاليت

- د $f(x) = x^2 + 4x$ تابع ګراف رسم کړئ.
- د $f(x)$ د تابع لېميټ د $x = 1$ په نقطه کې پيدا کړئ.
- د $f(x)$ د تابع قيمت د $x = 1$ په نقطه کې پيدا او وروسته داوړه اړيکې سره پرتله کړئ.

له پاسني فعاليت څخه لاندې پايله په لاس راځي:

پايله: د $y = f(x)$ تابع د $x = a$ په ټکي کې متمادي بلله کېږي، چې لاندې شرطونه په کې صدق وکړي.

1- د $f(x)$ تابع د a په ټکي کې تعريف شوې وي.

2- راکړل شوې تابع د a په ټکي کې لېميټ ولري.

3- د $f(a)$ قيمت بايد د $f(x)$ له لېميټ سره مساوي وي: $\lim\limits_{x \to a} f(x) = f(a)$

لومړی مثال: وښیئ چې د $f(x)=x^2+2x-1$ تابع د $x_0=2$ په ټکي کې متمادي ده.

حل:څرنګه چې د تابع د تعریف ساحه ټول حقیقي عددونه دي، نو د متمادیت له شرطونو څخه لیکلای شو:

$$\begin{aligned}&1)\ 2\in Dom\ f(x)=IR\\ &\left.\begin{aligned}&2)\ \lim_{x\to2}(x^2+2x-1)=4+4-1=7\\ &3)\ f(2)=2^2+4-1=7\end{aligned}\right\}\Rightarrow \lim_{x\to2}f(x)=f(2)=7\end{aligned}$$

څرنګه چې د متمادیت دري واړه شرطونه په کې حقیقت لري، بناءً تابع متمادي ده.

دویم مثال: د $f(x)=\dfrac{2x-1}{x+1}$ د تابع متمادیت د $x_0=-1$ په ټکي کې وڅېړئ.

حل: د $f(x)$ د تابع د تعریف ساحه عبارت ده؛ له: $IR\setminus\{-1\}$

او $\lim\limits_{x\to-1}\dfrac{2x-1}{x+1}=\dfrac{-3}{0}=\infty$ سره دی.

څرنګه چې لیدل کیږي -1 د تابع د تعریف په ساحه کې شامل نه دی، بناءً نوموړی تابع د -1 په ټکي کې متمادي نه ده.

درییم مثال: د $f(x)=\begin{cases}x^2-2x+1\ ;\ x<2\\ x^2-3\quad\ \ ;\ x\ge2\end{cases}$ د تابع متمادیت د $x=2$ په ټکي کې وڅېړئ.

حل: لومړی د تابع د ښي او کیڼي خوا لیمتونه څېړو:

$$\left.\begin{aligned}&\lim_{x\to2^+}f(x)=\lim_{x\to2^+}(x^2-3)=1\\ &\lim_{x\to2^-}f(x)=\lim_{x\to2^-}(x^2-2x+1)=1\end{aligned}\right\}\Rightarrow\lim_{x\to2^+}f(x)=\lim_{x\to2^-}f(x)\quad\Rightarrow\ \lim_{x\to2}f(x)=f(2)$$

په پایله کې ویلای شو چې تابع په نوموړي ټکي کې متمادي ده، لکه چې په شکل کې لیدل کیږي.

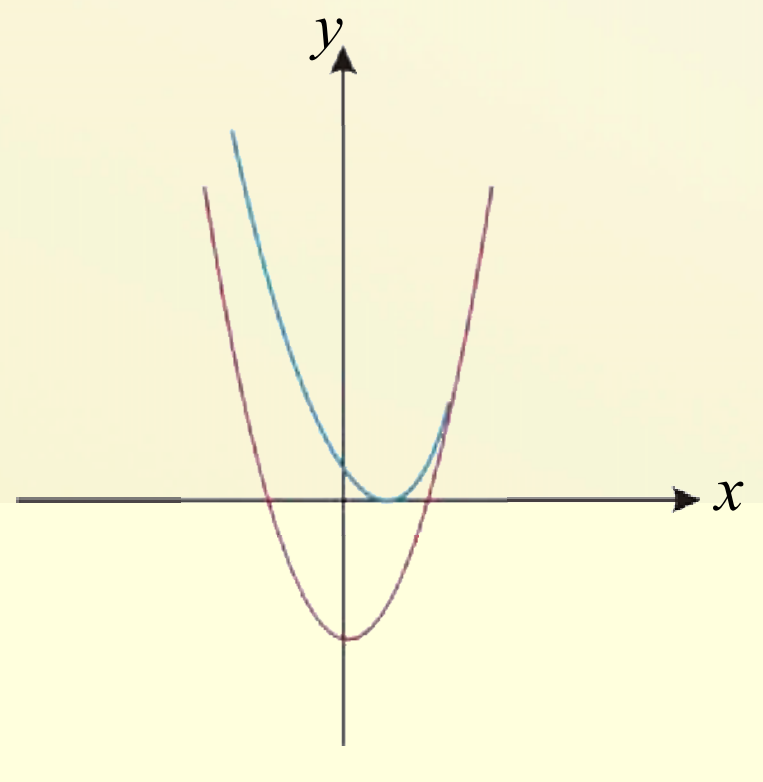

(c) ketabton.com: The Digital Library

څلورم مثال: که $f(x)=\begin{cases}2x+1\ ; & x\ge 1\\ 1-x\ ; & x<1\end{cases}$ وي، نو د $x=1$ په ټکي کې د تابع متمادیت وڅیړئ.

حل:

$$\left.\begin{array}{l}\lim\limits_{x\to 1} f(x)=1-x=0\\ f(1)=0\end{array}\right\}\ \left.\begin{array}{l}\lim\limits_{x\to 1^+} f(x)=\lim\limits_{x\to 1^+} 2x+1=3\\ \lim\limits_{x\to 1^-} f(x)=\lim\limits_{x\to 1^-} 1-x=0\end{array}\right\}\Rightarrow \lim_{x\to 1^+} f(x)\neq \lim_{x\to 1^-} f(x)$$

نو تابع په $x=1$ کې غیر متمادي ده.

پایله: که چیرې د $g(x)$ تابع د $x=a$ په ټکي کې $f(x)$ په $x=g(a)$ کې متمادي وي، نو $f(g(x))$ په $x=a$ کې هم متمادي ده، یعنې:

$$\lim_{x\to a} f(g(x))=f(\lim_{x\to a} g(x))=f(g(a))$$

1) $\lim\limits_{x\to a}(f(x))^{\alpha}=(\lim\limits_{x\to a} f(x))^{\alpha}\quad ,\quad \alpha\in IR$

2) $\lim\limits_{x\to a} a^{f(x)}=a^{\lim\limits_{x\to a} f(x)}$

3) $\lim\limits_{x\to a}\log_a f(x)=\log_a(\lim\limits_{x\to a} f(x))$

4) $\lim\limits_{x\to a}\sin f(x)=\sin(\lim\limits_{x\to a} f(x))$

پنځم مثال: که $f(x)=\dfrac{x^2-9}{x+3}$ وي او $x\neq -3$ وي.

آیا د $f(x)$ تابع د $x=-3$ په ټکي کې متمادي ده؟

حل: څرنګه چې تابع د $x=-3$ په نقطه کې نه ده تعریف شوې یا په بل عبارت د -3 عدد د تابع د تعریف په ساحه کې نه دی شامل، نوله دې امله تابع د $x=-3$ په ټکي کې متمادي نه ده.

غیر متمادیت: که چیرې د $f(x)$ تابع په $x=a$ کې یو له لاندې درې شرطونو څخه و نه لري وایو چې f په a کې غیر متمادي ده او a یې د انفصال ټکی دی. انفصال په درې ډوله دی.

لومړی ډول: د f تابع د a په ټکي کې د ښي او کیڼ لوري لیمیټونه ولري خو مساوي نه وي.

دویم ډول: کم ترکمه یو له دوو لیمیټونو(د ښي او کیڼ لوري لیمیټونه) څخه موجود نه وي.

دریم ډول: که چیرې تابع د a په ټکي کې لیمیټ ولري خو a د f د تعریف په ساحه کې شامل نه وي.(یوازې یو خالي ټکی وي.)

(c) ketabton.com: The Digital Library

پوښتني

په ورکړ شويو ټکو کې د تابع متماديت وڅيړئ.

a) $f(x) = x^2 + 5(x-2)^7 \quad ; \quad x = 3$

b) $f(x) = \dfrac{x+3}{(x^2+2x-5)} \quad ; \quad x = -1$

c) $h(x) = \dfrac{\sqrt{8-x^2}}{2x^2-5} \quad ; \quad x = -2$

d) $f(x) = \dfrac{1}{(x-3)^3} \quad ; \quad x = 3$

e) $f(x) = |x-3| \quad ; \quad x = 3$

f) $g(x) = \dfrac{|x|}{x} \quad ; \quad x = 0$

g) $f(x) = \begin{cases} \dfrac{x^3+x}{x} & ; \quad x \neq 0 \\ 3 & ; \quad x = 2 \end{cases}$

h) $f(x) = \dfrac{x^2-9}{x+3} \quad ; \quad x = 2$

(c) ketabton.com: The Digital Library

د متمادي تابعګانو خاصيتونه

د مخامخ مساواتو په اړه سوچ وکړئ چې حقيقت لري او که نه؟

$$(f \pm g)(x) = f(x) \pm g(x)$$
$$(f \cdot g)(x) = f(x) \cdot g(x)$$
$$(f \div g)(x) = f(x) \div g(x) \quad , \; g(x) \neq 0$$

فعاليت

- که $f(x) = x^2 - 1$ وي د تابع متماديت وڅېړئ.
- که $g(x) = x + 3$ وي د تابع متماديت وڅېړئ.
- د $f(x) + g(x)$ د تابعګانو متماديت وڅېړئ.

د پورتني فعاليت پايله داسې بيانوو:

پايله: که د $f(x)$ او $g(x)$ تابعګانې د $x = c$ په ټکي کې متمادي وي، نو له لاندې تابعګانو څخه يې هره يوه په $x = c$ يا يوه انټروال کې متمادي ده.

1- د تابعګانو جمع $f(x) + g(x)$

2- د تابعګانو تفريق $f(x) - g(x)$

3- د تابعګانو ضرب $f(x) \cdot g(x)$

4- د تابعګانو تقسيم $\frac{f(x)}{g(x)} \; ; \; g(x) \neq 0$

لومړی بېلګه: **که** $f(x) = x^2 + 3$ **او** $g(x) = x^2 + 3x - 2$ **وي، نو:**

1- f او g د $x = 1$ په ټکي کې متمادي دي او که نه؟

2- وڅېړئ، چې:

الف) $f(x) + g(x) = (f + g)(x)$ وي.

(c) ketabton.com: The Digital Library

ب) $(f\cdot g)(x)=f(x)\cdot g(x)$ د $x=1$ په نقطه کې متمادي ده او که غیر متمادي.

حل:لومړی هره یوه تابع بېلابېله څېړو چې متمادي ده که نه؟

1) $Df(x)=IR$

2) $\lim_{x\to1} f(x)=\lim_{x\to1}(x^2+3)=4$

3) $f(1)=(1^2+3)=4$

نو د f **تابع** د $x=1$ په نقطه کې متمادي ده.

1) $Dg(x)=IR$

2) $\lim_{x\to1} g(x)=\lim_{x\to1}(x^2+3x-2)=1^2+3\cdot1-2=2$

3) $g(1)=(1^2+3\cdot1-2)=2$

په همدې شان د g تابع د $x=1$ په ټکي کې هم متمادي ده.

2- اوس د تابعگانو د جمعې او ضرب د حاصل متمادیت څېړو:

الف)

$f(x)+g(x)=x^2+3+x^2+3x-2=2x^2+3x+1$

1) $D(f(x)+g(x))=IR$

2) $\lim_{x\to1}[f(x)+g(x)]=\lim_{x\to1}(2x^2+3x+1)=6$

3) $f(1)+g(1)=(1+3+1+3-2)=6$

$\lim_{x\to1}[f(x)+g(x)]=f(1)+g(1)=6$

$(f+g)(x)=x^2+3+x^2+3x-2=2x^2+3x+1$

1) $D[(f+g)(x)]=IR$

2) $\lim_{x\to1}[(f+g)(x)]=\lim_{x\to1}[2x^2+3x+1]=6$

3) $(f+g)(1)=(2x^2+3x+1)(1)=6$

$\lim_{x\to1}[(f+g)(x)]=(f+g)(1)=6$

په پایله کې د متمادي تابعگانو د جمعې حاصل د $x=1$ په نقطه کې متمادي دی.

(c) ketabton.com: The Digital Library

ب)

$f(x)\cdot g(x)=(x^2+3)(x^2+3x-2)=x^4+3x^3+x^2+9x-6$

1) $D(f\cdot g)(x)=IR$

2) $(f\cdot g)_{(1)}=1^4+3\cdot 1^3+1^2+9\cdot 1-6=8$

3) $\lim\limits_{x\to 1}(f\cdot g)(x)=8$

$\lim\limits_{x\to 1}(f\cdot g)(x)=(f\cdot g)(1)=8$

په پايله کې د متمادي تابعگانو د ضرب حاصل د $x=1$ په نقطه کې متمادي ده.

دويمه بېلگه: که $g(x)=3x-2$ او $f(x)=x+1$ وي، وخېرئ، چې آيا $f(x)\cdot g(x)$ د $x=2$ په نقطه کې متمادي ده؟

حل:

1) $Df(x)=IR$	1) $Dg(x)=IR$
2) $\lim\limits_{x\to 2}f(x)=\lim\limits_{x\to 2}(x+1)=3$	2) $\lim\limits_{x\to 2}g(x)=3x-2=3\cdot 2-2=4$
3) $f(2)=x+1=3$	3) $g(2)=3x-2=3\cdot 2-2=4$
$\lim\limits_{x\to 2}f(x)=f(2)=3$	$\lim\limits_{x\to 2}g(x)=g(2)=4$

$f(x)\cdot g(x)=(x+1)(3x-2)=3x^2-2x+3x-2=3x^2+x-2$

$D(f\cdot g)(x)=IR$

$\lim\limits_{x\to 2}[f(x)\cdot g(x)]=3(4)+2-2=12$

$(f\cdot g)(2)=3(4)+2-2=12$

$\lim\limits_{x\to 2}[f(x)\cdot g(x)]=(f\cdot g)(2)=12$

په پايله کې لاس ته راځي چې $f(x)\cdot g(x)$ د $x=2$ په ټکي کې متمادي ده.

(c) ketabton.com: The Digital Library

پوښتنې

1- وښیئ چې لاندې تابعګانې په ورکړ شویو نقطو کې متمادي دي او که نه؟

1) $f(x) = x^3 - 2(x+1)^5 \quad ; \quad x = 2$

2) $g(x) = \dfrac{x^2+3}{(x^2-x+5)(x^2+2x)} \quad ; \quad x = -1$

3) $h(x) = \dfrac{x\sqrt{x}+1}{(x+2)^3} \quad ; \quad x = 4$

2- تشریح کړئ، چې ولې د $f(x) = \dfrac{\sqrt{x+3}-\sqrt{2}}{x}$ تابع په $x = 0$ کې غیرمتمادي ده.

(c) ketabton.com: The Digital Library

د متحول تقرب: ويل کېږي چې د x متحول د a عدد ته تقرب کوي، په داسې حال کې چې x په اختياري ډول د a عدد ته نږدې کېږي، يعنې د x او a ترمنځ تفاوت له هر کوچني عدد($\delta > 0$) څخه کوچنى دى يا په لاندې ډول:

$$\forall \delta > 0: |x-a| < \delta \quad \text{يا} \quad \lim_{x\to a} x = a \quad \text{يا} \quad x \to a \quad \text{يا} \quad |x-a| \to 0$$

له ښي لوري د متحول تقرب: ($x \to a^+$) که چيرې د x د قيمتونو يو متناقص ترادف موجود وي په داسې حال کې چې په تدريجي ډول د a اختياري عدد ته نږدې شي.

$$x: a+0.1,\ a+0.01\ ,\ a+0.001\ ,\ a+0.0001\ ,\ \dots \to a^+$$

له کيڼ لوري د متحول تقرب: ($x \to a^-$) که چيرې د x د قيمتونو يو متزايد ترادف موجود وي په داسې حال کې چې x په تدريجي ډول د a اختياري عدد ته نږدې شي.

$$x: a-0.1,\ a-0.01\ ,\ a-0.001\ ,\ a-0.0001\ ,\ \dots \to a^-$$

نو د x د متحول تقرب د a عدد ته معادل دى د x د متحول تقرب له ښي لوري او د x د متحول تقرب له چپ لوري؛ يعنې:

$$x \to a \quad \Leftrightarrow \quad (x \to a^+\ ,\ x \to a^-)$$

تعريف: که چيرې د $f(x)$ تابع په يوه غير ترلي انټروال کې چې د a عدد په هغې کې شامل وي کيداى شي چې تابع په a کې نه وي تعريف شوى. که چيرې د x متحول د a عدد ته نږدې شي نو د $f(x)$ تابع د l عدد ته نږدې کېږي، نو ويل کېږي چې د $f(x)$ د تابع لېميټ عبارت له l څخه دى، کله چې د x متحول د a عدد ته تقرب وکړي نو داسې يې ليکو: $\lim_{x\to a} f(x) = l$ يا $\begin{matrix} x \to a \\ f(x) \to l \end{matrix}$

د لېميټ ځانګړتياوې: که f او g دوې تابعګانې وي، C, L او M حقيقي عددونه وي داسې چې $\lim_{x\to c} f(x) = L$ او $\lim_{x\to c} g(x) = M$ ، نو لاندې رابطې ليکلاى شو:

1) $\lim_{x\to c}(f(x)+g(x)) = \lim_{x\to c} f(x) + \lim_{x\to c} g(x) = L + M$

2) $\lim_{x\to c}(f(x)-g(x)) = \lim_{x\to c} f(x) - \lim_{x\to c} g(x) = L - M$

3) $\lim_{x\to c}(f(x)\cdot g(x)) = \lim_{x\to c} f(x) \cdot \lim_{x\to c} g(x) = L \cdot M$

4) $\lim_{x\to c} \dfrac{f(x)}{g(x)} = \dfrac{\lim_{x\to c} f(x)}{\lim_{x\to c} g(x)} = \dfrac{L}{M}\ ,\quad M \neq 0\ ,\quad g(x) \neq 0$

5) $\lim_{x\to c} \sqrt{f(x)} = \sqrt{\lim_{x\to c} f(x)} = \sqrt{L}$

(c) ketabton.com: The Digital Library

بې نهايت کوچنی تابعګانې: د $\varepsilon(x)$ تابع کله چې $x \to a$ ته نږدې شي بې نهايت کوچنی بللې کېږي، که چيرې $\lim_{x\to a}\varepsilon(x)=0$ وي.

د سانډويچ قضيه: که چيرې د $f(x)$, $g(x)$ او $h(x)$ تابعګانې د هر x لپاره په يوه غير تړلي انټروال کې چې د a عدد په کې شامل دی(ولو که $x \neq a$) او $f(x) \leq g(x) \leq h(x)$ شرط صدق وکړي په هغه صورت کې چې $\lim_{x\to a}f(x)=b=\lim_{x\to a}h(x)$ وي، نو $\lim_{x\to a}g(x)=b$ دی.

- که چېرې يوه تابع د $\frac{0}{0}$ بڼه ولري، د لېميټ د پيداکولو لپاره يې لومړی تابع د تجزيې په مرسته ساده کوو او بيا يې لېميټ په لاس راوړو.
- $f(x)=\dfrac{a_0x^m+a_1x^{m-1}+\ ...\ +a_m}{b_0x^n+b_1x^{n-1}+\ ...\ +b_n}$ د تابع د لېميټ د پيداکولو لپاره چې $x \to \infty$ وکړي، عبارت دی له:

1. د $m=n$ لپاره د نومړي کسر ليميټ عبارت دی له $\frac{a_0}{b_0}$
2. د $m<n$ لپاره د نومړي کسر ليميټ عبارت له صفر څخه دی.
3. د $m>n$ لپاره د نومړي کسر ليميټ عبارت دی له $\pm\infty$

- د هغو تابعګانو چې $(\infty-\infty)$ او $(0\cdot\infty)$ بڼه ولري د لېميټ د پيداکولو لپاره يې د کسرونو د جمعې، ضرب او مزدوج څخه ګټه اخلو، تر څو د $\frac{0}{0}$ يا $\frac{\infty}{\infty}$ بڼه غوره کړي چې وروسته يې لېميټ په لاس راوړو.
- هغه تابعګانې چې د 1^{∞} مبهم شکلونه لري له دې فورمول څخه $P=\lim_{x\to a}[v(u-1)]$, $\lim_{x\to a}[u(x)]^{v(x)} \overset{1^{\infty}}{=} e^{P}$ يې د لېميټ د پيداکولو لپاره کار اخلو.
- لاندې رابطه کله چې $\theta \to 0$ وکړي همېشه سمه ده.

$$\lim_{\theta\to 0}\frac{\sin\theta}{\theta}=1$$

- د $y=f(x)$ تابع د $x=a$ په ټکي کې متمادي بلل کېږي، کله چې:

1. a د $f(x)$ د تابع په دومين کې شامل وي.
2. راکړل شوی تابع د a په نقطه کې لېميټ ولري.
3. $\lim_{x\to a}f(x)=f(a)$

(c) ketabton.com: The Digital Library

د لومړي څپرکي پوښتنې

لاندې پوښتنو ته څلور ځوابونه ورکړل شوي دي سم ځواب په نښه کړي.

-1 $\lim\limits_{x\to 0}\frac{3x-\sin x}{x}$

a) 2　b) -2　c) 1　d) 3

-2 $\lim\limits_{x\to -2}\frac{x^2-x-6}{x^2+x-2}$

a) $-\frac{5}{3}$　b) $\frac{5}{3}$　c) 0　d) 1

-3 $\lim\limits_{x\to 1.4}(2x+0.3)$

a) 1　b) 3　c) 0　d) هیڅ یو

-4 $\lim\limits_{x\to 0}\frac{\sin 3x}{\tan 2x}$

a) 1　b) 0　c) $\frac{3}{2}$　d) $\frac{2}{3}$

-5 $\lim\limits_{x\to 4}\frac{x-4}{\sqrt{x}-2}$

a) $2+\sqrt{2}$　b) 2　c) $\sqrt{2}$　d) 4

-6 $\lim\limits_{x\to \frac{\pi}{2}}\frac{1-\sin x}{1+\cos 2x}$

a) 1　b) $\frac{1}{2}$　c) $\frac{1}{4}$　d) 4

-7 لاندې لیمیټونه پیداکړئ.

1) $\lim\limits_{x\to 3}\frac{x^2-2x+5}{2x^2+1}$

2) $\lim\limits_{x\to -1}\sqrt{3+x}$

3) $\lim\limits_{x\to +\infty}\frac{6}{x^2-7}$

4) $\lim\limits_{x\to \infty}\frac{x^4+x^2+x+6}{x^3-3x+4}$

5) $\lim\limits_{x\to \infty}\frac{3x^2-2}{x+1}$

6) $\lim\limits_{x\to 2}\frac{x^3+5x-18}{x^2+3x-10}$

7) $\lim\limits_{x\to 2}\frac{x^3-2x-4}{x-\sqrt{3x-2}}$

8) $\lim\limits_{x\to 2}\frac{x^2-3x+2}{x^2+3x-10}$

9) $\lim\limits_{x\to 0}\frac{x}{\tan x}$

10) $\lim\limits_{x\to 0}\frac{1-\cos^2 x}{x\cos x}$

(c) ketabton.com: The Digital Library

11) $\lim_{x\to 2}\frac{x^2+3x-10}{x^2-x-2}$

12) $\lim_{x\to -2}\left(\frac{x+3}{x+2}+\frac{2}{x^2+2x}\right)$

13) $\lim_{x\to 0}\frac{\sin(a+x)+\sin(a-x)}{\tan(a+x)+\tan(a-x)}$

14) $\lim_{x\to +\infty}\frac{x^2}{2x^2-1}-\frac{x^2}{2x+2}$

15) $\lim_{x\to 0}\frac{\cos x\sin x-\tan x}{x^2\sin x}$

16) $\lim_{x\to 0}\frac{\cos x-\cos 3x+\sin^2 x}{a x^2}$

17) $\lim_{x\to 0}\frac{2\sin 2x\sin x+\sin^2 x}{x^2}$

18) $\lim_{x\to 0}\frac{x-\sin 2x}{x+\sin 3x}$

19) $\lim_{x\to 0}\frac{-2\sin 3x\sin 2x}{x\tan 3x}$

20) $\lim_{x\to 2}\frac{\sqrt{x}-\sqrt{2}}{\sqrt{x-2}\cdot\sqrt{x+2}}+\frac{1}{\sqrt{x+2}}$

21) $\lim_{u\to 0}\frac{\sin 3(\pi+u)}{\sin 8(\pi+u)}$

22) $\lim_{x\to 1}\frac{1-x^2}{\sin \pi x}$

23) $\lim_{x\to \infty}\frac{2x^2-x+3}{x^2-8x+5}$

24) $\lim_{x\to \infty}\frac{8x+4}{4x+\sqrt{x}}$

25) $\lim_{x\to 2}\frac{9x^2-x+5}{\sqrt{9x^4+1}}$

26) $\lim_{x\to 1}\left(\frac{1}{1-x}-\frac{1}{1-x^2}\right)$

(c) ketabton.com: The Digital Library

(c) ketabton.com: The Digital Library

دویم څپرکی
مشتق

د مشتق لومړنی سوچ د پیردي فرماټ(P. Fermat) فرانسوي رياضي پوه په واسطه او دقيق مفهوم يې د مشهور رياضي پوه اساق نيوټن(Isaac Newton) اوگوتفريدويليم لايبنز(Gottfried Wilhelm Leibniz) الماني منځ ته راغی او تکميل شوی دی.

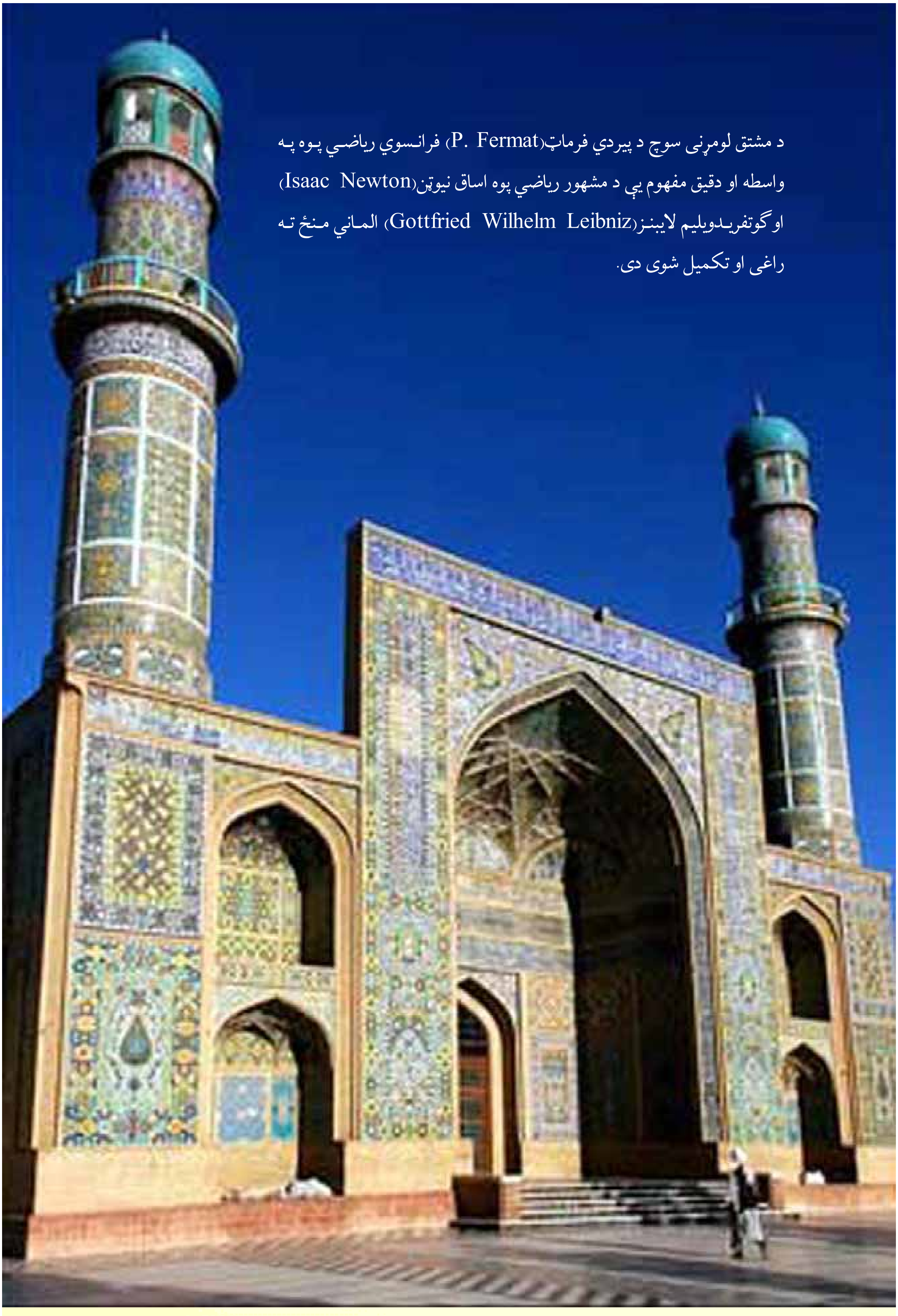

(c) ketabton.com: The Digital Library

مشتقات

Derivatives

د $f(x)=x^2-1$ تابع په پام کې ونیسئ د مخامخ کسر لیمیټ پیدا کړئ.

$$\lim_{x\to 1}\frac{f(x)-f(1)}{x-1}=?$$

د یوه منحني میل

- که د یوه مستقیم خط دوه ټکي $A(x_1,y_1)$ او $B(x_2,y_2)$ معلوم وي، نو د دې مستقیم خط میل له کومې رابطې څخه په لاس راځي.
- آیا د یوه مستقیم خط میل ثابت او مساوي دي؟ که په یوه ځانګړې ټکي پورې اړه لري؟
- آیا د مستقیم خط میل د هغې زاویې سره اړه لري، چې مستقیم خط یې د x د محور له مثبت لوري سره جوړوي؟
- آیا د مستقیم خط او منحني میلونه یو شان پیدا کیږي؟

له پورتنیو پوښتنو څخه څرګندیږي چې د منحني میل په اسانۍ سره نشو پیدا کولای ځکه چې منحني خط په هر ټکي کې خپل مسیر ته بدلون ورکوي او په مختلفو ټکو کې بېلابېل میلونه لري، نو له دې کبله لومړی د یوه منحني خط میل د هغه په یوه ټکي کې تعریفوو او بیا یې د محاسبې لپاره یو فورمول په لاس راوړو.

فعالیت

- د وضعیه کمیاتو په مستوي کې د C منحني خط رسم او د P او P_1 دوه ټکي پرې وټاکئ.
- د P_1 په ټکي کې د Δ_1 قاطع او د p په ټکي کې د Δ مماس رسم کړئ.
- که د P_1 ټکی د C په منحني باندې داسې حرکت وکړي، چې د p ټکی ته نږدې شي، په پایله کې د Δ_1 مستقیم خط له Δ مستقیم خط سره څه اړیکه پیدا کوي؟

د پورتنی فعالیت پایله داسې بیانوو:

د Δ د مستقیم خط میل چې د C له منحني سره د P په نقطه کې مماس دی د هغې زاویې له (tan) سره مساوي دی چې مستقیم خط یې د x د محور له مثبت جهت سره جوړوي.

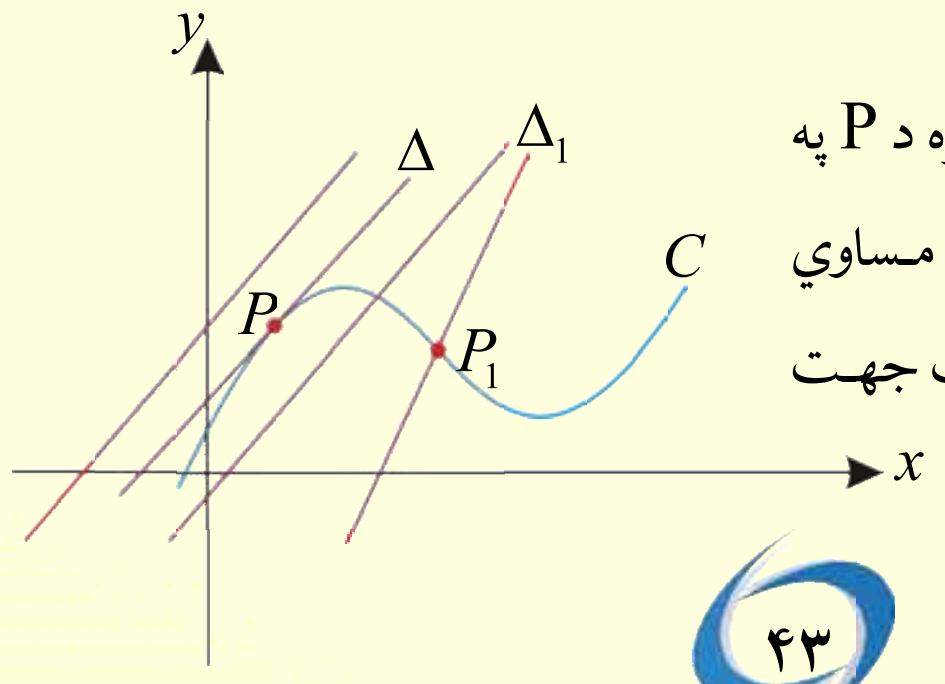

(c) ketabton.com: The Digital Library

لومړی مثال: د $y = f(x) = x^2$ د منحني سره د مماس میل د $P(1,1)$ په ټکي کې پیداکړئ.

حل: څرنګه چې د منحني میل د مماس له میل سره د P په ټکي کې برابر دي، نو ددې مماس میل لـه هغې فورمول څخه چې دوې نقطې يې معلومې وي، نشو پیداکولای، ځکه دلته یوازې د یوې نقطې مختصات ورکړل شوي دي. ولې کولای شو د دې مماس د میل تخمیني قیمت د هغه قاطع خط له میل څخه چې د P او Q له ټکو څخه تېرېږي، پیداکړو، په هغه صورت کې چې د Q ټکي د P ټکي ته نـږدې شـي د PQ د مماس میل 2 تـه تقرب کوي چې په لاندې جدول کې لیدل کېږي:

x	2	1.5	1.1	1.01	1.001
y	4	2.25	1.21	1.0201	1.002001
$m_{\overline{PQ}}=\dfrac{y_2-y_1}{x_2-x_1}$	3	2.5	2.1	2.01	2.001

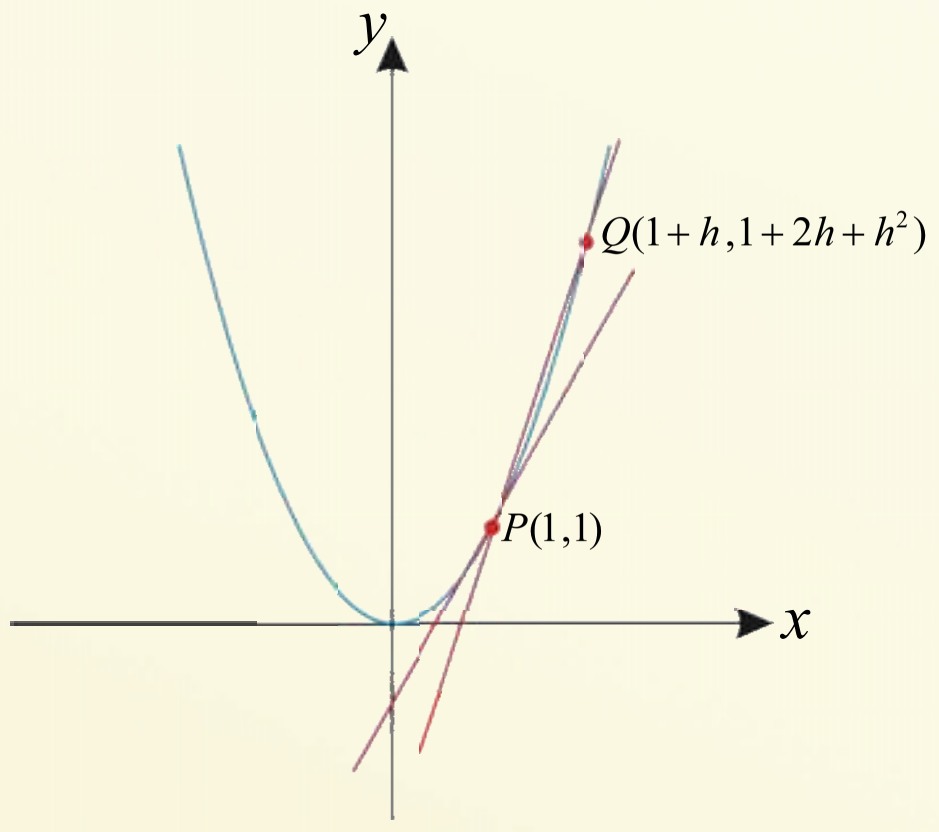

په عمومي ډول هغه لومړی مختصه چې د $P(1,1)$ ټکي ته نږدې ده په $1+h$ ښودلای شو، چې h یو کوچنی مثبت یا منفي عدد دی، خو $h \neq 0$ دی نو لیکلای شو:

$$f(1+h) = (1+h)^2 = 1+2h+h^2$$

نو دا $(1+h\ ,\ 1+2h+h^2)$ ټکی د منحني پر مخ راکړل شوی پروت دی، نو په پایله کې هغه مستقیم خط چې له $P(1,1)$ او $Q(1+h,1+2h+h^2)$ له ټکو څخه تیرېږي، میل يې عبارت دی له:

$$m_{PQ}\frac{(1+2h+h^2)-1}{(1+h)-1}=\frac{2h+h^2}{h}=2+h$$

که چیرې په شکل کې $h \to 0$ نو $Q \to P$ کوي، قاطع خط د $P(1,1)$ په نقطه کې مماس کېږي چې د همدې مماس میل ته د تابع مشتق وایي؛ یعنې: $\overline{PQ} = \lim\limits_{h\to 0}(2+h) = 2$

(c) ketabton.com: The Digital Library

د لېمیټ دا عملیه موږ ته دا امکان په لاس راکوي چې د $y = x^2$ د تابع د منحني میل په یوه اختیاري ټکي $P(x,y)$ کې په لاس راوړو. که د Q د ټکي اختیاري مختصات $[x+h,(x+h)^2]$ وي که د PQ میل ته m او د P په ټکي کې د مماس میل په m_T سره وښیو لرو، چې:

$$m = \frac{(x+h)^2 - x^2}{x+h-x} = \frac{x^2 + 2hx + h^2 - x^2}{h} = \frac{2xh + h^2}{h} = 2x + h$$

$$m_T = \lim_{h \to 0}(2x+h) = 2x$$

نو په عمومي بڼه لیکلای شو، که چېرې $Q[x+h\ ,f(x+h)],\ P[x, f(x)]$ د نوموړي منحني دوې اختیاري نقطې وي، نو لاندې خارج قسمت چې د Newton د رابطې په نامه مشهور دی، لیکلای شو:

$$\frac{f(x+h)-f(x)}{x+h-x} = \frac{f(x+h)-f(x)}{h}$$

په حقیقت کې دا د هغه مستقیم خط میل دی چې د P او Q له ټکو څخه تیرېږي.

او د منحني میل د هغې په هر اختیاري ټکي کې عبارت دی له:

$$m_T = \lim_{h\to 0}\frac{f(x+h)-f(x)}{h}$$

دویم مثال: د $f(x) = x - x^2$ د منحني سره د مماس میل د $P(2,0)$ په ټکي کې پیدا کړئ.

حل: د Newton خارج قسمت تشکیل او د $x = 2$ په ټکي کې د منحني میل حسابوو:

$$\frac{f(x+h)-f(x)}{h} = m_T = \lim_{h\to 0}\frac{f(x+h)-f(x)}{h} = \lim_{h\to 0}\frac{f(2+h)-f(2)}{h}$$

$$= \lim_{h\to 0}\frac{(2+h)-(2+h)^2-2+2^2}{h}$$

$$= \lim_{h\to 0}\frac{2+h-4-4h-h^2-2+4}{h} = \lim_{h\to 0}\frac{h-4h-h^2}{h}$$

$$= \lim_{h\to 0}\frac{h(1-4-h)}{h} = \lim_{h\to 0}(-3-h) = -3$$

منځنی یا وسطي تعبیر

که یو جسم د یوه مستقیم خط پر مخ د حرکت په حال کې وي، طبیعي ده چې وهل شوی فاصله د زمان تابع ده یعني $S = f(t)$ د t_1 او t_2 دوو وختونو خارج قسمت $\frac{f(t_2)-f(t_1)}{t_2-t_1}$ د جسم د وسطي سرعت په نامه یادېږي او سرعت د t_0 په وخت کې عبارت له هغه حد یا لیمیت څخه دی چې لحظوي سرعت بلل کیږي. $\lim_{t\to t_0}\frac{f(t)-f(t_0)}{t-t_0}$

(c) ketabton.com: The Digital Library

د پورتنی رابطې لېمیټ د t او t_0 په وخت کې داسې لیکو:

$$\lim_{t\to t_0}\frac{f(t)-f(t_0)}{t-t_0}=\lim_{t\to t_0}\frac{S-S_0}{t-t_0}=\frac{\Delta S}{\Delta t}$$

په پایله کې ویلای شو چې د تابع او متحول د زیاتوالی خارج قسمت ته متوسط تغییر وایي، یعنې:

$$\frac{\Delta s}{\Delta t}=\frac{f(s_2)-f(s_1)}{t_2-t_1}$$

مثال: د $y=f(x)=x^2$ په تابع کې د f متوسط تغیرات د $[2,5]$ په انټروال کې پیدا کړئ.

حل: څرنګه چې $x_1=2$ او $x_2=5$ دی، نو د تعریف په مرسته لیکلای شو:

$$\frac{\Delta y}{\Delta x}=\frac{f(x_2)-f(x_1)}{x_2-x_1}=\frac{f(5)-f(2)}{5-2}=\frac{5^2-2^2}{5-2}$$

$$\frac{\Delta y}{\Delta x}=\frac{25-4}{5-2}=\frac{21}{3}=7$$

پوښتنې

1) د لاندې تابعګانو د x د متحول لپاره د یو Δx او Δy تزاید په پام کې نیولو سره $\frac{\Delta y}{\Delta x}$ او میل یې په غوښتل شوو ټکو کې پیدا کړئ.

1) $\frac{\Delta y}{\Delta x}=?$, $f(x)=2x^2-4$, (0)

2) $\frac{\Delta y}{\Delta x}=?$, $f(x)=2x-x^2$, (3)

3) $\frac{\Delta y}{\Delta x}=?$, $f(x)=3x^2-5x+4$, $(2,-1)$

2) د $f(t)=5t^3-3t+1$ د تابع متوسط تغییرات د $[2,4]$ په انټروال کې پیدا کړئ.

(c) ketabton.com: The Digital Library

د يوې تابع مشتق

مخامخ لېميټ څه را ښيي آيا په بل ډول يې ليکلای شو؟

$$\lim_{\Delta x\to 0}\frac{f(x+\Delta x)-f(x)}{\Delta x}$$

فعاليت

- که چيرې د $y=f(x)$ تابع د $[a,b]$ په انټروال کې متمادي وي، که د x متحول د Δx په اندازه زياتوالی پيدا کړئ آيا تابع تزايد کوي په دې حالت کې، د متحول او تابع د زياتوالي رابطه وليکئ.
- د تابع تزايد د متحول پر تزايد $(\frac{\Delta y}{\Delta x})$ داسې وليکئ چې په مساوات کې بدلون رانشي.
- که له دواړو خواوو څخه لېميټ ونيول شي، په هغه صورت کې چې Δx صفر ته تقرب وکړي، د دې حد يا لېميټ د څه په نامه يادېږي؟

د پورتنی فعاليت پايله داسې بيانوو:

$$y=f(x)$$
$$y+\Delta y=f(x+\Delta x)$$
$$\Delta y=f(x+\Delta x)-y$$
$$\Delta y=f(x+\Delta x)-f(x) \quad / \quad \div\Delta x$$
$$\frac{\Delta y}{\Delta x}=\frac{f(x+\Delta x)-f(x)}{\Delta x}$$
$$\lim_{\Delta x\to 0}\frac{\Delta y}{\Delta x}=\lim_{\Delta x\to 0}\frac{f(x+\Delta x)-f(x)}{\Delta x}$$

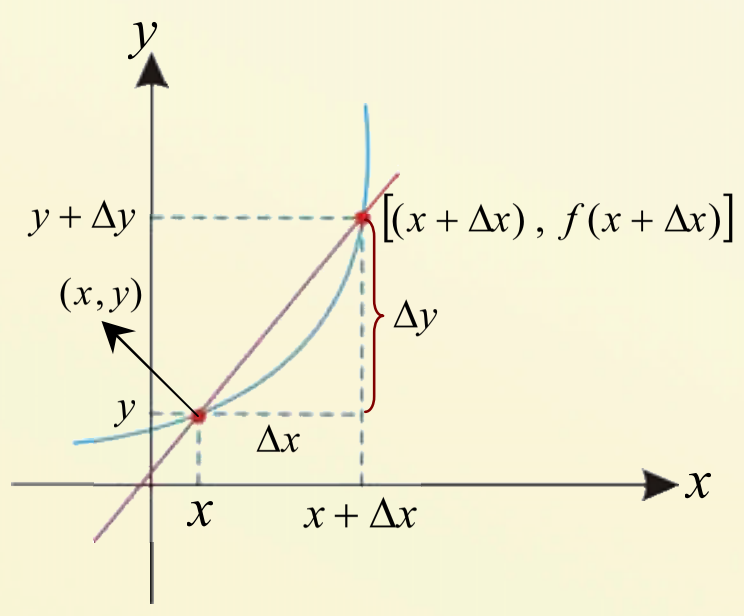

تعريف: د تابع او د متحول د بدلون د لېميټ نسبت ته کله چې د متحول تزايد صفر ته تقرب وکړي د تابع مشتق بلل کېږي؛ لکه: $\lim_{\Delta x\to 0}\frac{\Delta y}{\Delta x}$ او هغه په $f'(x)$ يا y' ، $\frac{df}{dx}$ ، $\frac{dy}{dx}$ ښودل کېږي.

$$\lim_{\Delta x\to 0}\frac{\Delta y}{\Delta x}=\frac{dy}{dx}=\frac{df(x)}{dx}=y'=f'(x)$$

لومړی مثال: که $f(x)=2x$ وي، د دې تابع مشتق پيدا کړئ.

(c) ketabton.com: The Digital Library

حل: د مشتق د تعریف څخه په ګټه اخیستنې سره لیکلای شو، چې:

$$f'(x)=\lim_{\Delta x\to 0}\frac{f(x+\Delta x)-f(x)}{\Delta x}=\lim_{\Delta x\to 0}\frac{2(x+\Delta x)-2x}{\Delta x}=\lim_{\Delta x\to 0}\frac{2x+2\Delta x-2x}{\Delta x}$$

$$f'(x)=\lim_{\Delta x\to 0}\frac{2\Delta x}{\Delta x}\Rightarrow f'(x)=2$$

دویم مثال: د $f(x)=x^3$ د تابع مشتق پیداکړئ.

حل:

$$f'(x)=\lim_{\Delta x\to 0}\frac{f(x+\Delta x)-f(x)}{\Delta x}=\lim_{\Delta x\to 0}\frac{(x+\Delta x)^3-x^3}{\Delta x}=\lim_{\Delta x\to 0}\frac{x^3+3x^2\Delta x+3x(\Delta x)^2+(\Delta x)^3-x^3}{\Delta x}$$

$$=\lim_{\Delta x\to 0}\frac{\Delta x(3x^2+3x(\Delta x)+(\Delta x)^2)}{\Delta x}=3x^2+3x(0)+0^2\quad\Rightarrow\quad f'(x)=3x^2$$

دریم مثال: د $x\geq 0$, $f(x)=\sqrt{x}$ مشتق پیداکړئ.

حل: مخکې له حل څخه $x\geq 0$ حالت په پام کې نیسو:

الف: که $x>0$ وي؛ نو د مشتق د تعریف په مرسته لیکو:

$$f'(x)=\lim_{\Delta x\to 0}\frac{f(x+\Delta x)-f(x)}{\Delta x}=\lim_{\Delta x\to 0}\frac{\sqrt{x+\Delta x}-\sqrt{x}}{\Delta x}$$

$$=\lim_{\Delta x\to 0}\frac{(\sqrt{x+\Delta x}-\sqrt{x})(\sqrt{x+\Delta x}+\sqrt{x})}{\Delta x(\sqrt{x+\Delta x}+\sqrt{x})}$$

صورت او مخرج د صورت په مزدوج کې ضربوو:

$$=\lim_{\Delta x\to 0}\frac{x+\Delta x-x}{\Delta x(\sqrt{x+\Delta x}+\sqrt{x})}=\lim_{\Delta x\to 0}\frac{1}{\sqrt{x+\Delta x}+\sqrt{x}}\quad\Rightarrow f'(x)=\frac{1}{2\sqrt{x}}$$

ب: که $x=0$ شي نو $\lim_{h\to 0}\frac{1}{\sqrt{x+\Delta x}+\sqrt{x}}$ موجود نه دی، نو د $y=\sqrt{x}$ تابع د $x=0$ په ټکي کې د اشتقاق وړ نه وي لکه چې په شکل کې لیدل کېږي؛ یعنې که x ډېر لوی شي، نو د مماس میل صفر ته نږدې کېږي او د $x=0$ په ټکي کې د مماس میل ډېر لویږي $(\frac{1}{2\sqrt{x}})$، چې مماس په یوه عمود خط بدلیږي.

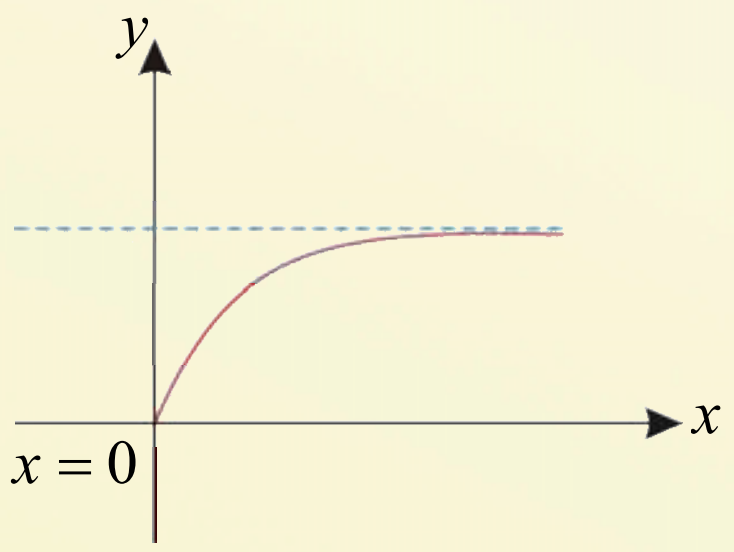

پوښتنې

دلاندې توابعو مشتق د تعریف په مرسته پیداکړئ.

1) $f(x)=x-x^2$ 2) $f(x)=-2x^2$ 3) $f(x)=2x^2+x$

(c) ketabton.com: The Digital Library

د مشتق هندسي تعبير

په مخامخ شکل کې څه وينئ د هغه په اړه مناقشه وکړئ.

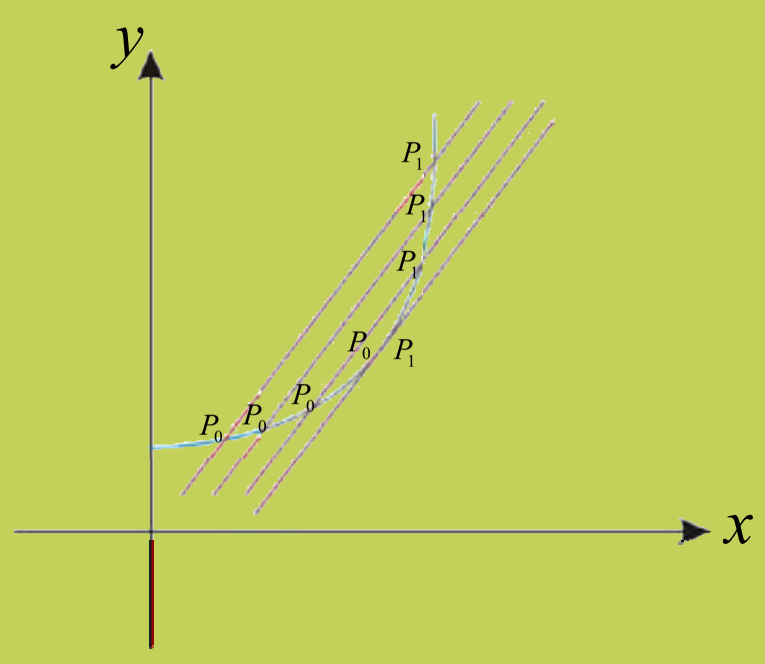

فعاليت

- د وضعيه کمياتو په مستوي کې د C منحني يا د $f(x)$ تابع داسې چې د $[a,b]$ متمادي وي ګراف رسم او د $P(x_0, f(x_0))$ او $Q(x_0+\Delta x\,,\,f(x_0+\Delta x))$ ټکي د منحني پرمخ وټاکئ.
- د Δ مستقيم خط داسې رسم کړئ، چې د منحني د P او Q له ټکو څخه تېر شي.
- آيا ويلای شئ چې د Δ مستقيم خط د x د محور له مثبت جهت سره څه ډول زاويه جوړوي؟
- ووايئ چې د $\frac{\Delta y}{\Delta x}$ يا $\frac{HQ}{HP}$ نسبت د څه په نامه ياديږي؟
- که د Q ټکی د P ټکي ته ډېر نږدې شي $(\Delta x \to 0)$، نو د Δ مستقيم خط په څه ډول کرښه بدلېږي په شکل کې يې وښيئ.
- د $\frac{\Delta y}{\Delta x}$ لېميټ کله چې $\Delta x \to 0$ وکړي، د $P(x_0, f(x_0))$ په ټکي کې وڅېړئ.

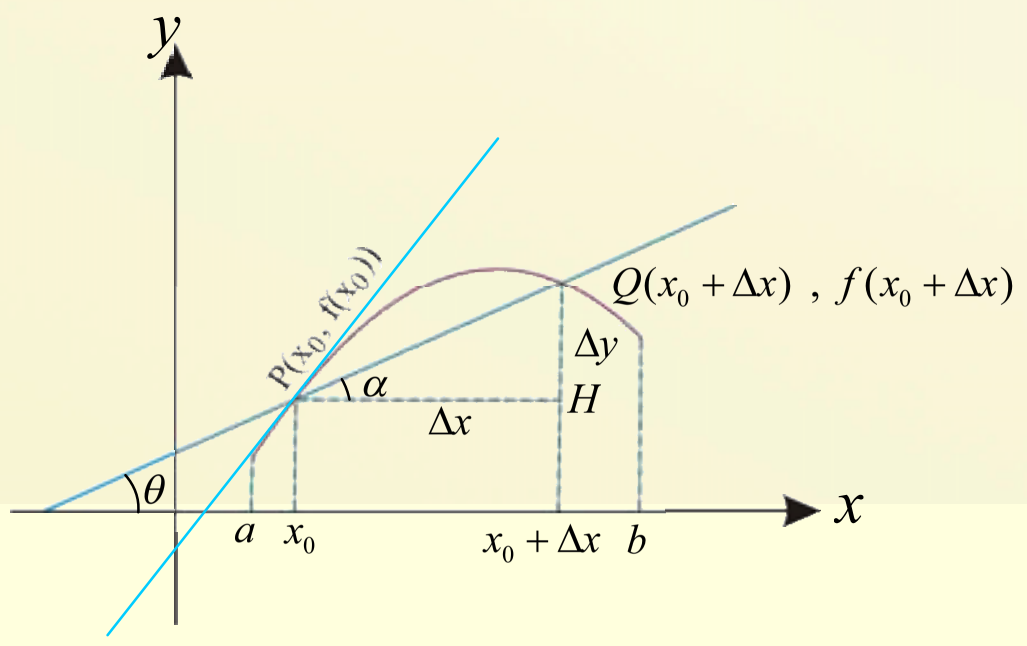

د پورتنۍ فعاليت پايله داسې بيانوو:

د $f(x)$ منحني د تابع مشتق، د $P(x_0, f(x_0))$ په ټکي کې د مماس له ميل سره برابر دی؛ يعني:

$$\lim_{\Delta x \to 0} \frac{\Delta y}{\Delta x} = y' = \tan\alpha = \tan\theta = m_\Delta$$

تعريف: د مماس ميل د منحني د تماس په ټکي کې د تابع د مشتق څخه په هغه ټکي کې عبارت دی، يا په بل عبارت د هغې زاويې د ټانجنټ څخه عبارت دی چې د Δ مستقيم خط يې د x د محور له مثبت جهت سره جوړوي.

(c) ketabton.com: The Digital Library

لومړی مثال: د هغه مماس میل او معادله چې د $f(x) = 2x^3 - 1$ په منحني د $A(1,1)$ په ټکي کې رسمېږي پیدا کړئ.

حل: پوهېږو چې $m = \tan\alpha = f'(x)$ دی، نو لیکلای شو؛ چې:

$$f(x) = 2x^3 - 1$$

$$f'(x) = \lim_{\Delta x\to 0}\frac{f(x+\Delta x)-f(x)}{\Delta x} = \lim_{\Delta x\to 0}\frac{2(x+\Delta x)^3 - 1 - (2x^3-1)}{\Delta x} = \lim_{\Delta x\to 0}\frac{2[x^3+3x^2\Delta x+3x\Delta x^2+(\Delta x)^3]}{\Delta x}$$

$$= \lim_{\Delta x\to 0}\frac{2x^3+6x^2\Delta x+6x(\Delta x)^2+2(\Delta x)^3-1-2x^3+1}{\Delta x} = \lim_{\Delta x\to 0}\frac{\Delta x[6x^2+6x\Delta x+2(\Delta x)^2]}{\Delta x}$$

$$= \lim_{\Delta x\to 0}[6x^2+6x(\Delta x)+(\Delta x)^2] = 6x^2$$

بناءً د مماس د میل قیمت د $A(1,1)$ په ټکي کې مساوي دی په: $m = f'(x) = f'(1) = 6x^2 = 6\cdot 1^2 = 6$

نو د مماس معادله په لاندې ډول ده:

$$y - y_1 = m(x - x_1)$$

$$y - 1 = 6(x-1) \Rightarrow \ y = 6x - 5$$

دویم مثال: د $y = x^2 + 1$ د تابع د مماسل میل قیمت د $x_0 = 2$ په ټکي کې په لاس راوړئ.

حل:

$$y' = \lim_{\Delta x\to 0}\frac{(x_0+\Delta x)^2+1-(x_0^2+1)}{\Delta x} = \lim_{\Delta x\to 0}\frac{x_0^2+2(\Delta x)x_0+(\Delta x)^2+1-x_0^2-1}{\Delta x}$$

$$= \lim_{\Delta x\to 0}(2x_0+(\Delta x)) = 2x_0$$

$$m = y' = 2x_0 = 2\cdot 2$$

$$y' = m = 4$$

دریم مثال: د $y = f(x) = x^2$ تابع ورکړل شوې ده، غواړو د $x = x_0$ په ټکي او په ځانګړي توګه د $x_0 = 2$ په ټکي کې د تابع مشتق پیدا کړو:

$$x = x_0$$

$$\frac{\Delta y}{\Delta x} = \frac{f(x_0+\Delta x)-f(x_0)}{\Delta x}$$

$$\frac{\Delta y}{\Delta x} = \frac{(x_0+\Delta x)^2 - x_0^2}{\Delta x}$$

$$\frac{\Delta y}{\Delta x} = \frac{x_0^2+2x_0\Delta x+(\Delta x)^2-x_0^2}{\Delta x}$$

$$\frac{\Delta y}{\Delta x} = \frac{2x_0\Delta x+(\Delta x)^2}{\Delta x}$$

$$\frac{\Delta y}{\Delta x} = \frac{\Delta x(2x_0+\Delta x)}{\Delta x}$$

$$\frac{\Delta y}{\Delta x} = 2x_0 + \Delta x$$

اوس د حد د لاس ته راوړلو له لارې لیکلای شو: $f'(x_0) = \lim_{\Delta x\to 0}\frac{\Delta y}{\Delta x} = \lim_{\Delta x\to 0}(2x_0+\Delta x) = 2x_0$

(c) ketabton.com: The Digital Library

خرنگه چې $x_0 = 2$ دی، نو $f'(2) = 2\cdot 2 = 4$ یعنې د $x_0 = 2$ په ټکي کې د $y = f(x) = x^2$ د تابع لومړی مشتق له 4 سره برابر دی. دا په دې معنی چې د مستقیم خط میل د $x_0 = 2$ په ټکي کې 4 دی.

څلورم مثال: د $f(x) = x^3$ تابع مشتق پیداکړئ.

حل:

$$\frac{\Delta y}{\Delta x} = \frac{f(x_0+\Delta x) - f(x_0)}{\Delta x}$$

$$\frac{\Delta y}{\Delta x} = \frac{(x_0+\Delta x)^3 - x_0^3}{\Delta x}$$

$$\frac{\Delta y}{\Delta x} = \frac{x_0^3 + 3x_0^2\Delta x + 3x_0(\Delta x)^2 + (\Delta x)^3 - x_0^3}{\Delta x}$$

$$\frac{\Delta y}{\Delta x} = \frac{3x_0^2\Delta x + 3x_0(\Delta x)^2 + (\Delta x)^3}{\Delta x}$$

$$\frac{\Delta y}{\Delta x} = \frac{\Delta x(3x_0^2 + 3x_0\Delta x + (\Delta x^2))}{\Delta x}$$

$$\frac{\Delta y}{\Delta x} = 3x_0^2 + 3x_0\Delta x + (\Delta x^2)$$

$$f'(x) = \lim_{\Delta x\to 0}\frac{\Delta y}{\Delta x} = \lim_{\Delta x\to 0}(3x_0^2 + 3x_0\Delta x + (\Delta x)^2) = 3x_0^2$$

نو $f(x)$ د تابع مشتق د x_0 په ټکي کې برابر دي له: $f'(x_0) = 3x_0^2$

پنځم مثال: د x_0 په ټکي کې د $f(x) = \frac{1}{x}$ تابع مشتق پیداکړئ.

حل:

$$\frac{\Delta y}{\Delta x} = \frac{f(x_0+\Delta x) - f(x_0)}{\Delta x}$$

$$f(x_0) = \frac{1}{x_0}$$

$$f(x_0) + \Delta y = \frac{1}{x_0+\Delta x}$$

$$\Delta y = \frac{1}{x_0+\Delta x} - f(x_0)$$

$$\Delta y = \frac{1}{x_0+\Delta x} - \frac{1}{x_0}$$

$$\Delta y = \frac{x_0 - (x_0+\Delta x)}{x_0(x_0+\Delta x)}$$

د مساوات دواړه خواوې په Δx وېشو:

$$\frac{\Delta y}{\Delta x} = \frac{\frac{x_0 - x_0 - \Delta x}{x_0(x_0+\Delta x)}}{\Delta x}$$

$$\frac{\Delta y}{\Delta x} = \frac{\frac{-\Delta x}{x_0(x_0+\Delta x)}}{\Delta x}$$

$$\frac{\Delta y}{\Delta x} = \frac{-\Delta x}{\Delta x\cdot x_0(x_0+\Delta x)} \Rightarrow \frac{\Delta y}{\Delta x} = \frac{-1}{x_0(x_0+\Delta x)}$$

$$\lim_{\Delta x\to 0}\frac{\Delta y}{\Delta x} = \lim_{\Delta x\to 0}\frac{-1}{x_0(x_0+\Delta x)}$$

$$f'(x_0) = \frac{-1}{x_0(x_0+0)} = \frac{-1}{x_0^2}$$

نو $f'(x_0) = -\frac{1}{x_0^2}$ د x_0 په ټکي کې د $f(x)$ مشتق دی.

(c) ketabton.com: The Digital Library

د مشتق تابع یې $f'(x_0) = -\frac{1}{x_0^2}$

پوښتنې

1. په لاندې پوښتنو کې د تابعگانو مشتق پیدا کړئ.

1) $f(x) = 5x^2 - 2$ 2) $f(x) = \frac{2}{x}$

2. **په ورکړل شویو ټکو کې د لاندې تابعگانو مشتق پیدا کړئ.**

1) $f(x) = 4x^2 \quad , \quad x_0 = \frac{1}{2}$ 2) $f(x) = 3x - 1 \quad , \quad x_0 = -1$

(c) ketabton.com: The Digital Library

د مشتق قوانین

آیا کولای شئ چې د مخامخ تابع مشتق پرته د تزاید له لارې په بله طریقه پیدا کړئ؟

$$f(x) = 2x^2$$

1- د یوه ثابت عدد مشتق:

فعالیت

د $y = C$ تابع، (C ثابت عدد) په پام کې ونیسئ.

- تابع ته د Δx په اندازه بدلون(تزاید) ورکړئ، د تابع د تزاید په اړه څه فکر کوئ؟
- د تابع او متحول د بدلون(تزاید) نسبت تشکیل کړئ.
- د پورته مساوتو له دواړو خواوو لیمیټ ونیسئ په هغه صورت کې چې $\Delta x \to 0$ وکړي.

د پورتني فعالیت پایله داسې بیانوو:

د هرې ثابتې $f(x) = C$ تابع مشتق له صفر سره مساوي دی، ځکه چې د هرې ثابتې تابع ګراف یوه افقي کرښه ده چې میل یې صفر دی.

ثبوت:

$y = C$	$\frac{\Delta y}{\Delta x} = \frac{C - C}{\Delta x}$
$y + \Delta y = C$	$\lim_{\Delta x \to 0} \frac{\Delta y}{\Delta x} = \lim_{\Delta x \to 0} \frac{0}{\Delta x}$
$\Delta y = C - y$	$y' = 0$
$\Delta y = C - C$	

مثال: د $f(x) = \pi^4$ او $y = 100$ تابعګانو مشتق پیدا کړئ.

حل: څرنګه چې π^4 او 100 ثابت عددونه دي؛ نو:

$$f(x) = C \quad \Rightarrow \quad f'(x) = 0$$
$$f(x) = \pi^4 \quad \Rightarrow \quad f'(x) = 0$$
$$f(x) = 100 \quad \Rightarrow \quad f'(x) = 0$$

(c) ketabton.com: The Digital Library

2- د يوې طاقت لرونکي تابع مشتق:

فعاليت

د $y = x^n$ تابع چې $n \in IR$ او $n \geq 1$ وي، په پام کې ونيسئ.

- متحول ته د Δx په اندازه تزايد ورکړئ، آيا تابع هم تزايد کوي که تزايد کوي په کومه اندازه اړيکه يې وليکئ؟
- د پورته اړيکې څخه د Δy قيمت پيدا کړئ، د متحول او تابع د تزايد نسبت تشکيل کړئ.
- د پورته مساوات له اطرافو څخه په هغه صورت کې لېمټ ونيسئ چې $\Delta x \to 0$ وکړي.

د پورته فعاليت پايله داسې ثبوتوو:

که چېرې $f(x) = x^n$ راکړل شوې وي، نو $f'(x) = nx^{n-1}$ سره کېږي.

ثبوت:

$$y = x^n$$

$$y + \Delta y = (x+\Delta x)^n \quad \Rightarrow \quad \Delta y = (x+\Delta x)^n - y$$

$$\Delta y = (x+\Delta x)^n - x^n$$

$$\Delta y = (x+\Delta x - x)[(x+\Delta x)^{n-1} + (x+\Delta x)^{n-2}x + (x+\Delta x)^{n-3}x^2 + \ldots + x^{n-1}]$$

$$\Delta y = \Delta x[(x+\Delta x)^{n-1} + (x+\Delta x)^{n-2}x + (x+\Delta x)^{n-3}x^2 + \ldots + x^{n-1}]$$

$$\lim_{\Delta x \to 0}\frac{\Delta y}{\Delta x} = \lim_{\Delta x \to 0}\frac{\Delta x[(x+\Delta x)^{n-1} + (x+\Delta x)^{n-2}x + (x+\Delta x)^{n-3}x^2 + \ldots + x^{n-1}]}{\Delta x}$$

$$\lim_{\Delta x \to 0}\frac{\Delta y}{\Delta x} = \lim_{\Delta x \to 0}\left[(x+\Delta x)^{n-1} + (x+\Delta x)^{n-2}x + (x+\Delta x)^{n-3}x^2 + \ldots + x^{n-1}\right]$$

$$y' = \underbrace{x^{n-1} + x^{n-1} + x^{n-1} + \ldots + x^{n-1}}_{n \text{ ځلې } x^{n-1}}$$

$$y' = nx^{n-1}$$

لومړی مثال: د $f(x) = x^5$ د تابع مشتق د $x = \frac{1}{2}$ په ټکي کې وټاکئ.

حل:

$$f(x) = x^5 \Rightarrow f(x)' = 5x^{5-1} \Rightarrow f'(x) = 5x^4$$

$$f(\frac{1}{2}) = 5 \cdot (\frac{1}{2})^4 = 5 \cdot \frac{1}{16} = \frac{5}{16}$$

پوښتنې

د لاندې تابعګانو مشتق پيدا کړئ.

1) $f(x) = x^{-2}$ 2) $x(t) = gt^2$ 3) $t(x) = x^8$

4) $f(x) = x^{\frac{2}{3}}$ 5) $f(x) = 10^{10}$

(c) ketabton.com: The Digital Library

3- د حاصل جمع مشتق:

فعالیت

د u او v مشتق منوونکي تابعگاني په پام کې ونیسئ.

- آیا د $y = u + v$ تابع د مشتق وړ ده؟
- د $y = u + v$ په تابع کې $u(x)$ ته د Δu په اندازه او $v(x)$ ته د Δv په اندازه تزاید ورکړئ، د y د تزاید په اړه څه فکر کوئ؟ د هغې اندازه ولیکئ.
- لومړی د تابع تزاید پیدا او بیا د رابطې دواړه خواوې په Δx وویشئ او وروسته یې لیمیټ په هغه صورت کې پیدا کړئ، چې $\Delta x \to 0$ وکړي.

د پورته فعالیت پایله داسې ثبوتوو:

ثبوت:

د یو حاصل جمع مشتق د حدونو د مشتقاتو د جمعې له حاصل سره مساوي ده:

$$y = u + v$$
$$y + \Delta y = u + \Delta u + v + \Delta v$$
$$\Delta y = u + \Delta u + v + \Delta v - y$$
$$\Delta y = u + \Delta u + v + \Delta v - u - v$$
$$\Delta y = \Delta u + \Delta v$$
$$\frac{\Delta y}{\Delta x} = \frac{\Delta u + \Delta v}{\Delta x}$$
$$\lim_{\Delta x \to 0} \frac{\Delta y}{\Delta x} = \lim_{\Delta x \to 0} \frac{\Delta u}{\Delta x} + \lim_{\Delta x \to 0} \frac{\Delta v}{\Delta x}$$

څرنگه چې $\lim_{\Delta x \to 0} \frac{\Delta u}{\Delta x} = u'$ او $\lim_{\Delta x \to 0} \frac{\Delta v}{\Delta x} = v'$ دی، نو : $y' = u' + v'$

4- د حاصل تفریق مشتق

که $y = u - v$ وي، نو $y' = u' - v'$ دی.

ثبوت یې د زده‌کوونکو کورنی دنده ده.

لومړی مثال: د $y = 2x + 1$ د تابع مشتق پیدا کړئ.

حل: لیدل کېږي چې $u = 2x$ او $v = 1$ دی، نو:

$$u' = 1 \cdot 2x^{1-1} = 2x^0$$
$$u' = 2$$
$$v' = 0$$

(c) ketabton.com: The Digital Library

بناءً: $y'=u'+v' \Rightarrow y'=(2x)'+(1)' \Rightarrow y'=2+0 \Rightarrow y'=2$

دویم مثال: د $f(x)=4x^2-3x+5$ د تابع مشتق پیداکړئ.

حل: په دې تابع کې $u=4x^2$, $v=3x$ او $w=5$ دی چې $u'=8x$, $v'=3$ او $w'=0$ کېږي، نو:

$$y'=u'+v'+w'$$
$$y'=(4x^2)'-(3x)'+(5)'$$
$$y'=8x-3$$

دریم مثال: د لاندې تابعګانو مشتقونه پیداکړئ:

1) $y=12x-7$
$y'=(12x)'-(7)'$
$y'=12$

2) $f(x)=9x^2-12x+4$
$f'(x)=(9x^2)'-(12x)'+(4)'$
$f'(x)=18x-12$

3) $f(x)=6x^3-2x^2+6x-1$
$f'(x)=(6x^3)'-(2x^2)'+(6x)'-(1)'$
$f'(x)=18x^2-4x+6$

5- د حاصل ضرب مشتق:

که د u او v توابع مشتق منونکي وي، نو $u \cdot v$ هم مشتق منونکي دي، د $y=u \cdot v$ تابع په پام کې ونیسئ.

- **په پورتنی تابع کې u ته Δu په اندازه، v ته Δv په اندازه تزاید ورکړئ او د تابع تزاید پیداکړئ.**
- د Δy د تزاید له پیداکولو وروسته د مساوات اطراف په Δx وویشئ.
- د پورتنی رابطې د دواړو خواوو څخه په هغه صورت کې لیمیټ ونیسئ، چې $\Delta x \to 0$ وکړي.

له پورتني فعالیت پایله داسې ثبوتوو:

ثبوت:

$$y=u \cdot v$$
$$y+\Delta y=(u+\Delta u)(v+\Delta v) \quad \Rightarrow \quad \Delta y=(u+\Delta u)(v+\Delta v)-y$$
$$\Delta y=u \cdot v+u \cdot \Delta v+v \cdot \Delta u+\Delta u \cdot \Delta v-u \cdot v$$
$$\frac{\Delta y}{\Delta x}=\frac{u \cdot \Delta v+v \cdot \Delta u+\Delta u \cdot \Delta v}{\Delta x}=v \cdot \frac{\Delta u}{\Delta x}+u\frac{\Delta v}{\Delta x}+\Delta u \cdot \frac{\Delta v}{\Delta x}$$
$$\lim_{\Delta x\to 0}\frac{\Delta y}{\Delta x}=v\lim_{\Delta x\to 0}\frac{\Delta u}{\Delta x}+u\lim_{\Delta x\to 0}\frac{\Delta v}{\Delta x}+\lim_{\Delta x\to 0}\Delta u \cdot \lim_{\Delta x\to 0}\frac{\Delta v}{\Delta x}$$
$$y'=v \cdot u'+u \cdot v'+0 \cdot v'$$
$$y'=u'v+v'u$$

(c) ketabton.com: The Digital Library

لومړی مثال: د $y = x^3(x^2-3)$ د تابع مشتق پیدا کړئ؟

حل: پوهېږو، چې $y = u \cdot v$ شکل لري چې په دې صورت کې $y' = uv' + vu'$ دی.

$$\left.\begin{array}{l} u = x^3 \Rightarrow u' = 3x^2 \\ v = x^2 - 3 \Rightarrow v' = 2x \end{array}\right\} \Rightarrow \begin{array}{l} y' = u'v + v'u \\ y = x^3(x^2-3) \\ y' = 3x^2(x^2-3) + 2x(x^3) \\ y' = 3x^4 - 9x^2 + 2x^4 = 5x^4 - 9x^2 \end{array}$$

دویم مثال: د $y = (5x-1)^2$ د تابع مشتق پیدا کړئ.

حل: د y تابع کولای شو د فکتورونو د ضرب په شکل داسې ولیکو:

$$y = (5x-1)^2 = (5x-1)(5x-1)$$

$$\left.\begin{array}{l} u = 5x-1 \Rightarrow u' = 5 \\ v = 5x-1 \Rightarrow v' = 5 \end{array}\right\} \Rightarrow \begin{array}{l} y' = u'v + v'u \\ y' = 5(5x-1) + 5(5x-1) \\ y' = 25x - 5 + 25x - 5 = 50x - 10 \end{array}$$

6- د حاصل تقسیم مشتق:

که د u او v تابعګانې مشتق منونکې وي؛ نو $\frac{u}{v}$ کله چې $v \neq 0$ وي، هم مشتق منوونکی ده، اوس د $y = \frac{u}{v}$ تابع په پام کې ونیسئ.

- u او v ته په ترتیب سره Δu او Δv په اندازه تزاید ورکړې او د y تابع تزاید پیدا کړئ.
- د مساوات دواړه خواوې په Δx وویشئ.
- د پورتني رابطې له اطراف څخه په هغه صورت کې چې $\Delta x \to 0$ وکړې، لېمیټ ونیسې.

د پورتني فعالیت پایله داسې ثبتوو:

(c) ketabton.com: The Digital Library

ثبوت:

$$y=\frac{u}{v} \Rightarrow y+\Delta y=\frac{u+\Delta u}{v+\Delta v} \Rightarrow \Delta y=\frac{u+\Delta u}{v+\Delta v}-y$$

$$\Delta y=\frac{u+\Delta u}{v+\Delta v}-\frac{u}{v}=\frac{uv+v\cdot\Delta u-uv-u\cdot v\Delta}{v(v+\Delta v)}$$

$$\Delta y=\frac{v\cdot\Delta u-u\cdot\Delta v}{v(v+\Delta v)}$$

$$\frac{\Delta y}{\Delta x}=\frac{\frac{v\cdot\Delta u-u\cdot\Delta v}{v(v+\Delta v)}}{\Delta x}=\frac{v\cdot\frac{\Delta u}{\Delta x}-u\cdot\frac{\Delta v}{\Delta x}}{v(v+\Delta v)}$$

$$\lim_{\Delta x\to 0}\frac{\Delta y}{\Delta x}=\lim_{\Delta x\to 0}\left(\frac{v\frac{\Delta u}{\Delta x}-u\frac{\Delta v}{\Delta x}}{v(v+\Delta v)}\right)=\frac{v\lim_{\Delta x\to 0}\frac{\Delta u}{\Delta x}-u\lim_{\Delta x\to 0}\frac{\Delta v}{\Delta x}}{v\cdot\lim_{\Delta x\to 0}(v+\Delta v)}$$

$$y'=\frac{u'v-v'u}{v^2}$$

لومړی مثال: د $y=\frac{2+3x}{1-2x}$ تابع مشتق پيدا کړئ.

حل: ليدل کېږي چې تابع د $\frac{u}{v}$ بنه لري چې مشتق يې عبارت دی له:

$$\left.\begin{array}{l} u=2+3x \Rightarrow u'=3 \\ v=1-2x \Rightarrow v'=-2 \end{array}\right\} \Rightarrow \begin{array}{l} y=\frac{u}{v} \Rightarrow y'=\frac{u'v-v'u}{v^2} \\ y'=\frac{3(1-2x)-[-2(2+3x)]}{(1-2x)^2} \\ =\frac{3-6x+4+6x}{(1-2x)^2}=\frac{7}{(1-2x)^2} \end{array}$$

يادونه: که چيرې وغواړو چې د يوې تابع مشتق په يوه ټاکلې نقطه لکه په x_0 کې پيدا کړو وروسته د تابع د مشتق څخه ټاکلی قيمت په هغه کې وضع کوو چې د تابع مشتق په هغه نقطه کې پيدا کړو، لکه:

(c) ketabton.com: The Digital Library

دویم مثال: د $f(y)=\frac{2y^2-3}{1-3y}$ د تابع مشتق د $y=0$ په ټکي کې پیدا کړئ:

حل: د تابع د حاصل تقسیم د مشتق څخه لرو:

$$f'(y)=\frac{4y(1-3y)-[-3(2y^2-3)]}{(1-3y)^2}=\frac{4y-12y^2+6y^2-9}{(1-3y)^2}$$

$$f'(y)=\frac{-6y^2+4y-9}{(1-3y)^2}$$

$$f(0)=\frac{-6(0)^2+4(0)-9}{1+0}$$

$$f(0)=-9$$

$$\left.\begin{array}{l} u=2y^2-3 \Rightarrow u'=4y \\ v=1-3y \Rightarrow v'=-3 \end{array}\right\}$$

درییم مثال: د $f(t)=\frac{-3}{2t-1}$ د تابع مشتق پیدا کړئ.

حل: پوهیږو چې تابع د $\frac{u}{v}$ بڼه لري نو د $y=\frac{u}{v}$ له فورمول څخه په ګټه اخیستنې سره داسې عمل کوو:

$$\left.\begin{array}{ll} y=\frac{u}{v} & \Rightarrow y'=\frac{u'v-v'u}{v^2} \\ u=-3 & \Rightarrow u'=0 \\ v=2t-1 & \Rightarrow v'=2 \end{array}\right\} \Rightarrow f'(t)=\frac{0\cdot(2t-1)-2(-3)}{(2t-1)^2}=\frac{6}{(2t-1)^2}$$

پوښتنې

د لاندې توابعو مشتق پیدا کړئ:

1) $f(x)=\frac{3}{5}x(x-2)$ 2) $g(x)=(2x-3)(x-3)$ 3) $f(x)=(2x-1)^2$

4) $f(t)=\frac{t^2}{1-2t}$ 5) $f(x)=\frac{1}{x^2-2}$ 6) $f(x)=\frac{ax+b}{cx+d}$

7) $f(x)=3x^5-5x^2$ 8) $f(x)=7x+3$

(c) ketabton.com: The Digital Library

7- د يوې مربع جذري تابع مشتق:

فعالیت

د $y=\sqrt{x}$ تابع په پام کې ونیسي.

- د $y=\sqrt{x}$ تابع متحول ته د Δx په اندازه تزاید ورکړئ د تابع تزاید پیدا کړئ.
- د لاس راغلي رابطې له دواړو خواوو څخه لېمیټ په هغه صورت کې ونیسي، چې $\Delta x\to 0$ وکړي.

د پورتني فعالیت پایله داسې ثبوتوو:

ثبوت:

$$y=\sqrt{x}\Rightarrow y+\Delta y=\sqrt{x+\Delta x}$$
$$\Delta y=\sqrt{x+\Delta x}-\sqrt{x}$$

د مساوات د ښي اړخ صورت او مخرج د صورت په مزدوج کې ضربوو:

$$\Delta y=\frac{(\sqrt{x+\Delta x}-\sqrt{x})(\sqrt{x+\Delta x}+\sqrt{x})}{\sqrt{x+\Delta x}+\sqrt{x}}=\frac{x+\Delta x-x}{\sqrt{x+\Delta x}+\sqrt{x}}=\frac{\Delta x}{\sqrt{x+\Delta x}+\sqrt{x}}$$

$$\frac{\Delta y}{\Delta x}=\frac{1}{\sqrt{x+\Delta x}+\sqrt{x}}\Rightarrow \lim_{\Delta x\to o}\frac{\Delta y}{\Delta x}=\lim_{\Delta x\to o}\frac{1}{\sqrt{x+\Delta x}+\sqrt{x}}=\frac{1}{2\sqrt{x}}$$

$$\boxed{y'=\frac{1}{2\sqrt{x}}}$$

لومړی مثال: د $f(x)=\sqrt{x}(x^2-1)$ د تابع مشتق پیدا کړئ.

حل: لیدل کېږي چې تابع د $u\cdot v$ بڼه لري، نو:

$$\left.\begin{aligned}u=\sqrt{x}\Rightarrow u'=\frac{1}{2\sqrt{x}}\\ v=x^2-1\Rightarrow v'=2x\end{aligned}\right\}\Rightarrow$$

$$f'(x)=\frac{1}{2\sqrt{x}}(x^2-1)+2x\cdot\sqrt{x}$$

$$f'(x)=\frac{x^2-1}{2\sqrt{x}}+2x\sqrt{x}=\frac{x^2-1+4x(\sqrt{x})^2}{2\sqrt{x}}$$

$$=\frac{x^2-1+4x^2}{2\sqrt{x}}=\frac{5x^2-1}{2\sqrt{x}}$$

(c) ketabton.com: The Digital Library

8- د $\sqrt{u}$ تابع د جذري مربع مشتق

فعالیت

- که چیرې y د u او u د x تابع او مشتق منوونکي وي د y اړیکه u ته او u، x ته څه فکر کوئ.
- د u متحول ته د Δu په اندازه تزاید ورکړئ د Δy د تزاید په اړه څه فکر کوئ.
- د مساواتو له دواړو خواوو څخه لیمیټ ونیسئ چې $\Delta x \to 0$ وکړي.

$$y + \Delta y = \sqrt{u + \Delta u}$$
$$\Delta y = \sqrt{u + \Delta u} - \sqrt{u}$$

د مساوات د ښي اړخ صورت او مخرج د صورت په مزدوج کې ضربوو:

$$\Delta y = \frac{(\sqrt{u+\Delta u} - \sqrt{u})(\sqrt{u+\Delta u} + \sqrt{u})}{\sqrt{u+\Delta u} + \sqrt{u}}$$
$$\Delta y = \frac{u + \Delta u - u}{\sqrt{u+\Delta u} + \sqrt{u}}$$

د مساوات دواړه خواوې په Δx وېشو او بیا د مساوات له دواړو خواوو څخه لیمیټ نیسو چې $\Delta x \to 0$ وکړي.

$$\frac{\Delta y}{\Delta x} = \frac{\Delta u}{\sqrt{u+\Delta u} + \sqrt{u}}$$

$$\lim_{\Delta x \to 0} \frac{\Delta y}{\Delta x} = \lim_{\Delta x \to 0} \frac{\Delta u}{\sqrt{u+\Delta u} + \sqrt{u}} \cdot \frac{1}{\Delta x} = \lim_{\Delta u \to 0 \Rightarrow \Delta x \to 0} \frac{\frac{\Delta u}{\Delta x}}{\sqrt{u+\Delta u} + \sqrt{u}}$$

$$y' = \frac{u'}{\sqrt{u} + \sqrt{u}} = \frac{u'}{2\sqrt{u}}$$

دویم مثال: د $h(x) = (x^2 + x)\sqrt{x}$ د تابع مشتق پیدا کړئ.

حل: د $y = u \cdot v$ او $y = \sqrt{x}$ د فورمولونو له مشتق څخه په ګټه اخیستنې سره لرو:

$$\left.\begin{array}{l} u = x^2 + x \quad \Rightarrow u' = 2x + 1 \\ v = \sqrt{x} \quad \Rightarrow v' = \dfrac{1}{2\sqrt{x}} \end{array}\right\} \Rightarrow \begin{array}{l} h'(x) = (2x+1)\sqrt{x} + \dfrac{1}{2\sqrt{x}}(x^2 + x) \\ h'(x) = 2x\sqrt{x} + \sqrt{x} + \dfrac{x^2 + x}{2\sqrt{x}} \\ h'(x) = \dfrac{4x^2 + 2x + x^2 + x}{2\sqrt{x}} = \dfrac{5x^2 + 3x}{2\sqrt{x}} \end{array}$$

(c) ketabton.com: The Digital Library

دریم مثال: د $f(x)=(\sqrt[3]{x}-1)(x+3)$ د تابع د مشتق قیمت د $x=8$ په ټکي کې په لاس راوړئ.

حل: د $y=u\cdot v$ او $y=\sqrt[n]{u}$ د تابع د مشتق څخه په ګټه اخیستنې سره لیکلای شو:

$$\left.\begin{aligned} u=\sqrt[3]{x}-1 &\Rightarrow u'=\frac{1}{3\sqrt[3]{x^2}} \\ v=x+3 &\Rightarrow v'=1 \end{aligned}\right\}\Rightarrow \begin{aligned} f'(x)&=\frac{1}{3\sqrt[3]{x^2}}(x+3)+1(\sqrt[3]{x}-1) \\ f'(x)&=\frac{x+3}{3\sqrt[3]{x^2}}+(\sqrt[3]{x}-1) \end{aligned}$$

اوس د تابع مشتق د $x=8$ نقطه کې پیدا کوو:

$$f'(8)=\frac{8+3}{3\sqrt[3]{8^2}}+\sqrt[3]{8}-1=\frac{11}{12}+1=\frac{23}{12}$$

پوښتنې

1- د لاندې توابعو مشتقونه پیدا کړئ.

$$f(x)=\frac{1}{x+1}\quad,\quad y=3x^{-3}\quad,\quad f(x)=x^2+3$$

2- که $f(x)=x^2-3x$ او $g(x)=\sqrt{x}-1$ وي، د دې تابعګانو د جمعې، ضرب او تقسیم مشتقونه پیدا کړئ. $[(f+g)',(f\cdot g)',(f\div g)' \quad g\neq 0]$

(c) ketabton.com: The Digital Library

د مرکبو تابعګانو مشتق(زنځیري قاعده)Chain Rule

د مخامخ اړیکې او شکل په اړه خپل نظر بیان کړئ.

$$\frac{dy}{dx}=\frac{dy}{du}\cdot\frac{du}{dx}$$

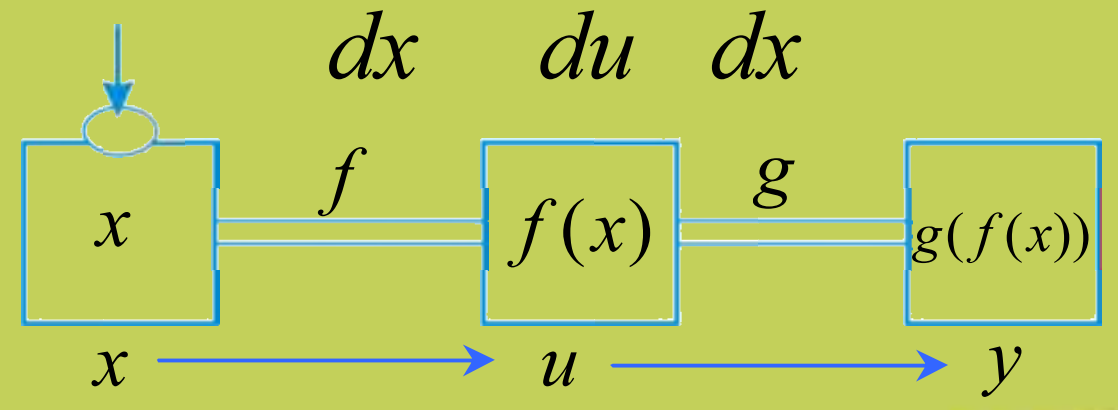

فعالیت

که چیرې y د u او u د x تابع وي او د اشتقاق وړ وي.

- وواياست چې y د u او u له x سره څه اړیکه لري؟
- آیا د $\Delta y=\Delta y\cdot\frac{\Delta u}{\Delta u}$ مساوات حقیقت لري؟
- د پورتني مساوات دواړې خواوې په Δx وویشئ.
- که د ښي اړخ دکسرونو د مخرجونو ځایونه بدل شي، په پورتني رابطه کې بدلون راځي؟
- د پورتني مساوات له اطراف څخه په هغه صورت کې لیمیټ ونیسي چې $\Delta x\to 0$ وکړي.

د پورتني فعالیت پایله داسې ثبوتوو:

د تابع، تابع مشتق ثبوت او پایله یې په لاندې ډول ده.

ثبوت:

$$\Delta y=\Delta y\cdot\frac{\Delta u}{\Delta u}$$

$$\frac{\Delta y}{\Delta x}=\frac{\Delta y}{\Delta x}\cdot\frac{\Delta u}{\Delta u}$$

$$\frac{\Delta y}{\Delta x}=\frac{\Delta y}{\Delta u}\cdot\frac{\Delta u}{\Delta x}$$

$$\lim_{\Delta x\to 0}\frac{\Delta y}{\Delta x}=\lim_{\Delta u\to 0}\frac{\Delta y}{\Delta u}\cdot\lim_{\Delta x\to 0}\frac{\Delta u}{\Delta x}$$

خرنګه چې $\lim_{\Delta u\to 0}\frac{\Delta y}{\Delta u}=y'_{(u)}$ او $\lim_{\Delta x\to 0}\frac{\Delta u}{\Delta x}=u'_{(x)}$ دی، نو: $y'_{(x)}=y'_{(u)}\cdot u'_{(x)}$

د دې زنځیري قاعدې پر بنسټ لاندې پایلې لیکلای شو:

1- که $y=u^n$ وي؛ نو $y=nu^{n-1}\cdot u'$ کېږي.

(c) ketabton.com: The Digital Library

2- که $y=\sqrt[n]{u}$ وي؛ نو $y'=\dfrac{u'}{n\sqrt[n]{u^{n-1}}}$ کېږي.

مثال: د لاندې تابعګانو مشتق پيدا کړئ.

1) $y=(2x^2-1)^3$ 2) $y=\sqrt{1-x^2}$ 3) $y=(x^2-3)^2\cdot 2x^3$

4) $y=\sqrt[3]{x^2-2x^3}$ 5) $y=(x^2-2)^{-3}$

حل: د زنځيري قاعدې په مرسته ليکلای شو؛ چې:

1) $y=\underbrace{(2x^2-1)}_{u}{}^3$

$$\left.\begin{aligned} &u=2x^2-1\Rightarrow u'_x=4x\\ &y=u^3\Rightarrow y'_u=3u^2\end{aligned}\right\}\Rightarrow \begin{aligned} &y'_{(x)}=y'_{(u)}\cdot u'_{(x)}\\ &y'=3(2x^2-1)^2\cdot 4x=3(4x^4-4x^2+1)\cdot 4x\\ &\quad=(12x^4-12x^2+3)\cdot 4x=48x^5-48x^3+12x\\ &\quad=12x(4x^4-4x^2+1)\quad=12x(2x^2-1)^2\end{aligned}$$

2) $y=\sqrt{1-x^2}$

$$\left.\begin{aligned} &u=1-x^2\Rightarrow u'_{(x)}=-2x\\ &y=\sqrt{u}\Rightarrow y'=\frac{u'}{2\sqrt{u}}\end{aligned}\right\}\Rightarrow y'=\frac{-2x}{2\sqrt{1-x^2}}=-\frac{x}{\sqrt{1-x^2}}$$

ليدل کېږي چې تابع د ضرب د حاصل بڼه لري نو: $y=u\cdot v\Rightarrow y'=u'v+v'u$

3) $y=(x^2-3)^2\cdot 2x^3$

$$\left.\begin{aligned} &u=(x^2-3)^2\\ &u'_{(x)}=2(x^2-3)(2x)\\ &v=2x^3\Rightarrow v'_{(x)}=6x^2\end{aligned}\right\}\begin{aligned} &y'=\left[(x^2-3)^2\right]'\cdot 2x^3+\left[2x^3\right]'(x^2-3)^2\\ &y'=\left[2(x^2-3)\cdot 2x\right]2x^3+6x^2(x^2-3)^2\\ &\quad=8x^4(x^2-3)+6x^2(x^2-3)^2\\ &\quad=8x^6-24x^4+6x^2(x^4-6x^2+9)\\ &\quad=8x^6-24x^4+6x^6-36x^4+54x^2\\ &\quad=14x^6-60x^4+54x^2\end{aligned}$$

4) $y=\sqrt[3]{x^2-2x^3}$

$$\left.\begin{aligned} &u=x^2-2x^3\\ &u'_{(x)}=2x-6x^2\end{aligned}\right\}\begin{aligned} &y=\sqrt[n]{u}\Rightarrow y'=\frac{u'}{n\sqrt[n]{u^{n-1}}}\\ &y'=\frac{2x-6x^2}{3\sqrt[3]{(x^2-2x^3)^2}}\end{aligned}$$

5) $y=(x^2-2)^{-3}$

$$\left.\begin{aligned} &u=x^2-2\\ &u'_{(x)}=2x\end{aligned}\right\}\begin{aligned} &y=u^n\Rightarrow y'=nu^{n-1}\cdot u'\\ &y'=-3(x^2-2)^{-4}\cdot 2x=\frac{-6x}{(x^2-2)^4}\end{aligned}$$

(c) ketabton.com: The Digital Library

یادونه:

I. که چیرې د f تابع د (x_0) په ټکي کې مشتق ولري، نو $f'(x_0)$ د هغه مماس میل دی چې د $((x_0)\ ,\ f(x_0))$ په نقطه کې له منحني یا د تابع له ګراف سره رسمیږي.

مثال: د $f(x)=x^3$ د تابع میل د $x_0=1$ په ټکي کې پیدا کړئ.

حل: څرنګه چې $x_0=1$ دی؛ نو: $f(x_0)=1$ سره کېږي او $P(1,1)$ چې د تماس ټکی دی، میل یې عبارت دی، له:

$$f'(x)=\lim_{x\to x_0}\frac{f(x)-f(x_0)}{x-x_0}=\frac{f(x)-f(1)}{x-1}=\lim_{x\to 1}\frac{x^3-1}{x-1}$$
$$=\lim_{x\to 1}\frac{(x-1)(x^2+x+1)}{x-1}=\lim_{x\to 1}(x^2+x+1)=3 \quad\Rightarrow\quad f'(1)=3$$

II. که د f تابع د $x=x_0$ په ټکي کې د مشتق وړ وي، نو دا تابع د x_0 په ټکي کې پیوسته یا متمادي ده، خو برعکس یې ټیک نه ده، یعنې کیدای شي، یوه تابع په یوه ټکي کې متمادي یا پیوسته وي، ولې په هغه ټکي کې د مشتق وړ نه وي.

مثال: د $f(x)=|x|$ د تابع مشتق د $x=0$ په ټکي کې پیدا کړئ.

حل: پوهیږو چې مشتق په حقیقت کې د نیوټن د نسبت د لیمیټ محاسبه ده چې د ښي او کیڼ اړخ لیمیټونه یې په صفر کې سره وڅیړل شي.

$$f'(0^+)=\lim_{x\to 0^+}\frac{f(x)-f(0)}{x-0}=\lim_{x\to 0^+}\frac{|x|}{x}=1$$
$$f'(0^-)=\lim_{x\to 0^-}\frac{f(x)-f(0)}{x-0}=\lim_{x\to 0^-}\frac{|x|}{x}=-1$$

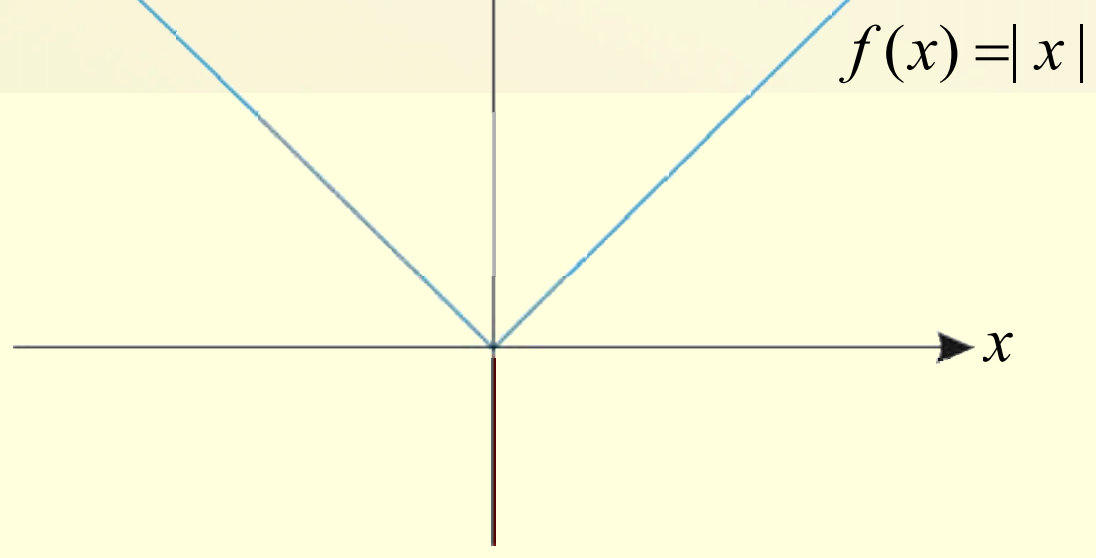

(c) ketabton.com: The Digital Library

ليدل کېږي، چې $f'(0^-) \neq f'(0^+)$ دی، نو تابع په $x = 0$ کې د مشتق وړ نه ده، ولې تابع د صفر په ټکي کې پیوسته یا متمادي ده.

پوښتنې

د لاندې توابعو مشتق پیداکړئ.

1) $y = (x^2 + 2)^2$

2) $f(x) = (x^3 - 4x^2 + 1)^{-4}$

3) $y = (1 - 2x^3)^4$

4) $h(z) = \sqrt{\frac{1-z}{1+z}}$

5) $f(t) = \sqrt[3]{3t+1}$

6) $f(x) = \frac{1}{\sqrt{2 + x^2 + x^3}}$

(c) ketabton.com: The Digital Library

(c) ketabton.com: The Digital Library

د مثلثاتي تابعګانو مشتق

مخامخ ګراف څه ډول تابع را ښيي؟

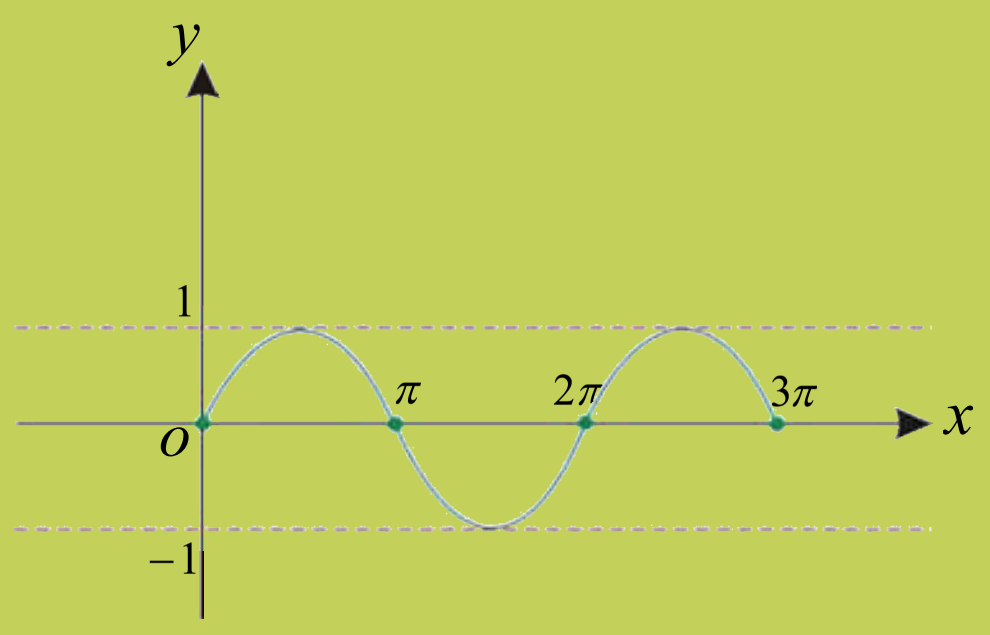

فعالیت

- مثلثاتي دایره او رادیان تعریف کړئ.
- آیا دا $-1 \le \sin x \le 1$ اړیکه حقیقت لري او که نه؟
- د $y=\sin x$ تابع په پام کې ونیسئ متحول د Δx په اندازه بدلون ورکړئ او د تابع بدلون په پام کې ونیسئ.
- د $\sin(x+\Delta x)-\sin x$ مثلثاتي رابطې ته انکشاف ورکړئ؟
- وروسته د انکشاف له پورتني رابطې څخه $\dfrac{\Delta y}{\Delta x}$ نسبت جوړ او د مساوات له دواړو خواوو څخه په هغه صورت کې لیمیټ ونیسئ چې $\Delta x \to 0$ وکړي.

له پورته فعالیت څخه پایله داسې ثبوتو:

1- د $y=\sin x$ تابع مشتق:

ثبوت:

$$y=\sin x$$

$$y+\Delta y=\sin(x+\Delta x)$$

$$\Delta y=\sin(x+\Delta x)-\sin x$$

$$\Delta y=2\cos\frac{x+\Delta x+x}{2}\cdot\sin\frac{x+\Delta x-x}{2}=2\cos\frac{2x+\Delta x}{2}\cdot\sin\frac{\Delta x}{2}$$

$$\frac{\Delta y}{\Delta x}=\frac{1}{\Delta x}\cdot 2\cos(x+\frac{\Delta x}{2})\cdot\sin\frac{\Delta x}{2}=2\cos(x+\frac{\Delta x}{2})\cdot\sin\frac{\frac{\Delta x}{2}}{\Delta x}$$

$$\lim_{\Delta x\to 0}\frac{\Delta y}{\Delta x}=\lim_{\Delta x\to 0}\cos(x+\frac{\Delta x}{2})\cdot\lim_{\Delta x\to 0}\sin\frac{\frac{\Delta x}{2}}{\frac{\Delta x}{2}}\Rightarrow y'(x)=\cos x\cdot 1$$

$$y'=\cos x$$

$$\boxed{y=\sin x\Rightarrow y'=\cos x}$$

که چیرې $f(x)=\sin u$ وي په داسې حال کې چې u د x تابع وي؛ نو لیکلای شو:

$$f(u)=\sin u \Rightarrow y'=u'\cos u$$

لومړی مثال: د $f(x)=\sin 4x$ مشتق پیدا کړئ.

$$\left.\begin{array}{l} f(x)=\sin 4x \\ u=4x \Rightarrow u'=4 \\ f(x)=\sin u \Rightarrow y'_u=\cos u \end{array}\right\} \Rightarrow \begin{array}{l} f(x)=\sin u \Rightarrow f'(x)=u'\cos u \\ f(x)=\sin 4x \Rightarrow f'(x)=4\cos 4x \end{array}$$

دویم مثال: د $f(x)=x^3\cdot\csc x$ د تابع مشتق پیدا کړئ.

حل:

$$\left.\begin{array}{l} f(x)=x^3\cdot\csc x = x^3\cdot\dfrac{1}{\sin x} \\ u=x^3 \Rightarrow u'=3x^2 \\ v=\dfrac{1}{\sin x} \Rightarrow v'=\dfrac{-uv'}{v^2}=\dfrac{-\cos x}{\sin^2 x} \end{array}\right\} \Rightarrow \begin{array}{l} f(x)=x^3\cdot\csc x \\ f'(x)=3x^2\cdot\csc x+\dfrac{-\cos x}{\sin^2 x}\cdot x^3 \\ \quad =3x^2\csc x-\cot x\cdot\csc x\cdot x^3 \\ \quad =3x^2\csc x-x^3\cot x\cdot\csc x \end{array}$$

پوښتنې

د لاندې توابعو مشتق په لاس راوړئ:

$a)\ y=\sin 5x$ $\qquad b)\ y=\dfrac{\sin x}{1+x}$

$c)\ y=\sqrt{1+\sin x}$

(c) ketabton.com: The Digital Library

د $y = \cos x$ تابع مشتق

مخامخ گراف څه ډول تابع را ښيي؟

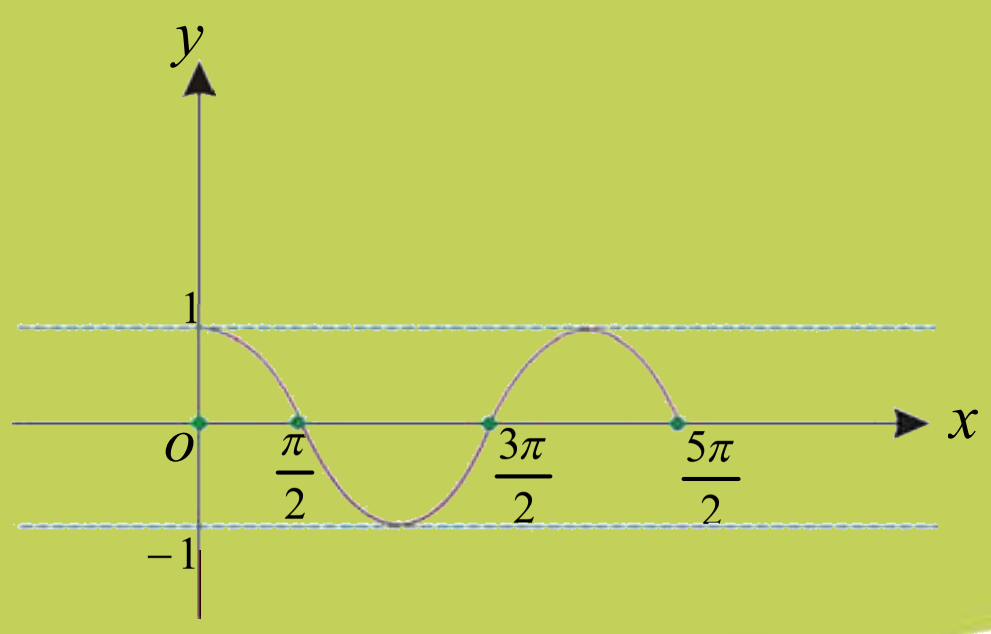

فعالیت

- د $y = f(x) = \cos x$ په تابع کې متحول ته Δx او تابع ته د Δy په اندازه تزايد ورکړئ.
- د $\cos(x+\Delta x) - \cos x$ مثلثاتي رابطې ته انکشاف ورکړئ.
- د پورتنۍ انکشافي رابطې په مرسته د $\frac{\Delta y}{\Delta x}$ نسبت تشکيل او له اطرافو څخه لیمیټ ونیسئ چې $\Delta x \to 0$ وکړي.

د پورتني فعالیت پایله داسې ثبوتوو:

2- د $y = \cos x$ تابع مشتق

ثبوت:

$$y = \cos x$$

$$y + \Delta y = \cos(x + \Delta x)$$

$$\Delta y = \cos(x + \Delta x) - \cos x$$

$$\Delta y = -2\sin\frac{x + \Delta x + x}{2}\cdot\sin\frac{x + \Delta x - x}{2}$$

$$\Delta y = -2\sin\frac{2x + \Delta x}{2}\cdot\sin\frac{\Delta x}{2}$$

$$\lim_{\Delta x \to 0}\frac{\Delta y}{\Delta x} = -\lim_{\Delta x \to 0}\sin(x + \frac{\Delta x}{2})\cdot\lim_{\Delta x \to 0}\frac{\sin\frac{\Delta x}{2}}{\frac{\Delta x}{2}} = -\sin x\cdot 1$$

$$\boxed{y = \cos x \quad \Rightarrow \quad y' = -\sin x}$$

(c) ketabton.com: The Digital Library

یا په لنډ ډول هغه داسې ثبوتوو:

$$\sin^2 x + \cos^2 x = 1$$

$$\cos x = \sqrt{1-\sin^2 x}$$

$$(\cos x)' = \frac{1}{2}\cdot\frac{1}{\sqrt{1-\sin^2 x}}\cdot(-2\sin x\cos x)$$

پوهېږو $\sqrt{1-\sin^2 x} = \cos x$ چې سره دی، نو:

$$= \frac{1}{2}\cdot\frac{1}{\cos x}(-2\sin x\cdot\cos x)$$

$$\boxed{(\cos x)' = -\sin x}$$

که چیرې $y=\cos u$ وي په داسې حال کې چې u د x تابع وي؛ نو لیکلای شو:

$$\boxed{y=\cos u \Rightarrow y' = -u - \cdot \sin u}$$

لومړی مثال: د لاندې توابعو مشتق پیداکړئ.

1) $f(x) = \sin 2x = 2\sin x\cos x$ 2) $f(x) = x - \sin x\cos x$

حل: پوهېږو چې $y = u\cdot v \Rightarrow y' = u'v + v'u$ دی، نو:

1) $f(x) = \sin 2x = 2\sin x\cos x$

$f'(x) = (2\sin x)'\cos x + (\cos x)'\cdot 2\sin x = 2\cos^2 x - 2\sin^2 x$

$f'(x) = 2(\cos^2 x - \sin^2 x) \Rightarrow y' = 2\cos 2x$

2) $f(x) = x - \sin x\cos x$

$f'(x) = (x)' - (\sin x\cdot\cos x)' = (x)' - [(\sin x)'\cdot\cos x + (\cos x)'\cdot\sin x]$

$f'(x) = (x)' - [\cos x\cos x + (-\sin x\sin x)] = 1 - \cos 2x$

پوښتنې

د لاندې تابعګانو لومړی مشتق پیدا کړئ.

1) $f(x) = (\sec 2x + \tan 2x)^2$ 2) $f(x) = \sin^2 x$ 3) $f(x) = \sec x$

4) $f(x) = \csc x$ 5) $f(x) = \dfrac{5\sin^2 2x}{3\cos 5x}$

(c) ketabton.com: The Digital Library

د $y=\tan x$ تابع مشتق

مخامخ ګراف څه ډول تابع راښيي.

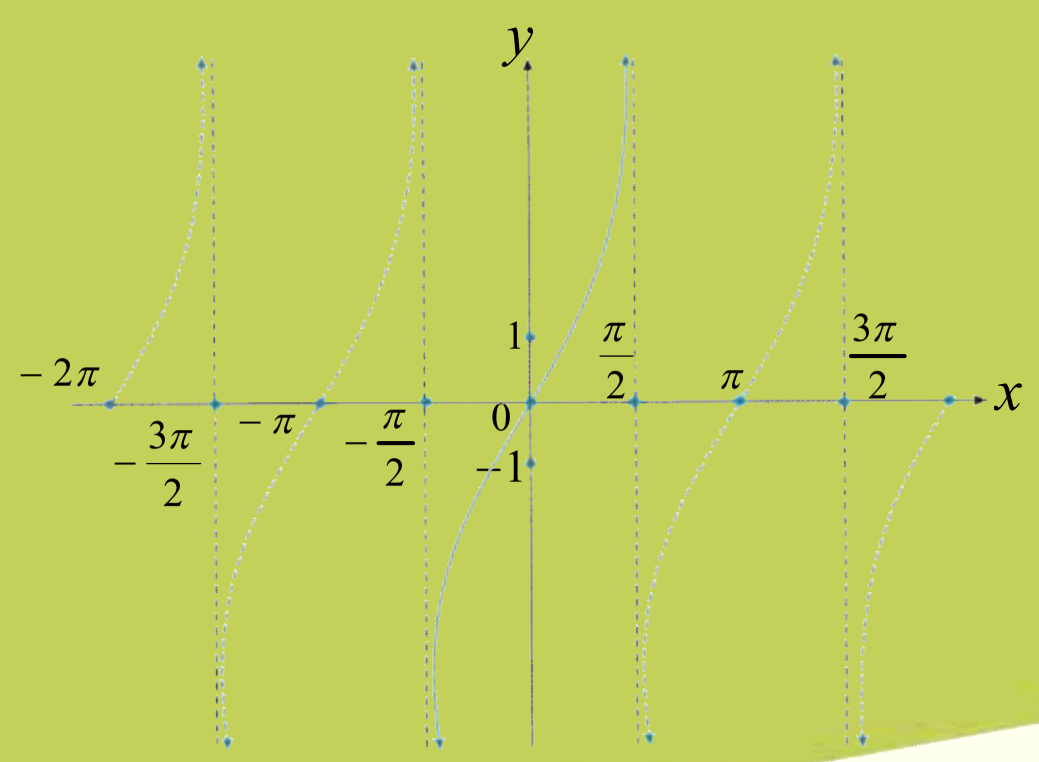

- د $y=\tan x$ تابع د نسبت په شکل ولیکئ.
- د پورتني نسبت څخه مشتق ونیسئ، هغه له څه سره مساوي کېږي.

له پورته فعالیت څخه پایله داسې ثبوتوو:

3- د $y=\tan x$ تابع مشتق:

ثبوت:

$$f(x)=\frac{\sin x}{\cos x}$$

$$f'(x)=\frac{(\sin x)'\cos x-(\cos x)'\sin x}{\cos^2 x}=\frac{\cos x\cos x-(-\sin x)(\sin x)}{\cos^2 x}$$

$$=\frac{\cos^2 x+\sin^2 x}{\cos^2 x}=\frac{1}{\cos^2 x}$$

$$y=\tan x$$

$$y'_{(x)}=\frac{1}{\cos^2 x}=\sec^2 x$$

پاتې فورمولونه زده‌کوونکو ته پرېږدو.

لومړی مثال: د لاندې مثلثاتي تابع مشتق پیدا کړئ.

$$y=\tan^3 x$$

حل: پوهېږو چې که $y=u^n$ وي نو مشتق یې $y'=n\cdot u^{n-1}\cdot u'$ سره دی، نو:

$$\left.\begin{array}{l}u=\tan^3 x\\ u'=\sec^2 x\end{array}\right\}\Rightarrow\quad\begin{array}{l}y=\tan^3 x\\ y'=3\tan^2 x\sec^2 x\end{array}$$

(c) ketabton.com: The Digital Library

دويم مثال: د $y = \sec x \cdot \cot x$ تابع مشتق پيدا کړئ.

حل: څرنګه چې تابع شکل د $y = u \cdot v$ شکل لري، نو:

$$y = \sec x \cdot \cot x$$
$$u = \sec x \quad \Rightarrow \quad u' = \sec x \tan x$$
$$v = \cot x \quad \Rightarrow \quad v' = -\csc^2 x$$

د u, v, u' او v' قيمتونه د $y' = u' \cdot v + u \cdot v'$ په فورول کې وضع کوو:

$$y' = \sec x \tan x \cdot \cot x + \sec x(-\csc^2 x)$$
$$= \sec x \tan x \frac{1}{\tan x} - \csc^2 x \sec x$$
$$= \sec x - \csc^2 x \sec x$$

پوښتني

د لاندې تابعګانو مشتق پيدا کړئ.

a) $y = \tan x \cot x$

b) $y = (x^2 + x - 1)\tan^2 x$

c) $y = \dfrac{1}{\tan x}$

d) $y = \tan x \sec x - \cot x$

(c) ketabton.com: The Digital Library

ضمني مشتقات

مخامخ مساوات په عبارت سره ولیکئ.

$$y'_{(x)} = -\frac{f'_{(x)}}{f'_{(y)}}$$

فعالیت

- د $y = 2x^2 - 4$ د تابع مشتق پیدا کړئ.
- د $y^2 + xy = 1$ تابع څو متحوله تابع ده؟ او ګراف یې څه ډول شکل لري؟
- د پورتني تابع مشتق پیدا کولای شئ.

د یوه منحني خط معادله د وضعیه کمیاتو په سیستم کې عبارت له $y = f(x)$ څخه ده، له دې ځایه $y - f(x) = 0$ کېږي او $y - f(x)$ یوه دوه متحوله تابع د x او y له جنسه ده، که $F(x,y) = y - f(x)$ تابع په پام کې ونیسو، نو د دې منحني معادله د $F(x,y)$ شکل غوره کوي؛ د مثال په ډول: $F(x,y) = x^2 + y^2 - 25$ وي، نو د $F(x,y) = 0$ له معادلې څخه لیکلای شو، چې $x^2 + y^2 - 25 = 0$ یا $x^2 + y^2 = 25$ چې د دې دوو بېلا بېلو توابعو معادلې $y = \pm\sqrt{25 - x^2}$ دي. په عمومي ډول د $F(x,y) = 0$ معادله کیدای شي چې د څو تابع ګانو معادله د $y = f(x)$ په بڼه وي، پاملرنه وکړئ.

د $y = f(x)$ په تابع کې چې x او y یو له بل څخه جلا وي، نو مشتق یې په آساني پیداکولای شو، ولې په ځینو رابطو کې y له x سره یو ځای بیان شوي وي لکه په $xy^2 - y + 1 = 0$ چې د مشتق په نیولو کې که د x له جنسه مشتق نیسو، نو y یو ثابت عدد فرضوو او که د y له جنسه مشتق نیسو x ثابت فرضوو لکه:

$$xy^2 - y + 1 = 0$$

$$(xy^2)' - (y)' + (1)' = 0 \Rightarrow 1y^2 + x(2y'y) - y' = 0 \Rightarrow y^2 = -2xyy' + y' = y'(-2xy + 1)$$

$$y' = \frac{y^2}{-2xy + 1}$$

(c) ketabton.com: The Digital Library

په عمومي حالاتو کې که ضمني رابطه د $f(x,y)=0$ په شکل تعریف شوی وي؛ نو $y'(x)$ په لنډ ډول داسې محاسبه کېږي:

$$y'_{(x)}=-\frac{f'_{(x)}}{f'_{(y)}}=-\frac{\text{د تابع مشتق نظر } x \text{ ته (} y \text{ ثابت دی)}}{\text{د تابع مشتق نظر } y \text{ ته (} x \text{ ثابت دی)}}$$

لومړی مثال: د $y=\sin\frac{x}{y}+1$ ضمني تابع مشتق د $(\pi,1)$ په ټکي کې پیدا کړئ.

حل: د $y-\sin\frac{x}{y}-1=0$ رابطې څخه $y'_{(x)}=\frac{f'_{(x)}}{f'_{(y)}}$ پیداکوو.

$$y-\sin\frac{x}{y}-1=0$$

$$\left.\begin{aligned} f'_{(x)}&=y'_x-(\sin\frac{x}{y})'_x-(1)_x\\ &=0-\frac{1}{y}\cos\frac{x}{y}-0=\frac{-1}{y}\cos\frac{x}{y}\\ f'_{(y)}&=y'_y-(\sin\frac{x}{y})'_y-(1)_y\\ &=1-\frac{x}{1}\cos\frac{x}{y}-0=1-x\cdot\cos\frac{x}{y}\end{aligned}\right\}\Rightarrow y'_{(x)}=-\frac{f'_{(x)}}{f'_{(y)}}=-\frac{\frac{-1}{y}\cos\frac{x}{y}}{1-x\cdot\cos\frac{x}{y}}=\frac{\frac{1}{y}\cos\frac{x}{y}}{1-x\cdot\cos\frac{x}{y}}$$

اوس په $y'_{(x)}$ رابطه کې د x او y قیمتونه وضع کوو چې د $y'(\pi,1)$ په لاس راځي.

$$y'_{(\pi,1)}=\frac{\frac{1}{1}\cos\frac{\pi}{1}}{1+\pi\cos\frac{\pi}{1}}=\frac{\cos\pi}{1+\pi\cos\pi}=\frac{-1}{1-\pi}$$

دویم مثال: د $x^2y+2y^3=3x+2$ رابطې ضمني مشتق پیدا کړئ.

حل:

$$x^2y+2y^3=3x+2$$
$$x^2y+2y^3-3x-2=0$$
$$f'_{(x)}=2xy+0-3-0=2xy-3$$
$$f'_{(y)}=x^2+6y^2-0-2=x^2+6y^2-2$$
$$f'_{(x)}=-\frac{f'_{(x)}}{f'_{(y)}}=-\frac{2xy-3}{x^2+6y^2-2}=\frac{3-2xy}{x^2+6y^2-2}$$

(c) ketabton.com: The Digital Library

دريم مثال: د $y^6 - y - x^2 = 0$ ضمني مشتق پيداکړئ.

حل:

$$f'_{(x)} = -2x$$

$$f'_{(y)} = 6y^5 - 1$$

$$y'_{(x)} = -\frac{f'_{(x)}}{f'_{(y)}} = -\frac{-2x}{6y^5 - 1} = \frac{2x}{6y^5 - 1}$$

او يا په بله طريقه:

$$y^6 - y - x^2 = 0$$

$$6y^5 y' - y' - 2x = 0$$

$$(6y^5 - 1)y' = 2x$$

$$y' = \frac{2x}{6y^5 - 1}$$

د تابع دويم ضمني مشتق

د ضمني رابطې د دويمې مرتبې د مشتق د پيداکولو لپاره د فورمول په مرسته لومړی د ضمني اړيکې لومړی مشتق پيداکوو او بيا له دې رابطې څخه مشتق نيسو.

لومړی مثال: د $x^2 - y^2 = 1$ رابطې دويمه مرتبه مشتق $y''_{(x)}$ پيداکړئ.

حل:

$$x^2 - y^2 = 1$$

$$x^2 - y^2 - 1 = 0$$

$$f'_{(x)} = (x^2)'_x - (y^2)'_x - (1)'_x = 2x - 0 - 0 = 2x$$

$$f'_{(y)} = (x^2)'_y - (y^2)'_y - (1)'_y = 0 - 2y - 0 = -2y$$

$$y'_{(x)} = -\frac{f'_{(x)}}{f'_{(y)}} = -\frac{2x}{-2y} = \frac{x}{y}$$

او يا به بله طريقه:

$$y'_{(x)} = -\frac{f'_{(x)}}{f'_{(y)}} = -\frac{(x^2)'_x - (y^2)'_x - (1)'_x}{(x^2)'_y - (y^2)'_y - (1)'_y} = -\frac{2x - 0 - 0}{0 - 2y - 0} = \frac{x}{y} \Rightarrow y'_{(x)} = \frac{x}{y}$$

اوس د $y' = \frac{x}{y}$ له رابطې څخه مشتق نيسو $y''_{(x)}$:

$$y''_{(x)} = \frac{(x)'y - y'x}{y^2} = \frac{y - y'x}{y^2} = \frac{y - \frac{x}{y} \cdot x}{y^2} = \frac{y^2 - x^2}{y^3} = \frac{-1}{y^3} \Rightarrow y''_{(x)} = \frac{-1}{y^3}$$

(c) ketabton.com: The Digital Library

دویم مثال: د $x^2+xy+y^2-3=0$ په معادله کې د y مشتق نسبت x ته د $(1,1)$ په ټکی کې پیدا او پر منحنی د مماس معادله يې ولیکې.

حل: څرنګه چې د $(1,1)$ ټکی په معادله کې صدق کوي نو نوموړی ټکی د منحنی پرمخ واقع دی؛ د $y'_{(x)}$ د پیداکولو لپاره په ورکړ شوي معادلې کې لیکلای شو:

$$f'_{(x)}=2x+y$$
$$f'_{(y)}=x+2y$$
$$y'_{(x)}=-\frac{f'_{(x)}}{f'_{(y)}}=-\frac{2x+y}{x+2y}\quad,\qquad x+2y\neq 0$$
$$y'=-\frac{2x+y}{x+2y}=-\frac{2+1}{1+2}=-1$$
$$y-y_1=m(x-x_1)\ \Rightarrow\ y-1=-(x-1)\ \Rightarrow\ y=-x+2$$

او یا په بله طریقه هم کولای شو د تابع ضمني مشتق په لاس راورو:

$$x^2+xy+y^2-3=0$$
$$2x+y+x\cdot y'+2yy'=0$$
$$2x+y+(x+2y)y'=0$$
$$(x+2y)y'+2x+y=0$$
$$(x+2y)y'=-2x-y$$
$$y'=\frac{-2x-y}{x+2y}$$

دریم مثال: د $x^2y^3=5y^3+x$ ضمني تابع مشتق پیدا کړئ.

حل:

$$x^2y^3-5y^3-x=0$$
$$f'_{(x)}=2xy^3-0-1=2xy^3-1$$
$$f'_{(y)}=3x^2y^2-15y^2-0$$
$$y'_{(x)}=-\frac{f'_{(x)}}{f'_{(y)}}=-\frac{2xy^3-1}{3x^2y^2-15y^2}=\frac{1-2xy^3}{3x^2y^2-15y^2}$$

پوښتني

1- د $x\sin y+y\cos x=5$ د رابطې ضمني مشتق پیدا کړئ.

2- د $x^3+xy^2+y=3$ رابطې څخه ضمني مشتق ولیکئ.

3- د $x^2+y^2=4x+4y$ رابطې څخه ضمني مشتق ولیکئ.

(c) ketabton.com: The Digital Library

(c) ketabton.com: The Digital Library

لوړې مرتبه(متوالي) مشتقات

د مخامخ تابع درې ځلې مشتق ونیسئ؟

د مخامخ تابع پنځه ځلې مشتق ونیسئ؟

$$f(x) = \sin x$$
$$f(x) = \cos x$$

فعالیت

- د $y = 2x^4 - 3x^3 - 2x - 1$ تابع مشتق پیداکړئ.
- د پورته تابع دویم مشتق پیداکړئ.
- د پورتني مشتق د تابع دریم ځل مشتق ونیسئ.
- د پورتني تابع نور څو ځلې مشتق نیولی شو؟
- د پورتنی تابع څووم مشتق له صفر سره مساوي دی؟

د پورتني فعالیت پایله داسې بیانوو:

که د $y = f(x)$ مشتق منونکی وي، لومړی مرتبه مشتق یې په $y' = f'_{(x)}$ ، دویمه مرتبه مشتق یې په $y'' = f''_{(x)}$ دریمه مرتبه مشتق یې په $y''' = f'''_{(x)}$ ... په کلي ډول $n-$ام مرتبه مشتق د $y = f(x)$ تابع په $y^{(n)} = f^{(n)}_{(x)}$ علامت ښیو.

لومړی مثال: د $f(x) = x^3 - 3x^2 + 4x - 1$ تابع دریم مشتق په لاس راوړئ.

حل:

$$y = x^3 - 3x^2 + 4x - 1$$
$$y' = 3x^2 - 6x + 4$$
$$y'' = 6x - 6$$
$$y''' = 6$$

دویم مثال: د $y = \frac{1}{3}x^3$ د تابع گراف او د هغې د لومړی مرتبې مشتق تابع گراف رسم کړئ.

حل:

$$y = \frac{1}{3}x^3$$
$$y' = \frac{3}{3}x^2 = x^2$$
$$y' = x^2$$

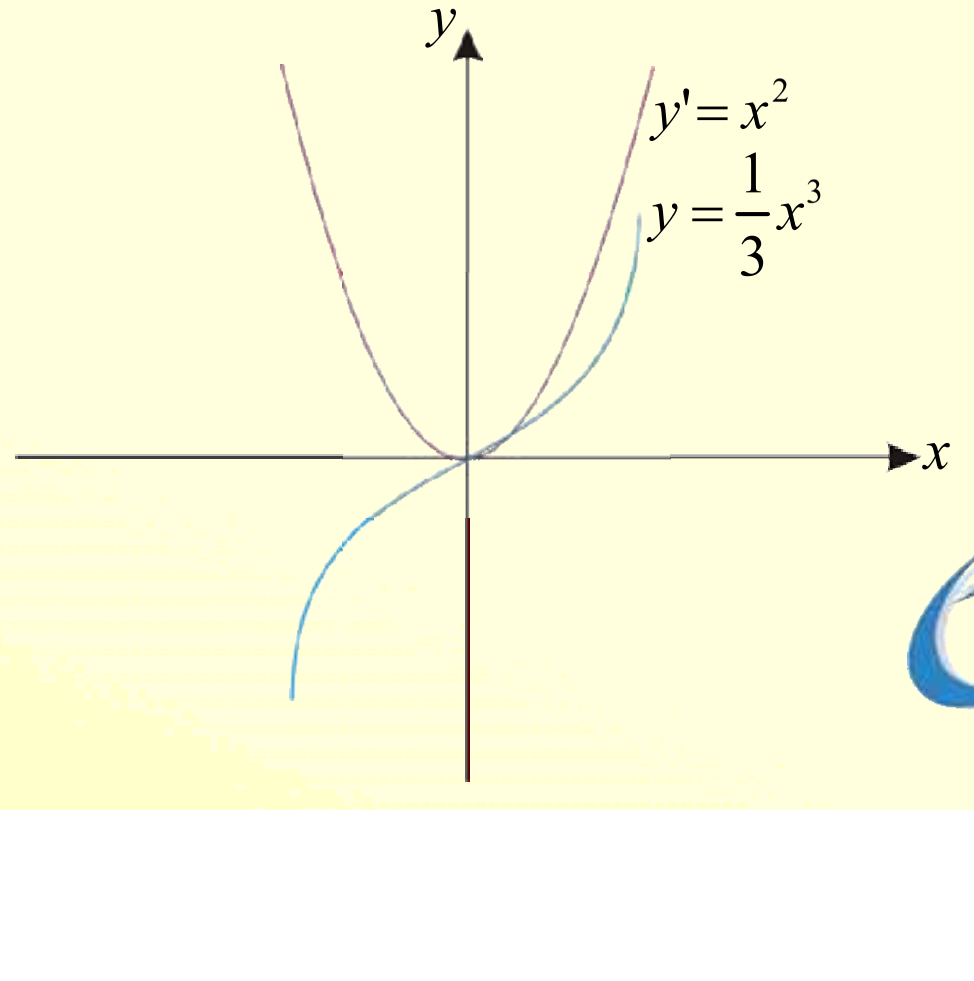

دریم مثال: که $y=\sin x+\cos x$ وي، د $(y^{(9)})^2+y^2$ قیمت پیداکړئ.

حل: لومړی د تابع نهمه مرتبه مشتق یا $(y^{(9)})$ په لاس راوړو:

$$y=\sin x+\cos x$$
$$y'_{(x)}=\cos x+(-\sin x)=\cos x-\sin x$$
$$y''_{(x)}=-\sin x-(\cos x)=-\sin x-\cos x$$
$$y'''_{(x)}=-\cos x-(-\sin x)=\sin x-\cos x$$
$$\vdots$$
$$f'^{(9)}_{(x)}=\cos x-\sin x$$
$$(y^{(9)})^2+y^2=(\cos x-\sin x)^2+(\sin x+\cos x)^2$$
$$=\cos^2 x-2\sin x\cos x+\sin^2 x+\sin^2 x+2\sin x\cos x+\cos^2 x$$
$$=2\sin^2 x+2\cos^2 x=2(\sin^2 x+\cos^2 x)=2$$

څلورم مثال: د $y=2x^6-3x^5-2x^3-3x^2-1$ د تابع پنځه ځلې مشتق پیداکړئ.

$$y=2x^6-3x^5-2x^3-3x^2-1$$
$$y'=12x^5-15x^4-6x^2-6x$$
$$y''=60x^4-60x^3-12x-6$$
$$y'''=240x^3-180x^2-12$$
$$y^{(4)}=720x^2-360x$$
$$y^{(5)}=1440x-360$$

یادونه: که چیرې $n-$ ام درجه‌یي څو جمله‌یي تابع $f_{n(x)}=c_0+c_1x+c_2x^2+c_3x^3+\ \dots\ +c_nx^n \quad c_n\neq 0$ راکړی شوی وي $n-$ ام مشتق یې په لاندې ډول په لاس راځي:

$$f_{n(x)}=c_0+c_1x+c_2x^2+c_3x^3+\ \dots\ +c_nx^n \qquad c_n\neq 0$$
$$f'_{n(x)}=c_1+2c_2x+3c_3x^2+\ \dots\ +nc_nx^{n-1}$$
$$f''_{n(x)}=2c_2+6c_3x+\ \dots\ +n(n-1)c_nx^{n-2}$$
$$f'''_{n(x)}=6c_3+12c_4x+\ \dots\ +n(n-1)(n-2)c_nx^{n-3}$$
$$f^{n}_{n(x)}=n(n-1)(n-2)x\ \dots\ c_n=n!c_n$$

په عمومي ډول که $k>n$ وی، نو: $f^k_{n(x)}=0$

پوښتنې

د لاندې تابعګانو تر هغې مشتق پیداکړئ چې د مشتق تابع له صفر سره مساوي شي.

1) $y=4x^4-3x^3-2x$

2) $y=(5x-2)^3$

3) $y=a+b+c^2-x-ax-bx-cx^3-c^3x$

4) $y=\sin x$

(c) ketabton.com: The Digital Library

د څېړکي مهم ټکي

– که چېرې د $P(x,f(x))$ او $Q(x+h,f(x+h))$ ټکی د $f(x)$ تابع دوه اختیاري ټکي وي، نو لاندې اړیکه د Newton خارج قسمت په نامه یادېږي:

$$\frac{f(x+\Delta x)-f(x)}{x+\Delta x-x}=\frac{f(x+\Delta x)-f(x)}{\Delta x}$$

د منحني میل په یوه اختیاري ټکي کې عبارت دی، له:

$$m_T=\lim_{\Delta x\to 0}\frac{f(x+\Delta x)-f(x)}{\Delta x}$$

د یوې تابع مشتق: د تابع او متحول د تزاید، د نسبت لیمیټ کله چې $\Delta x\to 0$ وکړئ، د مشتق په نامه یادېږي او په $f'(x)$, $\frac{dy}{dx}$ ښودل کېږي.

$$\lim_{\Delta x\to 0}\frac{\Delta y}{\Delta x}=\lim_{\Delta x\to 0}\frac{f(x+\Delta x)-f(x)}{\Delta x}=f'(x)=y'$$

که چېرې د $f(x)$ تابع د (x_0) په یوه ټکي کې د مشتق وړ وي، نو $f'(x)$ د مماس میل د منحني سره د $(x_0,f(x))$ په ټکي کې دی.

که د f تابع د $x=x_0$ په ټکي کې د مشتق وړ وي، نو دا تابع په x_0 کې متمادي ده، خو ددې برعکس سمه نه ده؛ یعنې کېدای شي یوه تابع په یوه ټکي کې متمادي وي، ولې په هغه ټکي کې د مشتق وړ نه دی.

د $f(x)$ د تابع مشتق د C پر منحني $P(x_0,f(x_0))$ په ټکي کې د مماس له میل سره برابر دی.

$$\lim_{\Delta x\to 0}\frac{\Delta y}{\Delta x}=y'=\tan\alpha=\tan\theta=m_\Delta$$

د تماس په ټکي کې د یوه منحني سره د مماس میل د هغې تابع د مشتق په نوم یادېږي.

که د یوې تابع مشتق ونیول شي، نو یوه تابع په لاس راځي چې دا د مشتق تابع بلل کېږي.

که د f تابع د $(x_0-r\ ,x_0+r)$ په فاصله کې($x=x_0$ په شاوخوا) کې تعریف شوې وي او د هغې لیمیټ موجود وي، په دې حالت کې کولای شو چې یو مماس خط د $f(x)$ د تابع په منحني د $x=x_0$ په ټکي کې رسم کړو، د دې مماس میل عبارت دی له: $\lim_{\Delta x\to 0}\frac{f(x_0+\Delta x)-f(x_0)}{\Delta x}$

(c) ketabton.com: The Digital Library

مشتق قوانین:

1) $f(x) = C \quad \Rightarrow \quad f'(x) = 0$

2) $f(x) = x^n \quad \Rightarrow \quad f'(x) = n \cdot x^{n-1}$

3) $f(x) = u \pm v \quad \Rightarrow f'(x) = u' \pm v'$

4) $f(x) = u \cdot v \quad \Rightarrow \quad f'(x) = u'v + v'u$

5) $f(x) = \frac{u}{v} \quad , \quad v \neq 0 \Rightarrow f'(x) = \frac{u'v - v'u}{v^2}$

6) $f(x) = \sqrt{x} \quad \Rightarrow \quad f'(x) = \frac{1}{2\sqrt{x}}$

7) $f(x) = \sqrt{u} \quad \Rightarrow \quad f'(x) = \frac{u'}{2\sqrt{u}}$

8) $f(x) = \sqrt[n]{u} \quad \Rightarrow \quad f'(x) = \frac{u'}{n \cdot \sqrt[n]{u^{n-1}}}$

د مرکبو توابعو مشتق: $y'_{(x)} = y'_{(u)} \cdot u'_{(x)}$

د مثلثاتي تابع گانو مشتق:

1) $y = \sin x \quad \Rightarrow \quad y' = \cos x \quad , \quad y = \sin u \quad \Rightarrow \quad y' = u' \cos u$

2) $y = \cos x \quad \Rightarrow \quad y' = -\sin x \quad , \quad y = \cos u \quad \Rightarrow \quad y' = -u' \sin u$

که د $y = f(x)$ تابع مشتق منونکی وي، په بشپړ ډول n-ام ځلې مشتق یې $y^{(n)} = f^{(n)}_{(x)}$ دی.

(c) ketabton.com: The Digital Library

د دویم څپرکي پوښتنې

لاندې پوښتو ته څلور ځوابونه درکړل شوي دي، سم ځواب په نښه کړئ:

1- $f(x)=x^2-x$ منحنی میل د $P(3,0)$ په ټکی کې عبارت دی له:

$a)\ 3$ $b)\ -3$ $c)\ 5$ $d)\ -5$

2- د $f(x)=2x^2$ په تابع کې د f متوسط بدلون د $[3,4]$ په انټروال کې عبارت دی له:

$a)\ 18$ $b)\ 14$ $c)\ -14$ $d)\ 32$

3- د $y=2x^2-3x^{-1}$ تابع مشتق عبارت دی له:

$a)\ y'=4x^2+3$ $b)\ y'=4x+\frac{1}{2}x$ $c)\ y'=4x+\frac{3}{x^2}$ $d)\ y'=4x$

4– د $f(x)=\sqrt{x-1}$ د تابع مشتق عبارت دی له:

$a)\ 0$ $b)\ \frac{1}{2\sqrt{x-1}}$ $c)\ \frac{x-1}{2\sqrt{x}}$ $d)\ \frac{-1}{2\sqrt{x-1}}$

5– د $f(x)=2x^2+x$ تابع د $x=1$ په ټکی کې د مماس خط معادله عبارت دی له:

$a)\ y=5x-5$ $b)\ y=x-3$ $c)\ y=5$ $d)\ y=5x$

6- د $y=\frac{2x}{-x+4}$ د تابع مشتق عبارت دی له:

$a)\ y'=-4x+8$ $b)\ y'=-2$ $c)\ y'=\frac{4x+8}{(-x+4)}$ $d)\ y'=\frac{8}{(-x+4)^2}$

7– د $y=(2-x^2)^3$ تابع مشتق عبارت دی له:

$a)\ y'=-6x^5+2x^3-24x$ $b)\ y'=3(2-x^2)^2$ $c)\ y'=3(-2x)^2$ $d)$ هیڅ یو

8– د $y=\sin x$ د تابع مشتق عبارت دی له:

$a)\ y'=\sin x$ $b)\ y'=\cos x$ $c)\ y'=-\sin x$ $d)\ y'=-\cos x$

9– د $y=(1+x^4)^{\frac{-1}{5}}$ د تابع مشتق عبارت دی له:

$a)\ y'=-\frac{4}{5}x^3(1+x^2)^{\frac{-6}{5}}$ $b)\ y'=-\frac{1}{5}(1+x^2)^{\frac{-6}{5}}$

$c)\ y'=-4x^3$ $d)$ هیڅ یو

10– د $y=\frac{\cos}{1-\cos x}$ د تابع مشتق عبارت دی له:

$a)\ y'=\frac{\sin x}{(1-\cos x)^2}$ $b)\ y'=\frac{-\sin x}{(1-\cos x)}$ $c)\ y'=\frac{-\sin x}{(1-\cos x)^2}$ $d)$ هیڅ یو

(c) ketabton.com: The Digital Library

لاندې پوښتنې مفصل حل کړئ.

1. د $f(x)=\dfrac{2\tan^2 x}{1+\tan^2 x}$ د تابع مشتق پیدا کړئ؟

2. د $f(x)=\dfrac{x+\sqrt{x-x^2}}{\sqrt{x}+\sqrt{1-x}}$ د تابع مشتق پیدا کړئ؟

3. د $f(x)=(x-1)(x+1)(x^2+1)(x^4+1)$ د تابع مشتق پیدا کړئ.

4. د $f(x)=(\sqrt[3]{x}-1)(\sqrt[3]{x}+4)$ د تابع مشتق پیدا کړئ.

5. د $f(x)=\sin x\cdot\cos x$ د تابع مشتق د $\dfrac{\pi}{4}$ په ټکي کې پیدا کړئ.

6. د $f(x)=\dfrac{(\sin x+\cos x)^2}{1+\sin 2x}$ د تابع مشتق پیدا کړئ.

7. د $y=\cos x$ تابع اتمه مرتبه مشتق پیدا کړئ.

8. د $y=\sin^2 x+\cos^2 x$ تابع نهمه مرتبه مشتق پیدا کړئ.

9. د $x^2+xy+y^2=3$ تابع ضمني مشتق پیدا کړئ.

(c) ketabton.com: The Digital Library

دریم څپرکی

د مشتق د استعمال ځایونه

(c) ketabton.com: The Digital Library

(c) ketabton.com: The Digital Library



د مشتق د استعمال ځایونه

د مخامخ شکل د ارتفاع په اړه خپل نظر بیان کړئ.

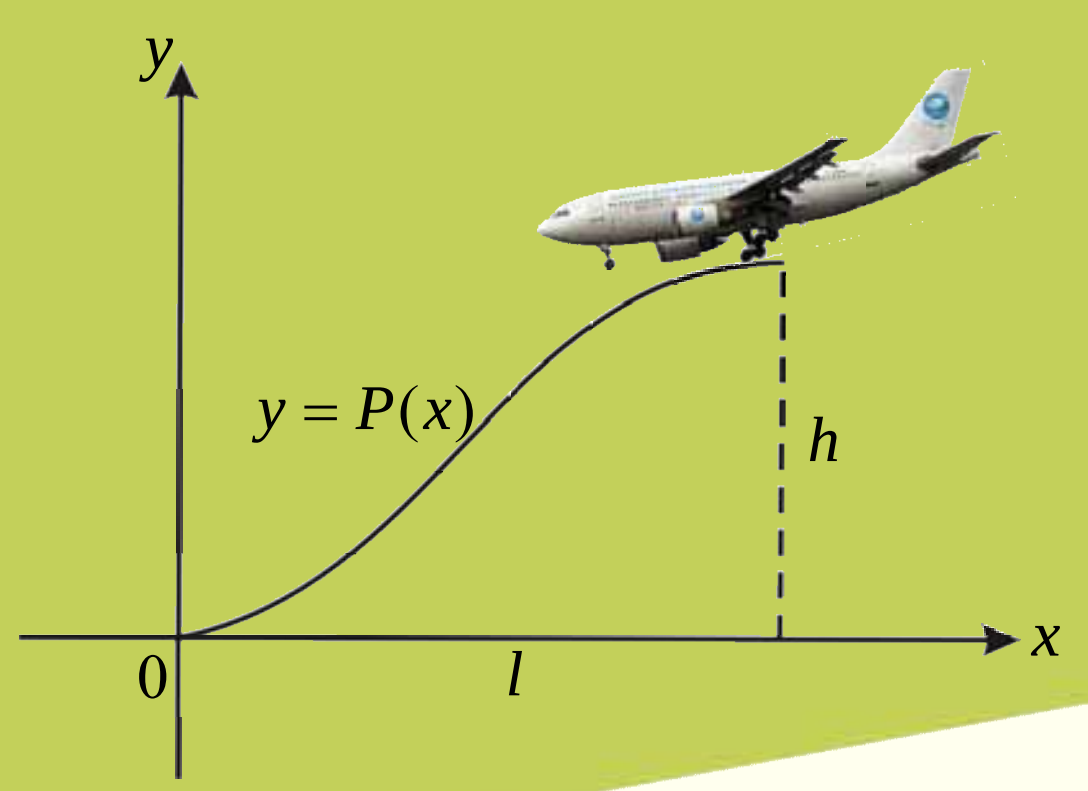

له مشتق څخه په ډیرو ځایونو کې لکه: (په فزیک کې د حرکت، سرعت او تعجیل اړوند معادلې د مشتق څخه په ګټه اخېستنې سره حلېږي همدارنګه په کیمیا کې هم، د تابع د تحولات، د ځینو لیمیټونو په پیدا کولو کې) کار اخیستل کیږي چې ځینې ځایونه یې دلته تر څېړنې لاندې نیسو.

I- د یوې تابع تحولات:

فعالیت

لاندې شکلونو ته پاملرنه وکړئ:

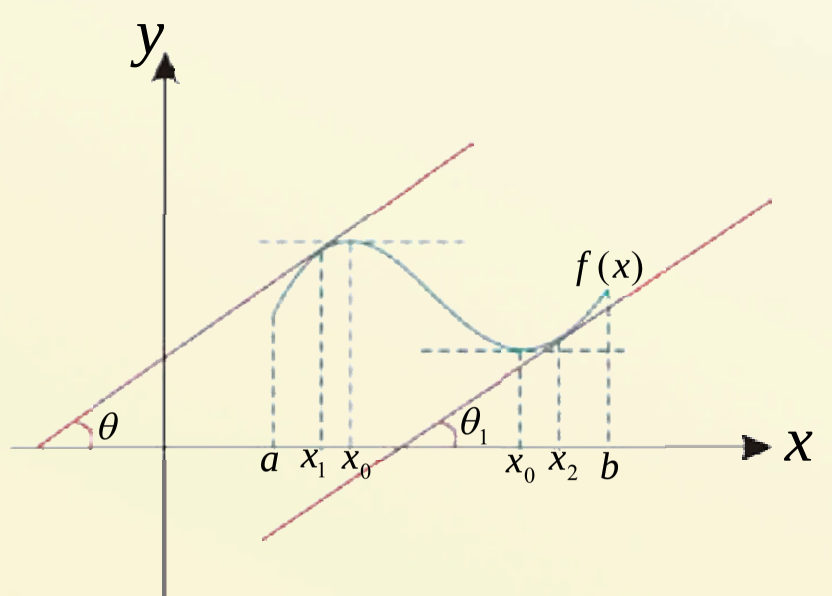

(1)

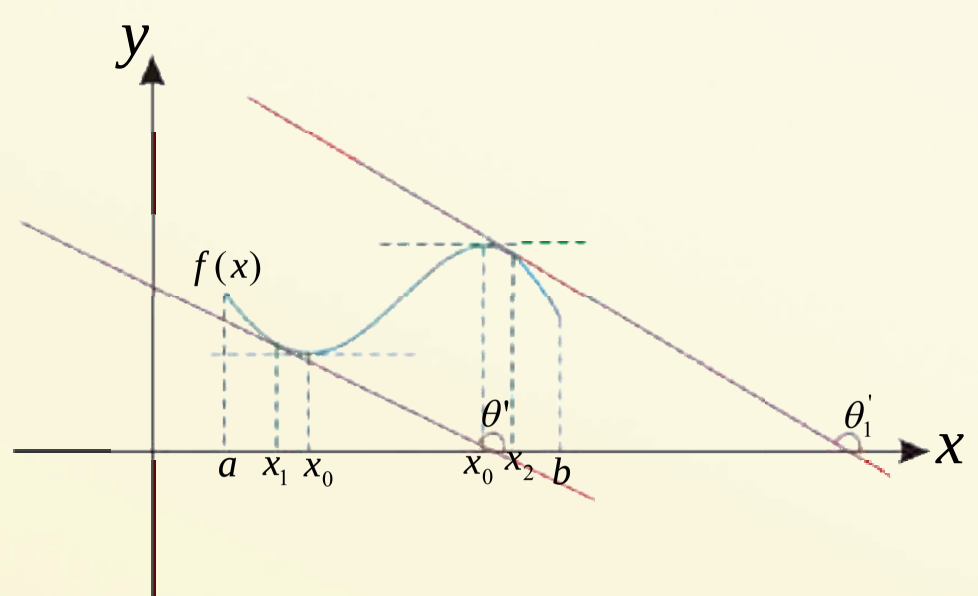

(2)

- متزایدې او متناقصې توابع څه ډول توابع دي؟
- په (1) شکل د (a,b) په انټروال کې د x_0 ، x_1 او x_2 په ټکو کې د رسم شویو مماسونو میلونه د (2) شکل له مماسونو سره پرتله کړئ.
- په (1) او (2) شکلونو کې تر ټولو جګ ټکی او تر ټولو ټیټ ټکی په ګوته کړئ.

(c) ketabton.com: The Digital Library

(c) ketabton.com: The Digital Library

- په پورته شکلونو کې وښيي چې کومه تابع په کومه ساحه کې متزايده او په کومه ساحه کې تابع متناقصه ده؟
- په متزايده، متناقصه او ثابته تابع کې مشتق و څېړئ.

د پورته فعاليت پايله داسې بيانوو:

1- که د $f(x)$ تابع په $[a,b]$ انټروال کې متمادي او په (a,b) انټروال کې د مشتق وړ وي، نو که چيرې په ورکړل شوي انټروال کې $f'(x)>0$ وئ، تابع په هغه انټروال کې متزايده بلل کيږي.

2- که چيرې د $f(x)$ تابع په $[a,b]$ انټروال کې متمادي او د (a,b) په انټروال کې د مشتق وړ وي که به ورکړ شوي انټروال کې $f'(x)<0$ وي، نو تابع په هغه فاصله کې متناقصه بلل کيږي.

يادونه: د تابع له تزايد څخه مطلب دا دی چې د x د متحول قيمت په زياتېدو سره د تابع قيمت زيات او د تابع د تناقص څخه مطلب دا دی چې د x د متحول د قيمت په زياتېدو سره د y يا تابع قيمت کم يا ثابت پاتې شي.

لومړی مثال: وښيئ چې د $f(x)=x^3+3x+1$ تابع ګراف متزايد ده.

حل: څرنګه چې تابع کسري بڼه نه لري نو ټول حقيقي عددونه د تعريف ساحه کيدای شي او هم پوهېږو چې د تابع د تزايد شرط $f'(x)>0$ دی، نو لازمه ده چې د تابع مشتق تر مطالعې لاندې ونيسو:

$$f(x)=x^3+3x+1$$
$$f'(x)=3x^2+3$$

ليدل کيږي چې د مشتق لومړی حد تام مربع دی نو د x د ټولو قيمتونو لپاره همېشه مثبت دی. کله چې (+3) ورسره جمع شي بيا هم قيمت يې مثبت دی، نو د $f'(x)>0$ دی نو تابع متزايده ده.

دويم مثال: د $f(x)=x^3-3x+5$ تابع په کوم انټروال کې متناقصه ده؟

حل: څرنګه چې د $f(x)$ تابع په هره انټروال کې متمادي او د مشتق وړ ده، نو د متناقص تابع لپاره لرو $f'(x)<0$ دی، يعنې:

$$f'(x)=3x^2-3<0$$
$$f'(x)=0$$
$$3x^2-3=0$$
$$3x^2=3$$
$$x=\pm1$$

لیدل کېږي چې د تابع مشتق د $-1 < x < 1$ په انټروال کې منفي دی نو تابع په همدې انټروال کې $(-1,1)$ متناقصه ده.

دریم مثال: د $f(x) = 5x - 4$ تابع تحولات وڅېړئ.

حل: لومړی د تابع د تعریف ساحه پیدا او وروسته د تابع د تزاید شرط په کې څېړو:

$$D_f \to IR$$
$$f(x) = 5x - 4$$
$$f'(x) = 5 > 0$$

څرنګه چې $f'(x) > 0$ نو د ټولو قیمتونو لپاره همېشه مثبت دی. نو تابع متزایده ده.

څلورم مثال: د $y = x^2$ د تابع ګراف ته څیر شئ او وښیئ چې ورکړل شوي تابع په کوم انټروال کې متزایده او په کوم انټروال کې متناقصه ده.

حل: پوهېږو چې که تابع متناقصه وي $y' < 0$ او که تابع متزایده وي $y' > 0$ څخه دی، نو لیکلای شو چې:

$y = x^2 \Rightarrow y' = 2x$

د تناقص شرط $y' < 0 \Rightarrow 2x < 0 \Rightarrow x < 0$

د تزاید شرط $y' > 0 \Rightarrow 2x > 0 \Rightarrow x > 0$

x	$-\infty$	-2	-1	0	1	2	$+\infty$
y'	$-$	$-$	$-$	0 $+$	$+$	$+$	
y	$+\infty \searrow$	$4 \searrow$	$1 \searrow$	$0 \nearrow$	$1 \nearrow$	$4 \nearrow$	$+\infty$

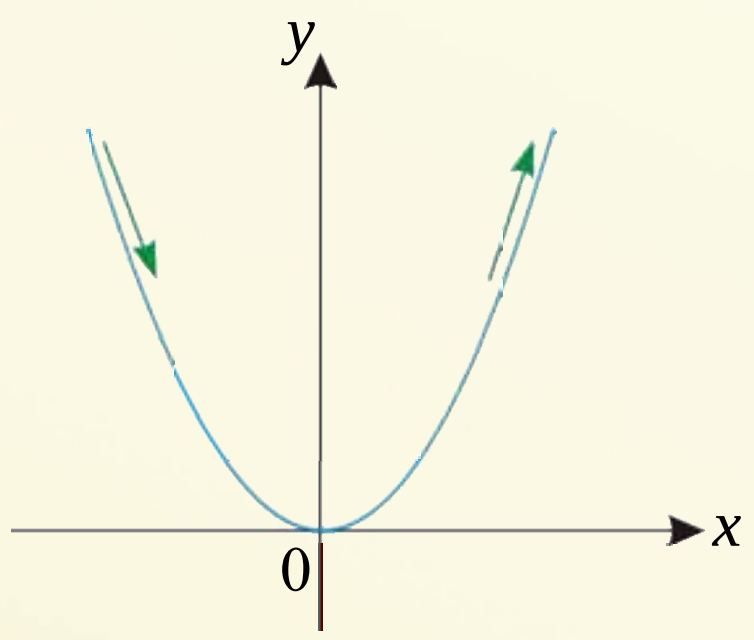

د تابع له ګراف څخه لیدل کېږي چې تابع د $(-\infty,0)$ په انټروال کې متناقصه او د $(0,+\infty)$ په انټروال کې متزایده ده.

(c) ketabton.com: The Digital Library

پوښتني

1- د $f(x) = ax + b$ د تابع تحولات وښئ؟

2- د $y = \frac{-3}{4}x - 1$ د تابع تحولات وښيئ؟

3- وښيئ چې د $f(x) = 2x^2 + 3x + 1$ تابع د $x = 1$ په نقطه کې متزایده ده؟

4- د $y = x^2 + 3x + 2$ د تابع د تزاید انتروال و ټاکئ؟

(c) ketabton.com: The Digital Library

(c) ketabton.com: The Digital Library

د يوې تابع بحراني (Extreme) ټکي اعظمي (Maximum) او اصغري (Minimum)

په مخامخ شکل کې تر ټولو لوړ ټکی او تر ټولو ټیټ ټکی وښيئ او ووايئ چې دا ټکي د څه په نامه يادېږي؟

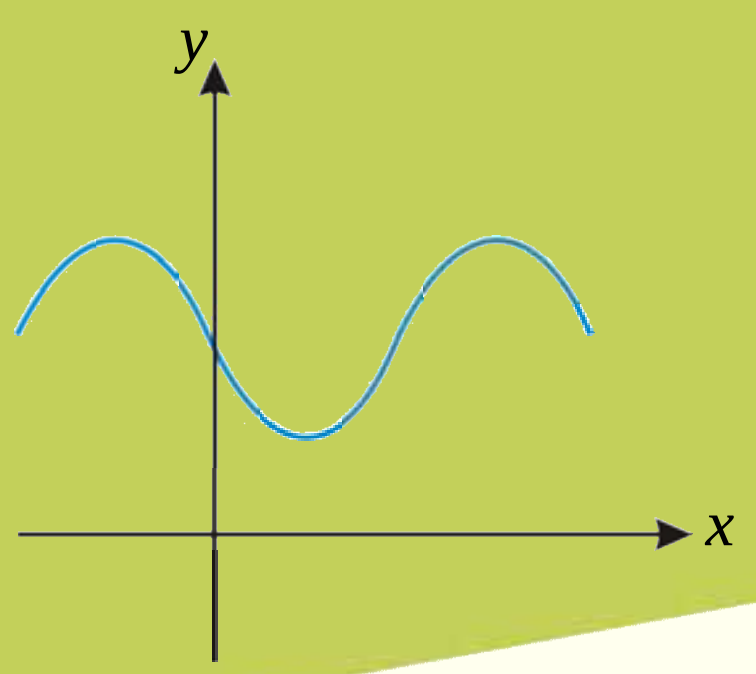

که په لاندیني شکل کې د $f(x)$ تابع د (a,b) په انټروال کې د مشتق وړ وي.

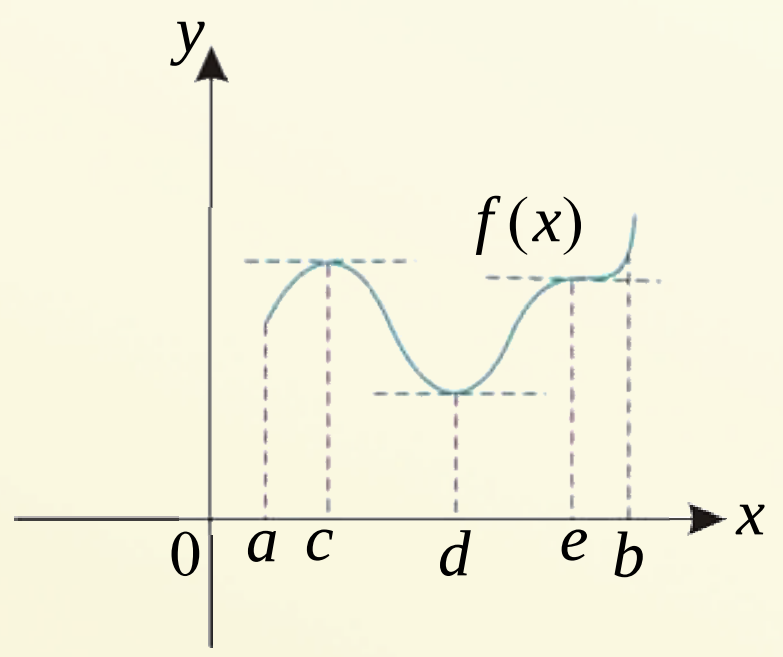

- د متحول د قيمت په زياتوالي په کوم انټروال کې د تابع قيمت لوييږي.
- د متحول د قيمت په کموالي په کوم انټروال کې د تابع قيمت کمېږي.
- د تابع تحولات په (c,d) او (d,e) انټروال کې وڅېړئ.
- د $f(x)$ د تابع مشتق په کومو ټکو کې له صفر سره مساوي دی.

د پورته فعاليت پايله داسې بيانوو:

د يوې تابع په ګراف کې د y پر محور تر ټولو جګې نقطې ته اعظمي (maximum) او تر ټولو ټيټې نقطې ته د تابع اصغري (minimum) وايي، د x د هغو قيمتونو لپاره چې تابع اعظمي او يا اصغري قيمتونه اخلي د بحراني (Extreme) نقطو په نامه يادېږي.

تعریف:

1- **ثابته تابع**: که چیرې د یوې تابع لومړی مشتق همیشه له صفر سره مساوي وي تابع ته ثابته تابع وایي.

2- **متزایده تابع**: که چیرې د یوې تابع لومړی مشتق د (a,b) په فاصله کې مثبت وي تابع په هغه فاصله کې متزایده بلل کېږي، یعنې $y'>0$ چې په لاندې شکلونو کې لیدل کېږي.

3- **متناقصه تابع**: که چیرې د یوې تابع لومړی مشتق د (a,b) په فاصله کې منفي وي یعنې $y'<0$ وي، تابع په هغه فاصله کې متناقصه بلل کېږي چې په لاندې شکلونو کې لیدل کېږي.

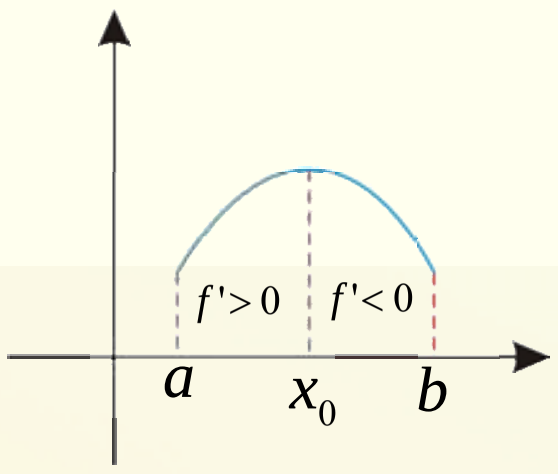

(1)

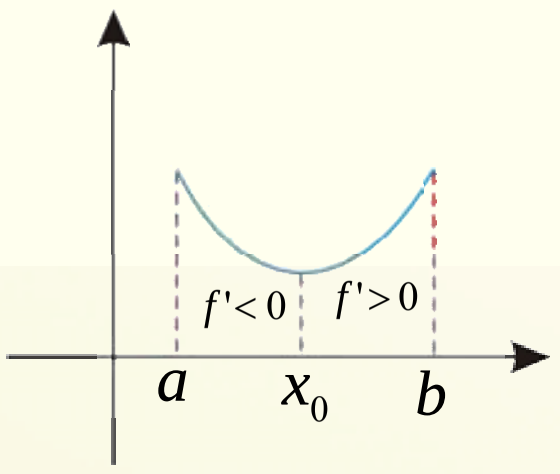

(2)

1- **اعظمي ټکی**: که چیرې د $y=f(x)$ تابع د x_0 په معین ټکي کې د تزاید له حالت څخه د تناقص حالت ته بدل شي یا په بل عبارت د x_0 په دې معین ټکي کې د مشتق اشاره له مثبت څخه منفي ته بدله شي د x_0 په نقطه کې د تابع قیمت د اعظمي(maximum) په نامه یادېږي.

2- **اصغري ټکی**: که چیرې د $y=f(x)$ تابع د x_0 په معین ټکي کې د تناقص له حالت څخه تزاید حالت ته بدل شي یا په بل عبارت د x_0 په دې معین ټکي کې د مشتق اشاره له منفي څخه مثبت ته بدله شي د x_0 په نقطه کې د تابع قیمت د اصغري (minimum) په نامه یادېږي.

3- **د انعطاف ټکی**: که چیرې مشتق خپله اشاره د x_0 په یوه معین ټکي کې له مثبت څخه صفر ته او بیا مثبت ته یا له منفي څخه صفر او بیا منفي ته بدله کړي x_0 د انعطاف د نقطې په نامه یادېږي.

(c) ketabton.com: The Digital Library

لومړی مثال: د $f(x)=x^3-\frac{7}{2}x^2+2x$ راکړل شوی ده دا تابع څو د (Extreme) ټکی لري.

حل: د تابع لومړی مشتق پیداکوو بیا هغه مساوي په صفر وضع کوو او د x قیمتونه په لاس راوړو.

$$f'_{(x)}=3x^2-7x+2$$

$f'(x)=0$

$3x-1=0\Rightarrow x_1=\frac{1}{3}$

$x-2=0\Rightarrow x_2=2$

x	$-\infty$		$\frac{1}{3}$		1		2		$+\infty$
$f'(x)$		$+$	0	$-$	|	$-$	0	$+$	
$f(x)$	$-\infty$	↗	$\frac{17}{54}$	↘	-2 | -2	↘		↗	$+\infty$
			Max				Min		

په پایله کې ویلای شو چې اصلي تابع دریمه درجه ده نو د $f(x)$ د تابع مشتق د $(\frac{1}{3})$ او (2) پـه دوو نقطو کې خپله علامه بدلوي، نو دوه بحراني(Extreme) ټکي لري.

دوېم مثال: د $f(x)=\frac{x+1}{x^2-2x}$ تابع موضعی Extreme ټکي یا نستبي ټکي مشخص کړی.

حل: لومړی د تابع مشتق په لاس راوړو، وروسته یې علامې ټاکو:

لیدل کیږي چې تابع د $y=\frac{u}{v}$ شکل لري، نو $y'=\frac{u'v-uv'}{v^2}$

$$f(x)=\frac{x+1}{x^2-2x}$$

$$f'(x)=\frac{x^2-2x-(2x-2)(x+1)}{(x^2-2x)^2}$$

$$f'(x)=\frac{-x^2-2x+2}{(x^2-2x)^2}$$

دیوه کسر قیمت هغه وخت له صفر سره مساوي دی چې د تابع صورت مساوي له صفر سره وي.

$$f'(x)=0\ \Rightarrow\ -x^2-2x+2=0$$

$$\Delta=b^2-4ac=12$$

$$x_1=\frac{-b+\sqrt{\Delta}}{2a}=\frac{2+\sqrt{12}}{-2}=-2.73$$

$$x_2=\frac{-b-\sqrt{\Delta}}{2a}=\frac{2-\sqrt{12}}{-2}=0.73$$

x		-3		-2.73		-1		0.73		1	
$f'(x)$	$-$		$-$	0	$+$		$+$	0	$-$		$-$
$f(x)$	↘	$-\frac{2}{15}$	↘	Min	↗	0	↗	Max	↘	-2	↘

(c) ketabton.com: The Digital Library

په جدول کې ښکاري چې f' د x_1 او x_2 دواړو خواوو ته خپله علامه بدلوي، نو تابع دوه د Extreme ټکي لري، يعنې تابع اعظمي او اصغير ټکي لري.

اعظمي او اصغري مطلق ټکي

کيدای شي يوه تابع په يوه انټروال کې څو موضعي بحراني ټکي ولري، خو په يوه ټاکلي انټروال کې تابع يوازې يوه مطلقه اعظمي او يوه مطلقه اصغري نقطه لري. په شکل کې يې وښيئ؟

فعاليت

لاندينی شکل ته ځير شي:

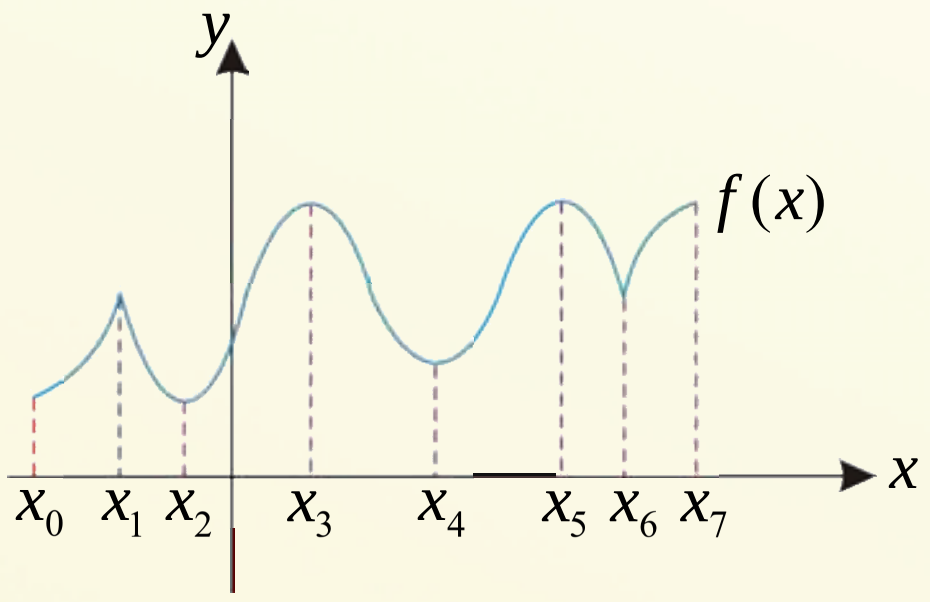

- د $f(x)$ په تابع کې اعظمي او اصغري ټکي وښيئ.
- د $f(x)$ تابع بحراني ټکي په ګوته کړئ.
- پورتنی تابع په ورکړل شوي انټروال کې څو موضعي بحراني ټکي لري.
- پورتنی تابع په ورکړل شوي انټروال کې څو اصغري او اعظمي لري.

د پورته فعاليت پايله داسې بيانوو:

مطلق اعظمي *Maximum*: په عمومي ډول د $(x_0, f(x_0))$ ټکی مطلق اعظمي بلل کيږي، که چيرې د $f(x)$ د تعريف په ساحه کې د هر x لپاره $f(x) \leq f(x_0)$ وي، نو $f(x_0)$ ته مطلق اعظمي وايي لاندې شکلونه وګورئ.

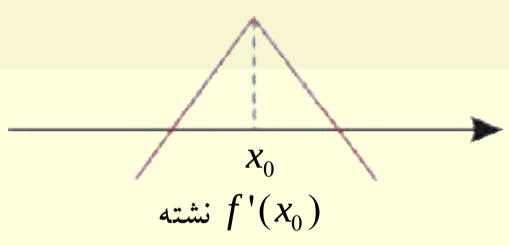

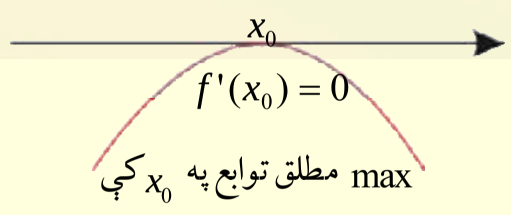

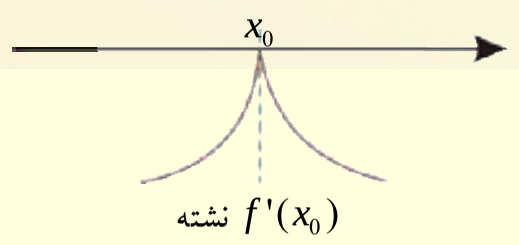

(c) ketabton.com: The Digital Library

مطلق اصغري *Minimum*: په عمومي ډول د $(x_0, f(x_0))$ نقطه مطلقه اصغري بلل کيږي، که چيرې د f د تعريف په ساحه کې د هر x لپاره $f(x) \geq f(x_0)$ وي، نو په دې حالت کې $f(x_0)$ ته مطلقه اصغري وايي، د x هغه قيمتونه چې د هغوی لپاره تابع يا اعظمي او يا اصغري قيمتونه اخلي د x دغه قيمتونه د Extreme په نامه ياديږي.

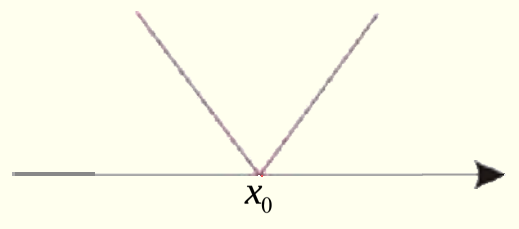

$f'(x_0)$ نشته

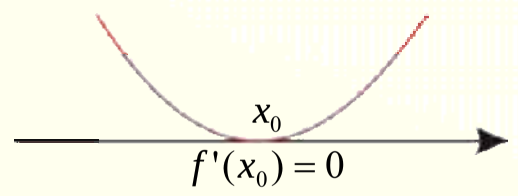

min مطلق توابع په x_0 کې

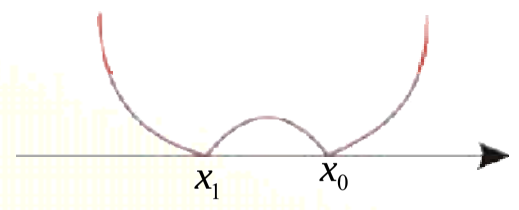

$f'(x_0)$ او $f'(x_1)$ نشته

لومړی مثال: د $f(x) = \frac{1}{2}x^2 + 3x - \frac{1}{2}$ د تابع مطلق اصغری پيداکړئ.

حل: د $f(x)$ د تابع مشتق نيسو او د مشتق د تابع حلونه په لاس راوړو:

$$f(x) = \frac{1}{2}x^2 + 3x - \frac{1}{2}$$
$$f'(x) = x + 3$$
$$f'(x) = 0$$
$$x + 3 = 0$$
$$x = -3$$
$$f(-3) = -5$$
$$\lim_{x\to\infty} f(x) = \lim_{x\to\infty}\left(\frac{1}{2}x^2 + 3x - \frac{1}{2}\right) = +\infty$$
$$= \frac{1}{2}\lim_{x\to\infty} x^2 + 3\lim_{x\to\infty} x - 1\lim_{x\to\infty} - \frac{1}{2} = +\infty$$

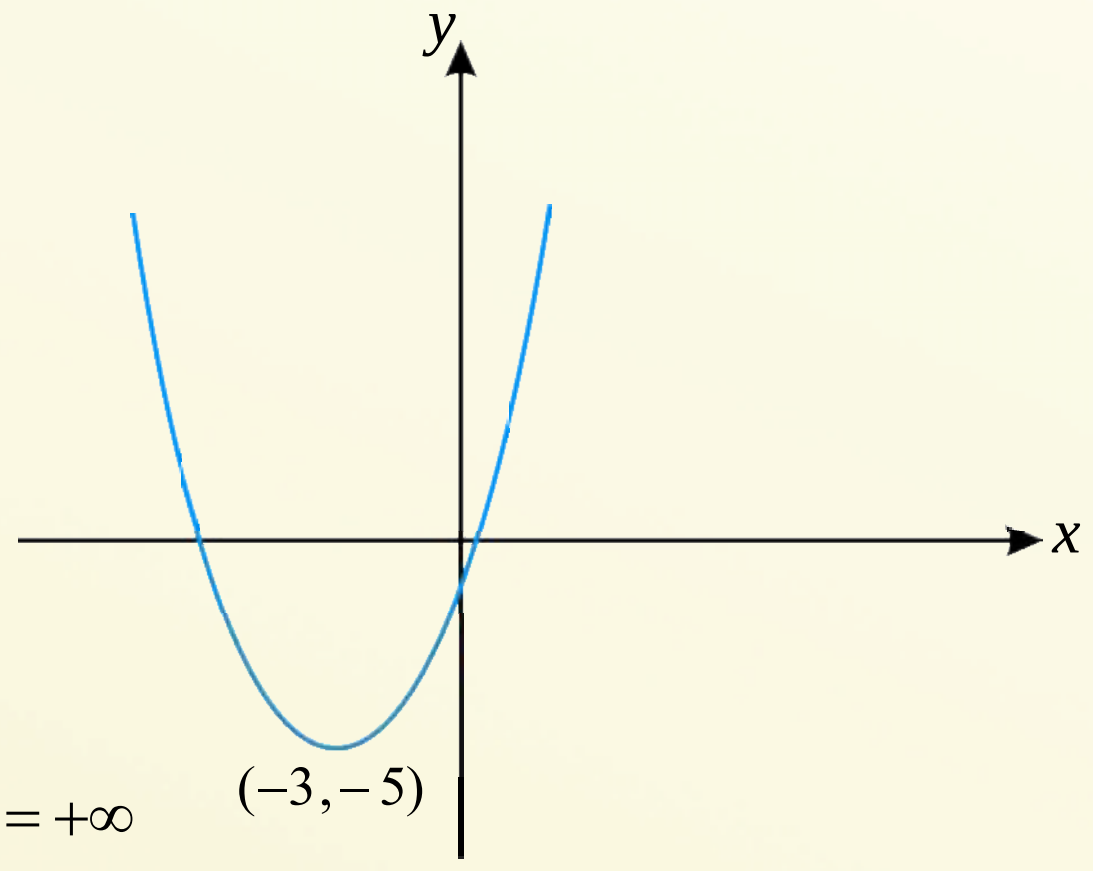

x	$-\infty$		-4		-3		1		2		$+\infty$
$f'(x)$		$-$		$-$	0	$+$		$+$		$+$	
$f(x)$	$+\infty$	↘	$-\frac{9}{2}$	↘	-5 (Min)	↗	3	↗	$\frac{15}{2}$	↗	$+\infty$

په پايله کې د $x = -3$ په ټکي کې چې د تابع قيمت (-5) دی او تابع په $(-3, -5)$ ټکي کې مطلق اصغري لري.

(c) ketabton.com: The Digital Library

دوهم مثال: د $f(x)=x^3-3x+2$ د تابع اعظمي او اصغري ټکي پيدا او رسم يې کړئ.

حل: د اعظمي او اصغري ټکو د پيدا کولو لپاره لومړی د تابع لومړی مشتق پيدا او بيا د مشتق د تابع صفري ټکي په لاس راوړو.

$f(x)=x^3-3x+2$

$f'(x)=3x^2-3$

$f'(x)=0$

$3x^2-3=0$

$3x^2=3$

$x^2=1$

$x_1=1 \quad , \quad x_2=-1$

$f(1)=1^3-3\cdot1+2=1-3+2=0$

$f(0)=0-3\cdot0+2=2$

$f(2)=2^3-3\cdot2+2=4$

$f(1)=0 \quad , \quad f(0)=2 \quad , \quad f(2)=4$

$Max\ f(2)=4 \qquad Min\ f(1)=0$

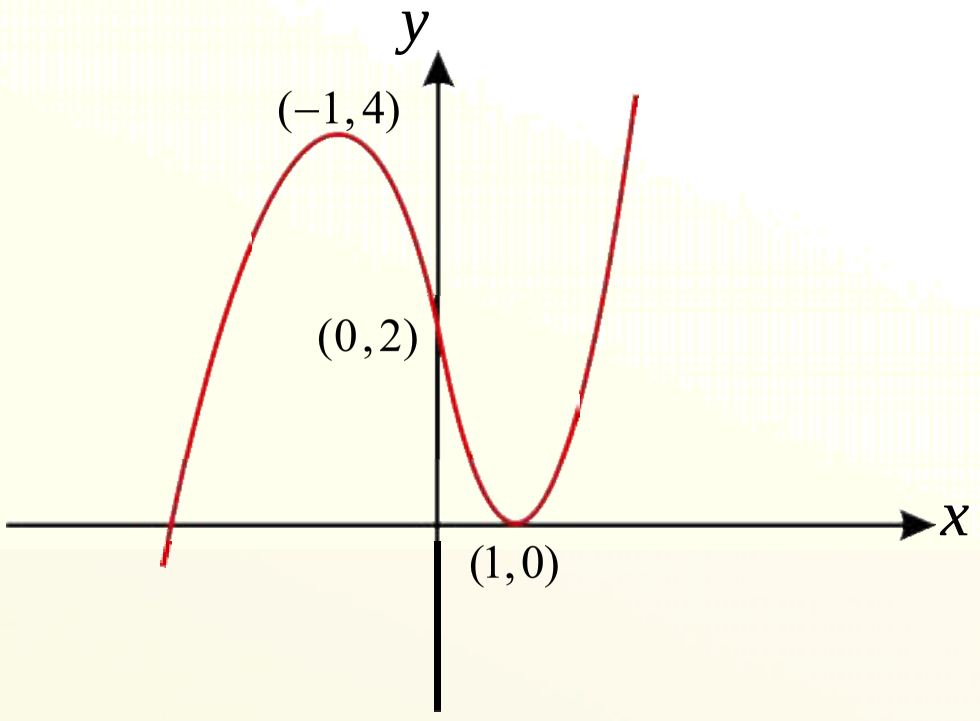

x	$-\infty$	-2	-1	0	1	2	$+\infty$
$f'(x)$	+	+	0 −	−	0 +	+	
$f(x)$	$-\infty$ ↗	$-\frac{5}{6}$ ↗	4 ↘ (Max)	2 ↘	0 ↗ (Min)	4 ↗	$+\infty$

له جدو څخه ليدل کيږي چې تابع د $(-\infty,-1)$ او $(1,+\infty)$ په انټروالونوکې مطلقه متزايده او $(-1,1)$ په انټروال کې متناقصه ده، نو د $(1,0)$ نقطځ اصغري او د $(-1,4)$ نقطه اعظمي ده.

د يوې تابع د ګراف رسمولو لپاره لاندې ټکي بايد په پام کې ونيسو:

1. د تابع متماديت او نامتماديت مطالعه کړو.
2. د قايمو محورونو سره د ګراف تقاطع.
3. د لومړي مشتق د اشارې مطالعه د تابع د تزايد او تناقص لپاره.
4. د تابع د اعظمي او اصغري ټکو لپاره د مشتق صفري ټکي پيدا کول.
5. د مجانبونو ټاکل.
6. د جدول ترتيبول او د هغوی په مرسته د ګراف رسمول.

(c) ketabton.com: The Digital Library

دریم مثال: د $y=2+x-x^2$ تابع گراف رسم کړئ؟

حل: لیدل کېږي چې تابع د متحول د ټولو قیمتونو لپاره معینه ده.

1- ددې تابع د تقاطع ټکی د x او y له محورونو سره پیداکوو:

د y له محور سره د گراف تقاطع د ټکو د پیداکولو لپاره په ورکړشوي تابع کې $x=0$ وضع کوو:

$x=0 \quad y=2+0-0=2$

نو پورتنی گراف د y محور په $(0,2)$ نقطه کې قطع کوي.

د x د محور سره د گراف د پرېکړې د ټکو دپیدا کولو لپاره y مساوي په صفر وضع کوو او د x قیمت پیداکوو:

$y=0 \;,\; 2+x-x^2=0$

$x_{1,2}=\dfrac{-b\pm\sqrt{b^2-4ac}}{2a}$

$x_{1,2}=\dfrac{-1\pm\sqrt{1+4\cdot 2}}{-2}=-\dfrac{-1\pm 3}{2}$

$x_1=-1 \;,\; x_2=2$

نو پورتنی گراف د x محور په $(-1,0)$ او $(2,0)$ نقطو کې قطع کوي.

2- د تابع اعظمي او اصغري ټکي پیداکوو، ددې کار لپاره دتابع اول او دویم مشتق څیړو.

$y=2+x-x^2$

څرنگه چې د تابع په اعظمي او اصغري په نقطو کې د تابع لومړی مشتق صفر دی نو $y'=0$ سره وضع کوو:

$y'=1-2x$

$y'=0 \text{،} \quad 1-2x=0$

$-2x=-1 \;\Rightarrow\; 2x=1$

$x=\dfrac{1}{2}$

تابع په $x=\dfrac{1}{2}$ نقطه کې یو اعظمي یو یا اصغري قیمت لري، دهغې دپېژندنې له پاره دتابع دویم مشتق پـه $x=\dfrac{1}{2}$ ټکو کې څیړو: $y''=-2<0$

څرنگه چې y'' تل منفي دی نو په $x=\dfrac{1}{2}$ کې هم منفي دی څکه نو تابع په $x=\dfrac{1}{2}$ ټکی کې یو اعظمي قیمت لري څرنگه چې د $x=\dfrac{1}{2}$ لپاره $y=2+\dfrac{1}{2}-\dfrac{1}{4}=2\dfrac{1}{4}$ کېږي، نو د تابع اعظمي نقطه داده: $(\dfrac{1}{2}\text{،}\; 2\dfrac{1}{4})$

(c) ketabton.com: The Digital Library

دامنحني دانعطاف نقطه نه لري ځکه چې دهر x لپاره $y''<0$ دی.

3- په $\pm\infty$ کې دګراف څېړل:

$$\lim_{x\to\infty} y = \lim_{x\to\infty}(2+x-x^2)=\infty$$

$$\lim_{x\to-\infty} y = \lim_{x\to-\infty}(2+x-x^2)=-\infty$$

د زياتې روښانتيا لپاره لاندې جدول ترتيب شوی، او دتابع ټول بدلونونه په هغوکې په ګوته کوو او وروسته نوموړی ګراف رسموو.

x		-1		$\frac{1}{2}$		2	
y'	$+$		$+$	0	$-$		$-$
y	↗	0	↗	$2\frac{1}{4}$	↘	0	↘

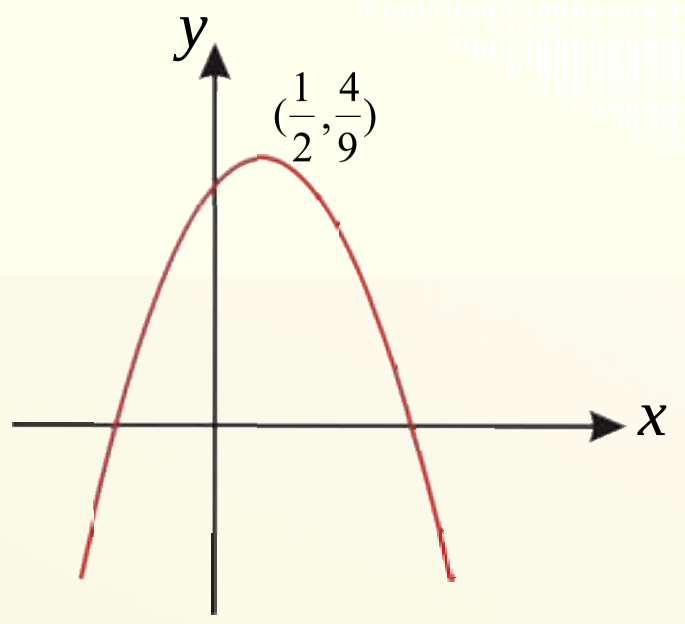

پوښتني

1- د لاندې توابعو موضعي Extreme و ټاکئ.

$a)\ f(x)=x^2-3x+2$ $\qquad b)\ f(x)=\frac{x+1}{x^2}$ $\qquad c)\ y=3x^2-4x+1$

2- د $f(x)=3x^3-4x^2$ د تابع مطلقه min پيدا کړئ.

(c) ketabton.com: The Digital Library

د انعطاف د نقطې ټاکل

هغه ټکي چې د یوې تابع ګراف په هغې کې خپل محدبیت، مقعریت ته او یا ددې پر عکس بدلوي د څه په نامه یادېږي؟ آیا په دې ټکي کې د دویم مشتق علامه او قیمت څرګند شی؟

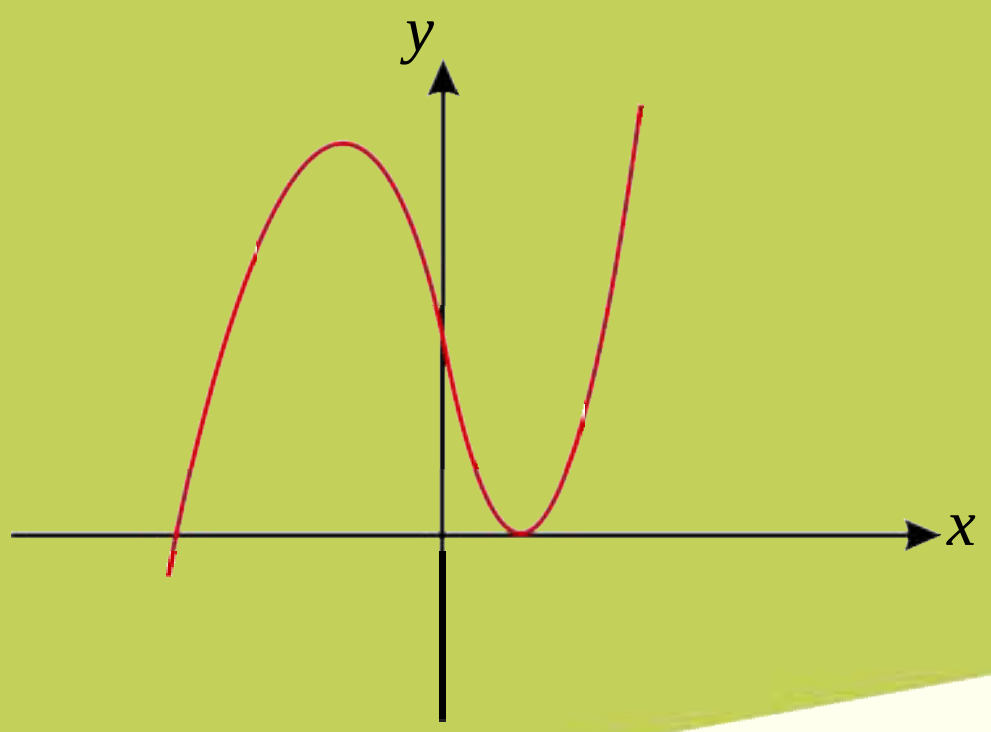

فعالیت

لاندیني شکل په پام کې ونیسی.

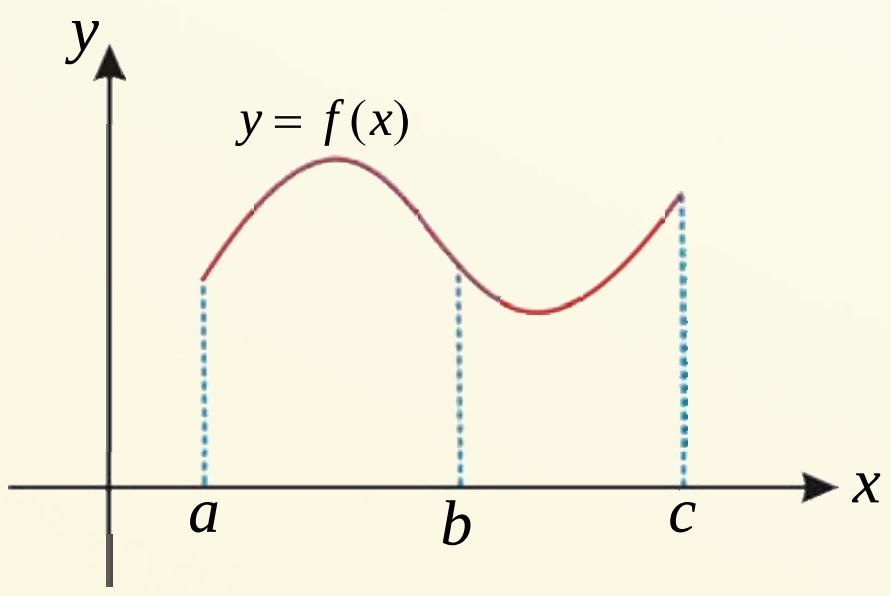

- د $y=f(x)$ د تابع منحنی د (a,b) په انټروال کې څه ډول منحني بلل کیږي؟
- د $y=f(x)$ د تابع منحنی د (b,c) په انټروال کې څه ډول منحني بلل کیږي؟
- د (a,b) په انټروال کې په منحني یو مماس رسم کړئ او له هغه مماس سره یې پرتله کړئ چې د (b,c) په انټروال کې په منحني رسمیږي.

د پورتني فعالیت پایله داسې بیانوو:

1. د $y=f(x)$ د تابع منحني په یوه انټروال کې پرسیدلی یا محدب بلل کیږي، که چیرې په دې انټروال کې په منحني مماس رسم شي، نو مماس د منحني له پاسه یا پورته خواته پروت وي، په دې صورت کې د تابع دویم مشتق منفي $y''<0$ په لاس راځي.

(c) ketabton.com: The Digital Library

په دې ډول که د $y = f(x)$ د تابع دويم مشتق د انټروال په ټولو ټکو کې منفي وي، نو د تابع ګراف يا منحني په دې انټروال کې محدب پاتې کېږي.

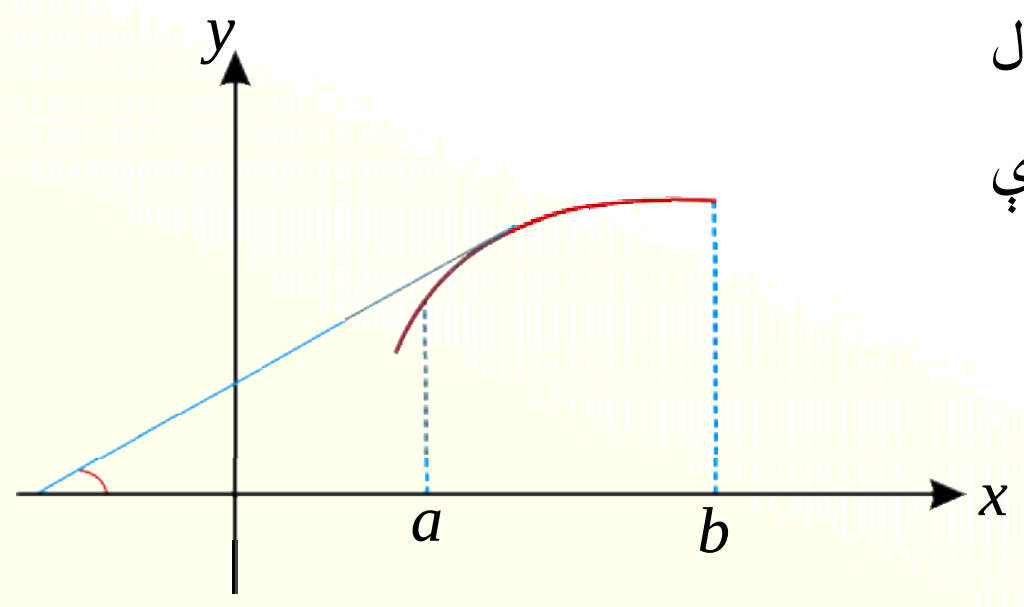

2. د $y = f(x)$ د تابع منحني په يوه انټروال کې ننوتې يا مقعره بلل کېږي، که چيرې په نوموړي انټروال کې په منحني مماس رسم شي، نو مماس د منحني نه لاندې يا ښکته خوا پروت وي، که د $y = f(x)$ د تابع دويم مشتق د انټروال په ټولو ټکو کې مثبت وي $y''>0$ وي، منحني په دې انټروال کې مقعر بلل کيږي.

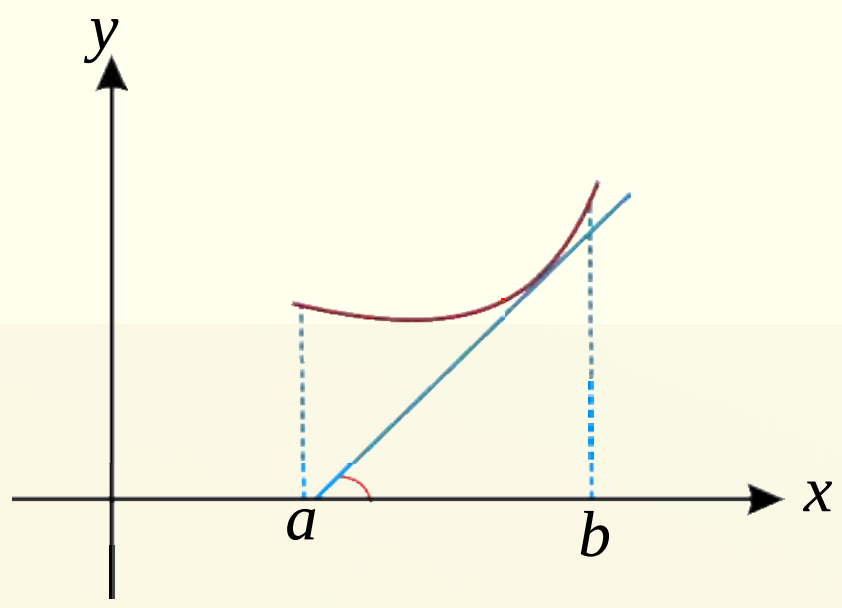

تعريف: هغه ټکي چې تابع له مقعريت څخه محدبيت ته او يا دې پر عکس په کې جهت بدلوي، د انعطاف (Inflection) نقطه بلل کېږي.

که د $y = f(x)$ تابع د $x = x_0$ په ټکي کې چې د تابع دويم مشتق صفر شي($f''(x_0)=0$) وي تابع د $x = x_0$ په ټکي کې د انعطاف نقطه لري او ددې پر عکس تابع د انعطاف نقطه نه لري.

لومړی مثال: د $f(x) = x^2 - 5x + 4$ د تابع ګراف رسم محدبيت او مقعريت يې وڅېړئ.

حل: تابع د متحول د ټولو قيمتونو لپاره معينه ده.

1- د y له محورسره تقاطع

$$\left.\begin{aligned} x&=0 \\ y&=4 \end{aligned}\right\} \Rightarrow (0,4)$$

2- د x له محورسره تقاطع

$$\left.\begin{aligned} y&=0 \\ x^2-5x+4&=0 \end{aligned}\right\} \Rightarrow x^2-5x+4=(x-4)(x-1) \Rightarrow x_1=4 \quad , \quad x_2=1$$

(c) ketabton.com: The Digital Library

د x له محور سره د تقاطع ټکي $(4,0)$ او $(1,0)$ دي.

x	$-\infty$	0	1	$\frac{5}{2}$	4	$+\infty$
$f'(x)$	$-$	$-$	$-$	$+$	$+$	
$f(x)$	$+\infty \searrow$	$4 \searrow$	$0 \searrow$	$-\frac{9}{4}$ min $\nearrow$	$0 \nearrow$	$+\infty$

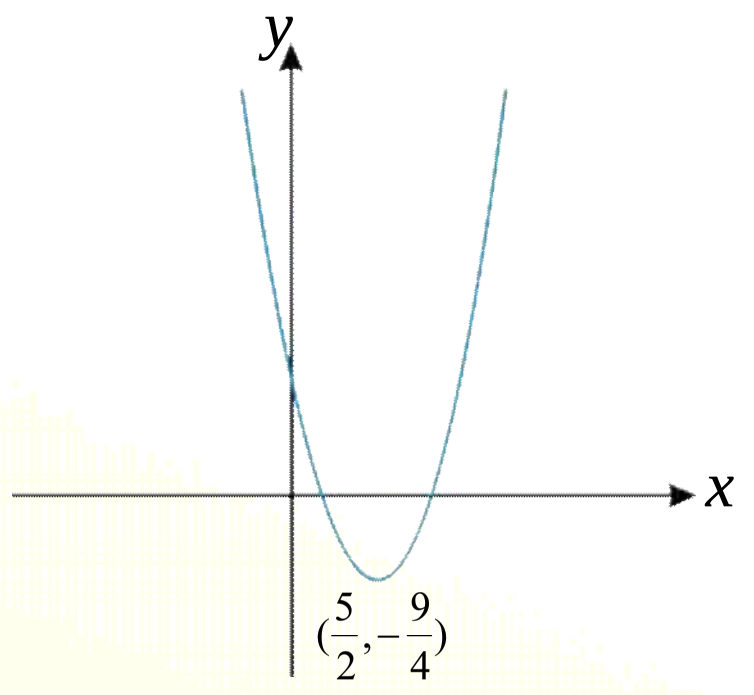

د ګراف، مقعریت او محدبیت د څیړلو لپاره د تابع دویم مشتق په لاس راوړو:

$$f(x)=x^2-5x+4 \Rightarrow y'=2x-5$$
$$f''(x)=2>0$$

څرنګه چې $y''>0$ دی، نو په پایله کې ویلای شو چې منحني ننوتي یا مقعر دی.

دویم مثال: هغه انټروالونه وټاکی چې په هغې کې د $y=x^3+9x^2-6x+1$ تابع ګراف محدب یا مقعر وي.

حل:

$$y=x^3+9x^2-6x+1$$
$$y'=3x^2+18x-6 \Rightarrow y''=6x+18$$
$$y''<0 \Rightarrow 6x+18<0$$
$$6x<-18 \Rightarrow x<-3$$
$$y''>0 \Rightarrow 6x+18>0$$
$$6x\geq -18$$
$$x>-3$$

x	$-\infty$	-3	$+\infty$
y''	$-$	0	$+$
y	$\cap$ محدب	انعطاف	$\cup$ مقعر

څرنګه چې لیدل کیږي د تابع دویم مشتق په $(-\infty,-3)$ انټروال کې منفي او د $(-3,+\infty)$ انټروال کې مثبت دي نو دا ډول ګراف په لومړي انټروال کې محدب او په دویم کې مقعر دی.

(c) ketabton.com: The Digital Library

(c) ketabton.com: The Digital Library

دریم مثال: د $f(x)=x^5-5x^3$ د تابع د انعطاف ټکی و ټاکئ؟

حل:

$$f(x)=x^5-5x^3 \quad \Rightarrow \quad f'(x)=5x^4-15x^2$$

$$f''(x)=20x^3-30x$$

$$f''(x)=0$$

$$20x^3-30x=0$$

$$x(20x^2-30)=0$$

$$x_1=0$$

$$20x^2-30=0$$

$$x^2=\frac{3}{2} \quad \Rightarrow \quad x_2=\sqrt{\frac{3}{2}} \quad , \quad x_3=-\sqrt{\frac{3}{2}}$$

x	$-\infty$		$-\sqrt{\frac{3}{2}}$		0		$\sqrt{\frac{3}{2}}$		$+\infty$
$f''(x)$		$-$	0	$+$	0	$-$	0	$+$	
$f(x)$	$-\infty$	$\cap$	-13.65	$\cup$		$\cap$	$-6\sqrt{\frac{3}{2}}$	$\cup$	

لیدل کیږي چې په $x=\sqrt{\frac{3}{2}}$ او $x=0$، $x=-\sqrt{\frac{3}{2}}$ کې د تابع دویم مشتق صفر دی یا $f''(x)=0$ علامه بدلوي او په دې ټکو کې مماس رسمیدلی شي، چې هغه ټکی د انعطاف ټکی دی.

پوښتنې

1. د $f(x)=x^2-4$ د تابع محدبیت او مقعریت وټاکئ.
2. د $f(x)=-2x^2-1$ د تابع د انعطاف نقطه وټاکئ.

د منحني ګانو رسمول

د دويمې درجې تابعګانو ګراف

د مخامخ شکل په اړه خپل نظر بيان کړئ.

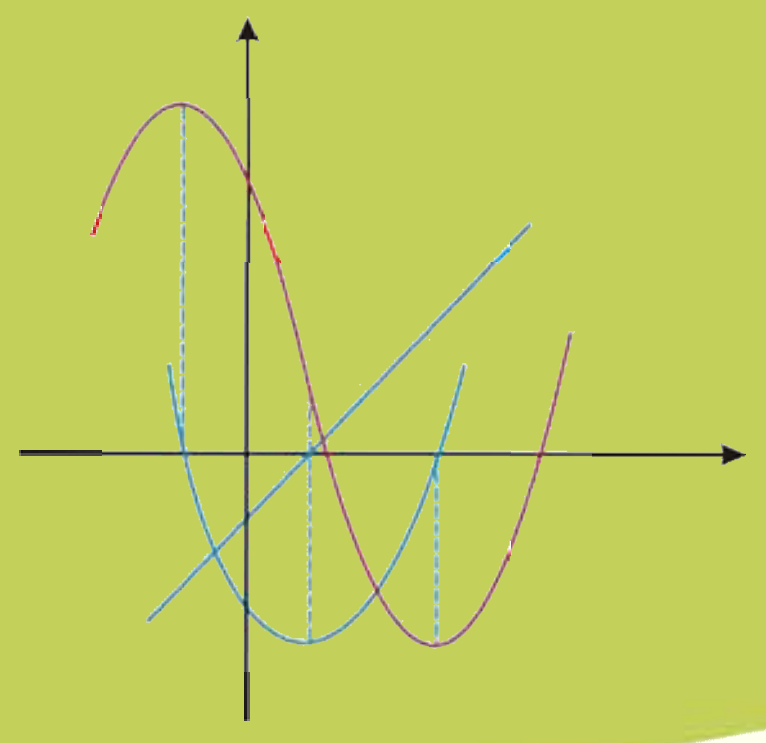

فعاليت

- د $f(x)=x+1$ د تابع ګراف د $f(x)=-x+1$ د تابع له ګراف سره پرتله کړئ.
- د $y=ax^2+bx+c$ د تابع د تعريف ساحه و ټاکئ آيا دا تابع متمادي ده؟
- د نوموړې تابع لومړی مشتق پيدا او د Maximum او Minimum ټکي او د تناظر محور يې وټاکئ.
- د تابع ليميټ په هغه صورت کې پيدا کړئ چې $x\to\pm\infty$ وکړي.
- له محورونو سره د تقاطع ټکي و ټاکئ.
- د تحولاتو جدول ترتيب او نوموړی منحني رسم کړئ.

د پورته فعاليت پايله داسې بيانوو:

1- د تابع د تعريف ساحه: ليدل کېږي چې تابع د متحول د ټولو قيمتونو لپاره ټاکلې ده، يعنې:

$$D_f\to(-\infty,+\infty)$$

نو تابع د خپل تعريف په ساحه کې متمادي ده.

2- د تابع د بحراني ټکو او د تناظر محور ټاکل:

$$f'(x)=2ax+b=0$$
$$f'(x)=0$$
$$2ax+b=0$$
$$2ax=-b$$
$$x=\frac{-b}{2a}$$

(c) ketabton.com: The Digital Library

د $x=\frac{-b}{2a}$ قیمت په اصل تابع کې وضع کوو:

$$y=a(-\frac{b}{2a})^2+b(-\frac{b}{2a})+c \Rightarrow a\cdot\frac{b^2}{4a^2}-\frac{b^2}{2a}+c=0$$

$$y=\frac{b^2-2b^2+4ac}{4a}=\frac{-b^2+4ac}{4a} \Rightarrow \frac{4ac-b^2}{4a}$$

د $(-\frac{b}{2a}, \frac{4ac-b^2}{4a})$ ټکی بحراني یعني اعظمي یا اصغري دی.

الف: که $a>0$ وي، نو: $a>0 \Rightarrow \lim\limits_{x\to+\infty} f(x)=+\infty$

تابع په $(\frac{-b}{2a},\frac{4ac-b^2}{4a})$ ټکي کې Min لري.

ب: که $a<0$ وي، نو: $a<0 \Rightarrow \lim\limits_{x\to-\infty} f(x)=-\infty$

تابع په $(\frac{-b}{2a},\frac{4ac-b^2}{4a})$ ټکي کې Max لري.

3- د ګراف د رسمولو لپاره جدول ترتیب او ګراف یې رسموو:

$a>0$

x	$-\infty$	$\frac{-b}{2a}$	$+\infty$
y'	$-$		$+$
y	$+\infty$ ↘	$\frac{4ac-b^2}{4a}$	↗ $-\infty$

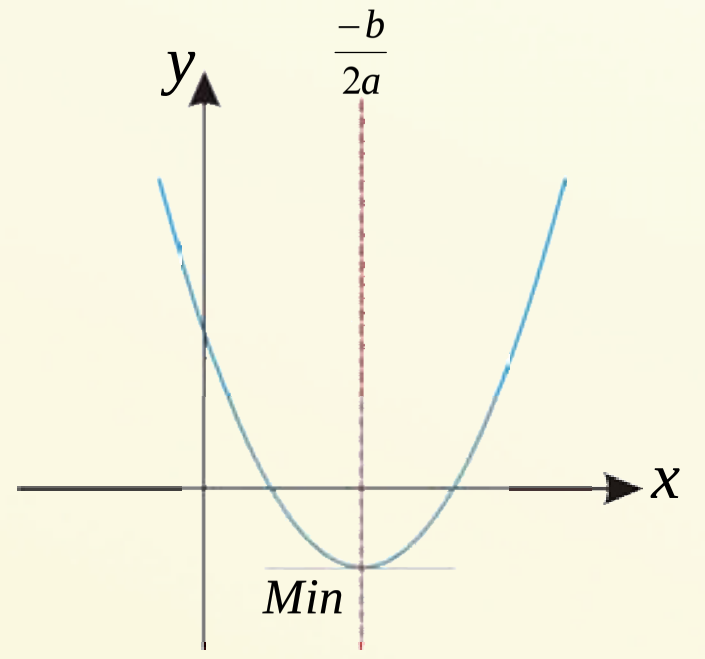

خرنګه چې $a>0$ د منحني خوله(جهت) پورته خواته او د $(-\frac{b}{2a},\frac{4ac-b^2}{4})$ اصغري نقطه ده.

$a<0$

x	$-\infty$	$\frac{-b}{2a}$	$+\infty$
y'	$-$		$+$
y	$+\infty$ ↘	$\frac{4ac-b^2}{4a}$	↗ $-\infty$

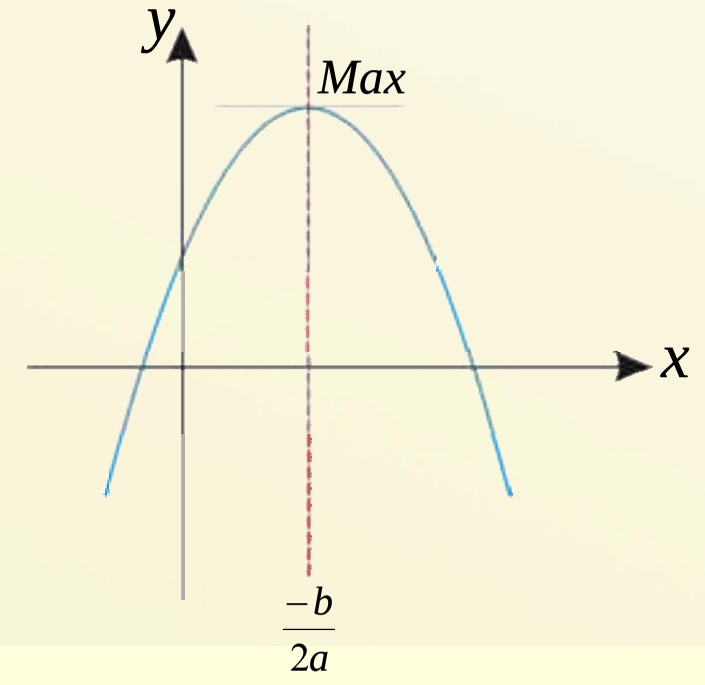

خرنګه چې $a<0$ د منحني خوله(جهت) پورته خواته او د $(-\frac{b}{2a},\frac{4ac-b^2}{4})$ اعظمي نقطه ده.

(c) ketabton.com: The Digital Library

لومړی مثال: د $f(x)=x^2-4x+3$ د تابع تحولات مطالعه او ګراف یې رسم کړئ.

حل:

1- د تابع د تعریف ساحه $(-\infty,+\infty)$ تابع د ټولو حقیقي قیمتونو لپاره ټاکلې ده، نو تابع په دې انټروال کې متمادي ده.

2- د تابع د منحني تقاطع د x له محور سره:

$$\left.\begin{array}{l} y=0 \\ x^2-4x+3=0 \\ (x-1)(x-3)=0 \\ x-1=0 \Rightarrow x=1 \\ x-3=0 \Rightarrow x=3 \end{array}\right\} (1,0)\ ,\ (3,0)$$

3- د تابع د منحني تقاطع د y له محور سره:

$$\left.\begin{array}{l} x=0 \\ y=0-4\cdot 0+3 \\ y=3 \end{array}\right\} (0,3)$$

4- د تابع د extreme ټکو د پیداکولو لپاره د لومړی مشتق صفري ټکي پیدا او جدول یې ترتیبوو:

$$f'(x)=2x-4=0 \Rightarrow 2x=4 \Rightarrow x=2$$

$$f(2)=2^2-4\cdot 2+3=-1 \ \} \Rightarrow V(2,-1)\min$$

$$x\to\pm\infty \Rightarrow f(x)\to\pm\infty$$

$$\lim_{x\to\pm\infty} f(x)=\lim_{x\to\pm\infty}\left[x^2-4x+3\right]=+\infty$$

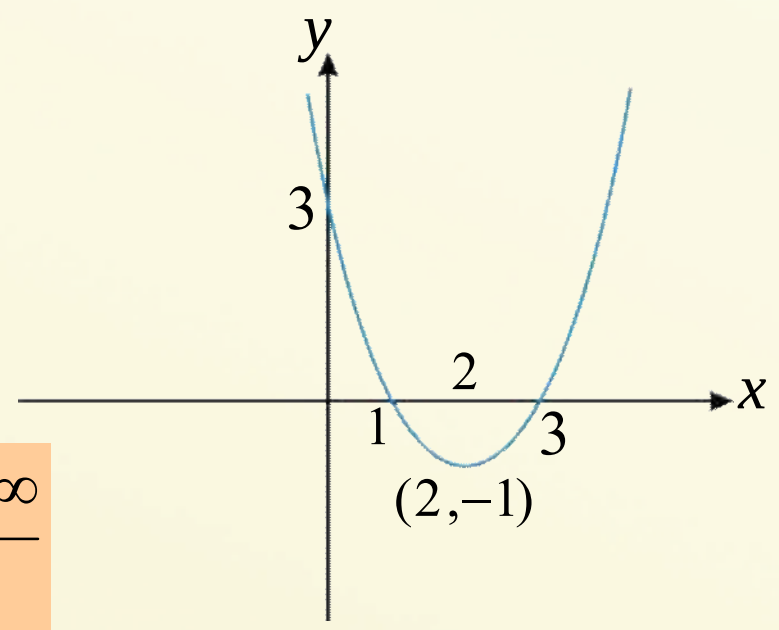

x	$-\infty$	0	1	2	3	$+\infty$
y'	−	−	−	+	+	
y	$-\infty$ ↘	3 ↘	0 ↘	−1 ↗ (Min)	0 ↗	$+\infty$

دویم مثال: د $f(x)=-x^2+2x$ د تابع تحولات مطالعه او ګراف یې رسم کړئ.

حل: لیدل کېږي چې تابع د ټولو قیمتونو لپاره تعریف شوې ده، نو:

1- د تابع د تعریف ساحه عبارت دی له: $(-\infty,+\infty)$ چې په دې ساحه کې تابع متمادي ده.

(c) ketabton.com: The Digital Library

-2 د تابع د منحني د تقاطع ټکی د x له محور سره:

$$f(x)=0$$
$$-x^2+2x=0$$
$$x(-x+2)=0$$
$$x_1=0 \qquad (0,0)$$
$$-x+2=0$$
$$x_2=2 \qquad (2,0)$$

د تقاطع ټکی

-3 د تابع د منحني تقاطع د y له محور سره:

$$x=0$$
$$f(x)=-x^2+2x$$
$$f(x)=0+2\cdot 0$$
$$f(x)=0 \qquad (0,0)$$

-4 د تابع د extreme نقطو د پیداکولو لپاره د تابع لومړی مشتق پیداکوو او جدول یې ترتیب او ګراف یې رسموو:

$$D_f \to (-\infty,+\infty)$$
$$f(x)=-x^2+2x$$
$$f'(x)=-2x+2=0$$
$$-2x+2=0$$
$$-2x=-2$$
$$\left.\begin{array}{l} x=1 \\ f(1)=1 \end{array}\right\} \Rightarrow V(1,1)Max$$

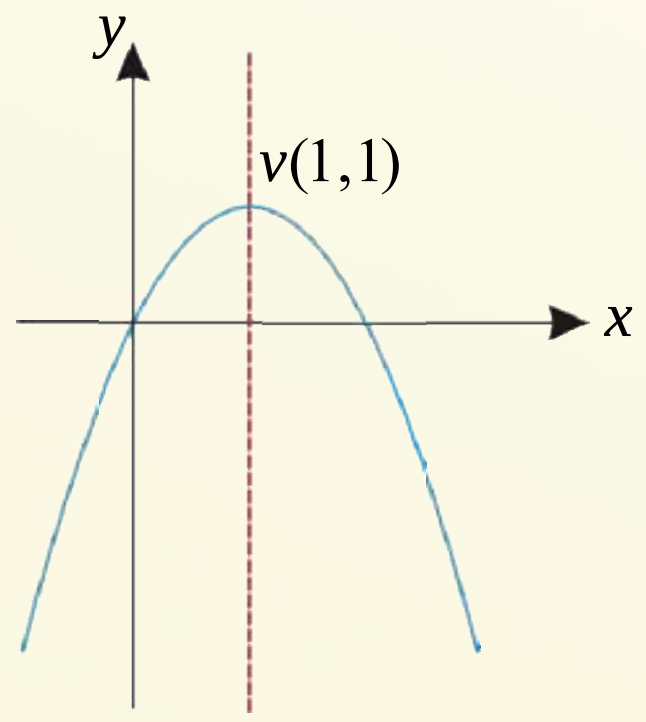

x	$-\infty$	0		1		2	$+\infty$
$f'(x)$	+		+		−		−
$f(x)$	$-\infty$ ↗	0	↗	1 (Max)	↘	0	↘ $-\infty$

په جدول کې لیدل کېږي چې د مشتق علامه د مثبت څخه منفي ته او یا د تزاید حالت څخه تناقص ته شکل بدلوي نو تابع د $(1,1)$ په ټکي کې اعظمي ده.

پوښتنې

1. د $f(x)=2x^2-x-1$ د تابع ګراف رسم کړئ.
2. د $f(x)=x^2-x-2$ د تابع د ګراف بدلونونه وڅېړئ او ګراف یې رسم کړئ.

(c) ketabton.com: The Digital Library

(c) ketabton.com: The Digital Library

د توابعو د ګرافونو مجانبونه

شکل ته پام وکړئ ټکي ټکي کرښې د څه په نامه یادېږي، نومونه یې واخلئ.

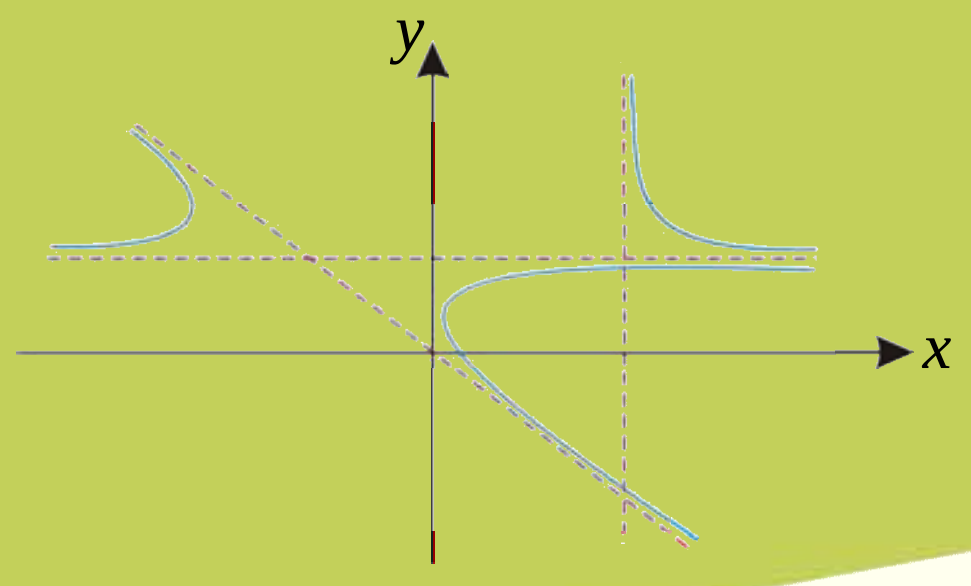

فعالیت

- مجانبونه څه دول کرښې دي؟
- مجانبونه، منحني ګان په کومو ټکو کې قطع کوي؟

د پورتني فعالیت پایله داسې بیانوو:

مجانبونه: هغه مستقیمې کرښې دي چې د منحني لپاره د لاربنود حیثیت لري او د منحني کرښه غوڅه کړي، هغه تابعګانې چې د متحول د ځینو قیمتونو لپاره غیر متمادي وي مجانبونه لري او په دريو ډوله دي.

1- **عمودي مجانب**: د $y=f(x)$ تابع هغه عمودي مجانب لري چې $x \to a$ او $y \to \infty$ وکړي، یعنې $\lim\limits_{x\to a} f(x)=\pm\infty$ شي یا په بل عبارت په کسري تابعګانو کې که چیرې د کسر مخرج مساوي په صفر شي نوموړې تابع بې‌نهایت خوا ته تقرب کوي، نو ددې ډول مجانب د پیدا کولو لپاره د کسر مخرج له صفر سره مساوي وضع کوو.

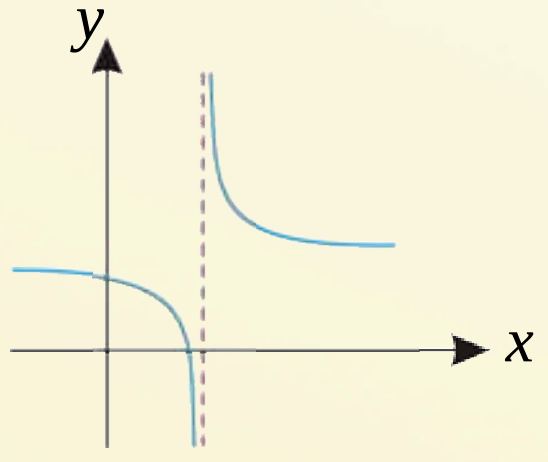

2- **مایل مجانب**: د $y=f(x)$ کسري تابع کله چې د صورت او مخرج د تقسیم حاصل د یوه مستقیم خط په شکل ($y=ax+b$) لاسته راشي داسې چې $a \neq 0$ وي په لاس راځي او دا هغه وخت امکان لري چې تابع د مایل مجانب لرونکې وي، یعنې د متحول د صورت درجه او د متحول د مخرج درجه له درې څخه لوړه وي.

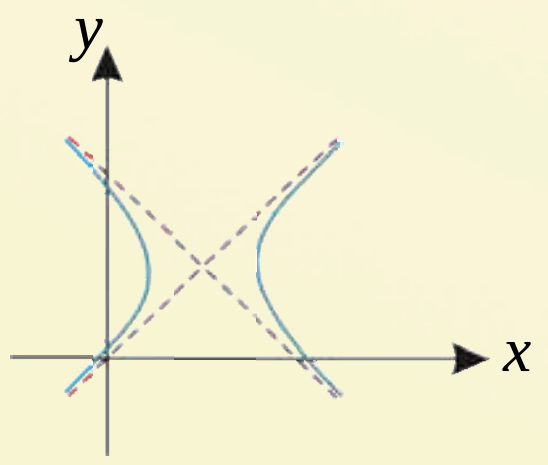

په یاد ولرئ چې که یوه تابع د افقي مجانب لرونکي وي، مایل مجانب نه لري او بر عکس که چیرې مایل مجانب ولري افقي مجانب نه لري.

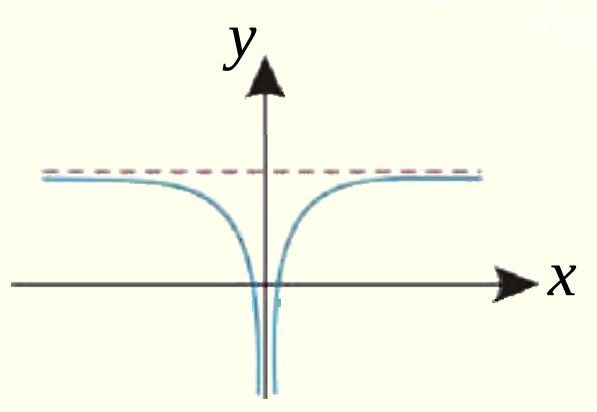

3- **افقي مجانب**: یوه تابع هغه وخت د افقي مجانب لرونکې ده، چې که $x \to \infty$ وکړي د تابع قیمت یو ثابت مقدار شي او یا په بل عبارت یوه تابع هغه وخت د افقي مجانب لرونکې ده چې کـه $x \to \infty$ وکړي، نو $y \to c$ ته تقرب کوي، یعني $\lim_{x \to \pm\infty} f(x) = c$ شي.

لومړی مثال: د $f(x) = \dfrac{x+1}{2x-4}$ تابع عمودي مجانب پیداکړئ.

حل: د عمودي مجانب د پیداکولو لپاره د کسر مخرج مساوي په صفر وضع کوو، لرو چې:

$$\lim_{x \to \pm\infty} f(x) = \lim_{x \to \pm\infty} \left(\frac{x+1}{2x-4}\right) = \frac{1}{2}$$

افقي مجانب عبارت دی له: $y = \dfrac{1}{2}$

x	-1	0	$+1$
y	0	$-\frac{1}{4}$	-1

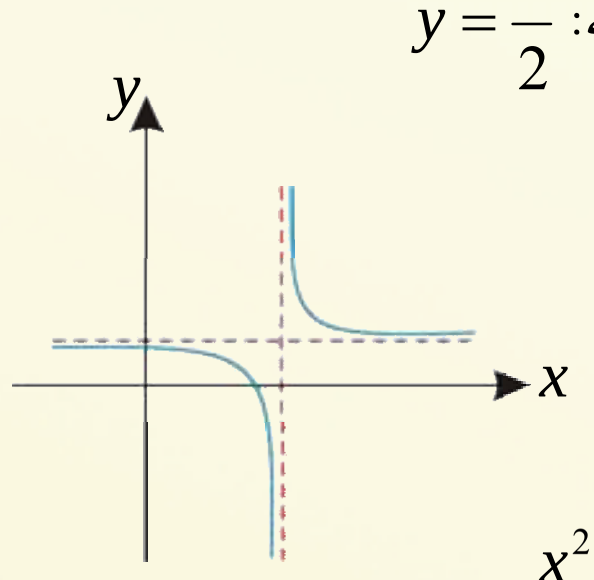

دویم مثال: د $y = \dfrac{x^2+2x-1}{x}$ د تابع د منحني مجانبونه وټاکئ.

حل:

1- مایل مجانب: ددې مجانب د پیداکولو لپاره د تابع صورت د تابع پر مخرج وېشو:

$$y = \frac{x^2+2x-1}{x} = x + 2 - \frac{1}{x} \Rightarrow y = x + 2$$

2- عمودي مجانب: د دې مجانب د پیداکولو لپاره د تابع مخرج مساوي په صفر وضع کوو:

$$y = \frac{x^2+2x-1}{x} \Rightarrow x = 0$$

3- افقي مجانب: څرنګه چې تابع مایل مجانب لري، نو افقي مجانب نه لري.

(c) ketabton.com: The Digital Library

دریم مثال: د $f(x)=\dfrac{(x-3)(x+2)}{(x+1)(x-2)}$ تابع مجانبونه وټاکئ.

حل:

1- عمودي مجانب: د تابع مخرج مساوي په صفر وضع کوو:

$$(x+1)(x-2)=0$$

$$\left.\begin{array}{l}x+1=0\\x_1=-1\end{array}\right\}\quad \begin{array}{l}x-2=0\\x_2=2\end{array}$$

نو $x=2$ او $x=-1$ د تابع عمودي مجانبونه دي.

2- افقي مجانب: د افقي مجانب د پیداکولو لپاره د تابع لیمیټ په لاس راوړو:

$$y=\lim_{x\to\infty} f(x)=\lim_{x\to\infty}\frac{(x-3)(x+2)}{(x+1)(x-2)}=1$$

نو $y=1$ د تابع افقي مجانب دی.

3- خرنگه چې د تابع د صورت له وېش څخه پر مخرج د $y=ax+b$ خطي معادله پیدا نـه شـوه، نـو تـابع مایل مجانب نه لري.

د مجانبو د ټاکلو عمومي لاره:

که چیرې د $f(x)=\dfrac{P(x)}{Q(x)}$ په ناطقه تابع کې m او n په ترتیب سره د صورت او مخرج درجې وي، نو:

الف: که $m<n$ وي، نو د x محور افقي مجانب دی.

ب: که $m=n$ وي، نو $y=b$ افقي مجانب دی، داسې چې b د m او n د درجو د حدودو د ضـریبونو نسبت دی.

ج: که چیرې $m>n$ وي، نو افقي مجانب نه لري، ولې د مایل مجانب احتمال یې شته.

د: که چیرې $m=n+1$ وي(که د صورت درجه د یوه واحد په اندازه له مخرج څخه لویه وي) تابع هرو مرو مایل مجانب لري، په دې حالت کې افقي مجانب نه لري.

(c) ketabton.com: The Digital Library

(c) ketabton.com: The Digital Library

پوښتنې

د لاندې توابعو مجانبونه وټاکئ.

1) $f(x)=\dfrac{3x-6}{x^2-x-2}$ 2) $f(x)=\dfrac{-2x^2}{x^2+1}$

3) $f(x)=\dfrac{8}{x^2-4}$

(c) ketabton.com: The Digital Library

د هوموگرافیک تابعگانو گراف

شکل ته پاملرنه وکړئ دا شکل د څه ډول تابع گراف دی؟ افقي او عمودي مجانبونه يې وښيئ.

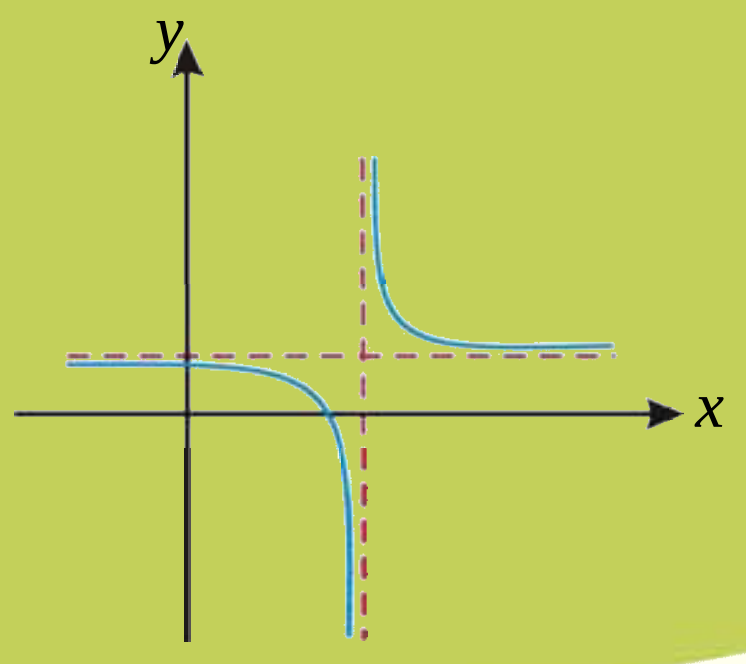

- هوموگرافیک تابع څه ډول تابع ده، په يوه مثال کې يې واضح کړئ.
- د $y=\frac{1}{x}$ د تابع گراف رسم کړئ.
- د نوموړي تابع مجانبونه لومړی پیدا او بیا يې رسم کړئ.
- د تابع دگراف تقاطع د x او y له محورونو سره پیدا کړئ.

د پورتني فعالیت پایله داسې بیانوو:

هغه تابعګانې چې د $y=\frac{ax+b}{cx+d}$ شکل ولري، هوموگرافیک تابعگانې بلل کېږي، داسې چې $c\neq 0$ وي. دا ډول توابع دوه مجانبونه لري چې:

1- افقي مجانب يې: $\lim\limits_{x\to\infty} f(x)=\lim\limits_{x\to\infty}\frac{\frac{ax}{x}+\frac{b}{x}}{\frac{cx}{x}+\frac{d}{x}}=\lim\limits_{x\to\infty}\frac{a+\frac{b}{x}}{c+\frac{d}{x}} \Rightarrow y=\frac{a}{c}$

2- عمودي(قایم) مجانب يې: $cx+d=0 \Rightarrow cx=-d \Rightarrow x=-\frac{d}{c}$

لومړی مثال: د $f(x)=\frac{2x-1}{x-3}$ د تابع بدلونونه وڅېړئ او گراف يې رسم کړئ.

حل:

$x-3=0$

$x=3$

1. څرنګه چې د تابع مخرج د $x=3$ په قیمت کې صفر کېږي نو تابع پرته د $x=3$ څخه د متحول په ټولو قیمتونو کې معینه ده، یعنې د تابع د تعریف ساحه ټاکو: $Domin = IR \setminus \{3\}$

2. د تابع د منحني تقاطع د x له محور سره:

$$\left.\begin{array}{l} f(x)=0 \\ 2x-1=0 \\ 2x=1 \Rightarrow x=\frac{1}{2} \end{array}\right\} (\frac{1}{2},0)$$

3. د تابع د منحني تقاطع د y له محور سره:

$$\left. x=0 \Rightarrow f(0)=\frac{2\cdot 0-1}{0-3}=\frac{1}{3} \right\} (0,\frac{1}{3})$$

4. د مجانبونو ټاکل:

الف- افقي مجانب: $y=2$, $\lim_{x\to\pm\infty}\frac{2x-1}{x-3}=2$ یا $f(x)=\frac{a}{c}=\frac{2}{1}=2$

ب- عمودي مجانب: $x=3 \Rightarrow x-3=0$ یا $x=-\frac{d}{c}=-\frac{-3}{1}=3$

5. د تابع د extreme ټکي پیدا کوو او جدول یې ترتیب او ګراف یې رسموو:

$$f'(x)=\frac{2(x-3)-(2x-1)}{(x-3)^2}=\frac{-5}{(x-3)^2}<0$$

$$f''(x)=\frac{0\cdot(x-3)^2-(-5)\cdot 2(x-3)}{(x-3)^4}=\frac{10(x-3)}{(x-3)^4}=\frac{10}{(x-3)^3}$$

x	$-\infty$	3	$+\infty$
$f'(x)$	$-$		$-$
$f''(x)$	$-$		$+$
$f(x)$	↘ $-\infty$	نه دی تعریف شوی	$+\infty$ ↘

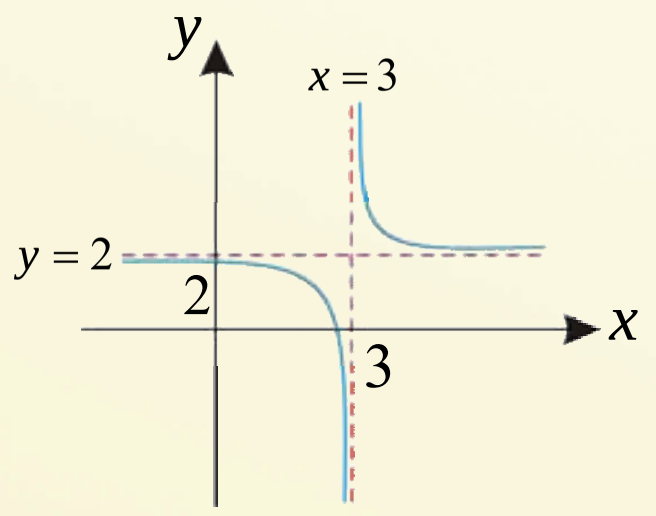

دویم مثال: د $f(x)=\frac{x-1}{x+1}$ د تابع ګراف بدلونونه و څېړئ او ګراف یې رسم کړئ.

حل: $x+1=0 \Rightarrow x=-1$

-1 د تابع د تعریف ساحه $D_f \to IR \setminus \{-1\}$ یعنې تابع په $x=-1$ ټکي کې تعریف شوې نه ده.

(c) ketabton.com: The Digital Library

-2 د تابع د منحني تقاطع د x له محور سره: $y=0 \Rightarrow x-1=0 \Rightarrow x=1 \Rightarrow (1,0)$

-3 د تابع د منحني تقاطع د y له محور سره: $x=0 \Rightarrow y=\frac{0-1}{0+1}=-1 \Rightarrow y=-1 \Rightarrow (0,-1)$

-4 د مجانبونو ټاکل:

الف- عمودي مجانب: $x+1=0 \Rightarrow x=-1$

ب- افقي مجانب: $\lim_{x\to\pm\infty} f(x)=\lim_{x\to\pm\infty}\frac{x-1}{x+1} \Rightarrow f(x)=y=1$

-5 د تابع extreme نقطې پيدا کوو، جدول يې ترتيب او ګراف يې رسموو:

$$f(x)=\frac{x-1}{x+1}$$

$$f'(x)=\frac{1\cdot(x+1)-1\cdot(x-1)}{(x+1)^2}=\frac{x+1-x+1}{(x+1)^2}=\frac{2}{(x+1)^2}>0$$

$$f''(x)=\frac{0\cdot(x+1)^2-2\cdot 2(x+1)}{(x+1)^4}=\frac{-4(x+1)}{(x+1)^4}=\frac{-4}{(x+1)^3}$$

x	$-\infty$ -1	
$f'(x)$	$+$	$+$
$f''(x)$	$+$	$-$
$f(x)$	$1 \nearrow$ نه دی تعریف شوی	$\nearrow 1$

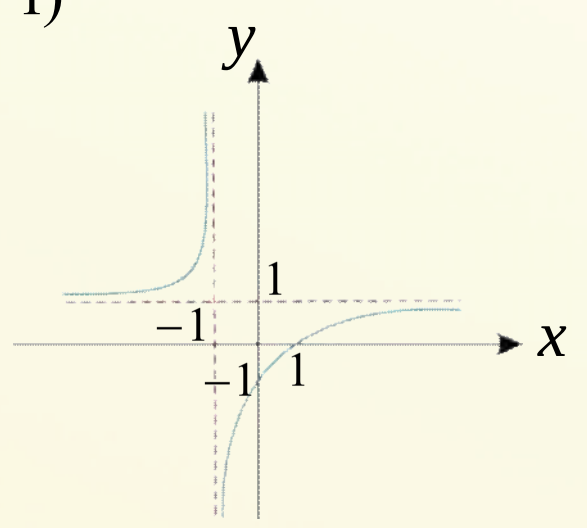

دريم مثال: غواړو د $f(x)=\frac{2x-5}{x}$ تابع ګراف رسم کړو.

حل:

-1 د تابع د تعريف ساحه تر څېړنې لاندې نيسو ليدل کېږي چې تابع پرته د $x=0$ څخه نور د متحول د ټولو قيمتونو لپاره معينه ده، يعنې: $D_f \to IR\setminus\{0\}$

-2 د محورونو سره د تقاطع ټکي

الف- د x له محور سره تقاطع:

$$f(x)=0 \Rightarrow \frac{2x-5}{x}=0$$

$$\left.\begin{array}{l} 2x-5=0 \\ 2x=5 \Rightarrow x=\frac{5}{2} \end{array}\right\} \Rightarrow (2.5,0)$$

(c) ketabton.com: The Digital Library

(c) ketabton.com: The Digital Library

ب- د y له محور سره تقاطع: د $x=0$ لپاره د $f(x)$ تابع تعریف شوي نه ده، نو د y محور سره تقاطع نه لري.

-3 **مجانبونه**:

الف- عمودي مجانب: څرنګه چې په مخرج کې یوازې x موجود دی، نو $x=0$ یې عمودي مجانب دی چې د y محور کېږي.

ب- افقي مجانب: $\lim_{x\to\pm\infty} f(x)=\lim_{x\to\pm\infty}\left[\frac{2x-5}{x}\right]=2$ نو $y=2$ د تابع افقي مجانب دی.

-4 د بحراني ټکو پیداکول: د بحراني ټکو د پیداکولو لپاره د تابع لومړی مشتق پیداکوو

$$f(x)=\frac{2x-5}{x}$$

$$f'(x)=\frac{2\cdot x-(2x-5)}{x^2}=\frac{2x-2x+5}{x^2}$$

$$f'(x)=\frac{5}{x^2}>0$$

څرنګه چې $f'(x)>0$ دی، نو تابع متزایده ده.

دګراف د رسمولو لپاره د تابع تحولات په جدول کې ترتیبوو:

x	$-\infty$			0		2.5		$+\infty$
$f'(x)$		$+$			$+$		$+$	
$f(x)$	2	$\nearrow$	$+\infty$		$-\infty \nearrow$	0	$\nearrow$	$+2$

نه دی تعریف شوی

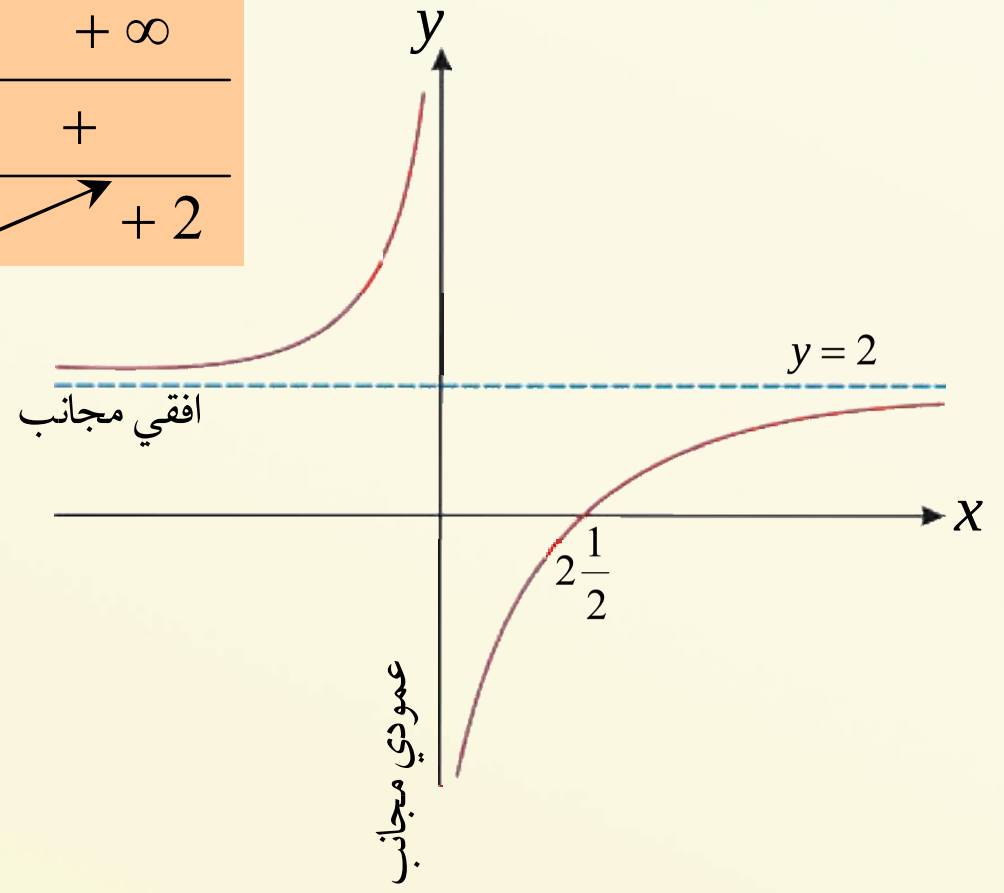

پوښتني

1. د $f(x)=\frac{x-1}{x+3}$ تابع بدلونونه وڅېړئ او رسم یې کړئ.

2. د $f(x)=\frac{x}{x-4}$ تابع بدلونونه وڅېړئ او رسم یې کړئ.

د دریمي درجې یو مجهوله تابع ګراف $y = ax^3 + bx^2 + cx + d$ ، $a \neq 0$

مخامخ شکل د ځینو توابعو ګرافونه رابښیي تاسې د هرې تابع د ګراف په هکله خپل نظر بیان کړئ.

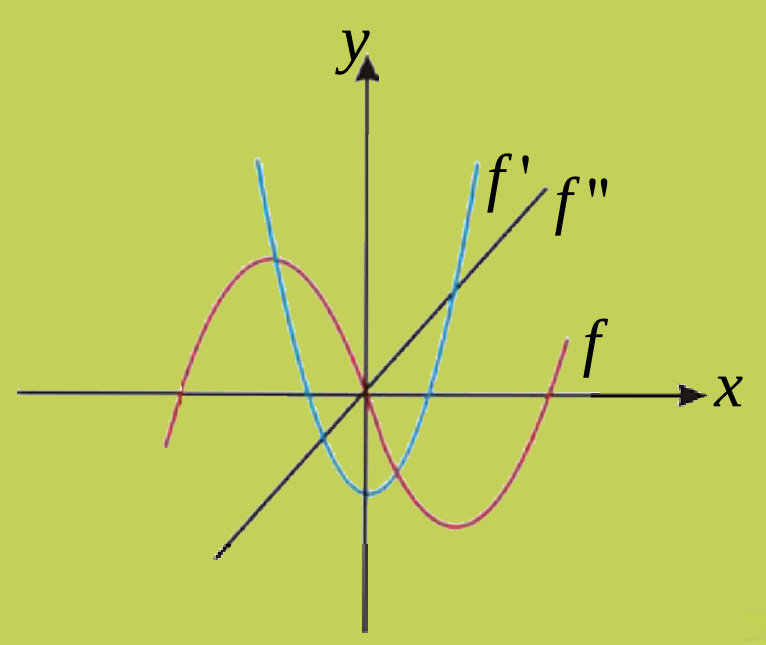

- د $f(x) = ax^3 + bx^2 + cx + d$ تابع په اړه فکر وکړئ او ووایئ چې تابع څومه درجه تابع ده؟
- د نومړې تابع ضریبونه او ثابت حد ولیکئ.
- د نومړې تابع دویم مشتق پیدا کړئ.

د پورته فعالیت پایله داسې بیانوو:

1. د $f(x) = ax^3 + bx^2 + cx + d$ ، په دریمه درجه تابع کې چې $a > 0$ وي داسې په پام کې نیسو که چېرې د تابع لومړی مشتق پیدا کړو دویمه درجه تابع په لاس راځي، نو د $f'(x) = 0$ لپاره د دویمې درجې د معادلې حل په پام کې نیسو او Δ یې مطالعه کوو که چېرې د معادلې Δ له صفر څخه لوی $(\Delta f' > 0)$ وي، نو معادله(د تابع مشتق) دوه حله لري، که چېرې $a > 0$ وي منحني له کین لوري څخه ښي لوري ته یوه نسبي اعظمي نقطه(Maximum) او یوه نسبي اصغري(Minimum) لري.

$f(x) = ax^3 + bx^2 + cx + d$

$f'(x) = 3ax^2 + 2bx + c$

$a > 0 \quad \Rightarrow \quad \Delta f' > 0$

x	$-\infty$	x_1		x_2	$+\infty$
$f'(x)$	$+$	0	$-$	0	$+$
$f(x)$	$-\infty \nearrow$		$\searrow$		$\nearrow +\infty$

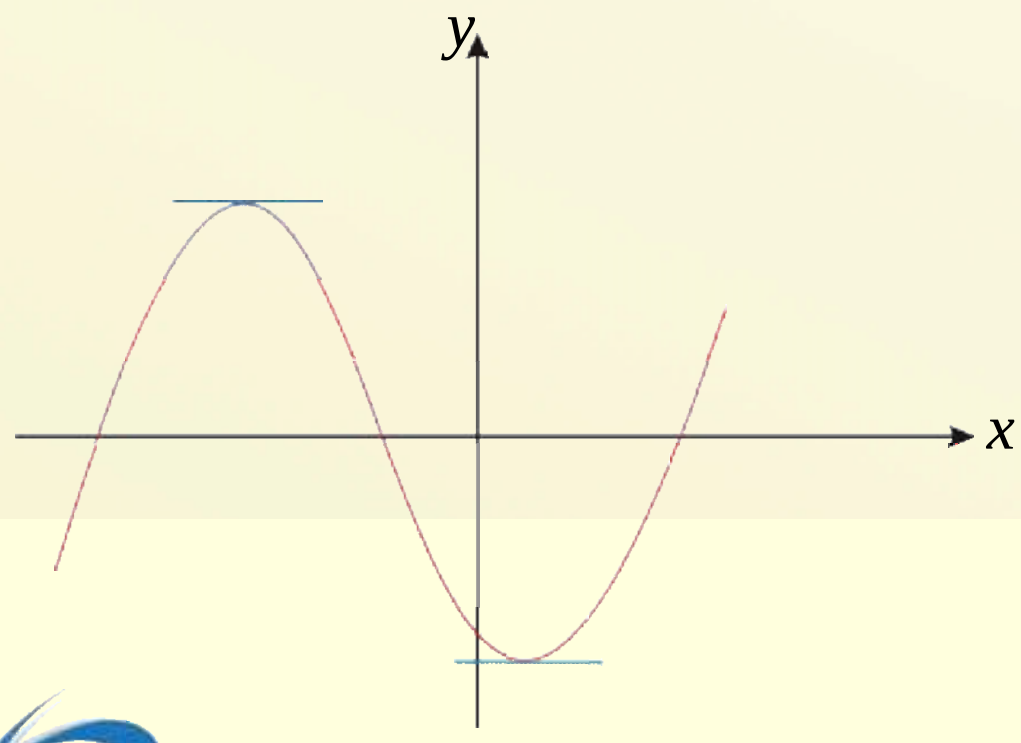

(c) ketabton.com: The Digital Library

2. د $f(x)=ax^3+bx^2+cx+d$ ، په تابع کې چې $a<0$ ، $f'(x)=0$ او $\Delta f'(x)>0$ معادله دوه جذرونه لري، که چیرې $\Delta f'>0$ نو منحني دکین لوري څخه ښی لوري ته یوه نسبي اصغری(Minimum) او یوه نسبي اعظمي(Maximum) نقطه لري.

$f(x)=ax^3+bx^2+cx+d$

$f'(x)=3ax^2+2bx+c$

$a<0 \quad \Rightarrow \quad \Delta f'>0$

x		x_1		x_2	
$f'(x)$	$-$	0	$+$	0	$-$
$f(x)$	$-\infty$ ↘		↗		↘ $+\infty$

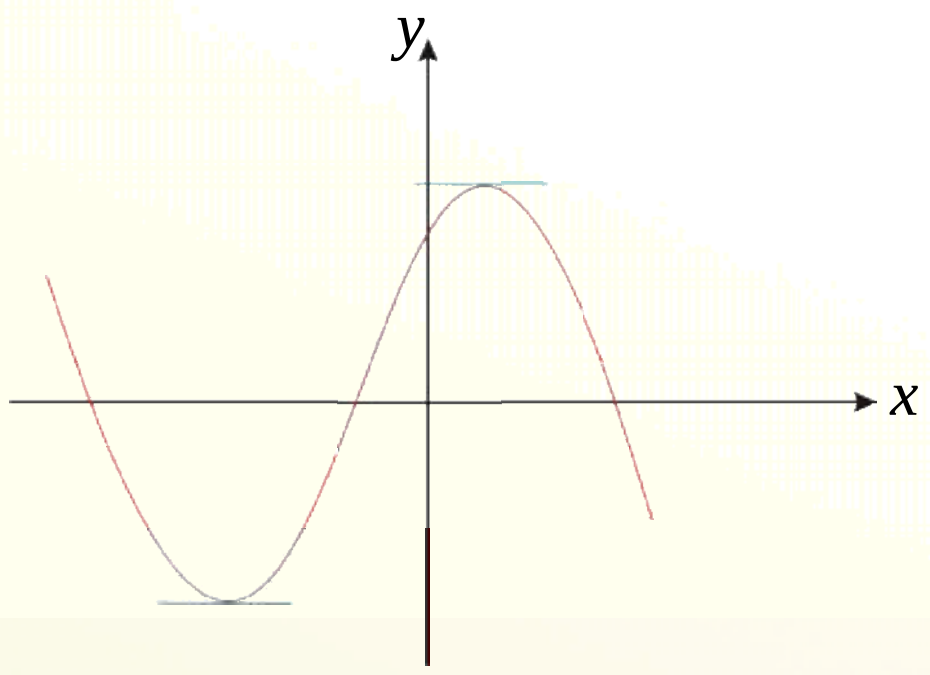

3. که د دریمې درجې تابع منحني نسبي بحراني Extreme ولري، د Extreme ډټکو د منځنۍ ټکي یا د انعطاف د نقطې مختصات يې:

$$I(x_c,y_c)=\left(\frac{x_{max}+x_{min}}{2},\frac{y_{max}+y_{min}}{2}\right)$$



4. د دریمې درجې تابع د تناظر ټکی د تابع د انعطاف ټکی:

$$f'(x)=0$$

$$3ax^2+2bx+c=0$$

چې د تناظر ټکي یې وروسته د نوموړي معادلې د حل څخه د تناظر مرکز $x=-\dfrac{b}{3a}$ په لاس راځي.

(c) ketabton.com: The Digital Library

5. د $f(x)=ax^3+bx^2+cx+d$ په تابع کې چې $a<0$ وي او $f'(x)=0$ سره وضع شي او $\Delta f'(x)=0$ نو معادله یو یا دوه مساوي جذرونه لري په هغه صورت کې چې $f'(x)\le 0$ وي، نو په دې صورت تابع متناقصه ده او که چیرې $f'(x)\ge 0$ وي نو په دې صورت کې تابع متزایده ده.

(2) (1)

لومړی مثال: د $f(x)=(x-1)(x+2)^2$ د تابع تحولات وڅېړئ او ګراف یې رسم کړئ.

حل: لومړی د تابع Extreme ټکو مختصات په لاس راوړو، وروسته د لومړي مشتق په مرسته ګورو چې تابع په کومه برخه کې متزایده او په کومه برخه کې متناقصه ده د محورونو سره د تقاطع ټکي پیدا کوو او د اعظمي او اصغري نقطو د تشخیص او د انعطاف نقطو د پیدا کولو لپاره د تابع دویم مشتق په کار وړو د تحولاتو جدول یې ترتیبوو او بیا یې ګراف رسموو: $f(x)=x^3+3x^2-4$

$$f'(x)=3x^2+6x$$
$$3x^2+6x=0$$
$$x(3x+6)=0$$
$$x_1=0 \quad , \quad 3x+6=0 \Rightarrow x_2=-2$$
$$f'(x)=0 \Rightarrow x_1=0 \quad , \quad x_2=-2$$
$$f(0)=0^3+3\cdot 0^2-4=-4$$
$$f(-2)=(-2)^3+3(-2)^2-4$$
$$=-8+12-4=0$$
$$f''(x)=0 \Rightarrow 6x+6=0$$
$$6x=-6$$
$$x=-1$$

د انعطاف د نقطې د لاسته راوړلو لپاره $x=-1$ په اصلي تابع کې وضع کوو چې د $f(x)$ قیمت لاسته راځي:

$$f(-1)=(-1-1)(-1+2)^2=-2$$

(c) ketabton.com: The Digital Library

د انعطاف ټکی: $I(-1,-2)$

د محورونو سره تقاطع:

الف- د x له محور سره تقاطع:

$$y=0$$
$$(x-1)(x+2)^2=0$$
$$\left.\begin{array}{l} x-1=0 \\ x=1 \end{array}\right\} \Rightarrow \left.\begin{array}{l}(x+2)^2=0 \\ x+2=0 \\ x_2=-2\end{array}\right\} \Rightarrow (1,0)\ ,\ (-2,0)$$

ب- د y له محور سره تقاطع:

$$x=0$$
$$y=0^3+3\cdot 0^2-4=-4 \quad \Rightarrow (0,-4)$$

x	$-\infty$	-2	-1	0	$+\infty$
$f'(x)$	+	−	−	+	
$f''(x)$	−	−	+	+	
$f(x)$	$-\infty$ ↗	0 (max) ↘	-2 ↘	-4 (min) ↗	$+\infty$

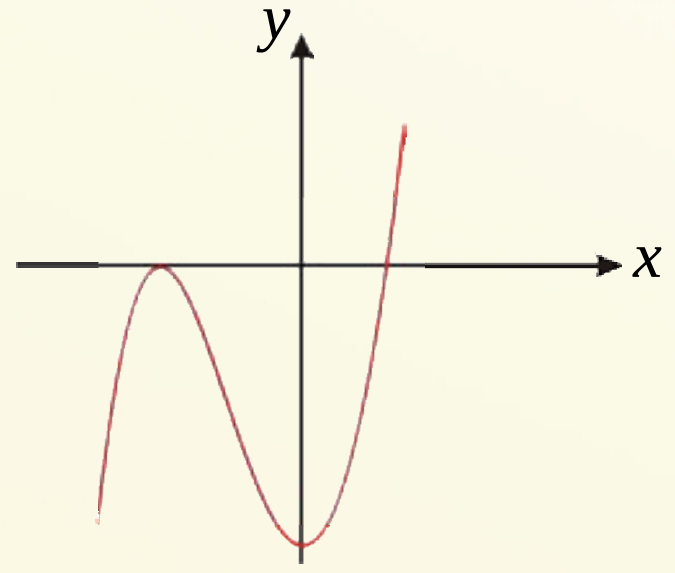

دویم مثال: د $f(x)=-x^3+3x^2$ د تابع تحولات وڅیړئ او ګراف رسم کړئ.

حل: د تابع لومړی مشتق پیداکوو او وروسته یې صفري نقطې ټاکو او د تابع اعظمي او اصغري نقطې په لاس راوړو.

-1

$$f(x)=-x^3+3x^2$$
$$f'(x)=-3x^2+6x$$
$$f'(x)=0 \quad \Rightarrow -3x^2+6x=0 \quad \Rightarrow x(-3x+6)=0$$
$$x_1=0 \quad , \quad -3x+6=0 \quad \Rightarrow -3x=-6 \quad \Rightarrow x_2=2$$

(c) ketabton.com: The Digital Library

اعظمي او اصغري ټکي عبارت دي له:

$$\left.\begin{aligned} f(0) &= -0^3 + 3\cdot 0^2 = 0 \\ f(2) &= -2^3 + 3\cdot 2^2 = 4 \end{aligned}\right\} \Rightarrow (0,0)\ ,\ \ (2,4)$$

2- د محورونو سره تقاطع:

الف- د x له محور سره تقاطع:

$$\left.\begin{aligned} & y = 0 \\ & -x^3 + 3x^2 = 0 \\ & x^2(-x+3) = 0 \\ & x_1 = 0\ ,\quad -x+3 = 0 \\ & \qquad\qquad x_2 = 3 \end{aligned}\right\} \Rightarrow (0,0)\quad ,\quad (3,0)$$

ب- د y له محور سره تقاطع:

$$\left.\begin{aligned} & x = 0 \\ & f(x) = -0^3 + 3\cdot 0^2 = 0 \end{aligned}\right\} \Rightarrow (0,0)$$

3- د انعطاف د نقطي د پیداکولو لپاره $f''(x)$ مطالعه کوو:

$$f''(x) = -6x + 6 = 0$$

$$x = 1$$

$$f(x) = -x^3 + 3x^2$$

$$f(1) = 2 \ \Rightarrow\ I(1,\ 2)$$

4- اوس یې جدول ترتیبوو او ګراف یې رسموو:

x	$-\infty$		0		1		2		$+\infty$
$f'(x)$		$-$	0	$+$		$+$		$-$	
$f''(x)$		$+$		$+$	0	$-$		$-$	
$f(x)$	$+\infty$	↘	0	↗	2	↗	4	↘	$-\infty$
			نسبي Min				نسبي Max		

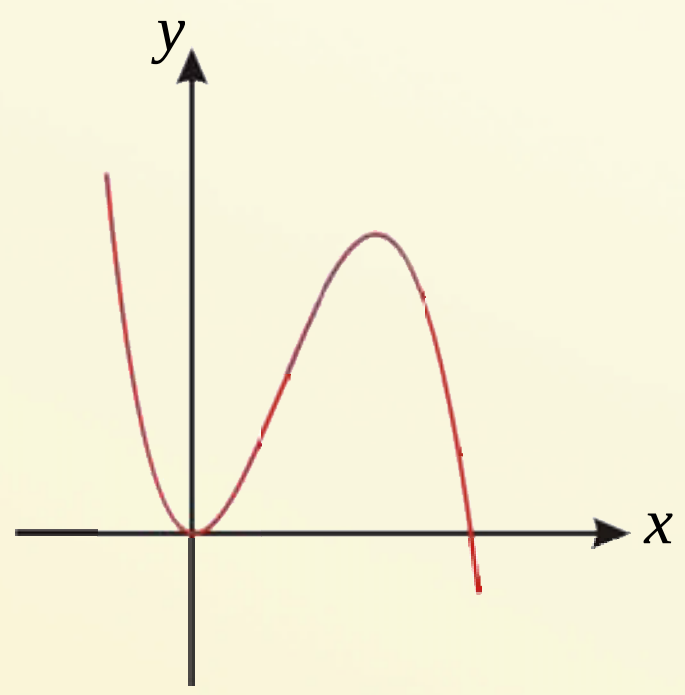

(c) ketabton.com: The Digital Library

دريم مثال: د $f(x) = x^3 - 3x^2 + x + 1$ د تابع د تناظر د مرکز مختصات پيدا کړئ.

حل: پوهېږو چې د تناظر مرکز د $x = \frac{-b}{3a}$ له رابطې څخه لاسته راځي، نو:

$$x = \frac{-b}{3a} = \frac{-(-3)}{3 \cdot 1} = 1 \quad \Rightarrow \quad f(1) = 1^3 - 3(1)^2 + 1 + 1 = 0$$

$C(1,0)$ د تناظر د مرکز مختصات

پوښتنې

1. د لاندې تابعګانو د تحولاتو جدول ترتيب او ګرافونه يې رسم کړئ.

$a)\ f(x) = \frac{1}{3}x^3 - x^2 + x + 1 \quad , \quad b)\ f(x) = -(x-1)^3$

2- د $f(x) = -2x^2 + 6x - 3$ د تناظر د مرکز مختصات پيدا کړئ.

(c) ketabton.com: The Digital Library

د رول قضیه

Rolle Theorem

په مخامخ شکل کې د $f(x)$ تابع او د Δ مستقیم خط یو له بل سره څه اړیکې لري او $f'(c)$ له څه سره مساوي دی.

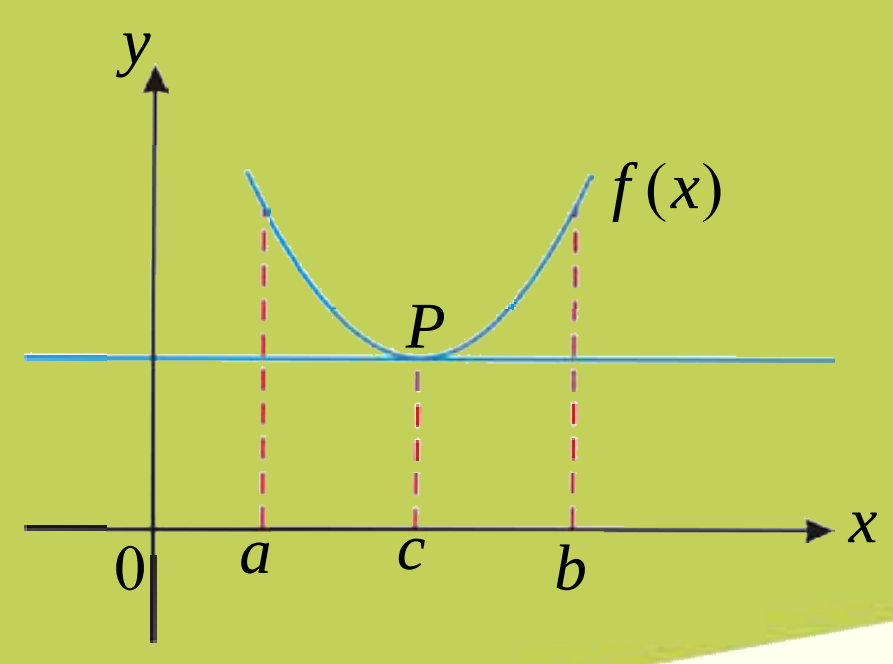

فعالیت

- په مخامخ شکل کې د (a,b) په انټروال کې د $f(x)$ په منحني داسې ټکي شته چې له هغو څخه په منحنی داسې مماس رسم شي چې د x له محور سره موازي وي.
- د $f(x)$ تابع په کوم انټروال کې متمادي او په کومه فاصله کې د مشتق وړده.
- که چیرې $f(a)=f(b)$ وي، نو د x_0 ټکي په (a,b) انټروال کې وخیږئ.

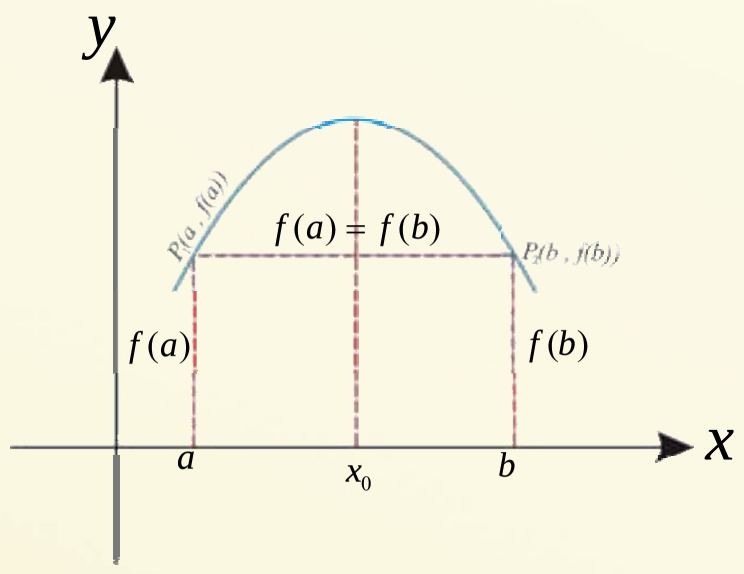

د پورتني فعالیت څخه لاندې قضیه بیانولای شو:

قضیه: که چیرې د $f(x)$ تابع د $a \le x \le b$ په انټروال کې متمادي او د $a<x<b$ په انټروال کې د مشتق وړ وي او $f(a)=f(b)$ وي، نو لږ تر لږه د x_0 یو ټکی په $a<x<b$ انټروال کې شته چې د $f'(x_0)=0$ شي.

ثبوت: څرنګه چې د $f(x)$ تابع په ورکړل شوی انټروال کې متمادي او د مشتق وړ ده، نو بحرانی Extreme ټکي لري.

1- که $f(x)=c$ ثابته تابع وي، نو واضح ده چې $f'(x)=0$ ده.

(c) ketabton.com: The Digital Library

2- که د $f(x)$ تابع ثابته نه وي، او $x_2, x_1 \in (a,b)$ او $f(x_1) > 0$ وي، نو تابع په $[a,b]$ کې یو $x_0 \in [a,b]$ Maximum قیمت لري چې $f(x_0) \geq f(x_1) > 0$ شي او همدا راز که $f(x_2) < 0$ وي، نو تابع یو اصغري Minimum قیمت لري.

څرنګه چې په Extreme نقطو کې د تابع مشتق صفر دی، نو $f'(x_0) = 0$ کیږي.

لومړی مثال: د رول قضیه د $f(x) = \cos x$ د تابع لپاره په $[a,b] = (\pi, 5\pi)$ فاصله کې تطبیق کړئ.

حل: څرنګه چې $f(\pi) = f(5\pi) = -1$ سره وي نو د $f(x)$ تابع د هر x لپاره د مشتق وړ ده نو د $(\pi, 5\pi)$ په انټروال کې متمادي او په $(\pi, 5\pi)$ په انټروال کې مشتق منونکی ده چې د Rolle د قضیې مطابق په $(\pi, 5\pi)$ کې لږ تر لږه یو x_0 موجود دی چې د هغه قیمت لپاره $(\cos x)' = 0$ شي. څرنګه چې $(\cos x)' = -\sin x$ دی، نو باید $-\sin x = 0$ معادلې لږ تر لږه یو حل په $(\pi, 5\pi)$ کې موجود وي.

$-\sin x = 0 \Rightarrow \sin x = 0$ دا معادله په $(\pi, 5\pi)$ کې دریځله $4\pi, 3\pi, 2\pi$ قیمتونه اخیستلای شي.

دویم مثال: د رول قضیه د $f(x) = \sqrt{1-x^2}$ تابع په $[a,b] = [-1,1]$ فاصله کې تطبیق کړئ.

حل: لیدل کیږي چې تابع د پیل او پای په ټکو کې د مشتق وړ نه ده، ولې د رول د قضیې د تطبیق وړ ده ځکه $f(-1) = f(1) = 0$ دی $f(0)$ تابع په $[-1,1]$ کې متمادي ده او په $[-1,1]$ کې د x_0 یو عدد شته چې $f'(x_0) = 0$ شي او هغه $x_0 = 0$ دی.

د $y'(x) = \dfrac{u'(x)}{2\sqrt{u}}$ فورمول څخه په ګټه اخیستنې سره مشتق په لاس راورو:

$$f'(x) = \frac{-2x}{2\sqrt{1-x^2}} = \frac{-x}{\sqrt{1-x^2}} \quad \Rightarrow \quad f'(0) = \frac{0}{\sqrt{1-0^2}} = 0$$

(c) ketabton.com: The Digital Library

د متوسط قیمت قضیه(لاگرانژقضیه):

فعالیت

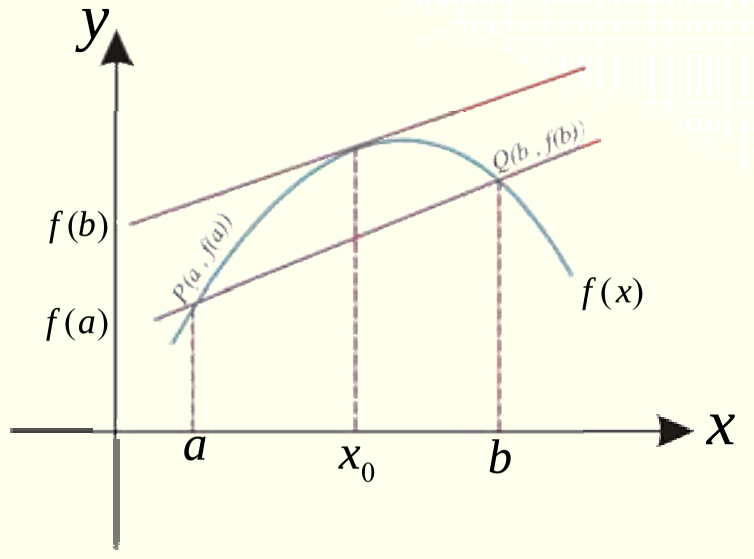

مخامخ شکل په پام کې و نیسئ:

- د یوې مستقیمې کرښې میل له کومې رابطې څخه په لاس راځي؟
- د $\overline{PQ}$ د مستقیمې کرښې میل پیدا کړئ.
- د $\overline{PQ}$ د کرښې میل د $f(x)$ د تابع له مشتق سره څه اړیکه لري؟

له پورتني فعالیت څخه قضیه داسې بیانوو:

قضیه: که چیرې $f(x)$ د $[a,b]$ په فاصله کې متمادي او د (a,b) په فاصله کې د مشتق وړ وي د (a,b) د انتروال څخه د c یو عدد شته دی داسې چې: $f(b)-f(a)=f'(c)(b-a)$

یعنې: $f'(c)=\dfrac{f(b)-f(a)}{b-a}$ دی.

ثبوت: یوه مرستندویه تابع په پام کې نیسو، لیدل کېږي چې: $g(x)=f(x)-\dfrac{f(b)-f(a)}{b-a}\cdot x$

$$g(a)=f(a)-\frac{f(b)-f(a)}{b-a}\cdot a=\frac{f(a)b-f(b)a}{b-a} \quad \ldots\ldots\ldots \text{I}$$

$$g(b)=f(b)-\frac{f(b)-f(a)}{b-a}\cdot b=\frac{f(a)b-f(b)a}{b-a} \quad \ldots\ldots\ldots \text{II}$$

نو $g(a)=g(b)$ سره دی د رول د قضیې پر بنسټ سره د c عدد د (a,b) انتروال کې شته دی چې $g'(c)=0$ دی نو:

$$g'(x)=f'(x)-\frac{f(b)-f(a)}{b-a} \Rightarrow g'(x)=f'(c)-\frac{f(b)-f(a)}{b-a}$$

$$f'(c)-\frac{f(b)-f(a)}{b-a}=0 \Rightarrow f'(c)=\frac{f(b)-f(a)}{b-a}$$

$$\Rightarrow f(b)-f(a)=f'(c)(b-a)$$

(c) ketabton.com: The Digital Library

مثال: د $f(x)=2x^3-8x+1$ په تابع کې د متوسط قیمت قضیه په $[a,b]=[1,3]$ کې وڅیړئ.

حل: لیدل کېږي چې د $f(x)$ تابع په $[1,3]$ کې متمادي او په $(1,3)$ کې د مشتق وړ ده، نو د متوسط قیمت له قضیې سره سم په $(1,3)$ کې یو x_0 شته داسې چې:

$$f(x_0)=\frac{f(b)-f(a)}{b-a}=\frac{f(3)-f(1)}{3-1}=\frac{36}{2}=18$$

د c د پیداکولو لپاره لرو:

$$f'(x_0)=6x^2-8=18\Rightarrow x_{1,2}=\pm\sqrt{\frac{26}{6}}$$

څرنګه چې $x=\sqrt{\frac{26}{6}}$ په $(1,3)$ کې ګډون لري، نو $x_0=\sqrt{\frac{13}{3}}$ دی.

او $x=-\sqrt{\frac{26}{6}}$ په $(1,3)$ فاصله کې واقع نه ده، نو د قبول وړ نه ده.

پوښتنې

1- که چیرې د $f(x)=\sqrt{x(4-1)}$ تابع د $[0,4]$ په انټروال کې راکړل شوې وي د x_0 قیمت داسې پیداکړئ چې د رول قضیه په پورتني تابع کې صدق وکړي.

2- که د $f(x)=\frac{1}{3}x^3-2x$ تابع راکړل شوې وي د x_0 قیمت د $[0,3]$ په فاصله کې داسې وټاکئ چې د رول قضیه په هغې کې صدق وکړي.

(c) ketabton.com: The Digital Library

(c) ketabton.com: The Digital Library

3- د هوپیتال قاعده (L' Hopitall)

مخامخ مساوات څه بیانوي؟

$$\lim_{x\to a}\frac{f(x)}{g(x)}=\lim_{x\to a}\frac{f'(x)}{g'(x)}$$

فعالیت

- د $f(x)=\frac{x^2-3x+2}{x-1}$ د تابع لیمیټ په هغه صورت کی پیدا کړئ چې $x\to 1$ ته تقرب وکړي.
- د پورتني تابع د صورت او مخرج مشتق پیدا او د تابع له لیمیټ سره یې پرتله کړئ.
- د $f(x)=\frac{3x^4-3x^2-4x-1}{2x^2-4x^3+2x^4}$ د تابع لیمیټ په هغه صورت کې پیدا کړئ چې $x\to\infty$ تقرب وکړي.
- د پورتني تابع د صورت او مخرج مشتق پیدا او د تابع له لیمیټ سره یې پرتله کړئ.

له پورتني فعالیت څخه دا قاعده بیانو:

د هوپیتال قاعده:

که د $f(x)$ او $g(x)$ تابعګانې د (a,b) په انټروال کې تعریف او د مشتق ور وي.

که چیرې $\frac{f(x)}{g(x)}$ د لیمیټ نسبت $x\to a$ قیمت کې د $\frac{0}{0}$ مبهم شکل او یا $x\to\infty$ کې د $\frac{\infty}{\infty}$ شکل ونیسي په دې حالت کې د تابع د لیمیټ د پیدا کولو لپاره د $\frac{f'(x)}{g'(x)}$ مشتق پیدا کوو او په هغه کې قیمتونه وضع کوو که بیاهم د تابع شکل مبهم وي مشتق نیولو ته ادامه ورکوو n... تر څو د ابهام شکل ختم شي د مثال په ډول:

$$\lim_{x\to 2}\frac{2x^2+x-10}{x^2-4}=\frac{2\cdot 2^2+2-10}{2^2-4}=\frac{0}{0}=0$$

$$\frac{f'(x)}{g'(x)}=\frac{4x+1}{2x}=\frac{4\cdot 2+1}{2\cdot 2}=\frac{9}{4}$$

یا

$$\lim_{x\to 2}\frac{(2x+5)(x-2)}{(x-2)(x+2)}=\lim_{x\to 2}\frac{2x+5}{x+2}=\frac{2\cdot 2+5}{2+2}=\frac{9}{4}$$

مثال: د لوپیتال له قاعدې څخه په ګټه اخیستنې سره د لاندې توابعو لیمیتونه پیدا کړئ.

$$1)\ \lim_{x\to 0}\frac{x+\sin 2x}{x-\sin 2x} \qquad 2)\ \lim_{x\to 3}\frac{x^4-81}{x-3} \qquad 3)\ \lim_{x\to\infty}\frac{3x^2-4x+6}{7x^2-2x+1}$$

لومړی ځواب:

$$\lim_{x\to 0}\frac{x+\sin 2x}{x-\sin 2x}=\frac{0+\sin 2\cdot 0}{0-\sin 2\cdot 0}=\frac{0}{0}$$

$$\lim_{x\to 0}\frac{(x+\sin 2x)'}{(x-\sin 2x)'}=\lim_{x\to 0}\frac{1+2\cos 2x}{1-2\cos 2x}=\frac{1+2}{1-2}=-3$$

دویم ځواب:

$$\lim_{x\to 3}\frac{x^4-81}{x-3}=\lim_{x\to 3}\frac{3^4-81}{3-3}=\frac{81-81}{3-3}=\frac{0}{0}$$

$$\lim_{x\to 3}\frac{(x^4-81)'}{(x-3)'}=\lim_{x\to 3}\frac{4x^3}{1}=\frac{4\cdot 3^3}{1}=108$$

دریم ځواب:

$$\lim_{x\to\infty}\frac{3x^2-4x+6}{7x^2-2x+1}=\frac{\infty}{\infty}$$

$$\lim_{x\to\infty}\frac{(3x^2-4x+6)'}{(7x^2-2x+1)'}$$

$$\lim_{x\to\infty}\frac{6x-4}{14x-2}=\frac{\infty}{\infty}$$

$$\lim_{x\to\infty}\frac{(6x-4)'}{(14x-2)'}=\frac{6}{14}=\frac{3}{7}$$

پوښتنې

د لوپیتال د قاعدې څخه په ګټه اخیستنې سره لاندې لیمیتونه پیداکړئ.

$$a)\ \lim_{x\to 0}\frac{\sin x}{x}\ , \qquad b)\ \lim_{x\to 1}\frac{x^5-1}{x^3-1}$$

$$c)\ \lim_{x\to 0}\frac{\sin x}{x^3}\ , \qquad d)\ \lim_{x\to\infty}\frac{x^5}{3x^3}$$

(c) ketabton.com: The Digital Library

د بحراني ټکو تطبيق

په مخامخ شکل کې تر ټولو لوړ ټکی او تر ټولو ټيټ ټکی وښيئ او دا ټکی د څه په نامه يادېږي.

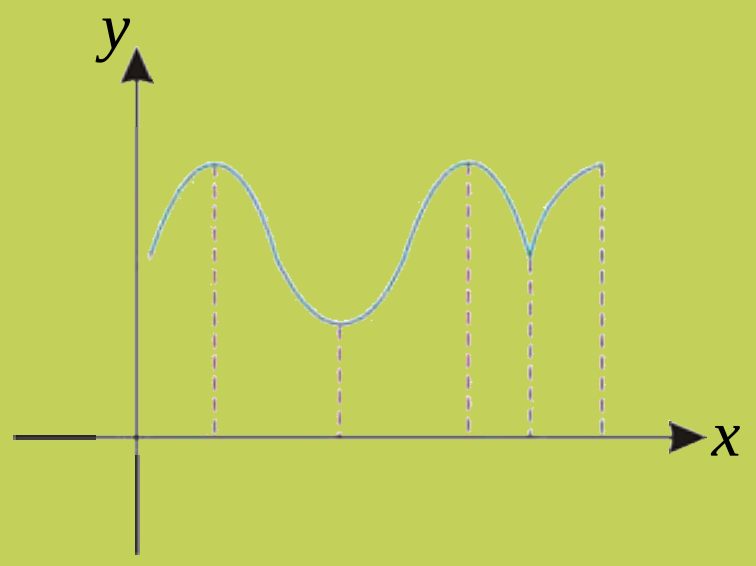

1- دوه عددونه پيداکړئ چې مجموعه يې 20 او د ضرب حاصل يې لوی ممکن قيمت ولري.

حل: که لومړی عدد ته x ووېل شي، نو دويم عدد $20-x$ دی او د ضرب حاصل يې د تابع په شکل داسې: $f(x)=x(20-x)$ ليکو، څرنګه چې د x عدد په $[0,20]$ انټروال کې تحول کوي، نو د تابع مطلق اعظمي قيمت په $[0,20]$ کې لټوو:

$$f(x)=20x-x^2$$
$$f'(x)=0$$
$$20-2x=0$$
$$-2x=-20$$
$$x=10$$
$$f(10)=20\cdot10-10^2=200-100=100$$
$$f(0)=20\cdot0-0^2=0$$
$$f(20)=20\cdot20-20^2=400-400=0$$

ليدل کېږي چې (10 ، 100) د تابع اعظمي نقطه ده، نو مطلوب عددونه $x_1=10$ او $x_2=10$ چې د ضرب حاصل يې 100 دی.

2- د يوه خوځنده جسم د حرکت معادله د $x=(t-2)(t-3)$ په بڼه راکړل شوې ده، د جسم متوسط سرعت د $t_1=3$ او $t_2=4$ د وخت په واټنو کې پيداکړئ.

حل: د منحنی سرعت د تعريف په مرسته ليکلای شو چې:

$$\text{منحنی سرعت}=\frac{x_{(t_2)}-x_{(t_1)}}{t_2-t_1}=\frac{x_{(4)}-x_{(3)}}{4-3}=\frac{2-0}{4-3}=2$$

(c) ketabton.com: The Digital Library

3- دکرې د حجم او سطحې تر منځ منحنی نسبت پیداکړئ.

حل:

$$\text{دکرې حجم} = v_{(x)} = \frac{4}{3}\pi x^3 \Rightarrow \frac{dv}{dx} = \frac{4}{3}\pi \cdot 3x^2 = 4\pi x^2$$

$$\text{دکرې مساحت} = S_{(x)} = 4\pi x^2 \Rightarrow \frac{ds}{dx} = 4\pi \cdot 2x = 8\pi x$$

$$\frac{dv}{ds} = \frac{4\pi x^2}{8\pi x} \Rightarrow \frac{dv}{ds} = \frac{1}{2}x$$

4- د سانتي ګراد(C) او فارنهایت (F) د حرارت تر منځ $C = \frac{5}{9}(F-32)$ اړیکه شته، تاسې د (C)، او (F) تر منځ منحنی نسبت وټاکئ.

حل: د منحنی سرعت د تعریف $(V_m = \frac{f(x+\Delta x) - f(x)}{\Delta x} = \frac{\Delta y}{\Delta x})$ په مرسته لیکلای شو:

$$\frac{\Delta C}{\Delta F} = \frac{C(F+\Delta F) - C(F)}{\Delta F} = \frac{\frac{5}{9}(F+\Delta F-32) - \frac{5}{9}(F-32)}{\Delta F} = \frac{5}{9}$$

5- یوه ځمکه چې مستطیلي شکل لري، محیط یې $200m$ دی، کېدای شي اعظمي Maximum مساحت یې پیداکړئ.

حل: په ورکړل شوي محیط سره کولای شو، ډېر مستطیلونه رسم کړو، ولې شرط دا دی چې هغه مستطیل زموږ مطلوب دی چې مساحت یې تر ټولو زیات وي، نو که د مستطیل اوږدوالی په x او سور یې په y وښیو، نو لیکلای شو:

$\text{میحط} = 2x + 2y = 200$

$\text{میحط} = x + y = 100 \quad \Rightarrow y = 100 - x$

$\text{مساحت} = x \cdot y$

$S = x(100-x) = 100x - x^2 \quad , \quad D_s = IR$

$x > 0 \quad , \quad y > 0 \quad \Rightarrow 100 - x > 0 \quad \Rightarrow x < 100$

اوس د $S = 100x - x^2$ په تابع کې د $0 < x < 100$ انتروال کې د تابع اعظمي مساحت داسې پیداکوو:

$S' = 100 - 2x$

$S' = 0 \Rightarrow 100 - 2x = 0 \quad \Rightarrow x = 50 \quad \Rightarrow S_{(50)} = 2500$

$\lim_{x\to 0^+} S(x) = 0$

$\lim_{x\to 0^-} S(x) = 0$

x	0		50		100
S'		+	0	−	
S	0	↗	2500	↘	0

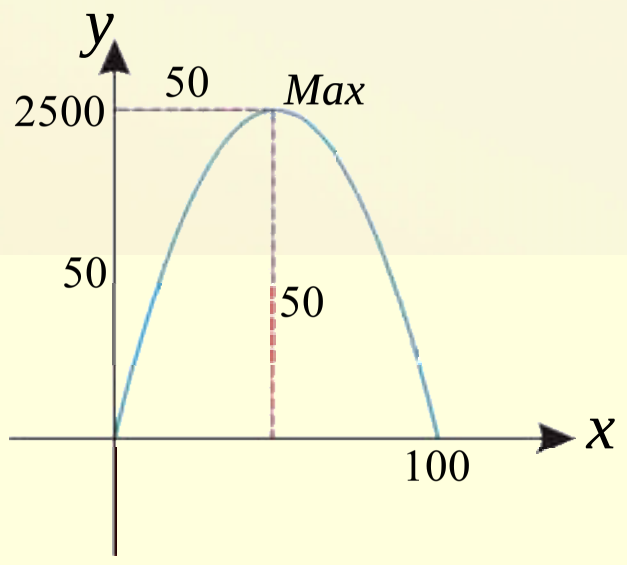

(c) ketabton.com: The Digital Library

په پايله کې له شکل څخه هم ليدل کېږي چې تر ټولو لوی مساحت هغه وخت لاسته راځي چې د مستطيل طول 50 واحده وي، نو مساحت 2500 واحد مربع کېږي.

6- که د دوو عددونو مجموعه 200 وي، هغه عددونه داسې وټاکئ چې د مربعاتو مجموعه يې اصغري شي.

حل: که چيرې دا عددونه x او y وي، نو $x+y=200$ او که x ، $x^2+y^2=T_{(x)}$ فرض کړو، نو:

$$T_{(x)}=x^2+y^2$$
$$=x^2+(200-x)^2$$
$$=x^2+x^2-400x+(200)^2$$
$$=2x^2-400x+40000$$
$$T'_{(x)}=4x-400$$
$$T'_{(x)}=0$$
$$4x-400=0$$
$$x=100$$

په پايله کې ويلای شو چې د مربعاتو تر ټولو کوچنۍ مجموعه عبارت دی له: $T_{(100)}=20000$

7- د A ټکی د $y=\frac{2}{x}$ د منحني له پاسه حرکت کوي، تر ټولو کوچنی انټروال د A د نقطې او د مختصاتو د مبدې ترمنځ لاسته راوړو.

حل: د $y=\frac{2}{x}$ د تابع منحني پر مخ د A د نقطې مختصات $A(x,\frac{2}{x})$ دي، نو:

$$\overline{OA}=\sqrt{x^2{}_{(A)}+y^2{}_{(A)}}=\sqrt{x^2+\frac{4}{x^2}}$$
$$\overline{OA}^2=x^2+\frac{4}{x^2}=d^2\ \Rightarrow\ d'_{(x)}=(x^2)'+(\frac{4}{x^2})'=2x-\frac{8x}{x^4}=2x-\frac{8}{x^3}$$
$$d'_{(x)}=\frac{2x^4-8}{x^3}$$
$$d'_{(x)}=0$$
$$2x^4=8$$
$$x_1=\sqrt{2}\quad ,\quad x_2=-\sqrt{2}$$
$$d_{\sqrt{2}}=(\sqrt{2})^2+\frac{4}{(\sqrt{2})^2}=2+\frac{4}{2}=\frac{8}{2}=4$$
$$d_{-\sqrt{2}}=4$$

په پايله کې تر ټولو کوچنی فاصله له مبدا څخه 2 واحد مربع ده.

(c) ketabton.com: The Digital Library

(c) ketabton.com: The Digital Library

8- يو مكعب مستطيل چي قاعده يې مربع ده، په پام کې نيسو، که د دريو واړو بعدونو مجموعه 24 وي، د مكعب تر ټولو لوی حجم پيدا کړئ.

حل: که د مكعب مستطيل د قاعدې ضلعې ته x او جګوالي ته يې y وويل شي، نو:

$$x + x + y = 24 \Rightarrow y = 24 - 2x$$

څرنګه چې $y \geq 0$ دی، نو $0 \leq x \leq 12$ کېږي او د مكعب مستطيل حجم عبارت دی له:

$$V = x^2 \cdot y \Rightarrow V = x^2(24 - 2x) = 24x^2 - 2x^3$$

$$V = 24x^2 - 2x^3$$
$$V'(x) = 48x - 6x^2$$
$$V'(x) = 0$$
$$48x - 6x^2 = 0$$
$$x(48 - 6x) = 0$$
$$x_1 = 0$$
$$48 - 6x = 0$$
$$-6x = -48$$
$$x = 8$$

$$V(0) = 24 \cdot 0^2 - 2 \cdot 0^3$$
$$= 0 - 0 = 0$$
$$V'(0) = 0$$
$$V(8) = 24 \cdot (8)^2 - 2 \cdot (8)^3$$
$$= 1536 - 1024 = 512$$
$$V(8) = 512$$
$$V(12) = 24 \cdot (12)^2 - 2 \cdot (12)^3 = 3456 - 3456 = 0$$
$$V(12) = 0$$



نو د مكعب مستطيل تر ټولو لوی حجم $512cm^3$ دی.

پوښتنې

1- د $y = x^3 + x^2 + x + 1$ د تابع تحولات پيدا او منحنې يې رسم کړئ.

2- دوه داسې عددونه پيدا کړئ چې د جمعې حاصل يې 20 او د ضرب حاصل يې تر ټولو لوی ممکن قيمت ولري.

3- که د اوسپنې له يوې تختې څخه چې هره ضلعه يې $1m$ طول لري يو سر خلاص بکس جوړېږي د هغه له څلورو کنجونو څخه څلور مساوي مربعګانې پرې کړئ او بيا هغه قاط کړئ کوچنی مربعګانې په کومه اندازه پرې شي چې نوموړی بکس ممکن اعظمي حجم ولري.

4- د $y = x^2$ د ګراف تر ټولو نژدې نقطه له $A(0,3)$ نقطې سره پيدا کړئ.

د څپرکي مهم ټکي

- د $f(x)$ یوه تابع هغه وخت متزایده بلل کېږي، چې د $[a,b]$ په انټروال کې پیوسته او په (a,b) خلاص انټروال کې د مشتق وړ وي.
- د $f(x)$ یوه تابع هغه وخت متناقصه بلل کېږي، چې د $[a,b]$ په انټروال کې متمادي او په (a,b) خلاص انټروال کې د مشتق وړ وي.
- د تابع له تزاید څخه مطلب دا دی چې د x د متحول په زیاتېدو سره د تابع قیمت زیات او د تابع له تناقص څخه مطلب دا دی چې د x متحول په زیاتېدو سره د تابع قیمت کم شي.
- په یوه تابع کې تر ټولو جګې نقطې ته موضعي اعظمي(Local Maximum) او تر ټولو ټیټې نقطې ته موضعي اصغري(Local Minimum) وایي، د x هغه قیمتونه چې د هغوی لپاره تابع یا اعظمي او یا اصغري قیمتونه اخلي د Extreme په نامه یادېږي.
- مطلق Maximum: د $(x_0, f(x_0))$ نقطه مطلقه اعظمي بلل کېږي، که چیرې د $f(x)$ د تعریف په ساحه کې د هر x لپاره $f(x) \le f(x_0)$ وي، نو $f(x_0)$ ته مطلقه اعظمي وایي.
- مطلق Minimum: د $(x_0, f(x_0))$ نقطه مطلقه اصغري بلل کېږي، که چیرې $f(x)$ د تعریف په ساحه کې د هر x لپاره $f(x) \ge f(x_0)$ وي، نو $f(x_0)$ ته مطلقه اصغري وایي.
- د $y = f(x)$ د تابع منحني په یوه انټروال کې محدب بلل کېږي، که چیرې په دې انټروال کې په منحني مماس رسم شي، نو مماس د منحني پورته خواته پروت وي او د تابع دویم مشتق منفي په لاس راځي.
- د $y = f(x)$ د تابع منحني په یوه انټروال کې مقعر بلل کېږي، که چیرې په نوموړي انټروال کې په منحني مماس رسم شي، نو مماس د منحني ښکته خوا پروت وي، او د تابع دویم مشتق مثبت په لاس راځي.
- هغه ټکی چې د تابع له مقعریت څخه محدبیت ته او یا برعکس خپل لوری بدلوي، د انعطاف(Inflection) ټکی بلل کېږي.
- هغه تابعګانې چې د $f(x) = \dfrac{ax+b}{cx+d}$ بڼه ولري، د هوموګرافیک تابعګانو په نامه یادېږي، په دې شرط چې $c \neq 0$ وي.

(c) ketabton.com: The Digital Library

- که چیرې د $f(x)$ تابع د $a \le x \le b$ په انټروال کې متمادي او د $a < x < b$ په انټروال کې د مشتق وړ او $f(a) = f(b)$ وي، نو لږ ترلږه د x_0 یو ټکی په $a < x < b$ په انټروال کې شته چې $f'(x_0) = 0$ دی، دا قضیه د رول د قضیې په نامه یادیږي.
- که چیرې $f(x)$ په $[a,b]$ فاصله کې متمادي او د (a,b) په خلاصه فاصله کې متمادي او د مشتق وړ وي د x_0 یو عدد د a او b ترمنځ شته چې $f'(x_0) = \dfrac{f(b) - f(a)}{b - a}$ دی دا د متوسط قیمت قضیه بلل کیږي.

د هوپیتال قاعده:

که د $f(x)$ او $g(x)$ تابعګانې د (a,b) په انټروال کې تعریف او د مشتق وړ وي.

که چیرې $\dfrac{f(x)}{g(x)}$ د لیمیټ نسبت کله چې $x \to a$ د $\dfrac{0}{0}$ مبهم شکل او په هغه صورت کې چې $x \to \infty$ کې د $\dfrac{\infty}{\infty}$ شکل ونیسي په دې حالت کې د تابع د لیمیټ د پیدا کولو لپاره د $\dfrac{f'(x)}{g'(x)}$ مشتق پیدا کوو او په هغه کې قیمتونه وضع کوو که بیاهم د تابع شکل مبهم وي مشتق نیولو ته دوام ورکوو ...n تر څو د ابهام شکل ختم شي.

(c) ketabton.com: The Digital Library

د دريم څپرکي پوښتنې

لاندې پوښتنو ته څلور ځوابونه ورکړل شوي دي، سم ځواب په نښه کړئ:

1 – که يوه تابع په $[0,b]$ انټروال کې متمادی او د مشتق وړ وي، نو هغه وخت متزايد ده چې :

$a)\ f'(x)=0$ $b)\ f'(x)<0$ $c)\ f'(x)>0$ $d)\ f'(x)\geq 0$

2- په يوه تابع کې تر ټولو جگې نقطې ته:

a) Minimum وايي b) Infliction وايي c) Maximum وايي d) هيڅ يو

3- د $f(x)=\dfrac{x+1}{x^2+2x}$ په تابع کې د Extreme ټکی عبارت دی له:

a) دوه ټکي b) يو ټکی c) درې ټکي d) نه لري

4 – هغه ټکی چې تابع له مقعريت څخه محدبيت ته بدلوی:

a) د اعظمی ټکی دی b) دانعطاف ټکی دی c) اصغری ټکی دی d) هيڅ يو

5- د $f(x)=ax^2+bx+c$ د تابع د تعريف ساحه عبارت له :

$a)\ (-\infty\ ,+\infty)$ $b)\ (-\infty\ ,0)$ $c)\ (0,-\infty)$ d) هيڅ يو

6- د $f(x)=\dfrac{2x-1}{x+2}$ تابع عمودی مجانب عبارت دی له:

$a)\ x=1$ $b)\ x=2$ $c)\ x=-1$ $d)\ x=-2$

7- د هوموگرافيک تابع عمودی مجانب عبارت دی له:

$a)\ y=\dfrac{a}{c}$ $b)\ x=-\dfrac{d}{c}$ $c)\ y=\dfrac{c}{a}$ $d)\ y=-\dfrac{c}{d}$

8- د $g(x)=\dfrac{4x^2-6x}{x^2-4}$ تابع افقی مجانب عبارت دی له:

$a)\ 4$ $b)\ 6$ $c)\ -6$ $d)\ -4$

9- لاندې کومه الجبري اړيکه حقيقت لري:

$a)\ \lim\limits_{x\to x_0}\dfrac{f(x)}{g(x)}=\lim\limits_{x\to x_0}\dfrac{f'(x)}{g'(x)}$ $b)\ \lim\limits_{x\to x_0}f(x)=f'(x)$ $c)\ \lim\limits_{x\to\infty}\dfrac{f(x)}{g(x)}=\lim\limits_{x\to\infty}\dfrac{f'(x)}{g'(x)}$ d) هيڅ يو

(c) ketabton.com: The Digital Library

لاندې پوښتنې ځواب کړئ:

1. د $f(x)=x^2-x$ د تابع د منحنی میل د $P(3,0)$ په ټکي کې پیدا کړئ.

2. د $f(x)=-x^2$ په تابع کې د $[3,4]$ په انټروال کې د منحنی د بدلون ټکي پیدا کړئ.

3. د نیوټن د خارج قسمت په مرسته د لاندنیو تابعګانو مشتق پیدا کړئ.

1) $f(x)=2x$ 2) $f(x)=3x^2-1$ 3) $f(x)=\sqrt{2x}$

4. د لاندنیو تابعګانو په ورکړل شوو نقطو کې مشتق پیدا کړئ.

1) $f(x)=2x-1$, $x_0=-1$ 2) $f(x)=x^2$, $x_0=2$

5. د لاندې تابعګانو د مشتق تابع پیدا کړئ.

1) $f(x)=2x-4x^2$ 2) $f(x)=3x^3-1$ 3) $f(x)=\sqrt{2x}$

6. په ورکړل شوو ټکو کې د تابعګانو مشتق محاسبه کړئ.

1) $f(x)=7x^2-3x$, $x_0=-1$

2) $f(x)=6x^2-2x-1$, $x_0=\frac{1}{2}$

7. د $f(x)=3x^5-4x^2-3x$ د تابع څلور ځلې مشتق ونیسئ او د هغې ګراف رسم کړئ.

8. د $x^2y+6y^3=x-3$ د تابع ضمني مشتق پیدا کړئ.

9. د لاندې تابعګانو مشتق پیدا کړئ.

1) $f(x)=x^3\sec x$ 2) $f(x)=\sin(3x-1)$ 3) $f(x)=\cos^2 2x$

10. کوم مثبت عدد دی چې د خپل معکوس سره جمع شي د جمعې حاصل یې تر ټولو کوچنی شي؟

11. د $f(x)=\frac{x^2+1}{x}$ تابع ګراف رسم کړئ.

12. د $f(x)=\frac{4x^2}{x^2+1}$ تابع ګراف رسم کړئ.

13. د $f(x)=\sin x$ مثلثاتي تابع ګراف رسم کړئ.

14. د $f(x)=\tan x$ مثلثاتي تابع ګراف رسم کړئ.

(c) ketabton.com: The Digital Library

(c) ketabton.com: The Digital Library

څلورم څپرکی

انتیګرال

(c) ketabton.com: The Digital Library

(c) ketabton.com: The Digital Library

د ریمان مجموعه

Riemann's Sum

په مخامخ شکل کې چې که د دایرې شعاع یو واحد وي، د دایرې د محیطي او محاطي څلور ضلعي گانو مساحت حساب کړئ او وواياست چې ددې دایرې مساحت له مخامخ څلور ضلعي گانو سره څه اړیکه لري؟

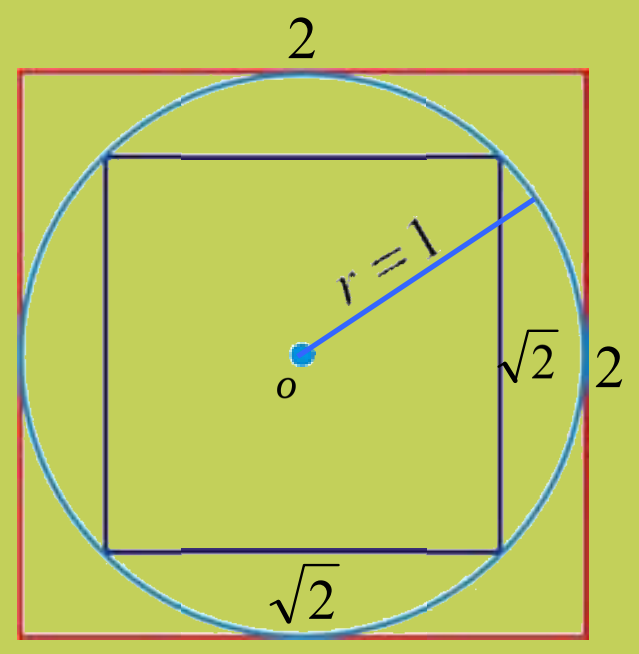

فعالیت

- هغه مساحت چې د x د محور او $f(x)=2x+2$ د تابع د گراف په منځ کې د$[0,4]$ په انټروال کې محصور شوی دی، خط خط کړئ.
- د $y=2x+2$ تابع په گراف کې د څلورو لاندینیو او پورتنیو مستطیلونو مساحتونه چې په شکل کې ښودل شوي دي پیدا کړئ.

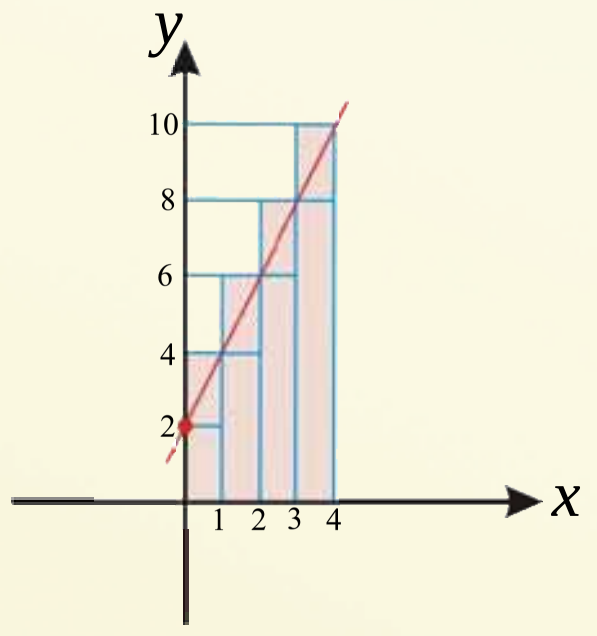

- د پورتنیو مستطیلونو د مساحت مجموعه، او د لاندینیو مستطیلونو د مساحت مجموعه د تابع د گراف د لاندینی مساحت سره په ورکړ شوي واټن کې څه اړیکه لري؟
- د پورته په څېر فعالیت د اتو مساوي لاندینیو مستطیلونو او د اتو مساوي پورتنیو مستطیلونو لپاره تکرار کړئ او پایله یې د گراف د لاندې مساحت سره په نوموړي واټن کې پرتله کړئ.
- که چیرې د پورتنیو مستطیلونو د مساحتونو مجموعه او لاندینیو مستطیلونو[1] د جوړولو لپاره د تابع په گراف کې د فاصلې ویش زیات کړو د پورتنیو او لاندینیو مستطیلونو د مساحتونو مجموعه کوم قیمت ته نږدې کیږي.

---

[1]- که چیرې د x په محور د فاصلو تقسیمات زیات کړو او یا که چیرې په یوه فاصله کې د مستطیلونو شمیر زیات شي په هم هغه اندازه د گراف لاندنې مساحت د قیق په لاس راځي.

له پورتني فعاليت څخه لاندې تعريف لاسته راځي:

تعريف: فرضوو چې د $y=f(x)$ تابع د $[a,b]$ په ترلي انټروال کې متمادي او تعريف شوې وي که چيرې د ناحيې مساحت چې د x د محور او $y=f(x)$ د تابع د ګراف ترمنځ واقع دی چې په هندسي شکلونو نه شي بدلېدلای، محاسبه کړو نو:

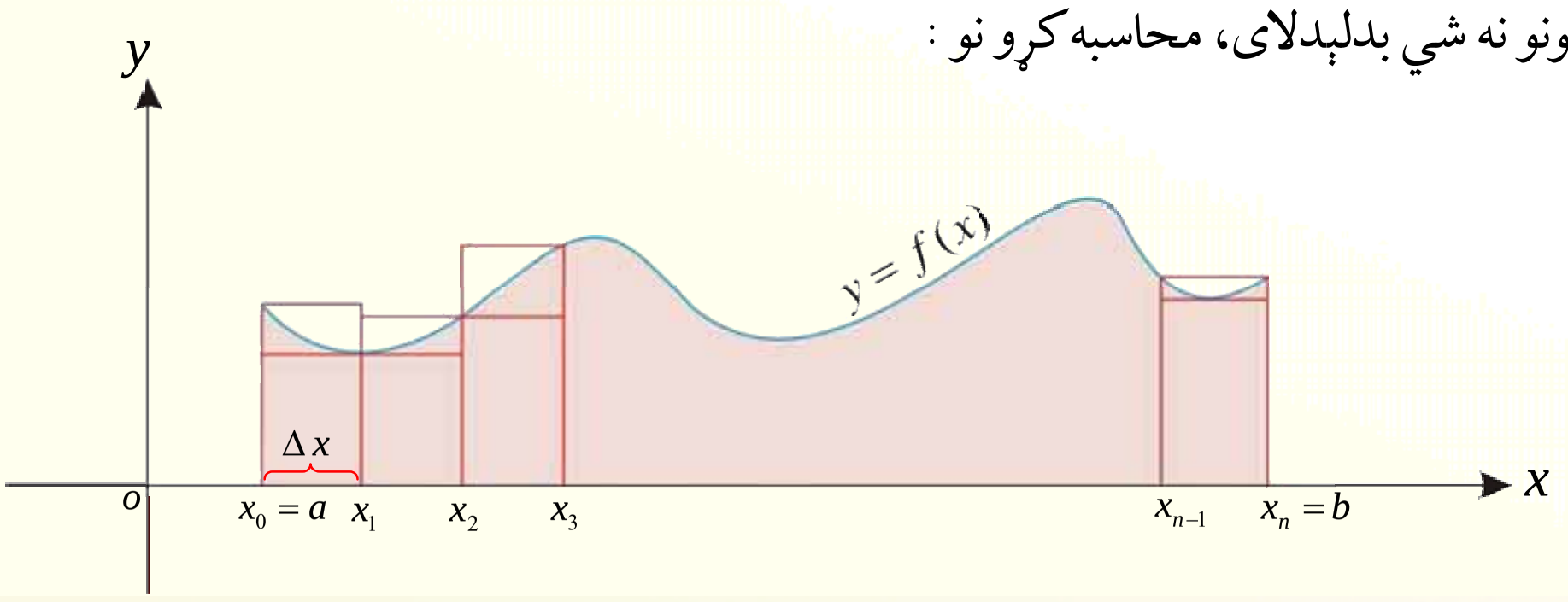

د $[a,b]$ ترلي انټروال چې په n مستطيلو نو وېشو، څرنګه چې د هر مستطيل عرض د $(\Delta x=\dfrac{b-a}{n})$ رابطې څخه په لاس راځي او د مستطيلونو طول عبارت دی تابع قيمت په هماغه نقطه کې دی.

او د مستطيلونو د هر انټروال اوږدوالی د $i=1,2,3,\ \dots\ ,n$ لپاره په لاندې ډول دي:

$$x_0=a, x_1=a+\Delta x, x_2=a+2\Delta x..., x_i=a+i\Delta x,\ \dots\ , x_n=b$$

$$[x_0,x_1]\ ,\ [x_1,x_2]\ ,\ [x_2,x_3],\ \dots\ ,[x_{i-1},x_i],\ \dots\ ,[x_{n-1},x_n]$$

که په شکل کې د لاندينيو مستطيلونو مساحت په $f(x_{i-1})\Delta x$ او د پورتنيو مستطيلونو مساحت په $f(x_i)\Delta x$ وښودل شي، نو لرو چې:

د لاندينيو مستطيلونو د مساحتونو مجموعه $=f(x_0)\Delta x+f(x_1)\Delta x+\ \dots\ +f(x_{n-1})\Delta x=\sum_{i=1}^{n} f(x_{i-1})\Delta x$

د پورتنيو مستطيلونو د مساحتونو مجموعه $=f(x_1)\Delta x+f(x_2)\Delta x+\ \dots\ +f(x_n)\Delta x=\sum_{i=1}^{n} f(x_i)\Delta x$

که چيرې محصور شوی مساحت په A وښيو نو: $\sum_{i=1}^{n} f(x_{i-1})\Delta x<A<\sum_{i=1}^{n} f(x_i)\Delta x$

که چيرې د رابطې له اطراف څخه ليميټ ونيسو نو لرو چې:

$$\lim_{n\to\infty}\sum_{i=1}^{n} f(x_{i-1})\Delta x\le\lim_{n\to\infty} A\le\lim_{n\to\infty}\sum_{i=1}^{n} f(x_i)\Delta x$$

(c) ketabton.com: The Digital Library

د ساندویچ د قضیې پر بنسټ لیکلای شو؛ چې: $\lim_{n\to\infty}\sum_{i=1}^{n} f(x_i)\Delta x = A$

نو $\sum_{i=1}^{n} f(x_i)\Delta x$ ته د ریمان مجموع او ددې مجموعې لیمیټ یعنې $\lim_{n\to\infty}\sum_{i=1}^{n} f(x_i)\Delta x$ ته د ریمان د مجموعې لیمیټ وایي.

لومړی مثال: د $[0,2]$ انټروال په څلور مساوي برخو وویشئ، د $y = x^2+1$ منحني، او x محور تر منځ مساحت پیداکړئ.

حل: که چیرې $[0,2]$ انټروال په څلورو مساوي برخو وویشو؛ نو د مستطیلونو عرض داسې په لاس راځي:

$$\Delta x = \frac{b-a}{n} = \frac{2-0}{4} = \frac{1}{2}$$

ددې مستطیلونو دهر انټروال اوږدوالی عبارت دي له:

$$x_0 = a = 0 \quad , \quad x_1 = a+\Delta x = \frac{1}{2}$$

$$x_2 = a+2\Delta x = 1 \quad , \quad x_3 = a+3\Delta x = \frac{3}{2}$$

$$x_4 = 2$$

$$[x_0,x_1] \ , \ [x_1,x_2] \ , \ [x_2,x_3],\ldots\ldots\ldots,[x_{n-1},x_n]$$

$$[0,\frac{1}{2}] \ , \ [\frac{1}{2},1] \ , \ [1,\frac{3}{2}] \ , \ [\frac{3}{2},2]$$

د تابع دګراف د رسمولو لپاره تابع ته قیمتونه ایږدو او د مستطیلونو طول لاس ته راځي:

$$f(x) = x^2+1 \ , \ f(0) = 1$$

$$f(\frac{1}{2}) = 1.25 \ , \ f(1) = 2$$

$$f(\frac{3}{2}) = 3.25 \ , \ f(2) = 5$$

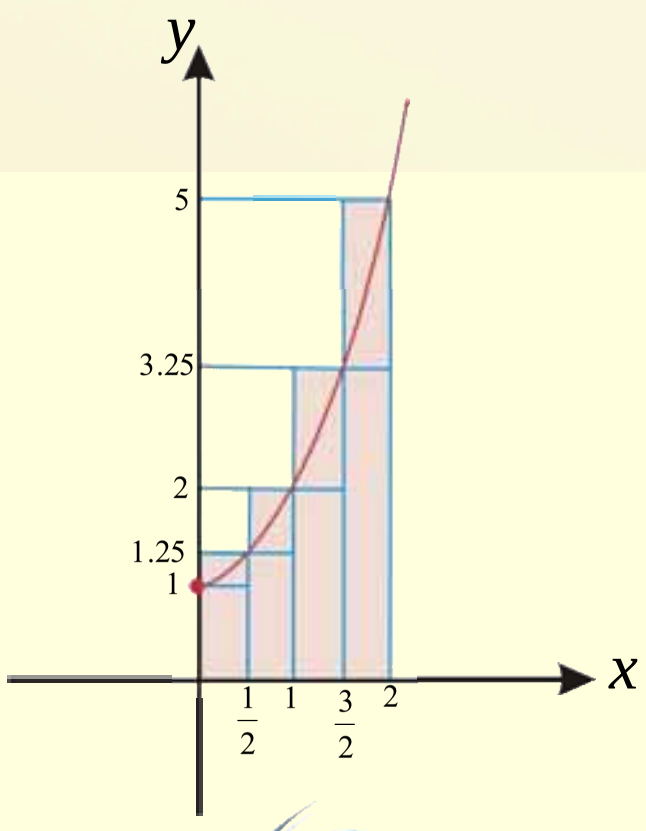

(c) ketabton.com: The Digital Library

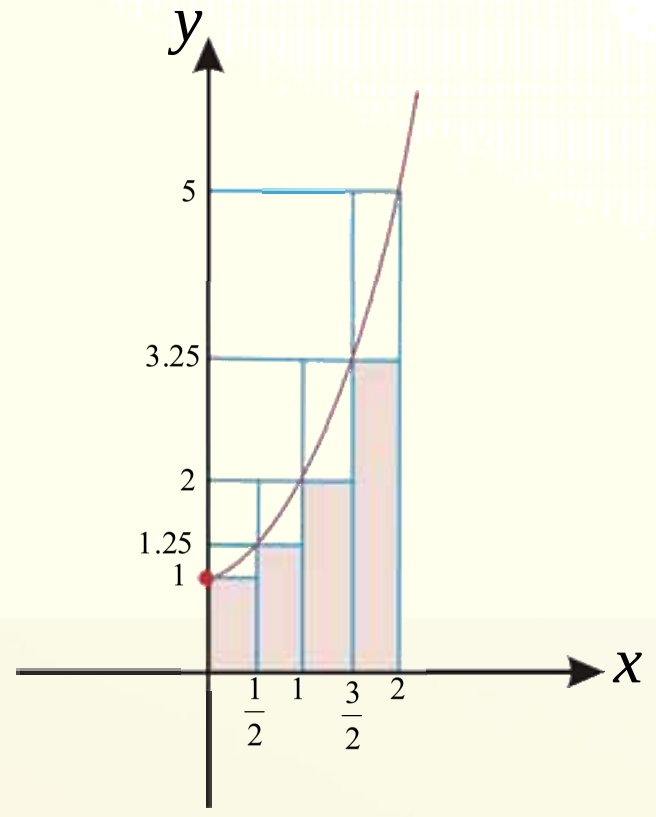

د لاندینیو مستطیلونو د مساحتونو مجموعه $= 1\times\frac{1}{2}+1.25\times\frac{1}{2}+2\times\frac{1}{2}+3.25\times\frac{1}{2}=3.75$

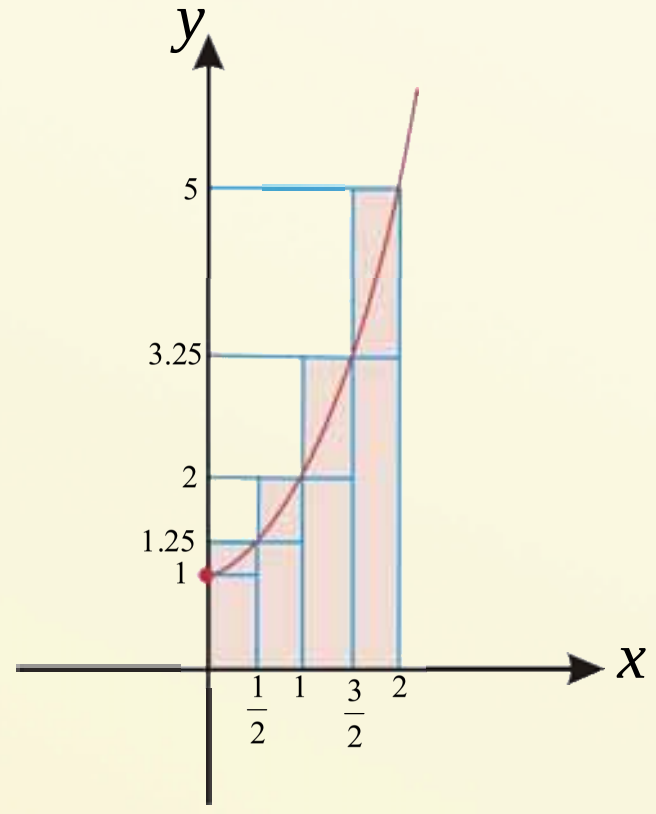

د پورتنیو مستطیلونو د مساحتونو مجموعه $= 1.25\times\frac{1}{2}+2\times\frac{1}{2}+3.25\times\frac{1}{2}+5\times\frac{1}{2}=5.75$

$$3.75 < A < 5.75$$

دویم مثال: د $f(x)=1+x$ تابع د ریمان د مجموعې لیمیټ په [1,10] انټروال کې پیدا کړئ.

(c) ketabton.com: The Digital Library

حل:

باید په یاد ولرو:

$$\sum_{i=1}^{n} c = cn$$

$$\sum_{i=1}^{n} i = \frac{n(n+1)}{2}$$

$$\sum_{i=1}^{n} i^2 = \frac{n(n+1)(2n+1)}{6}$$

$$\Delta x = \frac{b-a}{n} = \frac{10-1}{n} = \frac{9}{n}$$

$$x_i = a + \Delta x i = 1 + [\frac{9}{n}]\, i \quad , \quad i = 0,1,2, \ldots$$

$$\lim_{n\to\infty} \sum_{i=1}^{n} f(x_i)\Delta x = \lim_{n\to\infty}[\sum_{i=1}^{n}(1+x_i)\Delta x]$$

$$= \lim_{n\to\infty}[\Delta x \sum_{i=1}^{n}(1+x_i)]$$

$$= \lim_{n\to\infty}[\Delta x \sum_{i=1}^{n} 1 + \Delta x \sum_{i=1}^{n} x_i]$$

$$= \lim_{n\to\infty}[\frac{9}{n}\sum_{i=1}^{n} 1 + \Delta x \sum_{i=1}^{n}(a + \Delta x i)]$$

$$= \lim_{n\to\infty}[\frac{9}{n}\sum_{i=1}^{n} 1 + \frac{9}{n}\sum_{i=1}^{n}(1 + \frac{9}{n} i)]$$

$$= \lim_{n\to\infty}[\frac{9}{n}\sum_{i=1}^{n} 1 + \frac{9}{n}(\sum_{i=1}^{n} 1 + \frac{9}{n}\sum_{i=1}^{n} i)]$$

$$= \lim_{n\to\infty}[\frac{9}{n}\cdot n + \frac{9}{n}(n + \frac{9}{n}\cdot\frac{n(n+1)}{2})]$$

$$= \lim_{n\to\infty}[9 + \frac{9}{n}(n + \frac{9n^2+9n}{2n})]$$

$$= \lim_{n\to\infty}[9 + \frac{9}{n}(\frac{2n^2+9n^2+9n}{2n})]$$

$$= \lim_{n\to\infty}[9 + \frac{9}{n}(\frac{11n^2+9n}{2n})]$$

$$= \lim_{n\to\infty}[9 + \frac{99n^2+81n}{2n^2}]$$

$$= \lim_{n\to\infty}[9 + \frac{99n^2}{2n^2} + \frac{81n}{2n^2}]$$

$$= \lim_{n\to\infty}[9 + \frac{99}{2} + \frac{81}{2n}]$$

$$= 9 + \frac{99}{2} = 58.5$$

(c) ketabton.com: The Digital Library

(c) ketabton.com: The Digital Library

پوښتنې

1. د $[0,3]$ انټروال په بشپړو مساوي برخو له ویشلو څخه وروسته د $y = 3x$ مستقیم خط او د x د محور تر منځ مساحت محاسبه کړئ.

2. د $\Delta x = 0.5$ قیمت لپاره او د لاندې جدول د قیمتونو په پام کې نیولو سره ګراف رسم، د لاندینیو مستطیلونو د مساحتونو مجموعه اود پورتنیو مستطیلونو د مساحتونو مجموعه پیدا کړئ.

x	0	0.5	1	1.5	2	2.5	3
y	14	20	26	32	38	44	50

3. د $y = 8 - 2x$ تابع ګراف د لاندې OA مثلث مساحت د $[0,4]$ په انټروال کې د ریمان د مجموعې د لیمیت څخه په ګټه اخیستنې سره پیدا کړې.

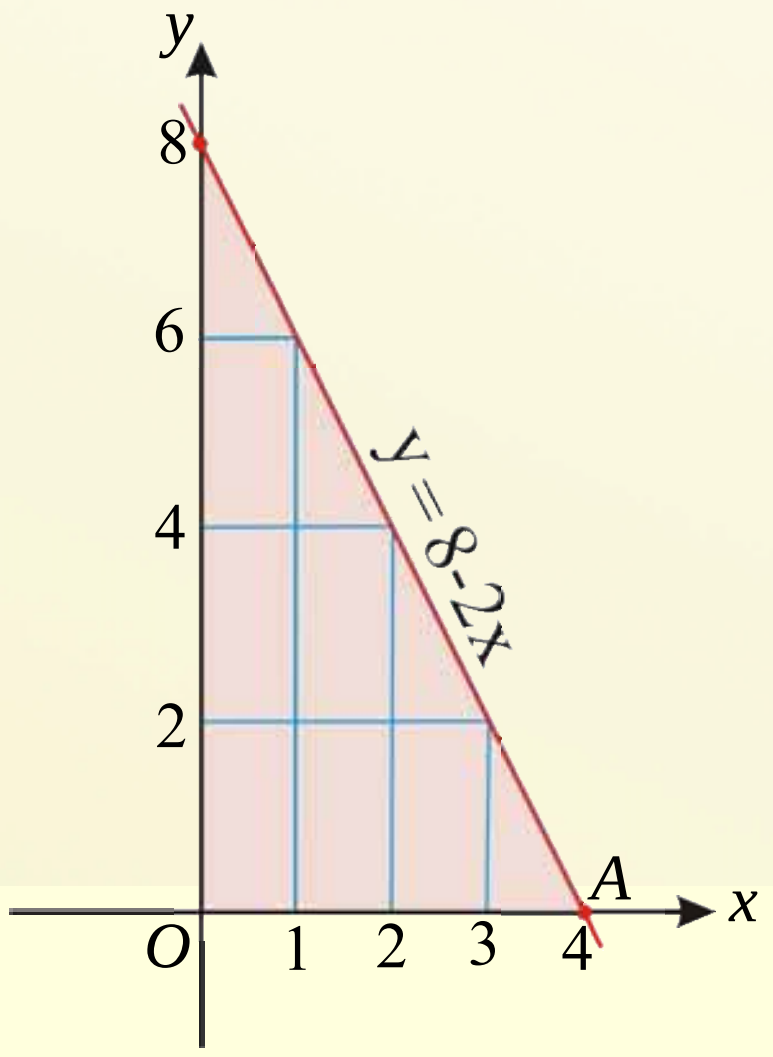

(c) ketabton.com: The Digital Library

د انتیګرال مفهوم
Concept of Integral

ځرنګه چې پوهېږئ د شکلونو لاندیني او پورتني مساحتونه د انتیګرال په واسطه محاسبه کېږي.

آیا کولای شو چې د مخامخ شکل پورتنی مساحت په لاس راوړو.

د هغې تابع انتیګرال چې مشتق یې معین وي او یا په بل عبارت د ریمان مجموعی لېمیټ ته انتیګرال وایي دا($\int$) د انتیګرال علامه ده، د sum دکلیمې یا د ریمان د مجموعې د S توري غزیدلی حالت دی، لکه: $\int f(x)dx = \lim_{n\to\infty}\sum_{i=1}^{n} f(x_i)\Delta x$ چې دلته $f(x)$ تابع او dx د $f(x)$ تابع د انتیګرال متحول نظر x ته دی.

انتیګرالونه عموماً په دوه ډوله دي. معین او غیر معین انتیګرالونه، هغه انتیګرالونه چې په ترتیب سره یې تر څېړنې لاندې نیسو:

I- غیرمعین انتیګرال *Indefinite Integral*

فعالیت

- که د $F(x) = 2x^2 - 1$ تابع وي له دې تابع څخه مشتق ونیسئ.
- ددې تابع له مشتق څخه انتیګرال ونیسئ.
- په لاس راغلی انتیګرال له لومړنی تابع سره پرتله کړئ او ووایئ چې(-1) په نوموړي تابع کې د څه په نامه یادېږي.
- که په پورتني تابع کې (-1) په C ونوموو د $f(x)$ تابع له څه سره مساوي ده؟
- پورتنی فعالیت د $F(x) = x^6 + 1$ تابع لپاره تکرار کړئ او ووایئ چې $f(x)$ له څه سره مساوي ده.

له پورتني فعالیت څخه لاندې تعریف په لاس راځي:

تعریف: که چیرې د $f(x)$ تابع د $[a,b]$ په ترلی انټروال کې تعریف او $F(x)$ د $f(x)$ یوه لومړنی تابع وي. د $F(x)+C$ تابعګانو سټ په داسې حال کې چې C یو ثابت عدد وي د $f(x)$ تابع غیرمعین انتیګرال په نامه یادېږي او داسې لیکل کېږي:

$$\int f(x)dx = F(x) + C$$

(c) ketabton.com: The Digital Library

لومړی مثال: $\int x\,dx$ پیداکړئ.

حل: $\int x\,dx = \frac{x^{1+1}}{1+1} + C = \frac{x^2}{2} + C$

دویم مثال: $\int \frac{1}{\sqrt[7]{x^3}}\,dx$ حساب کړئ.

حل: $\int \frac{1}{\sqrt[7]{x^3}}\,dx = \int x^{-\frac{3}{7}}\,dx = \frac{x^{-\frac{3}{7}+1}}{-\frac{3}{7}+1} + C = \frac{x^{\frac{4}{7}}}{\frac{4}{7}} + C = \frac{7}{4}\sqrt[7]{x^4} + C$

دریم مثال: $\int x^{\frac{3}{2}}\,dx$ پیداکړئ.

حل: $\int x^{\frac{3}{2}}\,dx = \frac{x^{\frac{3}{2}+1}}{\frac{3}{2}+1} + C = \frac{x^{\frac{5}{2}}}{\frac{5}{2}} + C = \frac{2}{5}x^{\frac{5}{2}} + C = \frac{2}{5}\sqrt{x^5} + C$

پوښتنې

لاندې انتیګرالونه محاسبه کړئ:

a) $\int \sqrt[5]{x^3}\,dx$

b) $\int \frac{1}{x^4}\,dx$

c) $\int \frac{1}{\sqrt{x}}\,dx$

d) $\int \frac{x^2\,dx}{\sqrt[4]{x^2}}$

e) $\int \sqrt[8]{x^4} \cdot x\,dx$

د غیرمعین انتیگرال خواص

Properties of indefinite integral

تاسې د لېمیټ او مشتق خواص مخکې مطالعه کړي؟ آیا کیدای شي چې ورته خواص په غیر معین انتیګرال کې هم وي؟

$$\left.\begin{array}{l}\int \quad dx \\ \int [f(x) \pm g(x)]\, dx \\ \int [f(x) \cdot g(x)]\, dx \\ \int \frac{f(x)}{g(x)} dx \quad , g(x) \neq 0\end{array}\right\} = ?$$

فعالیت

د مشتقاتو د خواصو څخه په کار اخیستنې د لاندې تابعګانو مشتق پیدا کړئ.

$$f(x) = 3x^4$$

$$f(x) = 2x^3 - \frac{1}{x^2}$$

$$f(x) = \sin x + \cos x$$

$$f(x) = \frac{1}{1+x^2}$$

له پورتني فعالیت څخه لاندې پایلې په لاس راورو:

څرنګه چې د تابعګانو د مشتق د پیداکولو لپاره له ځانګړو قوانینو څخه ګټه اخېستل کېږي، غیرمعین انتیګرالونه هم د داسې خواصو لرونکي دي چې هغه پرته له ثبوت څخه قبلوو:

1- که یو ثابت عدد وي، نو لرو چې: $\int \ dx = \ \int dx = x + C$

مثال: د $\int 5dx$ انتګرال پیدا کړئ.

حل: $\int 5dx = 5 \int dx = 5x + C$

2- که چیرې $n \neq -1$ وي، نو: $\int x^n dx = \frac{x^{n+1}}{n+1} + C$

(c) ketabton.com: The Digital Library

مثال: د $\int x^4dx$ **انتیگرال** پیدا کړی.

حل: $\int x^4dx = \frac{x^{4+1}}{4+1}+C = \frac{1}{5}x^5+C$

3- که چیرې a یو ثابت عدد او $f(x)$ تابع وي، **نو**:

$$\int a\,f(x)\,dx = a\int f(x)\,dx$$

مثال: **د** $\int 2x^2\,dx$ **انتیگرال** محاسبه کړئ.

حل: $\int 2x^2dx = 2\int x^2dx = 2\frac{x^3}{3}+C = \frac{2}{3}x^3+C$

4- که چیرې $f(x)$ او $g(x)$ دوې تابعګانې وي په دې صورت کې د تابعګانو د جمع او تفریق د حاصل انتیګرال مساوی دی په:

$$\int[f(x)\pm g(x)]dx = \int f(x)dx \pm \int g(x)dx$$

مثالونه:

$a)\quad \int(2x^2+3)dx = \int 2x^2dx+\int 3dx = \frac{2x^3}{3}+3x+C$

$b)\quad \int(8-2x)dx = 8\int dx - 2\int xdx = 8x - x^2 + C$

5- که چیرې دتابعګانو ترادف تر انتیګرال لاندې وي، په دی صورت کې د دوی انتیګرال مساوی دی په:0

$$\int[f_1(x)+f_2(x)+...+f_n(x)]dx = \int f_1(x)dx+\int f_2(x)dx+...+\int f_n(x)dx$$

مثال:

$$\int[x^3-6x^2+9x+1]dx = \int x^3dx - \int 6x^2dx + \int 9xdx + \int dx$$
$$= \frac{x^4}{4}-\frac{6x^3}{3}+\frac{9x^2}{2}+x+C$$

(c) ketabton.com: The Digital Library

6- که $f(x)$ او $g(x)$ دوې تابعګانې وي، په دې حالت کې د تابعګانو د ضرب د حاصل انتیګرال مساوی نه دی د انتیګرالونو د ضرب له حاصل سره په جلا توګه، یعنې:

$$\int[f(x)\cdot g(x)]dx \neq \int f(x)dx\cdot\int g(x)dx$$

مثال: که چېرې $f(x)=x+1$ او $g(x)=x-2$ وي، نو:

حل الف: لومړی په تابع ګانو د ضرب عملیه تطبیق کوو او وروسته یې انتیګرال په لاس راوړو:

$$\int[f(x)\cdot g(x)]\,dx=\int[(x+1)(x-2)]dx=\int(x^2-2x+x-2)\,dx$$
$$=\int(x^2-x-2)\,dx$$
$$=\int x^2dx-\int x\,dx-\int 2\,dx$$
$$=\frac{x^3}{3}-\frac{x^2}{2}-2x+C$$

حل ب: اوس د هرې تابع انتیګرال بېل بېل محاسبه کوو او وروسته یې سره ضربوو په لاس راغلي قیمتونه سره پرتله کوو.

$$\int f(x)\,dx\cdot\int g(x)\,dx=\int(x+1)\,dx\cdot\int(x-2)\,dx=(\int x\,dx+\int dx)(=\int x\,dx-\int 2\,dx)$$
$$=(\frac{x^2}{2}+x+C)(\frac{x^2}{2}-2x+C)=(\frac{x^2}{2}+x)(\frac{x^2}{2}-2x)+C$$
$$\Rightarrow\ \frac{x^3}{3}-\frac{x^2}{2}-2x+C\neq(\frac{x^2}{2}+x)(\frac{x^2}{2}-2x)+C$$

په پایله کې څرګنده شوه، چې نوموړی مساوات حقیقت نه لري.

7- که چېرې $f(x)$ او $g(x)$ دوه تابعګانې وي په دې صورت کې د توابعو د تقسیم د حاصل انتیګرال مساوی نه دی د هرې تابع د انتیګرال له حاصل تقسیم سره، یعنې: $\int\frac{f(x)}{g(x)}dx\neq\frac{\int f(x)dx}{\int g(x)dx}$

مثال: که چېرې $f(x)=x^2+2x$ او $g(x)=x$ وي، نو لرو:

د الف جزء حل: لومړی د تابع ګانو د تقسیم د حاصل انتیګرال په لاس راوړو.

$$\int[f(x)\cdot g(x)]\,dx=\int[(x+1)(x-2)]dx=\int(x^2-2x+x-2)\,dx$$
$$=\int(x^2-x-2)\,dx$$
$$=\int x^2dx-\int x\,dx-\int 2\,dx$$
$$=\frac{x^3}{3}-\frac{x^2}{2}-2x+C$$

(c) ketabton.com: The Digital Library

د ب جزء حل: اوس د صورت او مخرج د تابعگانو انتیگرالونه بېل بېل په لاس راوړو او وروسته يې سره پرتله کوو.

$$\int f(x)\,dx\cdot\int g(x)\,dx=\int(x+1)\,dx\cdot\int(x-2)\,dx=\left(\int x\,dx+\int dx\right)\left(\int x\,dx-\int 2\,dx\right)$$

$$=\left(\frac{x^2}{2}+x+C\right)\left(\frac{x^2}{2}-2x+C\right)=\left(\frac{x^2}{2}+x\right)\left(\frac{x^2}{2}-2x\right)+C$$

$$\Rightarrow\ \frac{x^3}{3}-\frac{x^2}{2}-2x+C\neq\left(\frac{x^2}{2}+x\right)\left(\frac{x^2}{2}-2x\right)+C$$

په پايله کې څرګنده شوه چې مساوات حقيقت نه لري.

پوښتني

د انتیگرال د خاصیتونو څخه په ګټه اخیستني سره لاندي انتیگرالونه محاسبه کړئ:

a) $\int -17\,dx=?$

b) $\int \frac{(1+x)^2}{1+x}\,dx=?$

c) $\int 2x^4\,dx=?$

d) $\int \frac{1}{x^5}\,dx=?$

e) $\int (2x^2+4x^3-5x+9)\,dx=?$

f) $\int (2x+3)^6\,dx=?$

g) $\int \frac{x^3+2x^2}{x^2}\,dx=?$

h) $\int (2+x)\,dx=?$

(c) ketabton.com: The Digital Library

معین انتیگرال

Definite Integral

د شپږ ضلعي دننه مثلثونو د مساحتونو مجموعه پیدا او د شپږ ضلعي له مساحت سره یې پرتله کړئ.

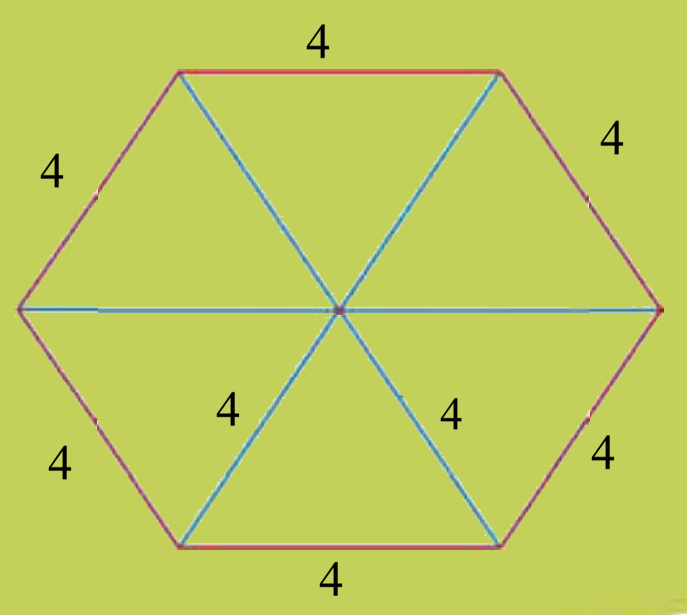

- **د $f(x)=2x$ د تابع ګراف د $[2,5]$ په انټروال کې د $n=5$ لپاره رسم کړئ او د ګراف لاندینی مساحت پیدا کړئ**
- په شکل کې د ګراف لاندینی مساحت د کومو دوو عددونو ترمنځ پروت دی.

د پورتنی فعالیت پایله داسې بیانوو:

تعریف: که چیرې د $f(x)$ تابع په $[a,b]$ انټروال کې متمادي وی نو د $f(x)$ تابع د ریمان مجموعې لېمیټ ته کله چې n بې‌نهایت ته نږدی شی او د فرعي انټروالونو (Δx) لوی اوږدوالی صفر ته نږدی شي، د $f(x)$ تابع له $x=a$ څخه تر $x=b$ پورې د معین انتیګرال په نوم یادیږي، یعنې:

$$\lim_{n\to\infty}\sum_{i=1}^{n} f(x_i)\Delta x=\int_a^b f(x)dx=[F(x)]_a^b=F(b)-F(a)$$

چې a ته د انتیګرال لاندینی سرحد او b ته د انتیګرال پورتنی سرحد وایي.

لومړی مثال: د $\int_1^3 x^2\,dx$ ټاکلي انتیګرال قیمت پیدا کړئ.

حل: لومړي د $F(x)$ لومړنی تابع پیدا کوو او بیا د مطلوب انتیګرال قیمت ټاکو:

$$\int_1^3 x^2dx=[\frac{x^3}{3}]_1^3=\frac{3^3}{3}-\frac{1^3}{3}=\frac{27-1}{3}=\frac{26}{3}$$

دویم مثال: هغه مساحت چې د $y=3$ خط او x محور ترمنځ په $[-1,4]$ انټروال کې محصور دی حساب کړی.

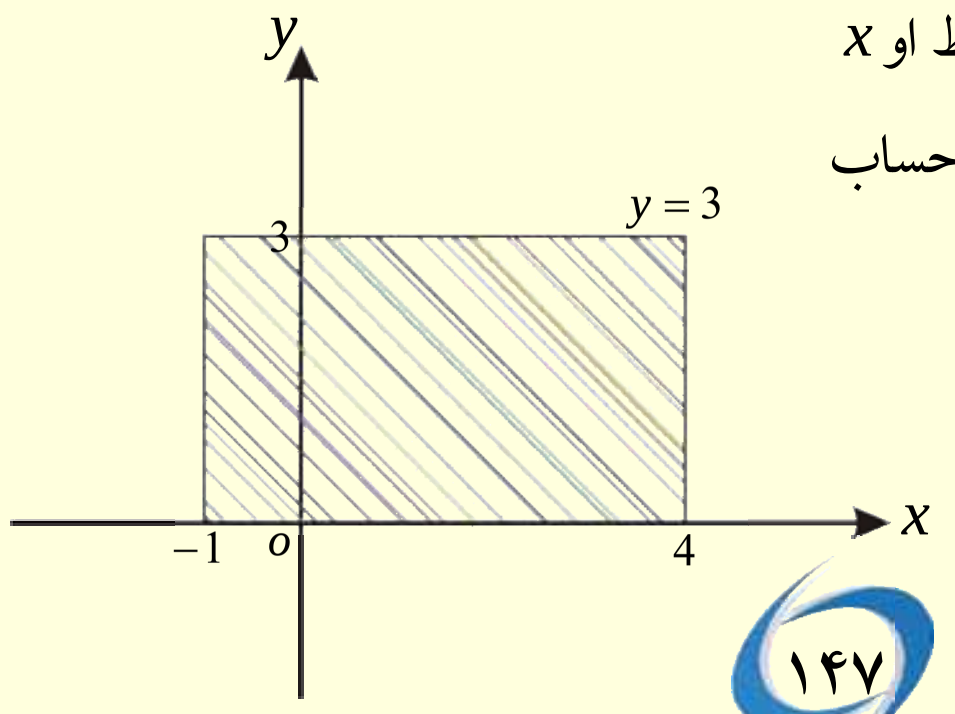

(c) ketabton.com: The Digital Library

حل: د $\int_{-1}^{4} 3\,dx$ معین انتیگرال د یوه مستطیل مساحت راښیي چې په تېر شکل کې لیدل کېږي.

ددې مستطیل مساحت د مستطیل د عرض او طول د ضرب له حاصل سره مساوي دی.

د مستطیل مساحت $= 3[4-(-1)] = 3\cdot 5 = 15$

د انتیګرال څخه په ګټه اخیستنې سره د مستطیل مساحت په لاندې ډول محاسبه کوو.

$$\int_{-1}^{4} 3\,dx = [3x]_{-1}^{4} = 3[4-(-1)] = 15$$

دریم مثال: هغه مساحت چې د $y = x-1$ مستقیم خط او x محور ترمنځ په $[0,3]$ انتروال کې محصور دی په لاس راوړئ.

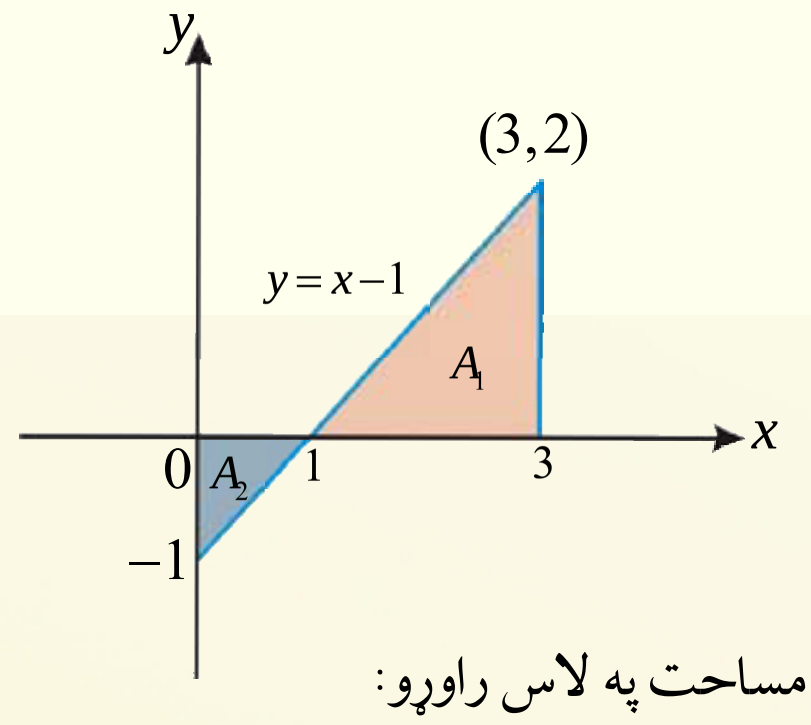

حل:

له شکل څخه په ګټه اخیستنې سره لومړی د ښي خوا د لوی مثلث مساحت په لاس راوړو:

$$A_1 = \frac{1}{2}(2\cdot 2) = \frac{1}{2}\cdot 4 = 2$$

د کوچنی مثلث مساحت عبارت دی له:

$$A_2 = \frac{1}{2}[1(-1)] = \frac{1}{2}(-1) = -\frac{1}{2}$$

د A_1 او A_2 د مساحتونو مجموعه عبارت ده له:

$$A_1 + A_2 = 2 - \frac{1}{2} = 1.5$$

په پایله کې د نوموړي انتیګرال قیمت عبارت دی له: $\int_{0}^{3}(x-1)\,dx = [\frac{x^2}{2} - x]_0^3 = [\frac{3^2}{2} - 3] - 0 = \frac{9}{2} - 3 = 1.5$

پوښتنې

1. د مخامخ شکل څخه په کار اخیستنې سره هغه مساحت چې د $y = -2x+1$ د مستقیم خط او د x د محور ترمنځ محصور دی په لاس راوړئ.

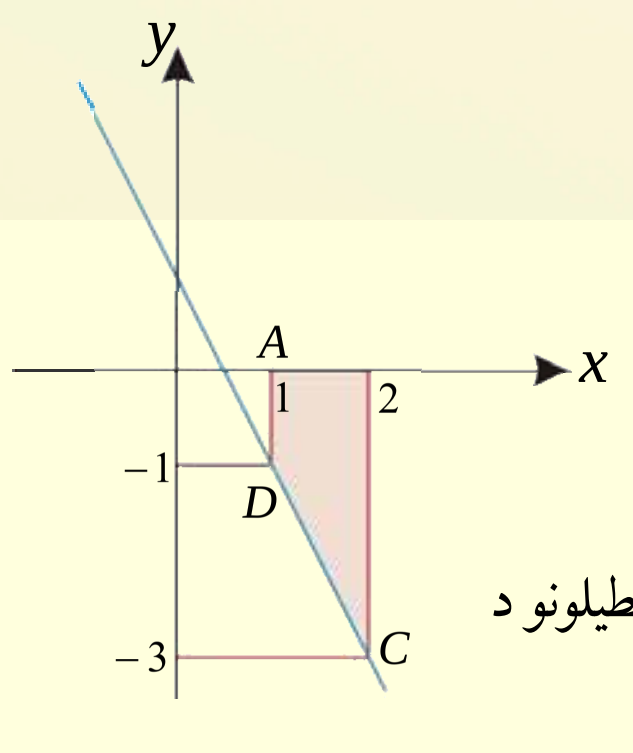

2. د $f(x) = x^2$ تابع د لاندینیو مستطیلونو د مساحت مجموعه او پورتنیو مستطیلونو د مساحت مجموعه په $[0,1]$ انتروال کې د $n = 4$ لپاره په لاس راوړئ.

(c) ketabton.com: The Digital Library

د معین انتیگرال خواص

Properties of definite integral

آیا کولای شو چې د غیرمعین انتیګرال د ځانګړونو څخه په ګټه اخیستنې سره مخامخ اړیکې پوره کړو.

$$\left.\begin{array}{l}\int_a^b c\,dx \\ \int_a^b [f(x)\pm g(x)]\,dx \\ \int_a^a f(x)\,dx\end{array}\right\} = ?$$

فعالیت

- د $\sum_{=1}^{4} 3^{\;2}$ مجموعه حساب کړئ.
- د $\int_a^b x\,dx$ د انتیګرال قیمت د $[-1,1]$ په انټروال کې پیدا کړئ.
- د $\int_0^2 (1+3x)\,dx$ ټاکلی انتیګرال محاسبه کړئ.

د پورتني فعالیت پایله داسې بیانوو:

د ځینو انتیګرالونو محاسبه د قیمت په وضع کولو سره امکان لري او ځینې یې امکان نه لري، دې ته اړتیا پیدا کېږي، ترڅو ټاکلي انتیګرال ثبوت کړو.

1. د ثابتې تابع انتیګرال د $[a,b]$ په انټروال کې یعنې $\int_a^b Cdx$ عبارت دی، له:

$$\int_a^b C\,dx = C\int_a^b dx = C[x]_a^b = C(b-a)$$

ثبوت: د $[a,b]$ انټروال په n مساوي برخو یعني $\Delta x_i = \dfrac{b-a}{n}$ وېشو او د هر x_i لپاره د i - ام انټروال څخه لرو: $i=0,1,2,\dots,n$ $\qquad f(x_i)=C$

$$S_n = \sum_{i=1}^{n} f(x_i)\,\Delta x_i = \sum_{i=1}^{n} C\,\Delta x_i = C(\Delta x_1+\Delta x_2+\dots+\Delta x_n) = C\left(\frac{b-a}{n}+\frac{b-a}{n}+\dots+\frac{b-a}{n}\right)$$

$$= C(b-a)\left(\frac{1}{n}+\frac{1}{n}+\dots+\frac{1}{n}\right) = C(b-a)\frac{n}{n} = C(b-a) \Rightarrow \int_a^b Cdx = C(b-a)$$

(c) ketabton.com: The Digital Library

مثال: $\int_3^4 dx$ ټاکلی انتیګرال حساب کړئ.

حل: $\int_3^4 dx = [x]_3^4 = 4-3=1$

2. که د $f(x)$ تابع د $[a,b]$ په انټروال کې انتیګرال منونکی وی او   یو ثابت حقیقي عدد وي، نو لرو چې:

$$\int_a^b \; f(x)dx = \; \int_a^b f(x)dx$$

ثبوت: که چیرې د $[a,b]$ انټروال د x_i ، $i=1,2,...,n$ په n مساوي برخو وویشو نو د ریمان د مجموعې او انتیګرال د تعریف له مخې لیکلای شو:

$$\lim_{n\to\infty} S_n = \lim_{n\to\infty}\sum_{i=1}^{n} \; f(x_i)\Delta x = \lim_{n\to\infty} \; \sum_{i=1}^{n} f(x_i)\Delta x$$

$$= \lim_{n\to\infty}\sum_{i=1}^{n} f(x_i)\Delta x = \; \int_a^b f(x)\,dx$$

$$\Rightarrow \int_a^b \; f(x)dx = \; \int_a^b f(x)dx$$

مثال: د $\int_{-2}^{2} 4\,dx$ ټاکلي انتیګرال محاسبه کړئ.

حل: $\int_{-2}^{2} 4dx = 4\int_{-2}^{2} dx = 4[x]_{-2}^{2} = 4(2-(-2)) = 4\cdot 4 = 16$

3. که د $F(x)$ تابع یوه لومړنی تابع د $f(x)$ او په $[a,b]$ انټروال کې متمادي وي، نو:

$$\int_a^b f(x)\,dx = -\int_b^a f(x)\,dx$$

ثبوت:

$$\lim_{n\to\infty}\sum_{i=1}^{n} f(x_i)\Delta x = \int_a^b f(x)\,dx = F(b)-F(a) = -(-F(b)+F(a))$$

$$= -(F(a)-F(b)) = -\int_b^a f(x)\,dx \;\Rightarrow\; \int_a^b f(x)\,dx = -\int_b^a f(x)\,dx$$

مثال: د $\int_2^3 2x\,dx = -\int_3^2 2x\,dx$ انتیګرال مساوات پیدا کړئ.

(c) ketabton.com: The Digital Library

حل: لومړی دکېڼ لورى انتيګرال او وروسته د ښيې خوا انتيګرال محاسبه کوو:

$$\int_2^3 2x\,dx = [\frac{2x^2}{2}]_2^3 = \frac{2(3)^2}{2} - \frac{2(2)^2}{2} = \frac{2(9)}{2} - \frac{2(4)}{2} = \frac{18}{2} - \frac{8}{2} = \frac{18-8}{2} = \frac{10}{2} = 5$$

$$\int_3^2 2x\,dx = [\frac{2x^2}{2}]_3^2 = \frac{2(2)^2}{2} - \frac{2(3)^2}{2} = \frac{2(4)}{2} - \frac{2(9)}{2} = \frac{8}{2} - \frac{18}{2} = \frac{8-18}{2} = -\frac{10}{2} = -5$$

د لاسته راغلو قيمتونو په پام کې نيولو سره پايله په لاس راځي:

$$\int_2^3 2x\,dx = -\int_3^2 2x\,dx$$

4- که د $f(x)$ تابع په $[a,b]$ انټروال کې متمادي وي په هغه صورت کې لرو، چې: $\int_a^a f(x)\,dx = 0$

ثبوت: **ځرنګه چې** $\Delta x = 0$ **دی، نو:**

$$\lim_{n\to\infty}\sum_{i=1}^{n} f(x_i)\Delta x = \int_a^a f(x)\,dx = F(a) - F(a) = 0$$

$$\Rightarrow \int_a^a f(x)\,dx = 0$$

مثال: د $\int_3^3 3x^2 dx$ انتيګرال محاسبه کړئ.

حل: $\int_3^3 3x^2 dx = [\frac{3x^3}{3}]_3^3 = [x^3]_3^3 = [3^3 - 3^3] = 27 - 27 = 0$

5- که $f(x)$ او $g(x)$ تابعګانې په $[a\ ,b]$ انټروال کې انتيګرال منونکي وي، نو:

$$\int_a^b [f(x) \pm g(x)]dx = \int_a^b f(x)\,dx \pm \int_a^b g(x)\ dx$$

ثبوت:

$$\int_a^b [f(x) \pm g(x)]dx = \lim_{n\to\infty}\sum_{i=1}^{n}[f(x_i) \pm g(x_i)]\ \Delta x$$

$$= \lim_{n\to\infty}[\sum_{i=1}^{n} f(x_i)\,\Delta x \pm \sum_{i=1}^{n} g(x_i)\,\Delta x]$$

$$= \lim_{n\to\infty}\sum_{i=1}^{n} f(x_i)\,\Delta x \pm \lim_{n\to\infty}\sum_{i=1}^{n} g(x_i)\,\Delta x = \int_a^b f(x)\,dx \pm \int_a^b g(x)\,dx$$

(c) ketabton.com: The Digital Library

مثالونه:

حل:

$$a)\ \int_0^1 (4+3x^2)\,dx = \int_0^1 4\,dx + \int_0^1 3x^2\,dx = 4\int_0^1 dx + 3\int_0^1 x^2\,dx = 4[x]_0^1 + 3\left[\frac{x^3}{3}\right]_0^1 = 4+1 = 5$$

$$b)\ \int_0^3 (x^2-1)\,dx = \int_0^3 x^2 dx - \int_0^3 dx = \left[\frac{x^3}{3}\right]_0^3 - [x]_0^3 = \frac{27}{3} - 3 = \frac{27-9}{3} = \frac{18}{3} = 6$$

6. که چیرې د $f(x)$ تابع په یوه ترلې انټروال کې چې د a , b او c ټکی پکی شامل دي انتيګرال منونکې وي،

نو: $\int_a^b f(x)\,dx = \int_a^c f(x)\,dx + \int_c^b f(x)\,dx$

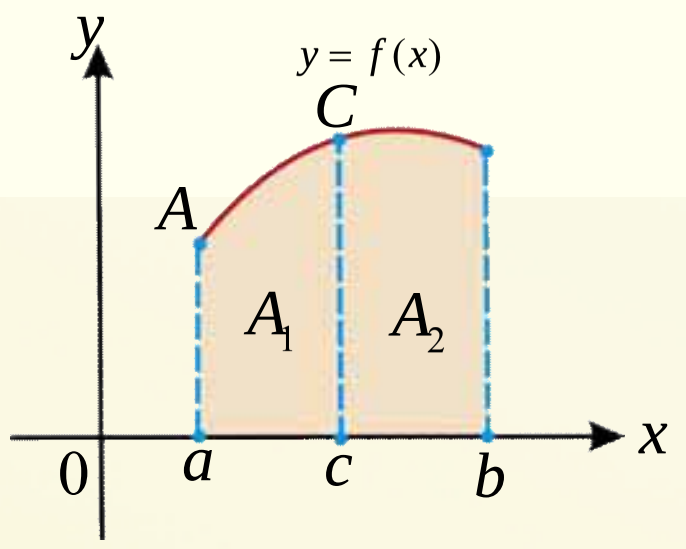

ثبوت: دلته د $[a,b]$ انټروال په دوو انټروالونو د $[a,c]$ او $[c,b]$ تقسیموو، وروسته د $f(x)$ تابع انتيګرال په نوموړې انټروالونو کې په پام کې نیسو.

د انتيګرال اصلی مفهوم ته په پام $A = \int_a^b f(x)dx$ په حقیقت کې د هغې سطحې مساحت دی چې د $f(x)$ د تابع د ګراف او x د محور ترمنځ د $[a,b]$ په انټروال کې محصوره ده. په داسې حال کې چې د هغه سطحې مساحتونه چې د $f(x)$ ګراف او د x د محور ترمنځ د $[a,c]$ او $[c,b]$ په انټروالونو کې محصوره ده

او په شکل کې واضح لیدل کېږي عبارت ده له: $A_1 = \int_a^c f(x)\,dx$ ، $A_2 = \int_c^b f(x)\,dx$

په پایله کې ویلای شو چې : $A = A_1 + A_2 \Rightarrow \int_a^b f(x)\,dx = \int_a^c f(x)\,dx + \int_c^b f(x)\,dx$

مثال: که چیرې $\int_0^{10} f(x)dx = 17$ او $\int_0^8 f(x)dx = 12$ وي، نو د $\int_8^{10} f(x)dx$ انتيګرال قیمت محاسبه کړئ.

حل:

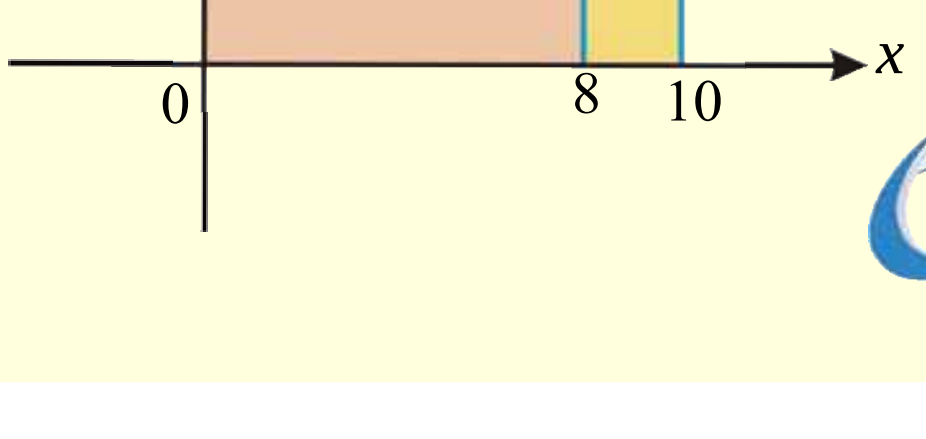

$$\int_a^b f(x)\,dx = \int_a^c f(x)\,dx + \int_c^b f(x)\,dx$$

$$\int_0^{10} f(x)\,dx = \int_0^8 f(x)\,dx + \int_8^{10} f(x)\,dx$$

(c) ketabton.com: The Digital Library

(c) ketabton.com: The Digital Library

اوس د $\int_8^{10} f(x)\,dx$ انتیګرال قیمت په لاس راوړو:

$$\int_8^{10} f(x)\,dx = \int_0^{10} f(x)\,dx - \int_0^{8} f(x)\,dx = 17 - 12 = 5$$

7. که چیرې د $f(x) \le g(x)$ تابعګانې په $[a,b]$ انټروال کې انتیګرال منومنکي وي؛ نو لرو:

$$\int_a^b f(x)\,dx \le \int_a^b g(x)\,dx$$

ثبوت:

$$\int_a^b g(x)\,dx - \int_a^b f(x)\,dx = \int_a^b [g(x) - f(x)]dx = \lim_{n\to\infty} \sum_{i=1}^{n} [g(x) - f(x)]\,\Delta x$$

نو څرنګه $g(x) - f(x) \ge 0$ او $\Delta x \ge 0$ دی نو د سلسلې هر حد مثبت دی، نو د هغې لیمیټ هم منفي نه دی یعنې:

$$\lim_{n\to\infty} \sum_{i=1}^{n} [g(x_i) - f(x_i)]\,\Delta x \ge 0 \Rightarrow \int_a^b [g(x) - f(x)]\,dx \ge 0$$

$$\int_a^b g(x)\,dx - \int_a^b f(x)\,dx \ge 0 \Rightarrow \int_a^b g(x)\,dx \ge \int_a^b f(x)\,dx$$

مثال: که چیرې $f(x) = 1 - \frac{x^2}{4}$ او $g(x) = 1 + \frac{x^2}{2}$ وي، نو د $x > 1$ لپاره وښایاست چې $\int_a^b f(x)dx \le \int_a^b g(x)dx$ دی.

حل:

$$\int_a^b (1 - \frac{x^2}{4})\,dx \le \int_a^b (1 + \frac{x^2}{2})dx$$

$$\int_a^b 1\,dx - \int_a^b \frac{x^2}{4}\,dx \le \int_a^b 1\,dx + \int_a^b \frac{x^2}{2}\,dx$$

$$[x]_a^b - \frac{1}{12}[x^3]_a^b \le [x]_a^b + \frac{1}{6}[x^3]_a^b$$

پوهېږو چې $(b-a)>0$ دی، نو:

$$(b-a)-\frac{1}{12}(b^3-a^3)\le(b-a)+\frac{1}{6}(b^3-a^3) \qquad /\div(b-a)$$

$$1-\frac{1}{12}(b^3-a^3)\le 1+\frac{1}{6}(b^3-a^3)$$

$$-\frac{1}{12}(b^3-a^3)\le +\frac{1}{6}(b^3-a^3) \qquad /\div(b^3-a^3)$$

$$-\frac{1}{12}<\frac{1}{6} \Rightarrow -1<2$$

8. که د $f(x)$ تابع په $[a,b]$ انټروال کې متمادي او M, m قیمتونه په ترتیب سره د تابع مطلق اعظمي او مطلق اصغري قیمتونه په نوموړی انټروال کې وی، نو $m(b-a)\le\int_a^b f(x)dx\le M(b-a)$

ثبوت: څرنګه چې $m\le f(x)\le M$ دی نو لرو چې:

$$\int_a^b m\,dx\le\int_a^b f(x)\,dx\le\int_a^b M\,dx$$

$$m(b-a)\le\int_a^b f(x)\,dx\le M(b-a)$$

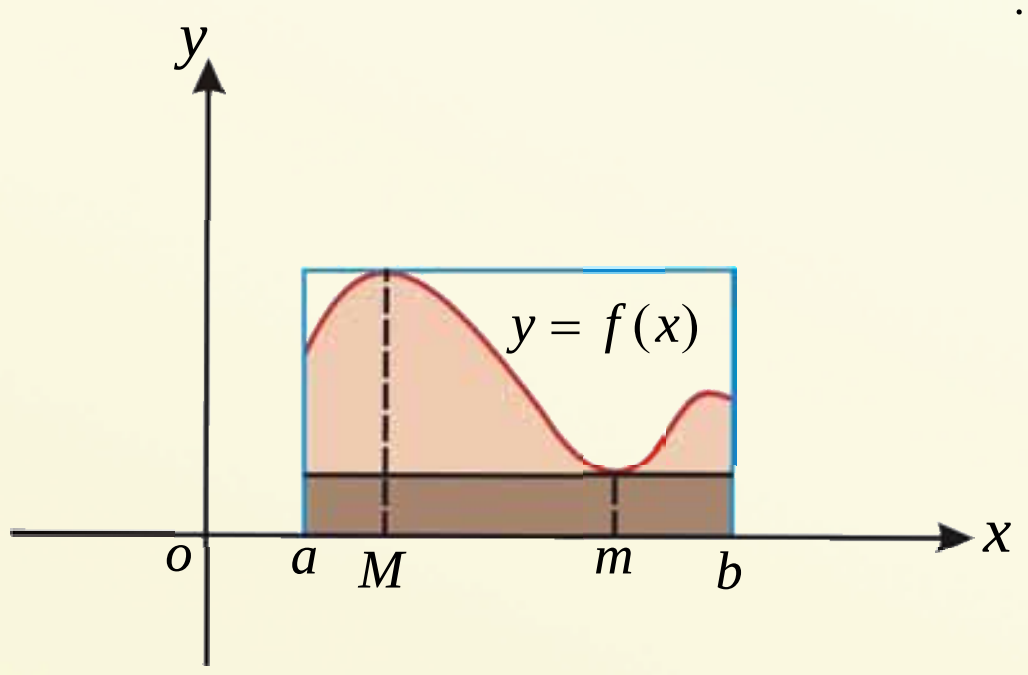

چې دا وروستنی اړیکه د انټیګرال د تخمیني قضیې په نامه یادېږي.

مثال: $\int_0^1 e^{-x^2}\,dx$ انټیګرال په تخمیني توګه حساب کړئ.

حل: څرنګه چې د $f(x)=e^{-x^2}$ تابع په $[0,1]$ انټروال کې متمادي ده او $M=f(0)=e^0=1$ مطلق اعظمي او $m=f(1)=e^{-1}$ مطلق اصغري دی، نو لرو چې:

$$m(b-a)\le\int_a^b f(x)\,dx\le M(b-a)$$

$$e^{-1}(1-0)\le\int_0^1 e^{-x^2}dx\le 1(1-0)$$

$$e^{-1}\le\int_0^1 e^{-x^2}dx\le 1$$

$$e^{-1}=\frac{1}{e}\approx 0{,}3679\Rightarrow 0.3679\le\int_0^1 e^{-x^2}dx\le 1$$

(c) ketabton.com: The Digital Library

په پایله کې د انتیګرال تخمیني قیمت د 1 او 0.3679 قیمتونو ترمنځ قرار لري.

9. که د $f(x)$ تابع په $[a,b]$ انټروال کې متمادي وي، نو د c یو حقیقي عدد شته چې: $a \le c \le b$ دی، نو:

$$\int_a^b f(x)\,dx = f(c)(b-a)$$

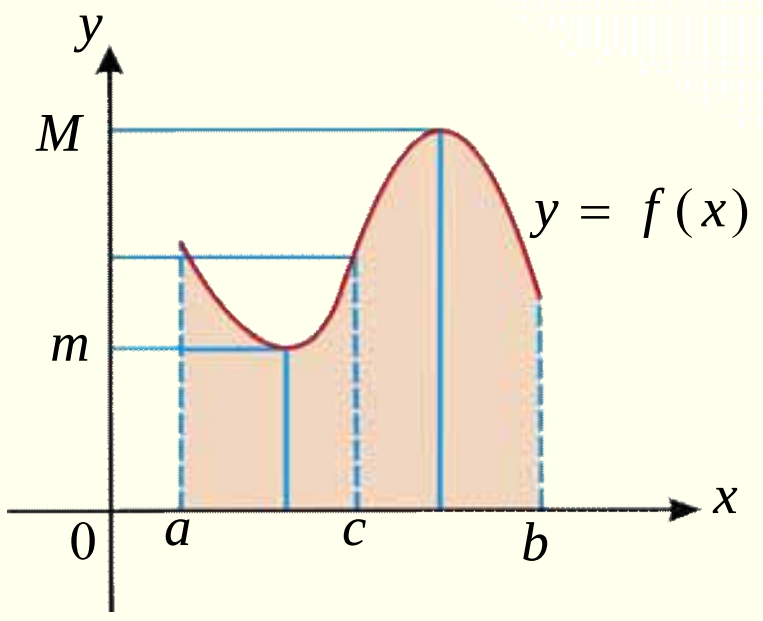

ثبوت: د $a < b$ لپاره m او M قیمتونه په ترتیب د تابع مطلق اصغري او اعظمي قیمتونه د $[a,b]$ په انټروال کې وي، لکه مخامخ شکل د انتیګرال د تخمیني قضیې څخه په کار اخیستنې د $c \in [a,b]$ لپاره لرو چې:

$$m(b-a) \le \int_a^b f(x)\,dx \le M(b-a) \quad \Rightarrow \quad m \le \frac{1}{b-a}\int_a^b f(x)\,dx \le M$$

فرضوو $\frac{1}{b-a}\int_a^b f(x)\,dx =$ وي، نو $\le M$ $m \le$ دی او د هر c حقیقي عدد لپاره، $a \le c \le b$

لرو چې: $= f(c)$ نو: $f(c) = \frac{1}{b-a}\int_a^b f(x)\,dx \Rightarrow \int_a^b f(x)\,dx = f(c)(b-a)$

چې دا وروستی اړیکه د متوسط قیمت د قضیې په نامه یادېږي خرنګه چې $f(c)$ د تابع متوسط قیمت په $[a,b]$ انټروال کې دی.

مثال: د $f(x)=x^2$ تابع په $[1,4]$ انټروال کې په پام کې ونیسئ آیا کولای شئ

$$\int_1^4 x^2\,dx = [\frac{x^3}{3}]_1^4 = [\frac{64}{3}-\frac{1}{3}] = [\frac{64-1}{3}] = \frac{63}{3} = 21$$ دی.

حل: خرنګه چې $f(x)=x^2$ تابع ده اوس که د x په ځای د c قیمت په تابع کې وضع کړو نو: $f(c)=c^2$ سره کېږي چې دلته د متوسط قیمت د قضیې د فورمول څخه د c قیمت داسې په لاس راځي:

$$\int_a^b f(x)\,dx = f(c)(b-a)$$

(c) ketabton.com: The Digital Library

اوس په پورتنی رابطه کې يې قيمت ايږدو، لرو چې:

$$\int_1^4 x^2\,dx = c^2(4-1)$$

$$21 = 3c^2 \Rightarrow c^2 = \frac{21}{3} \Rightarrow c^2 = 7 \Rightarrow c = \sqrt{7}$$

$$= f(c) \quad , \quad f(c) = c^2 = (\sqrt{7})^2 = 7 \Rightarrow f(c) = 7 \quad , \quad = 7$$

ښکاره شوه چې د تابع يو قيمت مساوي په او $1 < \sqrt{7} < 4$ دی.

له مخکې څخه پوهېږو چې د مستطيل مساحت د طول او عرض د اوږدوالي د ضرب سره برابر دی نو د متوسط قيمت په فورمول کې $f(c)$ طول او $b-a$ عرض دی نو د منحني لاندې مساحت په $[1,4]$ انټروال کې مساوي له هغه مستطيل سره دی چې اضلاع يې 7 او 3 دی.

پوښتنې

1. لاندې معين انټيګرالونه محاسبه کړئ.

$a)\ \int_{-1}^{1}(x^3+2)\,dx = ?$

$b)\ \int_{2}^{5}7x\,dx = ?$

$c)\ \int_{-2}^{4}(-x)\,dx = ?$

$d)\ \int_{-1}^{3}(2|x|-3x)\,dx = ?$

$e)\ \int_{-2}^{3}3x\,dx$

$f)\ \int_{-1}^{2}(x^3-\frac{1}{2}x^4)\,dx = ?$

$g)\ \int_{-4}^{4}(2x^2-\frac{1}{8}x^4)\,dx = ?$

$h)\ \int_{1}^{3}\sqrt{x}\,dx$

2. د $\int_{-1}^{4} f(x)\,dx$ انټيګرال قيمت د $[-1,4]$ په انټروال کې داسې پيداکړئ، چې $\int_{-1}^{1} f(x)\,dx = 5$ او $\int_{1}^{4} f(x)dx = -2$ وي.

3. د $f(x) = x$ تابع په $[0,2]$ انټروال کې په نظر کې ونيسئ او د c قيمت په لاس راوړئ.

(c) ketabton.com: The Digital Library

10- د انتیګرال او مشتق اساسي قضیې

یو موټر په $72\frac{m}{sec}$ چټکتیا سره په حرکت کې دی، دریور برک ته فشار ورکوي او موټر وروسته له 6 ثانیو ودرېږي په دې وخت کې وهل شوی فاصله پیدا کړئ.

$$S(t) = v_0 \cdot t$$

فعالیت

- د مشتق د تعریف څخه په ګټې اخیستنې سره د $f(x) = x^2$ د تابع مشتق د $h = 0$ په ټکي کې پیدا کړئ.
- د په لاس راغلی تابع انتیګرال په $[0,1]$ انټروال کې محاسبه کړئ.
- د په لاس راغلو دواړو حالتونو قیمتونه سره پرتله کړئ.

له پورتني فعالیت څخه په لاس راځي، چې:

د انتیګرال او مشتق تر منځ یوه منطقي اړیکه شته چې له دې اړیکې څخه په کار اخیستنې سره کولای شو، د انتیګرال اصلي او اساسي قضیې په لاندې ډول ثبوت کړو:

1- د انتیګرال او مشتق لومړی اساسي قضیه:

که چیرې د $f(x)$ تابع د $[a,b]$ په انټروال کې متمادي وي او x په دی انټروال کې شامل وي، لرو چې:

$$F(x) = \int_a^x f(t)dt$$

څرنګه چې د $f(x)$ تابع په $[a,b]$ انټروال کې مشتق منونکې ده، نو د هر $x \in [a,b]$ لپاره $F'(x) = f(x)$ دی.

ثبوت: څرنګه چې د $f(x)$ تابع په $[a,b]$ انټروال کې متمادي ده، نو د هر $x \in [a,b]$ لپاره د $f(x)$ تابع په $[a,x]$ انټروال کې متمادي ده په پایله کې د $f(x)$ تابع په دې انټروال کې انتیګرال منوونکې هم ده.

اوس د $F(x)$ تابع مشتق د تعریف مطابق لیکو او بیا د x متحول ته د h په اندازه تزاید ورکوو، لکه په لاندې ډول:

$$F'(x) = f(x)$$

$$F'(x) = \lim_{h\to 0}\frac{F(x+h)-F(x)}{h} = \lim_{h\to 0}\frac{F(x+h)-F(a)+F(a)-F(x)}{h}$$

$$F'(x) = \lim_{h\to 0}\frac{F(x+h)-F(a)-(F(x)-F(a))}{h} = \lim_{h\to 0}\frac{F(x)\Big|_a^{x+h} - F(x)\Big|_a^x}{h}$$

(c) ketabton.com: The Digital Library

اوس د $f(x)$ تابع په $f(t)$ عوض کوو:

$$F'(x)=\lim_{h\to 0}\frac{F(t)\Big|_a^{x+h}-F(t)\Big|_a^{x}}{h}$$

$$F'(x)=\lim_{h\to 0}\frac{\int_a^{x+h} f(t)\,dt-\int_a^{x} f(t)\,dt}{h}$$

نظر دریم خاصیت ته لرو چې: $\int_a^b f(t)\,dt=-\int_b^a f(t)\,dt$

$$F'(x)=\lim_{h\to 0}\frac{\int_a^{x+h} f(t)\,dt-\int_a^{x} f(t)\,dt}{h}$$

$$F'(x)=\lim_{h\to 0}\frac{\int_x^{a} f(t)\,dt+\int_a^{x+h} f(t)\,dt}{h}=\lim_{h\to 0}\frac{\int_x^{x+h} f(t)\,dt}{h}$$

د متوسط قیمت د قضیې څخه $f(c)=\frac{1}{h}\int_x^{x+h} f(t)\,dt$ چې c د x او $x+h$ تر منځ واقع دی، نو کله چې h صفر ته تقرب وکړي c ، x ته تقرب کوي، همدارنګه د f تابع له متمادیت څخه لرو:

$$F'(x)=\lim_{h\to 0}\frac{1}{h}\int_x^{x+h} f(t)dt=\lim_{c\to x} f(c)=f(x)$$

په پایله کې: $F'(x)=f(x)$

مثال: د $f(x)=\int_2^{x^2+1}\frac{1}{t^2+1}$ مشتق پیدا کړئ.

حل:

$$F(x)=\int_a^x f(t)\,dt \text{ یا } F(x)=\int_a^{g(x)} f(t)\,dt$$

$$u=g(x)=x^2+1$$

$$f(t)=\frac{1}{t^2+1}$$

د زنځیري قاعدې له مخې لرو:

$$F'(x)=f(g(x))\cdot g'(x)$$

$$F'(x)=\frac{1}{(x^2+1)^2+1}\cdot(x^2+1)'=\frac{1}{(x^2+1)^2+1}\cdot 2x$$

$$F'(x)=\frac{2x}{(x^2+1)^2+1}$$

(c) ketabton.com: The Digital Library

2- د انتيګرال او مشتق دويمه اساسي قضيه:

که چيرې $F(x)$ د $f(x)$ تابع لومړنی تابع په $[a,b]$ انټروال کې متمادي وي، په دې صورت کې لرو چې:

$$\int_a^b f(t)\,dt = F(b) - F(a)$$

ثبـــوت: د مخکينـی قـضيې څخـه پـوهېږو چـې کـه $F(x) = \int_a^x f(t)dt$ دی لـه دې ځايـه د هر $x \in [a,b]$ لپاره $F'(x) = f(x)$ نو د دې دوو مقدارونو خلاف يو ثابت مقدار شته چې:

$$f(x) - F(x) = \quad \Rightarrow f(x) = F(x) +$$

$$F(x) = \int_a^x f(t)dt$$

$$F'(x) = f(x)$$

$$\int_a^x f(t)dt = f(x) = F(x) +$$

$$\int_a^x f(t)\,dt - F(x) =$$

که د x په ځای په پورتنی رابطه کې a وضع کړو، نو:

$$\int_a^a f(t)\,dt - F(a) = \quad , \quad 0 - F(a) = \quad \Rightarrow \quad = -F(a)$$

که د قيمت په لومړی رابطه کې وضع کړو، نو: $\int_a^x f(t)dt - F(x) = -F(a)$

که د x په ځای په دې رابطه کې b وضع شي، نو: $\int_a^b f(t)dt = F(b) - F(a)$

چې اخيری رابطه په $\int_a^b f(t)\,dt = [F(x)]_a^b$ په شکل ښودل کېږي دغه وروستی اړيکه د لومړنی تابع او $\int_a^b f(t)\,dt$ انتيګرال ترمنځ اړيکه ښيي، چې د نيوټن"لايبنز" رابطې په نوم هم يادېږي.

يادونه:

$$\int \sin x\,dx = -\cos x + c$$

$$\int \cos x\,dx = \sin x + c$$

$$\int \sec^2 x\,dx = \tan x + c$$

$$\int \operatorname{cosec}^2 x\,dx = -\cot x + c$$

(c) ketabton.com: The Digital Library

(c) ketabton.com: The Digital Library

مثال: د $\int_0^1 x^2 dx$ انتيګرال حاصل پيداکړئ.

حل:

$$\int_0^1 x^2 dx = F(1) - F(0) = [\frac{x^3}{3}]_0^1 = \frac{1}{3}\cdot 1^3 - \frac{1}{3}\cdot 0^3 = \frac{1}{3}$$

پوښتني

1. **لاندې مشتقات پيداکړئ.**

$a)\ F(t) = \int_{\sin t}^{\cos t} \frac{1}{4-x^2} dx$

$b)\ F(t) = \int_0^{\cos t} \frac{1}{4-x^2} dx$

$c)\ F(t) = \int_{-\pi}^{t} \frac{\cos y}{1+y^2} dy$

$d)\ F(x) = \int_1^{x} \frac{\sin t}{t} dt$

2. **که په** $f(t) = t$ **تابع کې** $F(0) = 2$ **وي، د** $F(b)$ مقدار په $0, 0.2, 0.4, \ldots, 1$ ټکو کې پيداکړئ.

3. $\int_0^{\frac{\pi}{2}} \sin x\, dx$ پيداکړئ.

11- په تعویضي طریقې سره انتیګرال نیونه

ـ آیا کولای شئ چې مخامخ انتیګرال د نامعین انتیګرال له خواصو څخه په کار اخیستنې سره حل کړئ.

ـ که نه شی کولای، نو د جذر لاندې افاده په یوه متحول سره عوض کړئ او بیا هغه حساب کړئ او ووایئ چې په انتیګرال کې د وضع کولو دا طریقه په څه نوم یادیږي.

$$\int 2x\sqrt{1+x^2}\,dx$$

فعالیت

- د $\int_0^4 \sqrt{2x+1}\,dx$ انتیګرال کې د جذر لاندې افاده په u سره عوض کړئ.
- د u مشتق ونیسئ او د dx قیمت پیدا کړئ.
- څرنګه چې نوموړی انتیګرال یو معین انتیګرال دی، نو د $u = 2x+1$ په معادله کې د $x = 0$ او $x = 4$ قیمتونه وضع او د انتیګرال سرحددونه د u له جنسه په لاس راوړئ، وروسته د انتیګرال قیمت محاسبه کړئ.

له پورتني فعالیت څخه لاندې پایلې ته رسیږو:

که د $f(x)$ تابع په $[a,b]$ انټروال کې مشتق منونکې وي، $u = g(x)$ او $F'(x) = f(x)$ سره تعویض شي، څرنګه چې $du = g'(x)dx$ دی، له زنځیري قاعدې څخه لیکلای شو:

$$\int_a^b f(g(x))\,g'(x)\,dx = \int_{g(a)}^{g(b)} f(u)\,du$$

لومړی مثال: د $\int_1^2 \frac{dx}{(3-5x)^2}$ انتیګرال قیمت پیدا کړئ.

(c) ketabton.com: The Digital Library

حل: د قوس دننه افاده په u عوض کوو:

$$u = 3-5x \ , \quad du = -5\,dx \qquad dx = -\frac{du}{5}$$

$$\begin{cases} x = 1 \\ u = 3-5x \Rightarrow u = 3-5\cdot 1 = -2 \Rightarrow u = -2 \end{cases}$$

$$\begin{cases} x = 2 \\ u = 3-5x \Rightarrow u = 3-5\cdot 2 = 3-10 \Rightarrow u = -7 \end{cases}$$

$$\int_1^2 \frac{dx}{(3-5x)^2} = \int_{-2}^{-7} \frac{1}{u^2}\left(-\frac{1}{5}\right) du = -\frac{1}{5}\int_{-2}^{-7} \frac{du}{u^2} = -\frac{1}{5}\left[-\frac{1}{u}\right]_{-2}^{-7} = \left[\frac{1}{5u}\right]_{-2}^{-7} = \frac{1}{5}\left[-\frac{1}{7}+\frac{1}{2}\right] = \frac{1}{14}$$

دویم مثال: د $\int_0^1 x^2(1+2x^3)^5\,dx$ انتیگرال حساب کړئ.

حل: د قوس دننه افاده په u عوض کوو.

$$u = 1+2x^3 \quad , \quad du = 6x^2\,dx \Rightarrow x^2 dx = \frac{1}{6}du$$

$$\begin{cases} x = 0 \\ u = 1+2x^3 \Rightarrow u = 1+2\cdot 0 = 1 \Rightarrow u = 1 \end{cases}$$

$$\begin{cases} x = 1 \\ u = 1+2x^3 \Rightarrow u = 1+2\cdot 1 = 3 \Rightarrow u = 3 \end{cases}$$

$$\int_0^1 x^2(1+2x^3)^5\,dx = \int_1^3 u^5 \frac{1}{6}\cdot du = \frac{1}{6}\int_1^3 u^5 du = \frac{1}{6}\left[\frac{u^6}{6}\right]_1^3 = \frac{1}{6}\left[\frac{3^6}{6}-\frac{1}{6}\right]$$

$$= \frac{1}{6}\left[\frac{729}{6}-\frac{1}{6}\right] = \frac{1}{6}\left[\frac{728}{6}\right]$$

$$= \frac{728}{36} = \frac{182}{9} = 20.\overline{2}$$

فعالیت

- د $\int x^2\sqrt{x^3+1}\,dx$ انتیگرال کې د جذر لاندې افاده د u په متحول سره تعویض کړئ.
- له u څخه مشتق ونیسئ او په لاس راغلې قیمت په لومړني انتیگرال کې وضع او هغه حساب کړئ.

(c) ketabton.com: The Digital Library

- د پورته ښخه د $F(x)+C$ په لاس راغلي تابع ښخه مشتق ونيسئ او د هغې ښخه لومړنی تابع په لاس راوړئ.

له پورتني فعاليت ښخه لاندې پايله په لاس راځي:

که د $F(u)$ تابع د $f(u)$ لومړنی تابع وي، د $u=g(x)$ د متحول په تعويض سره يوه بله تابع چې مستقل متحول يې x او متمادي مشتق ولري له زنځيري قاعدې ښخه په کاراخيستنې سره لرو:

$$\int f(g(x))g'(x)\,dx = \int f(u)\,du$$

لومړی مثال: $\int \frac{x}{\sqrt{1-4x^2}}\,dx$ انتيګرال حساب کړئ.

حل: د جذر لاندې افاده په u سره عوض کوو.

$$u=1-4x^2 \ , \ du=-8x\,dx$$

$$xdx=-\frac{1}{8}du$$

$$\int \frac{x}{\sqrt{1-4x^2}}\,dx=\int \frac{1}{\sqrt{u}}(-\frac{1}{8})\,du=-\frac{1}{8}\int \frac{1}{\sqrt{u}}\,du=-\frac{1}{8}\int u^{-\frac{1}{2}}\,du=-\frac{1}{8}(\frac{u^{-\frac{1}{2}+1}}{-\frac{1}{2}+1})+C$$

$$=-\frac{1}{8}(\frac{u^{\frac{1}{2}}}{\frac{1}{2}})+C=-\frac{1}{8}(\frac{\sqrt{u}}{\frac{1}{2}})+C=-\frac{1}{8}(2\sqrt{u})+C=-\frac{1}{4}\sqrt{1-4x^2}+C$$

دويم مثال: $\int x^3\cos(x^4+2)dx$ حساب کړئ.

حل: که چېرې $u=x^4+2$ وضع کړو په لاس راځي:

$$u=x^4+2 \ , \ du=4x^3dx \ , \ x^3dx=\frac{1}{4}du$$

$$\int x^3\cos(x^4+2)\,dx=\int \cos u\cdot\frac{1}{4}du$$

$$=\frac{1}{4}\int \cos u\,du$$

$$=\frac{1}{4}\sin u+C$$

$$=\frac{1}{4}\sin(x^4+2)+C$$

(c) ketabton.com: The Digital Library

(c) ketabton.com: The Digital Library

پوښتنې

لاندې انتیګرالونه د تعویض له لارې محاسبه کړئ.

$a)\ \int \cos 3x\,dx = ?$

$b)\ \int_1^2 x\sqrt{x-1}\ dx = ?$

$c)\ \int_0^7 \sqrt{4+3x}\ dx = ?$

$d)\ \int 2\sqrt[5]{(1-4x)^2}\,dx = ?$

$e)\ \int 2x(x^2+3)^4\,dx = ?$

$f)\ \int_0^5 \frac{x\,dx}{x^2+10} = ?$

$g)\ \int \sqrt{\cos x}\ \sin x\ dx = ?$

12- قسمي انتیګرالونه

د میتوز د سلول ویش، د مور د هر سلول څخه، وروسته د میتوز د سلولي ویش څخه، دوه نور سلولونه جوړیږي

د حجروي ویش په وخت کې یوه حجره په دوو یا څو حجرو وېشل کېږي. ایا کولای شئ دا لاره(روش) په نورو شیانو کې لکه: تېږه، شګه او نورو کې ووینو که څواب هو وي، نو دا لاره د څه په نامه یادېږي.

فعالیت

- د $\int \frac{xdx}{x^2+1}$ انتیګرال په تعویضي طریقه حل کړئ.
- د $\int_{-1}^{1} 3x^2\sqrt{x^3+1}dx$ انتیګرال قیمت په تعویضي طریقه پیدا کړئ.
- **آیا کولای شی چې د** $\int x^2 \sin xdx$ انتیګرال په تعویضي طریقه وشمېرئ.

له پورتني فعالیت څخه دې پایلې ته رسېږو:

د $\int f(x)g(x)dx$ په انتیګرال کې $f(x)$ او $g(x)$ دوې مشتق منونکی تابعګانې دي چې یوه له بلې سره د ضرب ور وي یا نه وي، خو د انتیګرال محاسبه یې اسانه کار نه دی، که چیرې $f(x)=u$ او $g(x)=v$ وضع کړو، د ضرب حاصل مشتق یې مساوي په: $(u\cdot v)'=u'v+v'u$ دی.

له پورتنی رابطې څخه $v'u$ په لاس راوړو اوله اطراف څخه انتیګرال نیسو:

$$v'\cdot u=(u\cdot v)'-u'\cdot v$$

$$\int v'\cdot u\ dx=u\cdot v-\int u'\cdot v\ dx \quad \text{یا} \quad \int udv=u\cdot v-\int vdu$$

چې پورتنی رابطې ته د غیرمعین انتیګرال فورمول په قسمي طریقه وایي.

که د u او v تابعګانې په $[a,b]$ انټروال کې تعریف شوي وي، لاندی فورمول د معین انتیګرال فورمول په قسمي لاره(طریقه) بلل کېږي.

$$\int_a^b v'u\,dx=u\cdot v\,\Big|_a^b-\int_a^b vu'\,dx \quad \text{یا} \quad \int_a^b udv=u\cdot v\,\Big|_a^b-\int_a^b vdu$$

(c) ketabton.com: The Digital Library

لومړی مثال: د $\int x\sin x\,dx$ انتیگرال پیداکړئ.

حل:

$$u = x \quad , \quad du = dx$$
$$dv = \sin x\,dx \quad , \quad v = -\cos x$$
$$\int u\,dv = u\cdot v - \int v\,du$$
$$\int x\sin x\,dx = x(-\cos x) - \int -\cos x\,dx$$
$$= -x\cos x + \sin x + C$$

دویم مثال: د $\int_0^1 -xe^x\,dx$ انتیگرال حساب کړئ.

حل:

یادونه: $\int e^x\,dx = e^x + c$

$$u = -x \quad , \quad du = -dx \quad , \quad -du = dx$$
$$dv = e^x dx \quad , \quad v = e^x$$
$$\int_a^b v'\cdot u\,dx = u\cdot v\,\Big|_a^b - \int_a^b v\cdot u'\,dx$$
$$\int_0^1 -xe^x\,dx = [-xe^x]_0^1 + \int_0^1 e^x dx$$
$$= -e^1 + 0\cdot e^0 + [e^x]_0^1$$
$$= -e^1 + e^1 - e^0 \quad = -e^0$$
$$= -1$$

پوښتني

لاندي انتیگرالونه حساب کړئ.

a) $\int \theta\cos\theta\,d\theta = ?$

b) $\int_0^{\frac{\pi}{2}} x\cos 2x\,dx = ?$

c) $\int x^5\cos(x^3)\,dx = ?$

d) $\int_0^1 xe^x\,dx = ?$

(c) ketabton.com: The Digital Library

د خپرکي مهم ټکي

د ریمان مجموعه: فرضوو د $y=f(x)$ تابع په $[a,b]$ انټروال کې متمادي او تعریف شوی وي او د ناحیې مساحت چې د x محور او د $y=f(x)$ منحني ترمنځ واقع دی چې په هندسي شکلونو نه شي بدلېدلای، محاسبه کړو.

د $[a,b]$ انټروال چې په n مستطیلو نو تقسیموو خرنګه چې د هر مستطیل عرض د $(\Delta x=\frac{b-a}{n})$ رابطې څخه په لاس راځي او د مستطیلونو طول عبارت دی د تابع قیمت په هم هغه ټکي کې، دا فاصلې په لاندې ډول دي:

او د مستطیلونو انټروالونه د $i=1,2,3,\ ....,n$ لپاره په لاندې ډول دي:

$$x_0=a\quad,\quad x_1=a+\Delta x\quad,\quad x_2=a+2\Delta x,\ \dots\ ,x_i=a+i\Delta x,\ \dots\ ,x_n=b$$

$$[x_0,x_1]\ ,\ [x_1,x_2]\ ,\ [x_2,x_3],\ \dots\ ,[x_{i-1},x_i],\ \dots\ ,[x_{n-1},x_n]$$

که د لاندینیو مستطیلونو مساحت په $f(x_{i-1})\Delta x$ او د پورتنیو مستطیلونو مساحت په $f(x_i)\Delta x$ وښودل شي او د محصور شوي سطحې مساحت په A وښیو، نو لرو چې:

$$\sum_{i=1}^{n} f(x_{i-1})\Delta x < A < \sum_{i=1}^{n} f(x_i)\Delta x$$

نامعین انټیګرالونه: که چیرې د $f(x)$ تابع په $[a,b]$ انټروال کې تعریف او $F(x)$ د $f(x)$ یوه لومړنی تابع وي. د $F(x)+C$ توابعو سټ چې c یو ثابت عدد وي د غیرمعین انټګرال په نامه یادېږي او داسې لیکل کېږي: $\int f(x)dx=F(x)+C$

د نامعین انټیګرالونو خواص(ځانګړتیاوې):

$$\int dx = \int dx = x+C$$

$$\int a\, f(x)\,dx = a\int f(x)\,dx$$

$$\int [f(x)\pm g(x)]dx = \int f(x)\,dx \pm \int g(x)\,dx$$

$$\int [f_1(x)+f_2(x)+\dots+f_n(x)]dx = \int f_1(x)dx+\int f_2(x)dx+\dots+\int f_n(x)dx$$

$$\int [f(x)\cdot g(x)]\,dx \neq \int f(x)dx\cdot\int g(x)\,dx$$

$$\int \frac{f(x)}{g(x)}dx \neq \frac{\int f(x)dx}{\int g(x)dx}\quad,\ g(x)\neq 0$$

(c) ketabton.com: The Digital Library

(c) ketabton.com: The Digital Library

معین انتیګرال: د $f(x)$ تابع د ریمان مجموعي لېمیټ ته په $[a,b]$ انټروال کې کله چې n بې‌نهایت ته نږدې شي د Δx فرعي انټروالونو اوږدوالی صفر ته نږدې کېږي، چې د $f(x)$ تابع ټاکلی انتیګرال د $x=a$ څخه تر $x=b$ پورې په نوم یادېږي.

$$\lim_{n\to\infty}\sum_{i=1}^{n} f(x_i)\Delta x=\int_a^b f(x)dx=\left[F(x)\right]_a^b=F(b)-F(a)$$

a ته د انتیګرال لاندینی سرحد او b ته د انتیګرال پورتنی سرحد وایي.

د معین انتیګرال خواص(ځانګرتیاوې):

$$\int_a^b C\,dx=C(b-a)$$

$$\int_a^b f(x)dx=\int_a^b f(x)dx$$

$$\int_a^b f(x)\,dx=-\int_b^a f(x)\,dx$$

$$\int_a^a f(x)\,dx=0$$

$$\int_a^b [f(x)\pm g(x)]dx=\int_a^b f(x)\,dx\pm\int_a^b g(x)\,dx$$

$$\int_a^b f(x)\,dx=\int_a^c f(x)\,dx+\int_c^b f(x)\,dx$$

$$f(x)\le g(x)\quad\Rightarrow\quad\int_a^b f(x)\,dx\le\int_a^b g(x)\,dx$$

$$m(b-a)\le\int_a^b f(x)\,dx\le M(b-a)$$

$$\int_a^b f(x)\,dx=f(c)(b-a)\quad\Rightarrow\quad f(c)=\frac{1}{b-a}\int_a^b f(x)\,dx$$

د انتيګرال او مشتق لومړی اساسي قضيه:

که چيرې د $f(x)$ تابع په $[a,b]$ انټروال کې متمادي وي او x په دې انټروال کې شامل وي، لرو چې:

$$F(x)=\int_a^x f(t)dt$$

څرنګه چې د $f(x)$ تابع په $[a,b]$ انټروال کې د مشتق وړ ده، نو د هر $x\in[a,b]$ لپاره $F'(x)=f(x)$ دی.

د انتيګرال او مشتق دويمه اساسي قضيه:

- که چيرې $F(x)$ تابع د $f(x)$ لومړنی تابع په $[a,b]$ انټروال کې متمادي وي، په دې صورت کې لرو چې:

$$\int_a^b f(t)\,dt=F(b)-F(a)$$

- که $F(u)$ د $f(u)$ لومړنی تابع وي او د $u=g(x)$ متحول سره تعويض شي چې مستقل متحول يې x او متمادي مشتق ولري. د زنځيری قاعدې څخه په کار اخيستنې سره لرو:

$$\int f(g(x))g'(x)\,dx=\int f(u)\,du$$

- که $F(x)$ تابع په $[a,b]$ انټروال کې د مشتق منونکي وي، او $u=g(x)$ همدارنګه $F'(x)=f(x)$ سره تعويض شي، څرنګه چې $du=g'(x)dx$ دی، له زنځيری قاعدې څخه ليکلای شو:

$$\int_a^b f(g(x))\,g'(x)\,dx=\int_{g(a)}^{g(b)} f(u)\,du$$

- د $\int f(x)g(x)dx$ انتيګرال کې $f(x)$ او $g(x)$ دوې مشتق منونکي تابعګاني وي چې په خپل منځ کې قابل د ضرب وي او يا نه وي، خو د انتيګرال محاسبه يې آسانه کار نه دی، که چيرې $f(x)=u$ او $g(x)=v$ سره عوض شي، د هغوی د حاصل ضرب مشتق عبارت دی له:

$$(u\cdot v)'=u'\cdot v+v'\cdot u$$

(c) ketabton.com: The Digital Library

له پورتني اړيکې څخه $v'\cdot u$ په لاس راوړو او له دواړو خواوو څخه انتیگرال نیسو:

$$\int u\,dv = u\cdot v - \int v\,du \quad \text{یا} \quad \int v'\cdot u\,dx = u\cdot v - \int u'\cdot v\,dx$$

چې اخیری اړیکې ته د غیر معین انتیگرال فورمول په قسمي طریقه وایي.

- که د u او v تابگانې په $[a,b]$ انټروال کې تعریف شوی وي لاندې فورمول، د معین انتیگرال فورمول په قسمي لاره(طریقه) بلل کیږي:

$$\int_a^b u\,dv = u\cdot v\,\Big|_a^b - \int_a^b v\,du \quad \text{یا} \quad \int_a^b v'u\,dx = u\cdot v\,\Big|_a^b - \int_a^b vu'\,dx$$

(c) ketabton.com: The Digital Library

د څپرکي پوښتنې

1- د لاندې ټاکلو انتيګرالونو قيمت پيدا کړئ.

$a)\ \int_{0}^{\frac{\pi}{4}} \frac{1}{1+x^2}dx$ $\quad b)\ \int_{-4}^{4}[2x^2-\frac{1}{8}x^4]dx$ $\quad c)\ \int_{2}^{4}\frac{1}{x^2}dx$

$d)\ \int_{0}^{3}4dx$ $\quad e)\ \int_{1}^{3}\sqrt{x}\,dx$ $\quad f)\ \int_{1}^{2}(x^2-x^5)\,dx$

$g)\ \int_{\frac{\pi}{6}}^{\frac{\pi}{6}}\frac{1}{\cos^2 x}dx$ $\quad h)\ \int_{-2}^{0}[\frac{x^3}{4}+\frac{x^2}{3}]dx$ $\quad i)\ \int_{2}^{3}(x^3+x^2)dx$

$)\ \int_{-2}^{2}[x^3-\frac{1}{2}x^2+3x-4]dx$ $\quad)\ \int_{0}^{\pi}\sin x dx$ $\quad l)\ \int_{1}^{2}x^2\,dx$

2- لاندې غير معين انتګرالونه حل کړئ.

$a)\ \int[\sin x+8x^3]dx$ $\quad b)\ \int[x^5+\frac{4}{x^4}+x^3+\frac{2}{x^2}+x]dx$

$c)\ \int x(1-2x^2)\,dx$ $\quad d)\ \int \sin x\,dx$

$e)\ \int\frac{\sin 2x}{2\sin x}dx$ $\quad f)\ \int\frac{(1-x)^2}{1-x}dx$

$g)\ \int\sqrt[5]{x^3}\,dx$ $\quad h)\ \int\frac{3x^2+8x}{x}dx$

$i)\ \int\left(2x^2+3\right)dx$ $\quad)\ \int\frac{1}{\sqrt{x^3+2}}dx$

$)\ \int\frac{(1+x)(1-x)}{x-x^3}dx$ $\quad l)\ \int(3x^2+4x-1)\,dx$

3- د لاندې محصور شوې سطحې مساحت د شکل له مخې پيدا کړئ.

$\int_{-1}^{2}(2x+3)\,dx$

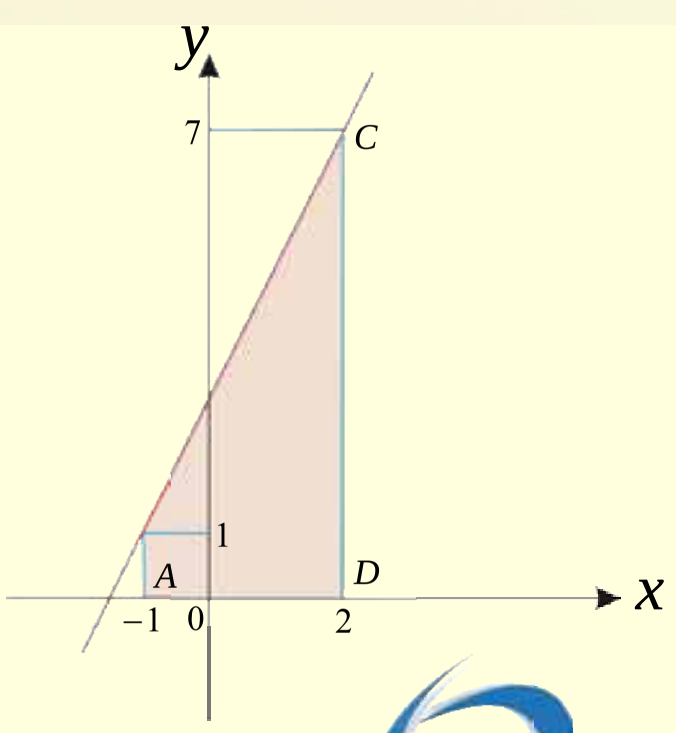

(c) ketabton.com: The Digital Library

4- لاندې انتیګرالونه د تعویضي طریقې په مرسته پیدا کړئ.

a) $\int 3\cos(2x+1)\,dx$

b) $\int \sqrt{3x+5}\,dx$

c) $\int \frac{2\,dx}{x+2}$

d) $\int (3x+6)^3\,dx$

e) $\int x^3\sqrt{x^4+2}\,dx$

f) $\int (x^3+2)^2 3x^2 dx$

g) $\int_0^2 \frac{dt}{(3-2t)^2}$

h) $\int_0^2 x^2\cdot\sqrt{9-x^3}\,dx$

i) $\int \frac{1}{(x-10)^7}dx$

) $\int_0^1 (1-x^2)^3 x dx$

) $\int (4-3x)^7 dx$

l) $\int \frac{x^2 dx}{\sqrt[4]{x^3+2}}$

5- لاندې انتیګرالونه د قسمي طریقې په مرسته پیدا کړئ.

a) $\int x\cos x\,dx$

b) $\int_0^{\pi} \sin x\cos x\,dx$

c) $\int e^x\cdot\cos x\,dx$

d) $\int_0^{2\pi} x\cos 3x\,dx$

e) $\int xe^{-x}dx$

f) $\int x\sqrt{1+x}\,dx$

g) $\int x^2\cdot e^{2x}dx$

h) $\int e^{2x}\sin 3x\,dx$

i) $\int x^2\cdot e^{-x}\,dx$

(c) ketabton.com: The Digital Library

پنځم څپرکی

د لوګاریتمي او اکسپوننشیل تابعګانو مشتق او انتیګرال

(c) ketabton.com: The Digital Library

(c) ketabton.com: The Digital Library

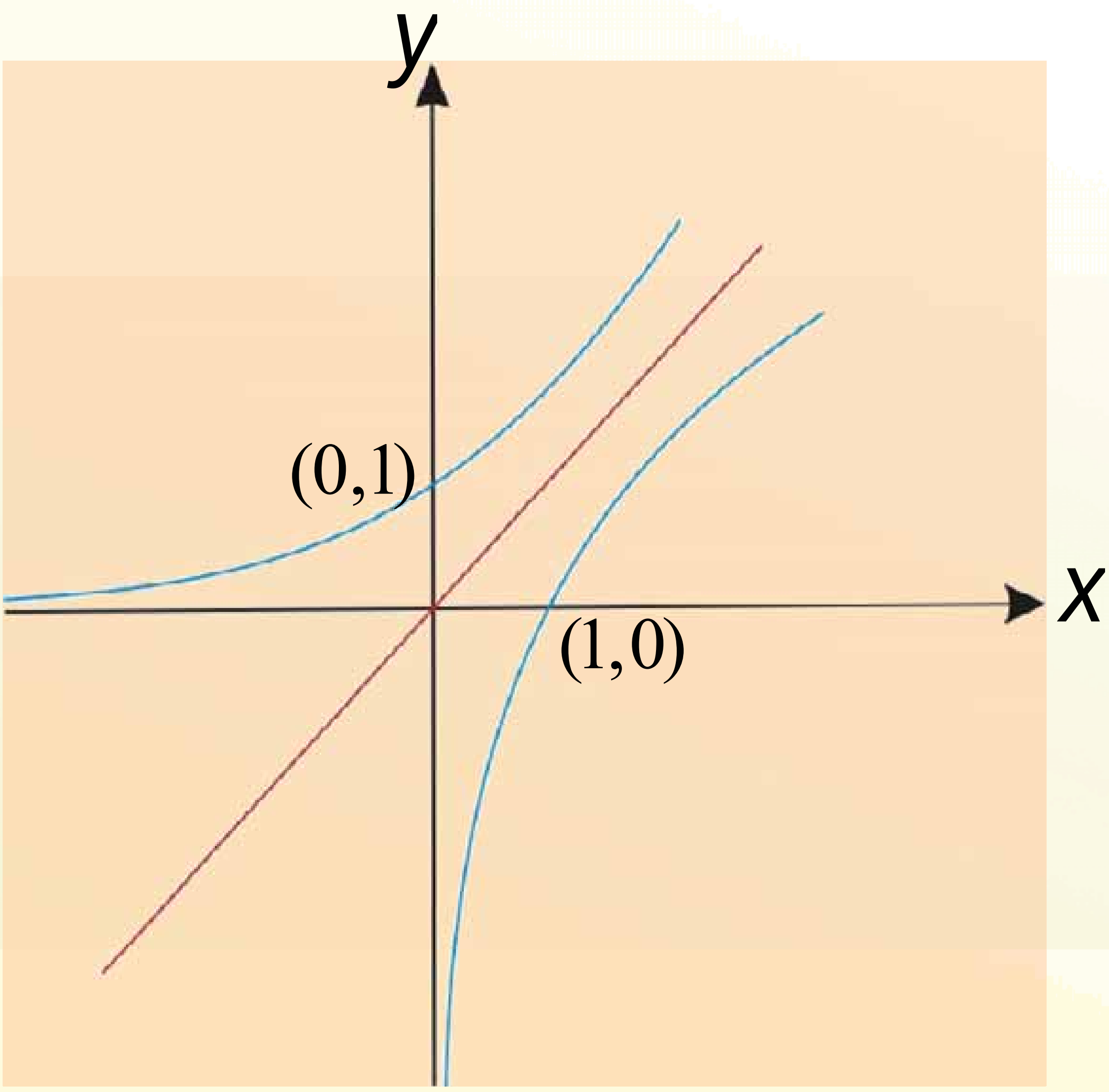

د لوګاریتمي او اکسپوننشیل تابعګانو مشتق

مخامخ شکل د څه ډول تابعګانو ګراف راښیي، نومونه یې واخلئ.

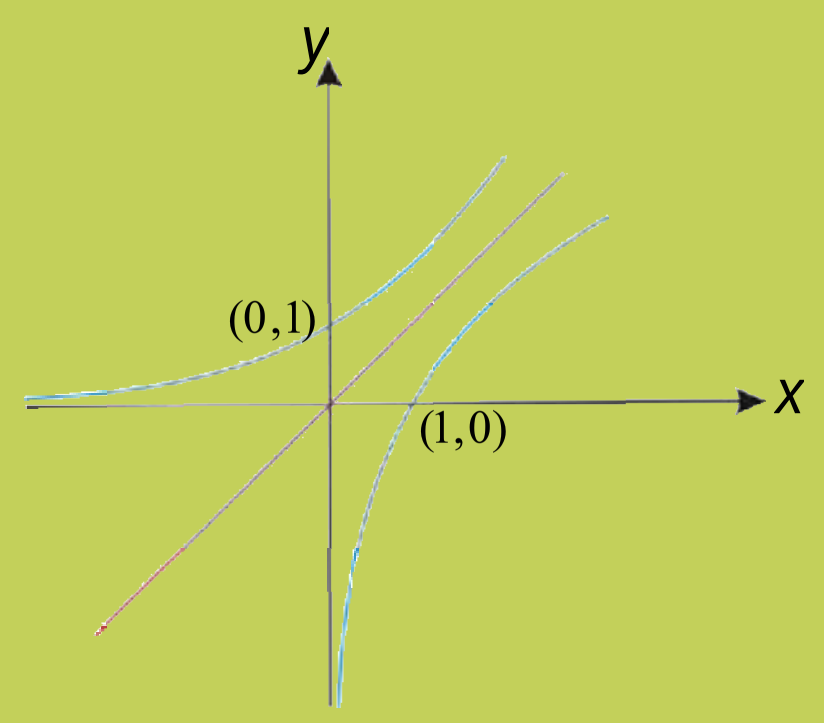

فعالیت

- لوګاریتم تعریف او خواص یې ولیکئ.
- لوګاریتمي او اکسپوننشیل تابعګانې یوه له بلې سره څه اړیکې لري.
- که $\log_b x$ یوه متصله تابع وي، نو $\lim_{x\to 0}(1+x)^{\frac{1}{x}}$ له کوم عدد سره مساوي ده.
- د $y = f(x)$ د تابع له دواړو خواوو څخه طبیعي لوګاریتم ونیسئ، اړیکه یې ولیکئ.

د پورتني فعالیت پایله داسې بیانوو:

په عمومي ډول که $f(x) = \ln x$ او $g(x) = a^x$ وي؛ نو $g'(x) = a^x \ln a$ او $f'(x) = \frac{1}{x}$ دی.

ثبوت:

-1

$$y = g(x) = a^x$$
$$\ln y = \ln a^x = x \ln a$$

د مساوات له دواړو خواوو څخه نظر x ته مشتق نیسو:

$$\frac{y'}{y} = x' \ln a + x(\ln a)'$$
$$\frac{y'}{y} = \ln a + 0$$
$$\frac{1}{y} y' = \ln a$$
$$y' = y \ln a \quad \Rightarrow \quad g'(x) = a^x \ln a$$

(c) ketabton.com: The Digital Library

(c) ketabton.com: The Digital Library

-2

$$f(x)=\ln x$$

$$(\ln x)'=\lim_{h\to 0}\frac{\ln(x+h)-\ln x}{h}=\lim_{h\to 0}\frac{\ln\frac{x+h}{x}}{h}$$

$$(\ln x)'=\lim_{h\to 0}\frac{1}{h}\ln(\frac{x+h}{x})=\lim_{h\to 0}\frac{1}{h}\ln(1+\frac{h}{x})\ =\frac{1}{x}\lim_{h\to 0}\frac{x}{h}\ln(1+\frac{h}{x})$$

$$=\frac{1}{x}\lim_{h\to 0}\ln(1+\frac{h}{x})^{\frac{x}{h}}$$

که $u=\frac{x}{h}$ وضع شي نو $\frac{1}{u}=\frac{h}{x}$ دی خرنگه چې $h\to 0$ تقرب وکړي نو $u\to\infty$ ته نږدی کېږي،

لیکلای شو چې:

$$(\ln x)'=\frac{1}{x}\lim_{u\to\infty}\ln(1+\frac{1}{u})^{u}=\frac{1}{x}\ln\lim_{u\to\infty}(1+\frac{1}{u})^{u}$$

پوهیږو چې $\lim_{u\to\infty}(1+\frac{1}{u})^{u}=e$ دی، نو: $(\ln x)'=\frac{1}{x}\ln e=\frac{1}{x}$

قضیه

1. که د $f(x)=\log_a x$ تابع مشتق منوونکی وي؛ نو مشتق یې $f'(x)=\frac{1}{x}\log_a e$
2. که $f(x)=\log_a g(x)$ او $g(x)$ مشتق منوونکی وي، نو $(\log_a g(x))'=\frac{g'(x)}{g(x)}\log_a e$

ثبوت:

-1

$$f(x)=\log_a x\quad\Rightarrow\quad f'(x)=\frac{1}{x}\log_a e$$

$$f'(x)=\lim_{x\to 0}\frac{\log_a(x+h)-\log_a x}{h}$$

$$=\lim_{h\to 0}\frac{1}{h}\log_a\frac{x+h}{x}=\lim_{h\to 0}\frac{1}{h}\log_a(1+\frac{h}{x})=\lim_{h\to 0}\frac{1}{x}\cdot\frac{x}{h}\log_a(1+\frac{h}{x})=\frac{1}{x}\lim_{h\to 0}\log_a(1+\frac{h}{x})^{\frac{x}{h}}$$

$$(\log_a x)'=\frac{1}{x}\log_a\lim_{h\to 0}(1+\frac{h}{x})^{\frac{x}{h}}$$

اوس که $\frac{x}{h}=u$ وضع شي نو $\frac{1}{u}=\frac{h}{x}$ کېږي، که $h\to 0$ صفر ته تقرب وکړي، نو $u\to\infty$ کوي، یعنې:

$$(\log_a x)'=\frac{1}{x}\log_a\lim_{u\to\infty}(1+\frac{1}{u})^{u}=\frac{1}{x}\log_a e$$

2- غواړو ثبوت کړو چې: $(\log_a g(x))' = \frac{g'(x)}{g(x)}\log_a e$

د زنځيري قاعدې له مخې:

$$f'(x) = (\log_a g(x))' = (\log_a g(x))' \cdot g'(x) = \frac{1}{g(x)}\log_a e \cdot g'(x)$$
$$= \frac{g'(x)}{g(x)}\log_a e$$

که $a = e$ وضع شي؛ نو لرو: $(\log_a g(x))' = (\ln g(x))' = \frac{g'(x)}{g(x)}$

پايله:

1- د Exponential تابعگانو مشتق د لوگاریتم په مرسته کولای شو په اسانی سره په لاس راوړو.

که $y = e^x$ وي ددې تابع مشتق $y' = e^x$ دی څکه که د $y = e^x$ رابطې څخه طبيعي لوگاریتم ونيسو، په لاس راځي:

$$y = e^x \Rightarrow \ln y = x\ln e = x$$
$$(\ln y)' = (x)' \Rightarrow \frac{y'}{y} = 1 \Rightarrow y' = y \cdot 1 = e^x$$

2-که $y = e^u$ او u تابع د x وي، نو: $y' = u'e^u$

3-که $y = a^u$ کله چې $a > 0$ او $a \neq 1$ وي، نو: $y' = u'a^u \ln a$

4- د لوگاریتمي تابعگانو د مشتق پيداکولو لپاره په بيلابيلو قاعدو سره له دې اړيکې څخه گټه اخلو:

$$y = \log_a u \Rightarrow y' = (\log_a u)' = \frac{u'}{u}\log_a e$$
$$y' = \frac{u'}{u}\log_a e = \frac{u'}{u} \cdot \frac{1}{\log_e a} \Rightarrow y' = \frac{(\ln u)'}{\ln a} = \frac{u'}{u\ln a}$$

لومړی مثال: د $f(x) = \ln(x^2+1)$ تابع مشتق پيداکړئ.

حل: که $g(x) = x^2+1$ وضع کړو، نو لرو:

$$g(x) = x^2+1$$
$$g'(x) = 2x$$
$$(\ln g(x))' = \frac{g'(x)}{g(x)}$$
$$(\ln(x^2+1))' = \frac{(x^2+1)'}{x^2+1} = \frac{1}{x^2+1} \cdot 2x \Rightarrow f'(x) = (\ln(x^2+1))' = \frac{2x}{x^2+1}$$

(c) ketabton.com: The Digital Library

دویم مثال: د $f(x)=\ln(x^2-5x+4)$ تابع مشتق پیدا کړئ.

حل:

$$\left.\begin{array}{l} f(x)=\ln(x^2-5x+4) \\ g(x)=x^2-5x+4 \Rightarrow g'(x)=2x-5 \end{array}\right\} \begin{array}{l} (\ln g(x))'=\dfrac{g'(x)}{g(x)} \\ (\ln(x^2-5x+4))'=\dfrac{g'(x)}{g(x)}=\dfrac{2x-5}{x^2-5x+4} \end{array}$$

دریم مثال: د $f(x)=\log_a\sqrt{\dfrac{x^2+1}{x^2-1}}$ او $f(x)=\ln\sqrt{\dfrac{x^2+1}{x^2-1}}$ تابعگانو مشتق پیدا کړئ.

حل: پوهیږو چې $\log_a\sqrt{\dfrac{x^2+1}{x^2-1}}=\log_a(\dfrac{x^2+1}{x^2-1})^{\frac{1}{2}}$ دی، نو لیکلای شو، چې:

$$\log_a\sqrt{\frac{x^2+1}{x^2-1}}=\log_a(\frac{x^2+1}{x^2-1})^{\frac{1}{2}}=\frac{1}{2}\log_a\frac{x^2+1}{x^2-1}=\frac{1}{2}(\log_a(x^2+1)-\log_a(x^2-1))$$

$$(\log_a\sqrt{\frac{x^2+1}{x^2-1}})'=\frac{1}{2}(\log_a(x^2+1)-\log_a(x^2-1))'$$

$$=\frac{1}{2}[\frac{(x^2+1)'}{(x^2+1)}\log_a e-\frac{(x^2-1)'}{(x^2-1)}\log_a e]$$

$$=\frac{1}{2}\left[\frac{2x}{x^2+1}\log_a e-\frac{2x}{x^2-1}\log_a e\right]=\frac{1}{2}\cdot 2x\log_a e\left[\frac{1}{x^2+1}-\frac{1}{x^2-1}\right]$$

$$=\frac{-2x}{x^4-1}\log_a e$$

حل: پوهیږو چې $\ln\sqrt{\dfrac{x^2+1}{x^2-1}}=\ln(\dfrac{x^2+1}{x^2-1})^{\frac{1}{2}}$ دی، نو لیکلای شو، چې:

$$\ln\sqrt{\frac{x^2+1}{x^2-1}}=\ln(\frac{x^2+1}{x^2-1})^{\frac{1}{2}}=\frac{1}{2}(\ln(x^2+1)-\ln(x^2-1))$$

$$(\ln\sqrt{\frac{x^2+1}{x^2-1}})'=\frac{1}{2}[\ln(x^2+1)-\ln(x^2-1)]'=\frac{1}{2}[(\ln(x^2+1))'-(\ln(x^2-1))']$$

$$=\frac{1}{2}(\frac{2x}{x^2+1}-\frac{2x}{x^2-1})=\frac{-2x}{x^4-1}$$

(c) ketabton.com: The Digital Library

څلورم مثال: د $y = e^{(x^2+1)}$ تابع مشتق پیدا کړئ.

حل: پوهېږو چې که $y = e^u$ وي نو $y' = u'e^u$

$$y = e^{(x^2+1)} \Rightarrow y' = (x^2+1)' \cdot e^{x^2+1} = 2x \cdot e^{x^2+1}$$

پنځم مثال: د $y = \sqrt[x]{2}$ تابع مشتق په لاس راوړئ.

حل: پوهېږو چې که چیرې $y = a^u$ وي نو $y' = u'a^u \ln a$ سره دی، نو:

$$y = \sqrt[x]{2} = (2)^{\frac{1}{x}} \Rightarrow y' = (\frac{1}{x})' \cdot 2^{\frac{1}{x}} \ln 2 = \frac{-1}{x^2} \cdot 2^{\frac{1}{x}} \cdot \ln 2$$

شپږم مثال: د $y = x^{2x}$ تابع مشتق پیدا کړئ.

حل: که د معادلې له دواړو خواوو څخه طبیعي لوګاریتم ونیسو، په لاس راځي چې:

$$y = x^{2x}$$
$$\ln y = \ln x^{2x}$$
$$\ln y = 2x \ln x$$
$$(\ln y)' = (2x \ln x)' \Rightarrow \frac{y'}{y} = 2\ln x + 2x \cdot \frac{1}{x}$$
$$y' = 2(\ln x + 1) \cdot y \Rightarrow y' = 2(\ln x + 1) \cdot x^{2x}$$

اووم مثال: د $y = 10^x$ تابع مشتق حساب کړئ.

حل: پوهېږو چې $y = a^x \Rightarrow y' = a^x \ln a$ دی، نو:

$$y = 10^x$$
$$y' = 10^x \cdot \ln 10$$

اتم مثال: د $y = e^{3x}$ تابع مشتق پیدا کړئ.

حل: که $u = 3x$ وضع شي، نو: $u'(x) = 3$

$$y = e^u$$
$$y' = e^u \cdot u' = e^{3x} \cdot 3$$
$$y' = 3e^{3x}$$

نهم مثال: د لاندې تابعګانو مشتق پیدا کړئ.

1) $y = \log(x^4 + 1)$ 2) $y = \log_3(\log_2 x)$ 3) $y = \log_{x^2-1} x^2 + 1$

(c) ketabton.com: The Digital Library

حل: پوهېږو چې د لوګارتمي توابعو مشتق په مختلفو قاعدو سره د لاندي قضيې څخه په ګټه اخيستنې سره په لاس راوړو:

$$y=\log_a u$$

$$y'=(\log_a u)'=\frac{u'}{u}\log_a e=\frac{u'}{u\log_e a}=\frac{u'}{u\ln a}$$

1) $y=\log(x^4+1) \Rightarrow y'=\dfrac{4x^3}{(x^4+1)\ln 10}$

2) $y=\log_3(\log_2 x) \Rightarrow y'=\dfrac{(\log_2 x)'}{\ln 3\log_2 x}=\dfrac{\frac{1}{x\ln 2}}{\ln 3\log_2 x}=\dfrac{1}{(\ln 2)(\ln 3)x\log_2 x}$

$$=\frac{1}{\ln 2\cdot\ln 3\cdot x\cdot\frac{\log_e x}{\log_e 2}}=\frac{1}{\ln 2\cdot\ln 3\cdot x\cdot\frac{\ln x}{\ln 2}}=\frac{1}{\ln 3\, x\ln x}$$

3) $y=\log_{x^2-1} x^2+1=\dfrac{\log_e(x^2+1)}{\log_e(x^2-1)}=\dfrac{\ln(x^2+1)}{\ln(x^2-1)}$

پوهېږو چې $y'=\dfrac{u'v-v'u}{v^2} \Rightarrow y=\dfrac{u}{v}$ دی؛ نو لرو:

$$y'=\frac{\frac{2x}{x^2+1}\cdot\ln(x^2-1)-\frac{2x}{x^2-1}\ln(x^2+1)}{[\ln(x^2-1)]^2}$$

پوښتنې

د لاندې توابعو مشتق پیدا کړئ:

a) $f(x)=\ln\sin 3x$

b) $f(x)=\ln\sqrt{3x^2+7}$

c) $f(x)=\ln(5x^2-6x+5)$

d) $f(x)=\log_{10}3x^2$

e) $f(x)=y=x^x$

f) $y=\dfrac{(x+1)^2(\sqrt{x}-1)}{(x+4)^3e^x}$

(c) ketabton.com: The Digital Library

(c) ketabton.com: The Digital Library

د معکوسو تابعګانو مشتق

مخامخ شکل د څه ډول تابع ګراف رانبيي؟

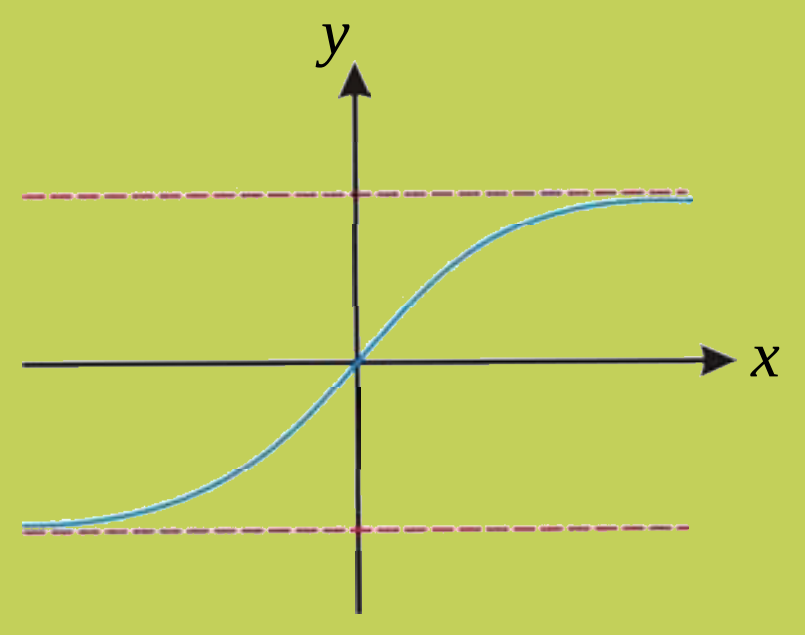

که چيري f او g يوه د بلې دوې معکوسې تابعګانې وي، يعنې $y = f(x) \Leftrightarrow x = g(y)$ وي، نو: $\frac{1}{\frac{dx}{dy}} = \frac{dy}{dx}$ يا $y'_x = \frac{1}{x'_y}$ دی، ځکه چې د تابع او ضمني تابعګانو له مشتق څخه ليکلای شو:

$$\left.\begin{matrix} y = f(x) \\ x = g(y) \end{matrix}\right\} \Rightarrow y'_x \cdot x'_y = y'_y \quad \Rightarrow y'_x \cdot x'_y = 1 \quad \Rightarrow y'_x = \frac{1}{x'_y}$$

مثال: د $y = a^x$ تابع مشتق د هغې د معکوسې تابع په مرسته پيدا کړئ.

حل:

$$y = a^x \quad \Rightarrow x = \log_a y$$

$$\Rightarrow y'_x = \frac{1}{x'_y} = \frac{1}{(\log_a y)'} = \frac{1}{\frac{1}{y}\log_a e} = \frac{1}{\frac{1}{y}} \log_e a = y \log_e a$$

$$y' = a^x \ln a$$

د مثلثاتي معکوسو تابعګانو مشتق

د مثلثاتي معکوسو تابعګانو مشتق د لاندې اړيکو په مرسته لاسته راوړو:

1) $(\arcsin x)' = \frac{1}{\sqrt{1-x^2}}$ 2) $(\arccos x)' = \frac{-1}{\sqrt{1-x^2}}$

3) $(\arctan x)' = \frac{1}{1+x^2}$ 4) $(arc\cot x)' = \frac{-1}{1+x^2}$

ثبوت:

1) $y = \arcsin x \quad \Leftrightarrow \quad x = \sin y$

$(\arcsin x)' = ?$

$$\frac{dy}{dx} = \frac{1}{\frac{dx}{dy}}$$

$$y'_x = \frac{1}{x'_y} = \frac{1}{(\sin y)'} = \frac{1}{\cos y} = \frac{1}{\sqrt{1-\sin^2 y}}$$

$$\Rightarrow (\arcsin x)' = \frac{1}{\sqrt{1-x^2}}$$

2) $y = \arccos x \quad \Leftrightarrow \quad x = \cos y$

$(\arccos x)' = ?$

$$y'_x = \frac{1}{x'_y} = \frac{1}{(\cos y)'} = \frac{1}{-\sin y} = \frac{-1}{\sqrt{1-\cos^2 y}}$$

$$\Rightarrow (\arccos x)' = -\frac{1}{\sqrt{1-x^2}}$$

3) $y = \arctan x \Leftrightarrow x = \tan y$

$$\Rightarrow (\arctan x)' = y'_x = \frac{1}{x'_y} = \frac{1}{(\tan y)'} = \frac{1}{\frac{1}{\cos^2 y}} = \cos^2 y$$

$$= \frac{\cos^2 y}{1} = \frac{\cos^2 y}{\sin^2 y + \cos^2 y}$$

د کسر صورت او مخرج په $\cos^2 y$ ویشو:

$$(\arctan x)' = \frac{\cos^2 y}{\sin^2 y + \cos^2 y} = \frac{1}{\tan^2 y + 1} = \frac{1}{1+x^2}$$

$$\Rightarrow (\arctan x)' = \frac{1}{1+x^2}$$

(c) ketabton.com: The Digital Library

4) $y = arc\cot x \Leftrightarrow x = \cot y$

$$(arc\cot x)' = ?$$

$$(arc\cot x)' = y'_x = \frac{1}{x'_y} = \frac{1}{(\cot y)'} = \frac{1}{\frac{-1}{\sin^2 y}}$$

$$= -\sin^2 y = \frac{-\sin^2 y}{1} = \frac{-\sin^2 y}{\sin^2 y + \cos^2 y}$$

دکسر صورت او مخرج په $\sin^2 y$ وېشو:

$$= -\frac{\sin^2 y}{\sin^2 y + \cos^2 y} = \frac{-1}{1+\cot^2 y} = -\frac{1}{1+x^2}$$

لومړی مثال: د $y = (\arctan x)^5$ تابع مشتق پیدا کړئ.

$$y' = 5(\arctan x)^4 (\arctan x)' = 5(\arctan x)^4 \frac{1}{1+x^2}$$

دویم مثال: د $y = \log_5(\arctan x)$ تابع مشتق پیدا کړئ.

$$y' = [\log_5(\arctan x)]' = \log_5 u = \frac{u'}{u \ln a}$$

$$= \frac{\frac{1}{1+x^2}}{\arctan x \ln 5} = \frac{1}{(1+x^2)(\arctan x \ln 5)}$$

دریم مثال: د $y = arc\tan e^x$ تابع د مشتق مقدار د $x = 0$ ټکي کې پیدا کړئ.

$$y' = [arc\ \tan e^x]' = (arc\tan u)' = \frac{u'}{1+u^2} = \frac{e^x}{1+e^{2x}}$$

$$y'(0) = \frac{e^0}{1+e^0} = \frac{1}{1+1} = \frac{1}{2}$$

(c) ketabton.com: The Digital Library

پوښتنې

1. د لاندې تابعگانو مشتق پیدا کړئ.

1) $y = (arc\sin x)^3$

2) $y = \log_2(arc\cos x)$

(c) ketabton.com: The Digital Library

(c) ketabton.com: The Digital Library

قسمي کسرونه

د یو کسر تجزیه کول په قسمي کسرونو:

پوهیږو چې د $\frac{2}{x+1}$ او $\frac{1}{x^2-1}$ د جمعې حاصل $\frac{2x-1}{x^2-1}$ دی، آیا کولای شئ چې له دې کسر څخه د $\frac{2}{x+1}$ او $\frac{1}{x^2-1}$ کسرونه لاسته راوړئ.

$$\frac{2}{x+1}+\frac{1}{x^2-1}=\frac{2x-1}{x^2-1}$$

فعالیت

- د $\frac{7}{x+1}$, $\frac{5}{x-2}$ او $\frac{2}{x-5}$ کسرونه سره جمع کړئ.
- د پورته کسرونود جمعې حاصل، بېرته په لومړنیو کسرونو واړوئ.
- واقعي کسرونه څه ډول کسرونه دي، تعریف یې کړئ.

د پورتني فعالیت پایله داسې بیانوو:

تعریف: د یوه واقعي کسر هغه کوچنی کسرونه چې د جمعې د عواملو په شکل لیکل شوی وي، که چېرې هغوی سره جمع کړو، راکړل شوی واقعي کسر په لاس راشي، نو دا جمع شوي لومړني کسرونه د قسمي کسرونو په نامه یادېږي.

د یوه واقعي کسر د تجزیه کولو لپاره لاندې حالتونه په پام کې نیسو:

لومړی حالت:

که چیرې د $\frac{P_m(x)}{P_n(x)}$ ناطق کسر مخرج ($P_n(x)$) له خطي بېلابېلو ضربي عواملو څخه جوړ شوی وي او تکرار نه وي په لاندې بڼه بدلېدلای شي:

$$\frac{P_m(x)}{P_n(x)}=\frac{A}{x-x_1}+\frac{}{x-x_2}+\frac{C}{x-x_3}+\cdots+\frac{}{x-x_n}$$

(A, C, ... حقیقي عددونه دي)

لومړی مثال: د $\frac{4x^2-x-39}{x^3-4x^2-7x+10}$ کسر په قسمي کسرونو تجزیه کړئ.

حل: د مخرج پولینوم په لومړنیو ضربي عواملو تجزیه کوو، نو په لاس راځي:

$$x^3-4x^2-7x+10=(x-5)(x-1)(x+2)$$

لیدل کېږي، چې نوموړی کسر له دریو قسمي کسرونو څخه جوړ شوی دی، صورتونه یې A , C , ټاکو:

$$\frac{4x^2-x-39}{x^3-4x^2-7x+10}=\frac{A}{x-5}+\frac{}{x-1}+\frac{C}{x+2}$$

$$\frac{4x^2-x-39}{x^3-4x^2-7x+10}=\frac{A(x-1)(x+2)+\quad(x-5)(x+2)+C(x-1)(x-5)}{(x-5)(x-1)(x+2)}$$

$$\frac{4x^2-x-39}{x^3-4x^2-7x+10}=\frac{Ax^2+Ax-2A+\quad x^2-3\quad x-10\quad+Cx^2-6Cx+5C}{(x-5)(x-1)(x+2)}$$

$$\frac{4x^2-x-39}{x^3-4x^2-7x+10}=\frac{(A+\quad+C)x^2+(A-3\quad-6C)x+(-2A-10\quad+5C)}{(x-5)(x-1)(x+2)}$$

لیدل کېږي، چې د دواړو خواوو د کسرونو مخرجونه سره برابر دي، نو باید صورتونه هم سره برابر وي، نو د مطابقت د خواصو(د ورته حدونو ضریبونه سره مساوي وي) څخه په ګټه اخستنې سره لیکو:

$$\begin{cases}A+\quad+C=4\\A-3\quad-6C=-1\\-2A-10\quad+5C=-39\end{cases}$$

د پورته سیستم له حل څخه وروسته $A=2$, $=3$ او $C=-1$ په لاس راځي، نو:

$$\frac{4x^2-x-39}{x^3-4x^2-7x+10}=\frac{2}{x-5}+\frac{3}{x-1}-\frac{1}{x+2}$$

دویم مثال: د $\frac{3x^3-6x^2-20x-1}{x^2-2x-8}$ کسر په قسمي کسرونو تجزیه کړئ.

حل: لومړی نوموړی کسر په واقعي کسر بدلوو او بیا پورتنی طریقه پرې تطبیقوو:

$$\frac{3x^3-6x^2-20x-1}{x^2-2x-8}=3x+\frac{4x-1}{x^2-2x-8}\Rightarrow\frac{4x-1}{x^2-2x-8}=\frac{A}{x-4}+\frac{}{x+2}$$

$$=\frac{A(x+2)+\quad(x-4)}{(x-4)(x+2)}=\frac{(A+\quad)x+(2A-4\quad)}{x^2-2x-8}$$

$$\left.\begin{matrix}A+\quad=4\\2A-4\quad=-1\end{matrix}\right\}\Rightarrow A=\frac{5}{2}\qquad,\qquad=\frac{3}{2}$$

$$\frac{3x^2-6x^2-20x-1}{x^2-2x-8}=3x+\frac{5}{2(x-4)}+\frac{3}{2(x+2)}$$

(c) ketabton.com: The Digital Library

دویم حالت:

که د کسر د مخرج ضربي عوامل لومړی درجه پولینوم وي چې ځینې یې تکرار راغلي وي، یعنې که د $x-x_0$ عامل n ځلې په مخرج کې تکرار شوی وي، نو لیکلای شو؛ چې:

$$\frac{P_m(x)}{P_n(x)}=\frac{A}{x-x_0}+\frac{\quad}{(x-x_0)^2}+\dots+\frac{\quad}{(x-x_0)^n}$$

لومړی مثال: د $\frac{3x^2-6x+2}{x^3-4x^2+5x-2}$ واقعي کسر په قسمي کسرونو تجزیه کړئ:

حل: د مخرج د پولینوم ضربي عوامل په لاس راوړو:

$$x^3-4x^2+5x-2=(x-1)(x-2)(x-1)$$

$$\frac{3x^2-6x+2}{x^3-4x^2+5x-2}=\frac{3x^2-6x+2}{(x-2)(x-1)^2}=\frac{A}{(x-2)}+\frac{\quad}{(x-1)}+\frac{C}{(x-1)^2}$$

$$=\frac{A(x-1)^2+\quad(x-2)(x-1)+C(x-2)}{(x-2)(x-1)^2}$$

$$=\frac{(A+\quad)x^2+(-2A-3\quad+C)x+(A+2\quad-2C)}{(x-2)(x-1)^2}$$

$$\left.\begin{aligned}A+\quad&=3\\-2A-3\quad+C&=-6\\A+2\quad-2C&=2\end{aligned}\right\}\Rightarrow\begin{aligned}A&=2\\&=1\\C&=1\end{aligned}$$

$$\Rightarrow\frac{3x^2-6x+2}{x^3-4x^2+5x-2}=\frac{2}{x-2}+\frac{1}{x-1}+\frac{1}{(x-1)^2}$$

دریم حالت:

که د مخرج ضربي عوامل دریمه درجه پولینوم چې د تجزیې وړ نه وي او تکرار هم نه وي راغلی، نو د $\frac{P_m(x)}{P_n(x)}$ واقعي پولینوم د یو قسمي کسر $\frac{Ax+\quad}{ax^2+bx+c}$ بڼه لري.

لومړی مثال: د $\frac{5x^2+8x+9}{x^3+3x^2+6x+4}$ کسر په قسمي کسرونو تجزیه کړئ.

(c) ketabton.com: The Digital Library

حل: د مخرج پولینوم ضربي عوامل عبارت دي له:

$$x^3+3x^2+6x+4=(x+1)(x^2+2x+4)$$

څرنګه چې د x^2+2x+4 درې جملهيي د حقيقي عددونو په سټ کې حل نه لري، نو په دې ساحه کې د تجزيې وړ نه ده له دې امله ليکو:

$$\frac{5x^2+8x+9}{x^3+3x^2+6x+4}=\frac{Ax+\quad}{x^2+2x+4}+\frac{C}{x+1}=\frac{(Ax+\quad)(x+1)+C(x^2+2x+4)}{(x^2+2x+4)(x+1)}$$

$$=\frac{(A+C)x^2+(A+\quad+2C)x+(\quad+4C)}{(x^2+2x+4)(x+1)}$$

$$\left.\begin{array}{l}A+C=5\\ A+\quad+2C=8\\ \quad+4C=9\end{array}\right\}\Rightarrow \begin{array}{l}A=3\\ \quad=1\\ C=2\end{array}\Rightarrow \frac{5x^2+8x+9}{x^3+3x^2+6x+4}=\frac{3x+1}{x^2+2x+4}+\frac{2}{x+1}$$

پوښتنې

لاندې کسرونه په قسمي کسرونو تجزيه کړئ.

-1

a) $\dfrac{-x^2+2x-12}{x^3+2x^2+6x+5}$ b) $\dfrac{4x^2-3x+8}{x^3-2x+4}$ c) $\dfrac{2x^4-8x^3+7x^2-3x+4}{x^2-9x+3}$

-2

a) $\dfrac{1}{x^4(x+1)}$ b) $\dfrac{3x^2-6x+2}{x^3-4x^2+5x-2}$ c) $\dfrac{x^4+1}{x^2(x-1)}$

d) $\dfrac{3x^2+5x+10}{x^3+2x^2-4x-8}$ e) $\dfrac{3x^2-18x+36}{x^3-6x^2+9x}$

-3

a) $\dfrac{3x+7}{(x^2+x+1)(x^2-4)}$ b) $\dfrac{x^2+3x+4}{x^4-2x^2+1}$

c) $\dfrac{x^2+13x+10}{x^3-5x^2}$ d) $\dfrac{x^5}{x^4-1}$

(c) ketabton.com: The Digital Library

د اکسپوننشل تابعگانو انتیګرالونه

مخامخ اړیکې سره پرتله کړئ.

$$\log_a b = x$$

$$a^x = b$$

فعالیت

- د $f(x) = a^x$ تابع څه ډول تابع ده، نوم يې واخلئ.
- د لوګاریتمي تابع يوه بېلګه ولیکئ.
- د $\log_a x = C$ اړیکه په اکسپوننشیل ډول ولیکئ.

له پورتني فعالیت څخه لیکلای شو چې:

د $f(x) = e^x$ طبیعي اکسپوننشیل تابع لپاره لرو $\int e^x dx = e^x + C$ نو په عمومي ډول

$$\int a^x dx = \frac{a^x}{\ln a} \quad , \ a \neq 1 \quad , \ a \in IR^+$$

ثبوت:

$$\int a^x dx$$

$$u = 1 \quad \Rightarrow \ du = 0 \cdot dx$$

$$dv = a^x \quad \Rightarrow \ v = \frac{a^x}{\ln a}$$

$$\int a^x dx = \frac{a^x}{\ln a} - \int \frac{a^x}{\ln a} \cdot 0 \cdot dx = \frac{a^x}{\ln a} + C$$

$$\int a^x dx = \frac{a^x}{\ln a} + C$$

(c) ketabton.com: The Digital Library

لومړی مثال: د $f(x) = 2^{x-3}$ اکسپوننشیل تابع انتیګرال غواړو پیدا کړو:

د توان له قانون څخه لرو:

$$2^{x-3} = \frac{2^x}{2^3} = \frac{1}{8}2^x$$

$$\int 2^{x-3}dx = \int \frac{1}{8}2^x dx = \frac{1}{8}\int 2^x dx$$

$$\frac{1}{8}\int 2^x dx = \frac{1}{8}\cdot\frac{2^x}{\ln 2} + C$$

دویم مثال: دلاندې اکسپوننشیل تابعګانو انتیګرالونه پیدا کړئ.

1) $\int 3^{x+1}\,dx = ?$ 2) $\int 6^{x-1}\,dx = ?$

حل:

1) $\int 3^{x+1}\,dx = ?$

$$3^{x+1} = 3^x \cdot 3$$

$$\int 3^x \cdot 3\,dx = 3\int 3^x\,dx = 3\cdot\frac{3^x}{\ln 3} + C$$

2) $\int 6^{x-1}\,dx = ?$

$$6^{x-1} = \frac{6^x}{6} = \frac{1}{6}\cdot 6^x$$

$$\int \frac{1}{6}6^x\,dx = \frac{1}{6}\int 6^x\,dx = \frac{1}{6}\cdot\frac{6^x}{\ln 6} + C$$

پوښتنې

د لاندې اکسپوننشیل تابعګانو انتیګرالونه محاسبه کړئ.

a) $\int 3^{x-1}dx$ b) $\int 2^{-x}dx$ c) $\int a^{x+b}dx$

d) $\int \frac{1}{a^x}dx$ e) $\int 2^x \cdot 3^x dx$ f) $\int \frac{2^x}{3^x}dx$

g) $\int \frac{4^{x+3}}{2^x}dx$ h) $\int \frac{5^x+3^x}{2^x}dx$ i) $\int (1+2^x)dx$

(c) ketabton.com: The Digital Library

د لوګاریتمي تابعګانو انتیګرال

وښیئ چې د تابع په کوم حالت کې نزولي او په کوم حالت کې صعودي ده.

$$y = a^x$$

$$\int a^x dx = ?$$

فعالیت

- لوګاریتم په څو ډوله دی، د هر ډول عمومي رابطه ولیکئ.
- د $x = a^y$ او $y = \log_a x$ معادلې یو له بل سره څه اړیکه لري.
- د $x = b^y$ او $y = \log_b x$ تابعګانو ګراف رسم کړئ.
- آیا کولای شو چې د لوګاریتمي تابعګانو انتیګرال ونیسو؟

د پورتني فعالیت څخه پایله داسې بیانوو:

که $(x \in IR^+)$ $f(x) = \ln x$ وي د طبیعي لوګاریتم د تابع لپاره لیکلای شو: $\int \ln dx = x \cdot \ln x - x + C$

که $(x, a \in IR^+, a \neq 1)$ $f(x) = \log_a x$ وي د معمولي لوګاریتم تابع لپاره لیکلای شو:

$$\int \log_a x\, dx = x \log_a \frac{x}{e}$$

ثبوت:

1- که $a = e$ وضع شي، نو:

$$\int \log_a x\, dx = x \log_a \frac{x}{e} + C$$

$$\int \log_e x\, dx = \int \ln x dx = x \log_e \frac{x}{e} = x(\log_e x - \log_e e)$$

$$\int \ln x\, dx = x \ln x - x + C = x(\ln x - 1) + C$$

(c) ketabton.com: The Digital Library

-2

$$\int \log_a x\,dx = x\log_a \frac{x}{e} + C$$

$$u = \log_a x \;,\quad du = \frac{1}{x}\log_a e\,dx$$

$$dv = dx \;,\quad v = x$$

$$\int \log_a x\,dx = x\log_a x - \int x\frac{1}{x}\log_a e\,dx$$

$$= x\log_a x - \log_a e\int dx$$

$$= x\log_a x - x\log_a e = x(\log_a x - \log_a e) = x\log_a \frac{x}{e} + C$$

$$\int \log_a x\,dx = x\,\log_a \frac{x}{e} + C$$

مثال: د $\int \ln 3x dx$ غیرمعین انتیگرال غواړو پیدا کړو:

حل:

$$\int \ln 3x dx = \int (\ln 3 + \ln x)dx = \int \ln 3\,dx + \int \ln x\,dx$$

$$= x\ln 3 + x\ln x - x$$

$$= x(\ln 3 + \ln x) - x = x(\ln 3x - 1)$$

یادونه:

(I) د تعویض Substitution له لارې کولای شو د غیرمعین انتیگرال حل پیدا کړو.

لومړی مثال:لاندې انتیگرالونه پیدا کړئ.

حل:

$$a)\quad I = \int \frac{1}{2}e^{-2x-3}dx$$

$$-2x - 3 = u, \qquad -2 = \frac{du}{dx} \quad , \quad dx = -\frac{1}{2}du$$

$$I = \int \frac{1}{2}e^{u}\cdot\left(-\frac{1}{2}\right)du = -\frac{1}{4}\int e^{u}du = -\frac{1}{4}e^{u} + C = -\frac{1}{4}e^{-2x-3} + C$$

$$b)\quad I = \int \frac{2dx}{x+2}$$

$$x + 2 = u, \qquad 1 = \frac{du}{dx} \qquad dx = du$$

$$I = \int \frac{2du}{u} = 2\int \frac{du}{u} = 2\ln|u| + C = 2\ln|x+2| + C$$

(c) ketabton.com: The Digital Library

دویم مثال: د $f(x)=e^{2x}$ تابع انتیګرال ونیسئ:

حل:

$$f(x)=e^{2x} \Rightarrow \int f(x)dx=\int e^{2x}dx=?$$

$$u=2x \Rightarrow du=2dx$$

$$dx=\frac{du}{2}$$

$$f(x)=e^{2x} \Rightarrow \int f(x)dx=\int e^{u}\cdot\frac{du}{2}=\frac{1}{2}\int e^{u}\,du$$

$$\int e^{2x}dx=\frac{e^{u}}{2}+C=\frac{e^{2x}}{2}+C=\frac{1}{2}e^{2x}+C$$

آزمايښت: $F(x)=\frac{1}{2}e^{2x}+C \Rightarrow F'(x)=\frac{1}{2}e^{2x}\cdot 2=e^{2x}=f(x)$

دریم مثال: د $f(x)=x\cdot\ln x^2$ انتیګرال حساب کړئ.

حل:

$$f(x)=x\cdot\ln x^2 \Rightarrow \int f(x)dx=\int(x\cdot\ln x^2)dx=?$$

$$u=x^2$$

$$du=2x\,dx \Rightarrow dx=\frac{1}{2}du$$

$$\int f(x)\,dx=\int x\cdot\ln u\cdot\frac{1}{2x}du=\frac{1}{2}\int\ln u\,du=\frac{1}{2}[u\cdot\ln u-u+C]=\frac{1}{2}u\cdot\ln u-\frac{1}{2}u+C$$

$$=\frac{1}{2}x^2\cdot\ln x^2-\frac{1}{2}x^2+C$$

(II) معین انتیګرالونه هم د بدلون(تعویض) له لارې حل کیږي.

لومړی مثال: د $\int_{-1}^{1}e^{2x}\,dx$ انتیګرال پیدا کړئ.

$$f(x)=e^{2x} \Rightarrow \int_{-1}^{1}e^{2x}\,dx$$

$$u=2x \Rightarrow du=2\,dx \Rightarrow dx=\frac{1}{2}du$$

$$\left.\begin{array}{l} x=-1,\ u=2x \Rightarrow u=2(-1)=-2 \\ x=1,\ u=2x \Rightarrow u=2(1)=2 \end{array}\right\} \Rightarrow \int_{-1}^{1}e^{2x}\,dx=\frac{1}{2}\int_{-2}^{2}e^{u}\,du=\frac{1}{2}\left[e^{u}\right]_{-2}^{2}=3.627$$

(c) ketabton.com: The Digital Library

دویم مثال: د $f(x)=\int_1^2 2x\cdot\ln x^2 dx$ انتیگرال قیمت پیدا کړئ.

$$u=x^2$$

$$du=2x\,dx\Rightarrow dx\frac{1}{2x}du$$

$$\left.\begin{array}{l} x=1\ ,\ u=x^2=1 \\ x=2\ ,\ u=x^2=4 \end{array}\right\}\Rightarrow \int_1^2 2x\cdot\ln x^2 dx=\int_1^4 2x\cdot\ln u\cdot\frac{1}{2x}du=\int_1^4 \ln u\,du$$

$$=\left[u\cdot\ln u-u\right]_1^4=\left[4\cdot\ln 4-4\right]-\left[1\cdot\ln 1-1\right]\approx 2.545$$

پوښتنې

لاندې انتیگرالونه حل کړئ.

$a)\ \int \ln 2x^3 dx$ $\qquad b)\ \int \ln\sqrt{x}dx$ $\qquad c)\ \int \log\frac{x}{2}dx$

$d)\ \int 3\log\frac{1}{x}dx$ $\qquad e)\ \int_1^2 \frac{4}{e^{2x-4}}dx$

(c) ketabton.com: The Digital Library

(c) ketabton.com: The Digital Library

د قسمي کسرونو په مرسته د انتیګرال محاسبه

د مخامخ کسر قسمي کسرونه پیدا کړئ.

$$\frac{5}{x^2-3x+2}=\frac{?}{(x-2)}+\frac{?}{(x-1)}$$

مخکې مو د قسمي کسرونو تجزیه مطالعه کړه اوس غواړو چې د هغو تابعګانو انتیګرالونه د قسمي کسرونو په واسطه تر څیړنې لاندې ونیسو.

لومړی مثال: $\int\frac{7x-12}{x^2-6x+8}dx$ محاسبه کړئ.

حل: د قسمي کسرونو د تجزیې په مرسته لیکلای شو:

$$\frac{7x-12}{x^2-6x+8}dx=\frac{A}{(x-2)}+\frac{\quad}{(x-4)}$$

$$\frac{A(x-4)+\quad(x-2)}{(x-2)(x-4)}=\frac{Ax-4A+\quad x-2}{(x-2)(x-4)}=\frac{(A+\quad)x-4A-2}{(x-2)(x-4)}$$

$A+\quad=7$

$-4A-2\quad=-12$

$A=7-$

$-4(7-\quad)-2\quad=-12$

$-28+4\quad-2\quad=-12$

$-28+2\quad=-12$

$2\quad=16\ \Rightarrow\quad=8$

$A=7-8=-1$

$$\frac{7x-12}{x^2-6x+8}=-\frac{1}{x-2}+\frac{8}{x-4}$$

نو لیکلای شو چې:

$$\int\frac{7x-12}{x^2-6x+8}dx=\int\frac{-1}{x-2}dx+\int\frac{8}{x-4}dx$$

$$\int\frac{7x-12}{x^2-6x+8}dx=-\int\frac{1}{x-2}dx+8\int\frac{1}{x-4}dx$$

$$=-\ln|x-2|+8\ln|x-4|+C=\ln(x-2)^{-1}+\ln(x-4)^8+C$$

$$=\ln\left[(x-2)^{-1}\cdot(x-4)^8\right]=\ln\left[\frac{(x-4)^8}{x-2}\right]+C$$

دویم مثال: د $\int \frac{-5x+9}{x^2+x-6}dx$ انتیګرال محاسبه کړئ.

حل: مخرج په فکټورو تجزیه کوو: $x^2+x-6=(x-2)(x+3)$

نو:

$$\frac{-5x+9}{x^2+x-6}=\frac{-5x+9}{(x-2)(x+3)}=\frac{A}{x-2}+\frac{\quad}{x+3}$$

$$\frac{A(x+3)+\quad(x-2)}{(x-2)(x+3)}=\frac{Ax+3A+\quad x-2\quad}{(x-2)(x+3)}=\frac{(A+\quad)x+3A-2\quad}{(x-2)(x+3)}$$

$$(A+\quad)x+3A-2\quad=-5x+9$$

$$A+\quad=-5\Rightarrow A=-5-\quad$$

$$3A-2\quad=-5x+9$$

د A او عددي قیمتونه عبارت دي له:

$$3(-5-\quad)-2\quad=9$$

$$-15-5\quad=9$$

$$-5\quad=24$$

$$\quad=-\frac{24}{5}$$

$$A=-5+\frac{24}{5}=\frac{-25+24}{5}=-\frac{1}{5}$$

$$\frac{-5x+9}{x^2+x-6}=\frac{-\frac{1}{5}}{x-2}-\frac{\frac{24}{5}}{x+3}$$

$$\int\frac{-5x+9}{x^2+x-6}=\int\frac{-\frac{1}{5}}{x-2}dx-\int\frac{\frac{24}{5}}{x+3}dx=-\frac{1}{5}\int\frac{1}{x-2}dx-\frac{24}{5}\int\frac{1}{x+3}dx$$

$$=-\frac{1}{5}\ln(x-2)-\frac{24}{5}\ln(x+3)$$

$$=\ln(x-2)^{-\frac{1}{5}}+\ln(x+3)^{-\frac{24}{5}}=\ln\left[(x-2)^{-\frac{1}{5}}\cdot(x+3)^{-\frac{24}{5}}\right]+C$$

پوښتنې

لاندې انتیګرالونه د قسمی کسرونو په طریقه حل کړئ.

a) $\int\frac{x+2}{x^3-3x^2-x+3}dx$ b) $\int\frac{x-2}{x^2-6x+13}dx$ c) $\int\frac{x^6}{x^4+3x^2+2}dx$

(c) ketabton.com: The Digital Library

د خپرکي مهم ټکي

- که $f(x)=e^x$ وي، نو ددې تابع مشتق عبارت له $f'(x)=e^x$ دی.
- که $f(x)=a^x$ وي، د دې تابع مشتق $f'(x)=a^x\cdot\ln a$ دی.
- که $f(x)=\log_a x$ وي، نو د تابع مشتق $f'(x)=\frac{1}{x}\log_a e=\frac{1}{x\ln a}$ دی.
- $f(x)=\log_a g(x)$ وي، نو د تابع مشتق $(\log_a g(x))'=\frac{g'(x)}{g(x)}\log_a e$ دی.
- **قسمي کسرونه**: د یوه واقعي کسر هغه کوچنی کسرونه چې د جمعې د عواملو په شکل لیکل شوی دی که هغوی جمع کړو، راکړل شوي واقعي کسر په لاس راځي، قسمي کسرونه بلل کیږي.
- که چیرې د $\frac{P_m(x)}{P_n(x)}$ د کسري پولینوم مخرج ($P_n(x)$) د خطي بېلابېلو ضربي عواملو څخه جوړ چې تکرار نه وي راغلی په لاندې بڼه بدلیدلای شي:

$$\frac{P_m(x)}{P_n(x)}=\frac{A}{x-x_1}+\frac{}{x-x_2}+\frac{C}{x-x_3}+\cdots+\frac{}{x-x_n}$$

- که د لومړۍ درجه پولینوم مخرج ضربي عوامل چې ځیني يې تکرار راغلی وي، یعنې که د x_0 د $x-x_0$ عامل n ځلې تکرار شوی وي، نو لیکلای شو؛ چې:

$$\frac{P_m(x)}{P_n(x)}=\frac{A}{x-x_0}+\frac{}{(x-x_0)^2}+\cdots+\frac{}{(x-x_0)^n}$$

- که د مخرج ضربي عوامل دویمه درجه پولینوم د تجزیې وړ نه وي او تکرار هم نه وي راغلی نو د $\frac{P_m(x)}{P_n(x)}$ واقعي پولینوم یو ټوټه کسر $\frac{Ax+}{ax^2+bx+c}$ بڼه لري.
- د اکسپوننشیل تابعګانو انتیګرال لپاره لیکلای شو:

$$\int e^x dx=e^x+C \quad , \quad \int a^x dx=\frac{a^x}{\ln a}+C \quad , \quad (a\in IR^+\ ,\ a\neq 1)$$

- د لوګارتمي توابعو د انتیګرال لپاره لیکلای شو:

$$\int \ln dx=x\ln x-x+C \quad , \quad \int \log_a x\,dx=x\log_a\frac{x}{e}+C$$

- ځیني تابعګانې چې پرته د بدلون له لارې حل کیږي، لیکو:

$$f(x)=e^x \quad \Rightarrow \quad \int f(x)\,dx=\int e^x\,dx=e^x+C$$

(c) ketabton.com: The Digital Library

(c) ketabton.com: The Digital Library

د پنځم څپرکي پوښتنې

لاندې پوښتنې حل کړئ.

1. د $f(x)=\ln(\frac{x-2}{x+2})$ د تابع مشتق پیدا کړئ.
2. د $f(x)=\ln\sqrt{x-1}$ تابع مشتق پیدا کړئ.
3. د $y=2x^{2x}$ تابع مشتق پیدا کړئ.
4. د $f(x)=\log\sqrt{x^3}$ تابع مشتق پیدا کړئ.
5. لاندې کسرونه په قسمي کسرونو تجزیه کړئ.

1) $\frac{x+1}{x^2-x-6}$ 2) $\frac{x^2-x+1}{x^3+2x^2+x}$ 3) $\frac{2x^2+3}{(x^2+1)^2}$

6. لاندې انتیګرالونه پیدا کړئ.

1) $\int 5t^7dt$ 2) $\int \frac{x^3-3}{x^2}dx$

3) $\int (2\cos x-5\sin x+e^x)dx$ 4) $\int \sqrt{\cos x}\sin x dx$

5) $\int xe^{-x}dx$ 6) $\int (\frac{5}{(2x+1)(x-2)})dx$

7) $\int_{-1}^{1}3x^2\sqrt{x^3+1}dx$

7 – د لاندې تابعګانو مشتق پیدا کړئ.

a) $y=\ln(x^2+x+1)$ b) $y=\ln(\sin x)$

c) $y=e^{x^2+1}$ d) $y=\sqrt[x]{2}$

شپږم څپرکی

د انتیګرال تطبیقات

(c) ketabton.com: The Digital Library

(c) ketabton.com: The Digital Library



د يوې منحني د محصور شوي سطحې د مساحت محاسبه
Accounting of area bounded by one curve

د مخامخ شکل مساحت چې يوه سطحه د يوې منحني په واسطه ترل شوې دايره ده د مساحت فورمول يې وویاست.

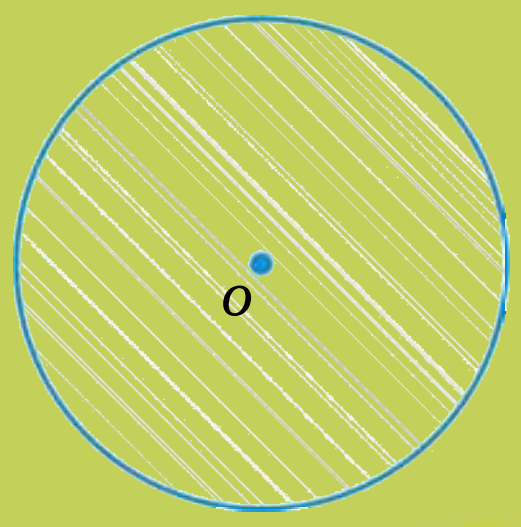

فعاليت

د $y = 1 - x^2$ تابع په پام کې ونيسئ.

- د تابع بحراني (*Critical Point*) ټکي او د x محور سره د تقاطع ټکي پيدا او گراف يې رسم کړئ.
- د $y = 1 - x^2$ تابع او x محور تر منځ د سطحې د مساحت قيمت د انتيگرال په مرسته پيدا کړئ.
- پورتنی فعاليت د $y = -x^2 + 2x$ تابع لپاره تکرار کړئ او د منحني او د x د محور تر منځ محصور شوی مساحت محاسبه کړئ.

له پورتني فعاليت څخه لاندې پايلې لاسته راځي:

_ $\int_a^b f(x)\,dx = F(a) - F(b)$ انتيگرال د يوې سطحې د مساحت قيمت راښيي چې د $y = f(x)$ منحني او د x محور او د $x = a$, $x = b$ د کرښو له خوا رابند (محصور) دی.

_ که د $f(x)$ تابع په $[a,b]$ ترلي انټروال کې مثبت او متمادي وي، يعنې $y = f(x) \geq 0$ په دې صورت کې $f(x)$ تابع گراف تل د x محور پورته خواته او که $y = f(x) \leq 0$ وي، په دې حالت کې $f(x)$ تابع گراف د x محور لاندې خواته واقع ده او منفی دی.

(c) ketabton.com: The Digital Library

لومړی مثال: د $x=4-y^2$ تابع د منحني او د y د محور تر منځ محصور شوی مساحت پیدا کړئ.

حل: لومړی د تابع بحراني ټکي او د y محور سره د پرېکړې ټکي پیدا کوو، وروسته يې شکل رسموو، د بحراني ټکي د پیداکولو لپاره لومړی د تابع مشتق نیسو او له صفر سره يې مساوي کوو او د محورو سره د پرېکړې ټکو د په لاس راوړلو لپاره تابع له صفر سره برابروو.

$x=4-y^2 \Rightarrow x'=-2y=0$

$x'=0 \;\Rightarrow\; y=0$

$y=0\,,\;\; x=4-y^2 \Rightarrow x=4-0 \Rightarrow x=4 \;\Rightarrow\; (4,0)$ بحراني ټکی

$x=0\;,\;\; 4-y^2=0 \Rightarrow y^2=4$

$y=\pm 2 \;\Rightarrow\; (0,2)\;,\;\;(0,-2)$ د محورونو سره د پرېکړې ټکي

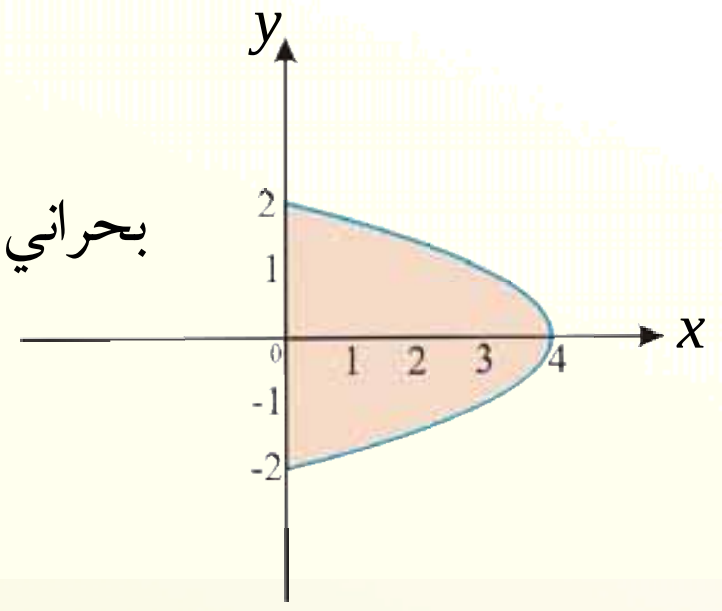

څرنګه چې د $x=4-y^2$ معادله په $[-2,2]$ انټروال کې نظر x محور ته دواړه ټکي متناظر دي، نو د نمايي مساحت په پام کې نیولو سره، د انټیګرال د مساحت سرحدات په لاندې ډول په لاس راوړو:

$$A=\int_{-2}^{2}(4-y^2)\,dy=2\int_{0}^{2}(4-y^2)dy=2[4y-\frac{y^3}{3}]_0^2$$

$$A=2\,[(4\cdot 2-\frac{2^3}{3})-0]=2\,(8-\frac{8}{3})=2\,(\frac{24-8}{3})=2\,(\frac{16}{3})=\frac{32}{3}$$

دویم مثال: د x محور او د $y=1-\frac{1}{2}x^2$ تابع منحنی د محصور شوی سطحې مساحت محاسبه کړئ.

حل: د محصور شوی سطحې د مساحت ټاکلو لپاره لومړی بحراني ټکی او د x محور سره د تقاطع ټکي په لاس راوړو.

$y=1-\frac{1}{2}x^2\;,\;\; y'=-x$

$y'=0 \;\Rightarrow\; x=0$

$x=0,\; y=1-\frac{1}{2}x^2=1 \;\Rightarrow\; y=1-\frac{1}{2}0^2 \;\Rightarrow\; y=1 \;\Rightarrow\; (0,1)$ بحراني ټکی

$y=0, 1-\frac{1}{2}x^2=0 \;\Rightarrow\; -\frac{1}{2}x^2=-1 \;\Rightarrow\; x^2=2,\; x=\pm\sqrt{2}$

$x_1=\sqrt{2}\quad,\quad x_2=-\sqrt{2}$

$(\sqrt{2},0)\;,\;(-\sqrt{2},0)$ د محورونو سره د پرېکړې ټکي

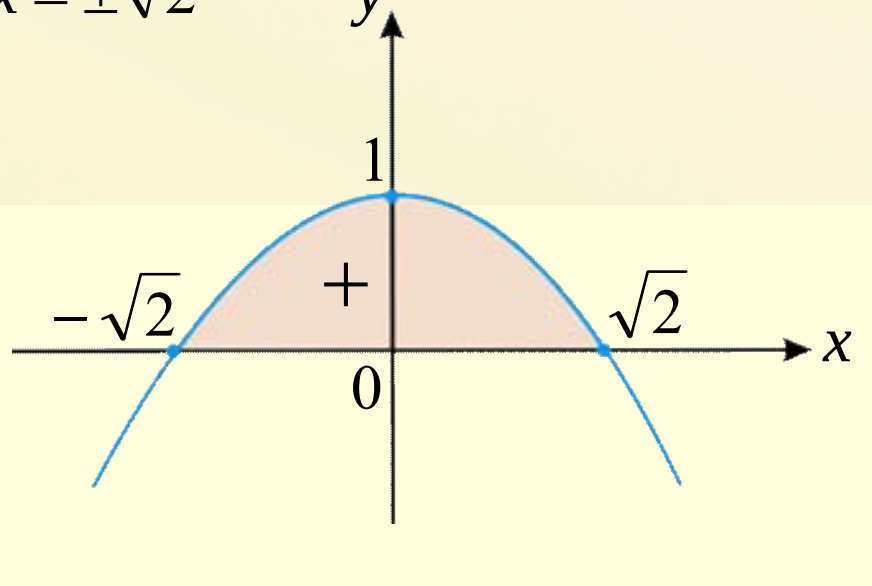

(c) ketabton.com: The Digital Library

$$A=\int_{-\sqrt{2}}^{\sqrt{2}}(1-\frac{1}{2}x^2)\,dx=2\int_{0}^{\sqrt{2}}(1-\frac{1}{2}x^2)\,dx=2([x-\frac{1}{6}x^3]_0^{\sqrt{2}})$$

$$A=2(\sqrt{2}-\frac{(\sqrt{2})^3}{6}-0)=2(\frac{6\sqrt{2}-(\sqrt{2})^3}{6})=2(\frac{6\sqrt{2}-\sqrt{8}}{6})$$

$$=(\frac{6\sqrt{2}-2\sqrt{2}}{3})=\frac{4\sqrt{2}}{3}$$

$$A=1.8853$$

دریم مثال: د $y=x^2-3$ تابع ګراف د x له محور سره یوه سطحه رابند وي، د دې سطحې مساحت پیدا کړئ.

حل: لومړی د سطحې د ټاکلو لپاره د تابع ګراف رسموو او د تابع بحراني ټکی او د تقاطع ټکی په لاس راوړو:

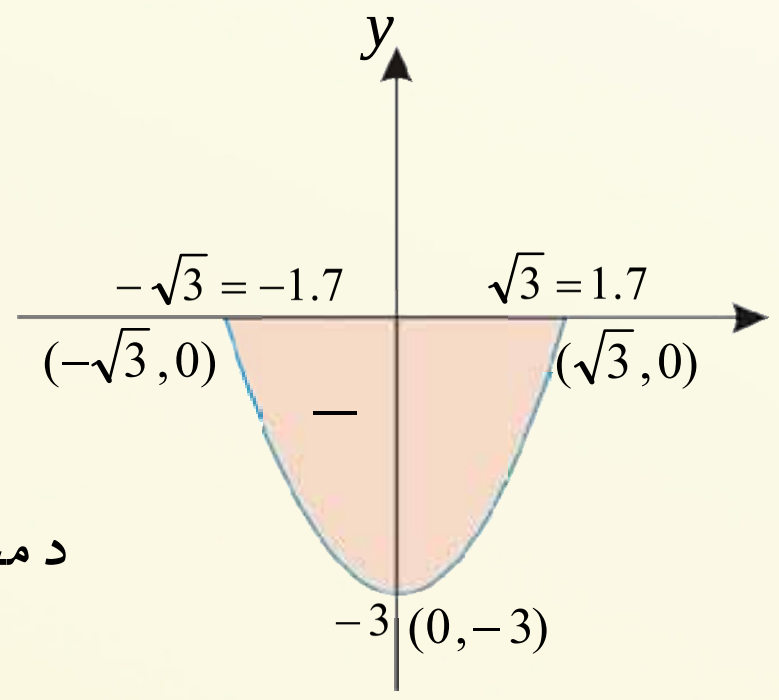

$y=x^2-3 \Rightarrow y'=2x$

$y'=0 \Rightarrow x=0$

$x=0\ ,\ y=x^2-3 \Rightarrow y=0^2-3$

$\Rightarrow y=-3 \Rightarrow (0,-3)$ بحراني ټکی

$y=0\ ,\ x^2-3=0 \Rightarrow x^2=3$

$x=\pm\sqrt{3} \Rightarrow (\sqrt{3},0)\ ,\ (-\sqrt{3},0)$ د محورونو سره د پرېکړې ټکي

څرنګه چې د $y=x^2-3$ تابع په $[\sqrt{3},-\sqrt{3}]$ انټروال کې د محور سره د پرېکړې ټکي متناظر قیمتونه لري نو ګراف یې د x محور څخه لاندې دی او انټیګرال یې منفي دی، نو د ټول مساحت څخه د انټیګرال د سرحدونو نیمایي مساحت پیدا کوو اوبه 2 کې یې ضربوو:

$$A_1=\int_{-\sqrt{3}}^{\sqrt{3}}(x^2-3)\,dx=-2\int_{0}^{\sqrt{3}}(x^2-3)\,dx=-2(\int_{0}^{\sqrt{3}}x^2\,dx-3\int_{0}^{\sqrt{3}}dx)=-2([\frac{1}{3}x^3]_0^{\sqrt{3}}-[3x]_0^{\sqrt{3}})$$

$$=-2(\frac{1}{3}[(\sqrt{3})^3-0]-3[\sqrt{3}-0])=-2(\frac{1}{3}(\sqrt{3})^3-3\sqrt{3})$$

$$=-\frac{2}{3}(\sqrt{3})^3+6\sqrt{3}=-\frac{2}{3}(1.7)^3+6(1.7)=-\frac{2}{3}(4.913)+10.2=-\frac{9.826}{3}+10.2$$

$$=-3.2753+10.2=6.9247$$

(c) ketabton.com: The Digital Library

څلورم مثال: د $y = x^2 - 3x$ تابع ګراف رسم د منحني او x محور تر منځ د سطحې مساحت په $[-1,4]$ انټروال کې وټاکئ.

حل: لومړی د منحني بحراني ټکی او له محورونو سره د پرېکړې ټکي پیدا کوو:

$$y = x^2 - 3x$$

$$y' = 2x - 3 = 0 \Rightarrow 2x = 3 \,,\; x = \frac{3}{2}$$

$$x = \frac{3}{2} \,,\;\; y = x^2 - 3x \Rightarrow y = (\frac{3}{2})^2 - 3(\frac{3}{2})$$

$$y = \frac{9}{4} - \frac{9}{2} = -\frac{9}{4} \,,\;\; (x,y) = (\frac{3}{2}, -\frac{9}{4})$$ بحراني ټکی

څرنګه چې $y'' = 2 > 0$ دی، نو د $(\frac{3}{2}, -\frac{9}{4})$ ټکی د تابع مطلق اصغري ټکی دی او د تقاطع ټکي یې د x له محور سره عبارت دي، له:

$$y = 0 \Rightarrow x^2 - 3x = 0$$

$$\Rightarrow x(x-3) = 0$$

$$\Rightarrow x_1 = 0 \;\;,\;\; x_2 = 3$$

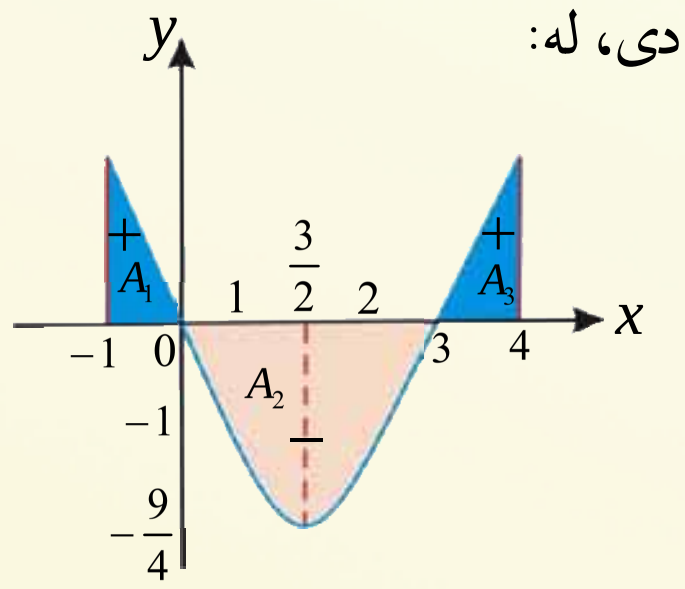

$$A = A_1 - A_2 + A_3 = \int_{-1}^{0}(x^2 - 3x)\,dx - \int_{0}^{3}(x^2 - 3x)\,dx + \int_{3}^{4}(x^2 - 3x)\,dx$$

$$A = [\frac{1}{3}x^3 - \frac{3}{2}x^2]_{-1}^{0} - [\frac{1}{3}x^3 - \frac{3}{2}x^2]_{0}^{3} + [\frac{1}{3}x^3 - \frac{3}{2}x^2]_{3}^{4}$$

$$A = [(\frac{1}{3}\cdot 0 - \frac{3}{2}\cdot 0) - (\frac{1}{3}\cdot(-1)^3 - \frac{3}{2}\cdot(-1)^2)] - [(\frac{1}{3}\cdot 3^3 - \frac{3}{2}\cdot 3^2) - (\frac{1}{3}\cdot 0 - \frac{3}{2}\cdot 0)] +$$
$$[(\frac{1}{3}\cdot(4)^3 - \frac{3}{2}\cdot(4)^2) - (\frac{1}{3}\cdot(3)^3 - \frac{3}{2}\cdot(3)^2)]$$

$$= -(-\frac{1}{3} - \frac{3}{2}) - (\frac{1}{3}\cdot 27 - \frac{3}{2}\cdot 9) + (\frac{1}{3}\cdot 64 - \frac{3}{2}\cdot 16) - (\frac{1}{3}\cdot 27 - \frac{3}{2}\cdot 9)$$

$$= \frac{1}{3} + \frac{3}{2} - \frac{27}{3} + \frac{27}{2} + \frac{64}{3} - \frac{48}{2} - \frac{27}{3} + \frac{27}{2}$$

$$= \frac{1 - 27 + 64 - 27}{3} + \frac{3 + 27 - 48 + 27}{2} = \frac{65 - 54}{3} + \frac{57 - 48}{2} = \frac{11}{3} + \frac{9}{2} = \frac{22 + 27}{6} = \frac{49}{6}$$

(c) ketabton.com: The Digital Library

پنځم مثال: د $y = x^2 - 2x$ منحني د x محور او $x = 2$ ، $x = -1$ کرښو تر منځ مساحت پيداکړئ.

حل: لومړی بحراني ټکي وروسته د x محور سره د تقاطع ټکی په لاس راوړو:

$$y = x^2 - 2x \Rightarrow y' = 2x - 2 = 0$$

$$2x = 2 \Rightarrow x = 1$$

$x = 1 \; , \; y = x^2 - 2x = 1^2 - 2(1) = -1 \Rightarrow (1, -1)$ بحراني ټکی

څرنگه چې $y'' = 2 > 0$ دی، نو تابع د $(1, -1)$ په ټکي کې مطلق اصغري لري او د x محور سره يې تقاطع په لاندې ډول ده.

$$y = 0 \quad , \quad x^2 - 2x = 0$$

$$x(x-2) = 0$$

$$x_1 = 0 \; , \; x_2 = 2$$

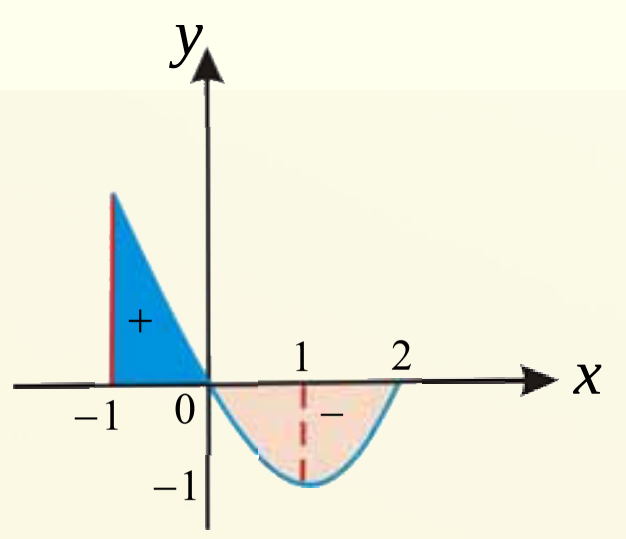

څرنگه چې منحني د $[-1,2]$ په انټروال کې له مبدأ څخه تيرېږي او د منحني يوه برخه د $[-1,0]$ په انټروال کې د x محور پورته خواته او بله برخه يې د $[0,2]$ په فاصلې کې د x محور ښکته خواته پرته ده انتيگرال يې منفي دی:

$$A = \int_{-1}^{0} (x^2 - 2x)dx - \int_{0}^{2} (x^2 - 2x)\,dx = [\frac{1}{3}x^3 - x^2]_{-1}^{0} - [\frac{1}{3}x^3 - x^2]_{0}^{2}$$

$$= (0 - (-\frac{1}{3} - 1)) - ((\frac{8}{3} - 4) - 0) = -(-\frac{1}{3} - 1) - (\frac{8}{3} - 4) = -(\frac{-1-3}{3}) - (\frac{8-12}{3})$$

$$= -(\frac{-4}{3}) - (\frac{-4}{3}) = \frac{4}{3} + \frac{4}{3} = \frac{8}{3}$$

(c) ketabton.com: The Digital Library

پوښتني

1- د $f(x)=\sin x$ منحني او د x محور تر منځ مساحت په $[-2\pi, 2\pi]$ انټروال کې حساب کړئ.

2- د $y=x^3+1$ تابع منحني او $y=1$ ، $y=2$ کرښو تر منځ مساحت وټاکئ.

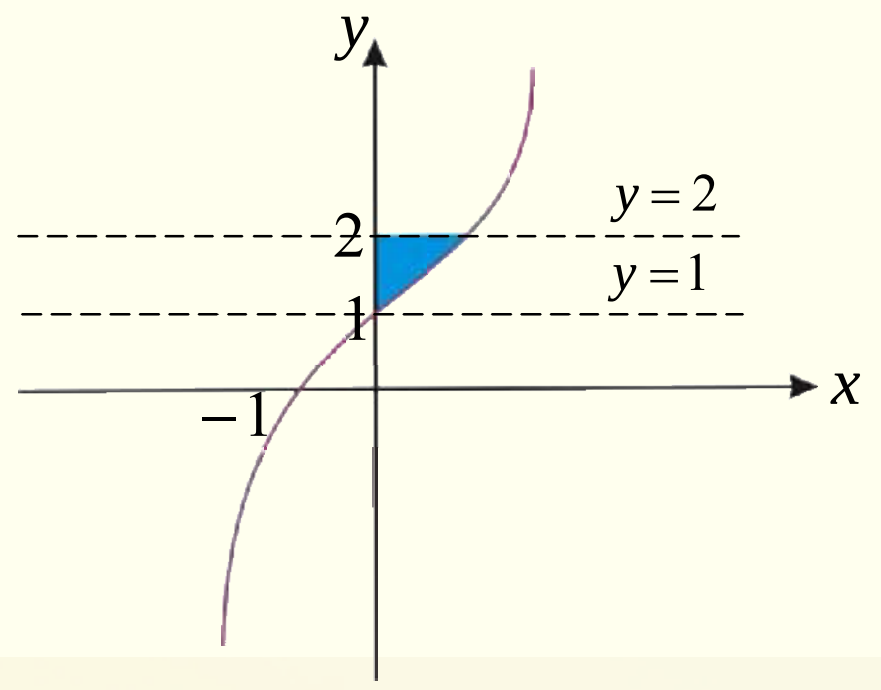

3- د $y=\frac{2x}{\sqrt{x^2+1}+x}$ منحني او د $x=0$ او $x=1$ کرښو تر منځ مساحت حساب کړئ.

(c) ketabton.com: The Digital Library

د دوو محصور شویو منحني ګانو تر منځ د مساحت محاسبه

Accounting of area bounded by tow curves

لاندې شکلونه په پام کې ونیسئ د $A = A_1 - A_2$ اړیکې د سموالي په اړه څه و یلای شئ.

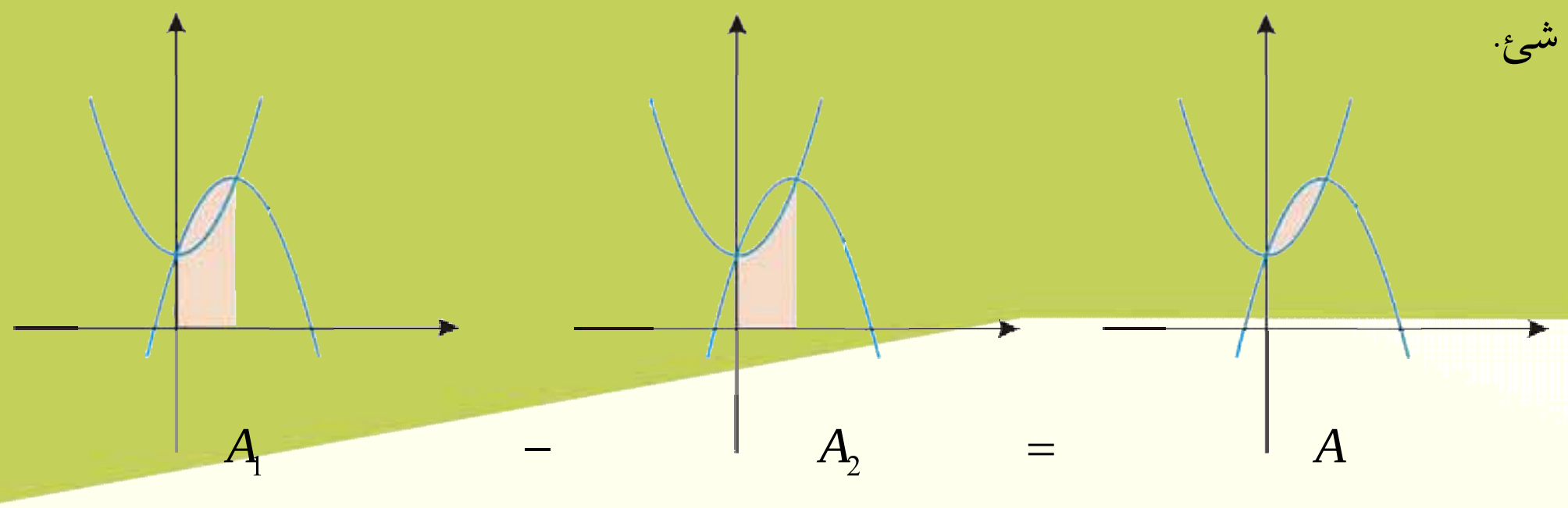

که د $y_1 = 1 - x^2$ او $y_2 = x^2 - 1$ تابعګانې راکړل شوې وي.

- د $y_1 = y_2$ رابطې څخه د x قیمت په لاس راوړئ.
- د لاس ته راغلو قیمتونو په پام کې نیولو سره د هغوی ګراف رسم کړئ.
- څرنګه چې د y_1 تابع ګراف د y_2 تابع د ګراف څخه لوړ دی نو د تابعګانو د انتیګرال د تفریق حاصل $(y_1 - y_2)$ د x په ټاکل شوی انټروال کې حساب کړئ.
- نوموړې فعالیت د $y = x^2$ تابع د منحني او $y = x + 2$ د کرښې لپاره تکرار کړئ او د محصورې شوي سطحې مساحت حساب کړئ.

د پورتنی فعالیت څخه لاندې پایلې لاسته راځي:

ـ که چیرې د $y_1 = f(x)$ او $y_2 = g(x)$ دوو منحنيګانو د محصور شوي سطحې د محاسبې لپاره په هغه صورت کې چې $f(x) > g(x)$ وي، یعنې د $f(x)$ تابع ګراف د $g(x)$ تابع دپاسه واقع وي نو لومړی د دواړو منحنيګانو د تقاطع ټکي پیداکوو وروسته د پاسني او لاندیني منحني د x د محور سره مساحت په $[a,b]$ انټروال کې محاسبه کوو:

$$A = \int_a^b [f(x) - g(x)]\,dx = \int_a^b f(x)\,dx - \int_a^b g(x)\,dx$$

(c) ketabton.com: The Digital Library

ـ که چیرې د $g(x)$ تابع ګراف د $f(x)$ تابع دګراف دپاسه واقع وي، نو لرو چې:

$$A=\int_a^b[g(x)-f(x)]dx=\int_a^b g(x)\,dx-\int_a^b f(x)\,dx$$

لومړی مثال: د $f(x)=2x-x^2$ او $g(x)=x^2$ منحني ګانو دګرافونو ترمنځ د پرتې سطحې مساحت حساب کړئ.

حل: لومړی د دواړو منحني ګانو د تقاطع ټکی پیداکوو:

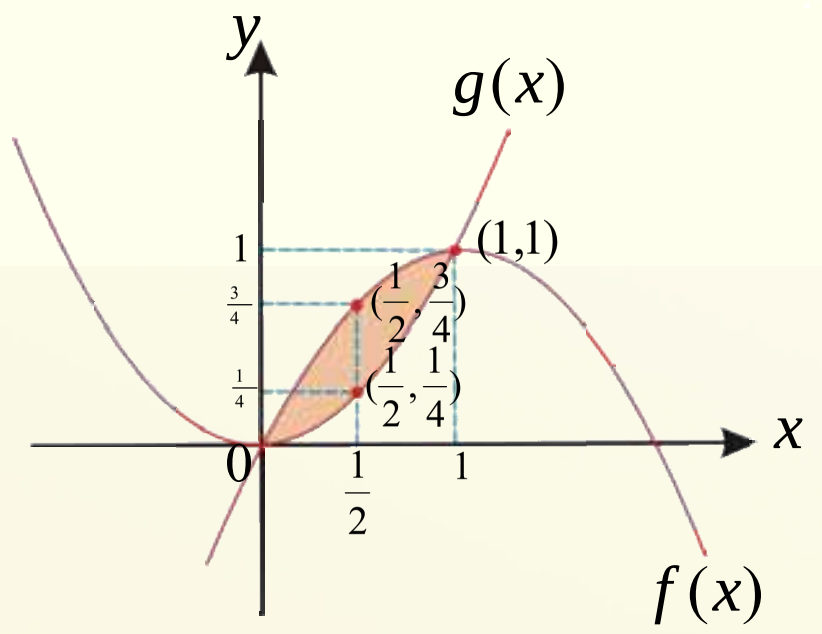

$$f(x)=2x-x^2 \quad , \quad g(x)=x^2$$
$$f(x)=g(x)\Rightarrow 2x-x^2=x^2$$
$$2x-x^2-x^2=0$$
$$2x-2x^2=0$$
$$2x(1-x)=0$$
$$2x=0 \quad \Rightarrow x_1=0$$
$$1-x=0 \quad \Rightarrow x_2=1$$

لیدل کېږي چې ددواړو منحني ګانو تقاطع (۱،۱) او (۰،۰) ده اوس د محصور شوي سطحې مساحت پیداکوو.

$$A=\int_a^b[f(x)-g(x)]=\int_0^1[2x-x^2-x^2]dx=\int_0^1[2x-2x^2]=[\frac{2x^2}{2}-\frac{2x^3}{3}]_0^1$$
$$=[x^2-\frac{2}{3}x^3]_0^1=(1-\frac{2}{3})-0=\frac{3-2}{3}=\frac{1}{3}$$

دويم مثال: د $f(x)=x^2-6x+2$ تابع او $g(x)=2-x$ کرښې دګرافونو تر منځ د پرتې سطحې مساحت حساب کړئ.

حل:

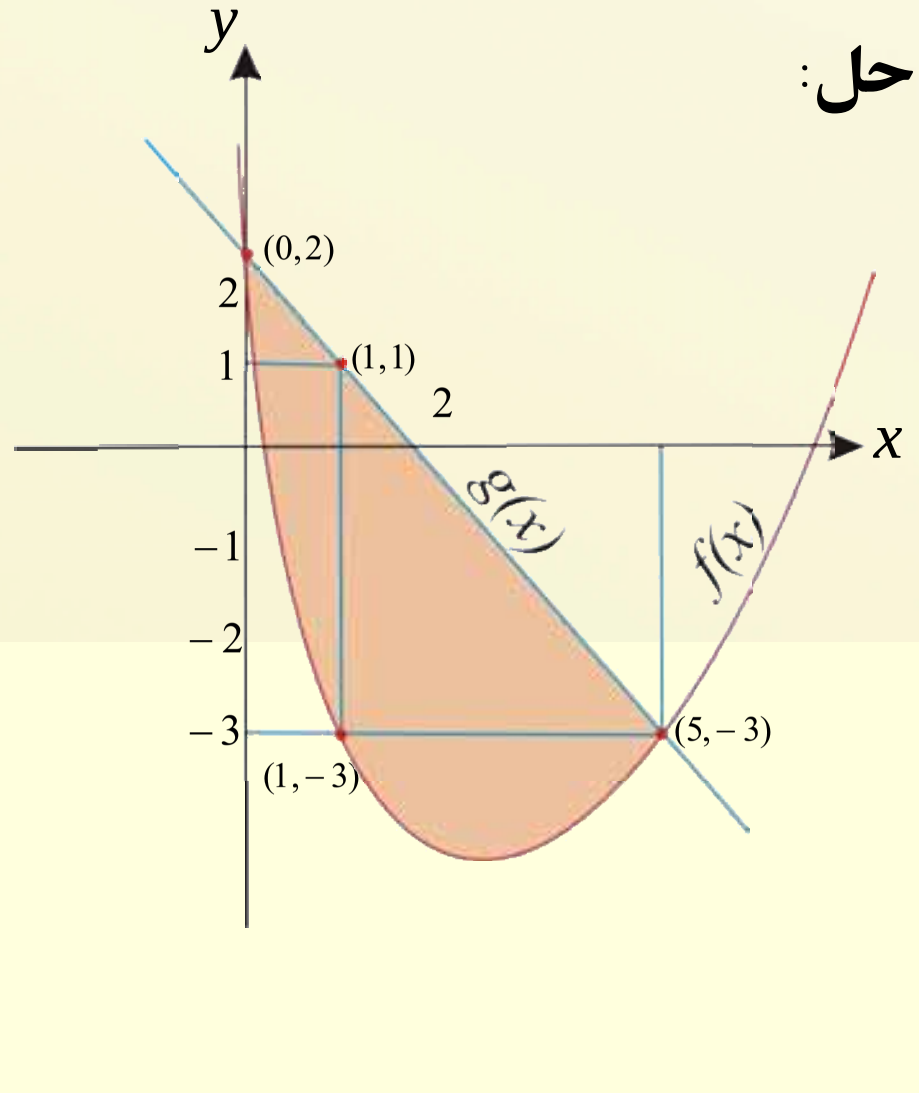

$$\left.\begin{array}{l}f(x)=x^2-6x+2\\ g(x)=2-x\end{array}\right\}\Rightarrow f(x)=g(x)$$
$$x^2-6x+2=2-x\Rightarrow x^2-6x+2-2+x=0$$
$$x^2-5x=0\Rightarrow x(x-5)=0$$
$$x_1=0 \quad , \quad x_2=5$$

د کرښې او منحني د تقاطع ټکي $\Rightarrow (0,2) \quad , \quad (5,-3)$

(c) ketabton.com: The Digital Library

له شکل څخه ښکاري چې د $g(x)$ کرښې ګراف د $f(x)$ ګراف پورته خوا ته واقع دی، په دې معنی چې $g(x) > f(x)$

$$A=\int_a^b [g(x)-f(x)]\,dx=\int_0^5 (2-x-x^2+6x-2)dx$$
$$=\int_0^5 (-x-x^2+6x)\,dx=\int_0^5 (-x^2+5x)\,dx$$
$$=[-\frac{x^3}{3}+5\frac{x^2}{2}]_0^5=(-\frac{125}{3}+5\cdot\frac{25}{2})-0=-\frac{125}{3}+\frac{125}{2}$$
$$=\frac{-250+375}{6}=\frac{125}{6}$$

دریم مثال: د $f(x)=-x^2+4x+2$ او $g(x)=x^2-2x+2$ تابعګانو د ګرافونو تر منځ د پرتې سطحې مساحت پیدا کړئ.

حل: څرنګه چې د دواړو ګرافونو د تقاطع ټکي د انتیګرال حدونه جوړوي، نو د دې ټکو د پیدا کولو لپاره $f(x)=g(x)$ وضع کوو:

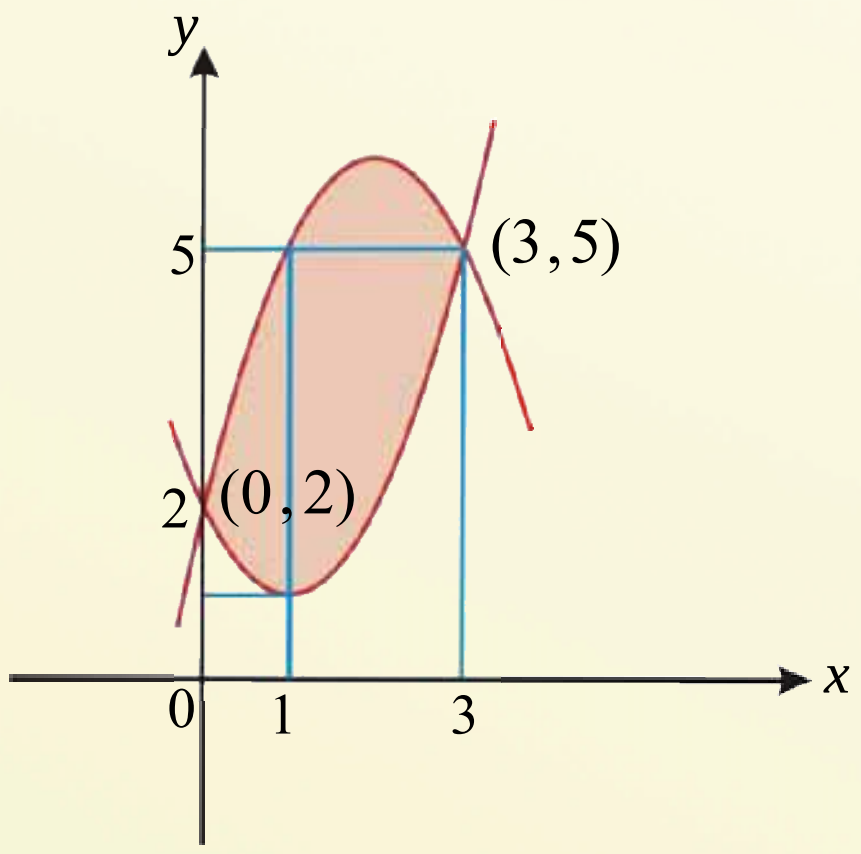

$$\left.\begin{array}{l} f(x)=-x^2+4x+2 \\ g(x)=x^2-2x+2 \end{array}\right\} \Rightarrow f(x)=g(x)$$
$$-x^2+4x+2=x^2-2x+2$$
$$\Rightarrow -x^2+4x+2-x^2+2x-2=0$$
$$-2x^2+6x=0 \Rightarrow x(-2x+6)=0$$
$$\Rightarrow x_1=0 \quad , \quad -2x=-6 \Rightarrow x_2=3$$

د دواړو منحني ګانو د تقاطع ټکي $(0,2)$, $(3,5)$

د x محور سره د تقاطع ټکي عبارت له (5،3)، (2،0) دی اوله شکل څخه لیدل کېږي چې د $g(x)$ ګراف د $f(x)$ له ګراف څخه پورته واقع دی نو لرو:

(c) ketabton.com: The Digital Library

$$A=\int_a^b[f(x)-g(x)]dx=\int_a^b f(x)dx-\int_a^b g(x)dx=\int_0^3(-x^2+4x+2)dx-\int_0^3(x^2-2x+2)dx$$
$$=[-\frac{x^3}{3}+\frac{4x^2}{2}+2x]_0^3-[\frac{x^3}{3}-\frac{2x^2}{2}+2x]_0^3$$
$$=-\frac{1}{3}\cdot 27+2\cdot 9+6-0-\frac{1}{3}\cdot 27+9-6+0$$
$$=-9+18-9+9$$
$$=9$$

پوښتني

1- د $y=x^2$ او $y=-x^2+4x$ منحني ګانو د ګرافونو تر منځ د پرتې سطحې مساحت پيدا کړئ.

2- د $y^2=2x-2$ پارابول او $y=x-5$ کرښې د ګرافونو تر منځ د سطحې مساحت حساب کړئ.

3- د $y^2=2x+6$ منحني او $y=x-1$ کرښې د ګرافونو تر منځ د سطحې مساحت محاسبه کړئ.

(c) ketabton.com: The Digital Library

د دوراني جسمونو د حجمونو محاسبه

Accounting of rounding things Volume

د مخامخ شکل د جسمونو د حجمونو تر منځ نسبت پیدا کړئ.

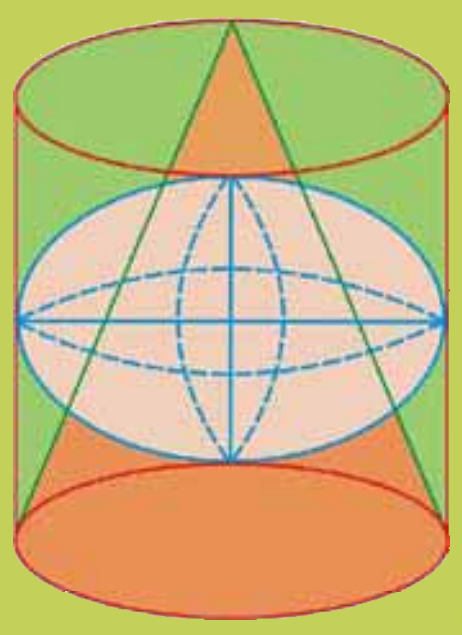

په مخکنیو ټولګیو کې مو د جسمونو حجم پیدا کړی وو پرته له دې چې د هغوی فورمولونه ثبوت شي منلي مو وو، خو اوس د جسمونو د حجم فورمولونه د معین انتیګرال څخه په ګټه اخیستني سره ثبوتوو.

فعالیت

- یو ټکی او یوه کرښه په فضا کې داسې په پام کې ونیسئ چې ټکی د کرښې په منځ کې واقع وي.
- هغه جسم چې د یوې مستقیمې کرښې له دوران څخه د یوه ټکي په شاوخوا له څرخېدو وروسته جوړېږي نوم یې واخلئ.
- د نوموړی جسم د حجم فورمول ولیکئ او ووایئ چې هغه څنګه ثبوتوو.

د پورتني فعالیت پایله داسې بیانوو:

- که چیرې د $y = f(x)$ متمادي تابع د منحني مساحت نظر (a) شکل

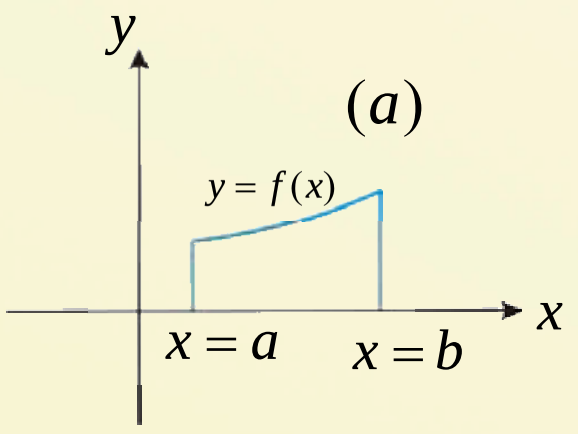

د $x = a$ او $x = b$ کرښو او منحني په واسطه محصور شوی وي، نو د هغه جسم حجم چې د پورتني تابع د منحني له دوران څخه د x محور په شاوخوا لاسته راځي تقریباً استوانه یې شکل لري، لکه د (b) شکل.

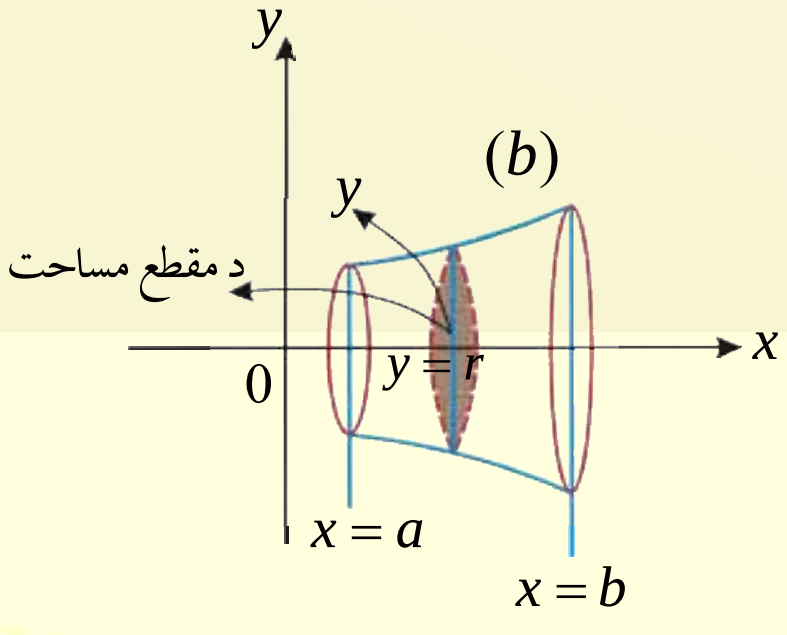

(c) ketabton.com: The Digital Library

چې ارتفاع يې $\Delta x = b - a$ ده او د دې استوانې سطح د دايروي شکل په واسطه محصوره شوې ده چې دې سطحو ته مقطع وايي او پوهېږو چې د دايرې مساحت نظر x محور ته $A(x) = \pi r^2$ دی او ددې مقطع شعاع شکل ته په کتو سره د y محور سره موازي ده؛ نو $y = r$ کېږي او د حجم فورمول يې نظر ريمان مجموع ته په لاندې ډول دی:

$$v = \lim_{n\to\infty} V_n = \lim_{n\to\infty}\sum_{i=1}^{n} A(x)\Delta x = \int_a^b \pi r^2\,dx = \int_a^b \pi y^2\,dx = \int_a^b \pi [f(x)]^2\,dx$$

- که د $x = f(y)$ تابع د منحني مساحت $y = c$ او $y = d$ کرښو ترمنځ محصور شوی وي دداسې استوانې د مقطع مساحت نظر y محور ته $A(y) = \pi r^2$ دی چې ارتفاع يې $\Delta y = d - c$ او شعاع يې $x = r$ سره ده هغه حجم چې ددې دوران څخه په لاس راځي په لاندې ډول دی:

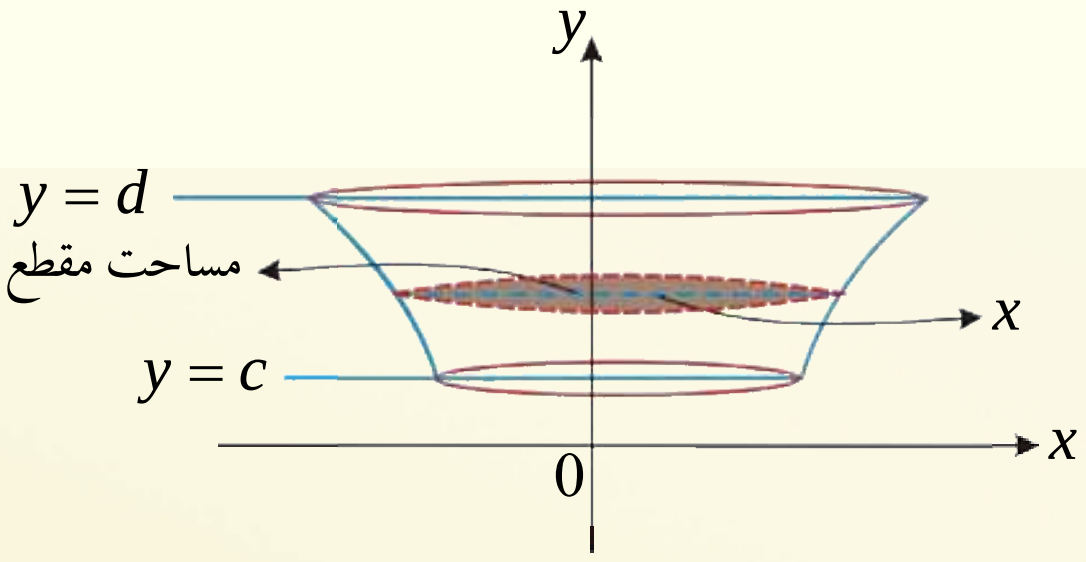

$$v = \lim_{n\to\infty} V_n = \lim_{n\to\infty}\sum_{i=1}^{n} A(y)\Delta y = \int_a^b \pi r^2\,dy = \int_a^b \pi x^2\,dy = \int_a^b \pi [f(y)]^2\,dy$$

د دوراني جسمونو حجم د انتيګرال په مرسته په لاس راځي لکه:

1- د انتيګرال په مرسته د کرې حجم پيدا کړئ.

ثبوت: پوهېږو چې که چيرې نيمه دايره د خپل قطر په شاوخوا وڅرخي کره لاس ته راځي او د دايرې معادله $x^2 + y^2 = r^2$ ده، اوس د نيمې دايرې حجم له څرخېدو وروسته په لاس راوړو او هغه دوه برابره کوو، چې د دايرې بشپړ حجم په لاس راشي

$$x^2 + y^2 = r^2$$
$$y^2 = r^2 - x^2$$

(c) ketabton.com: The Digital Library

$$V = \int_{-r}^{r} \pi y^2 dx = \pi \int_{-r}^{r} (r^2 - x^2)\, dx$$

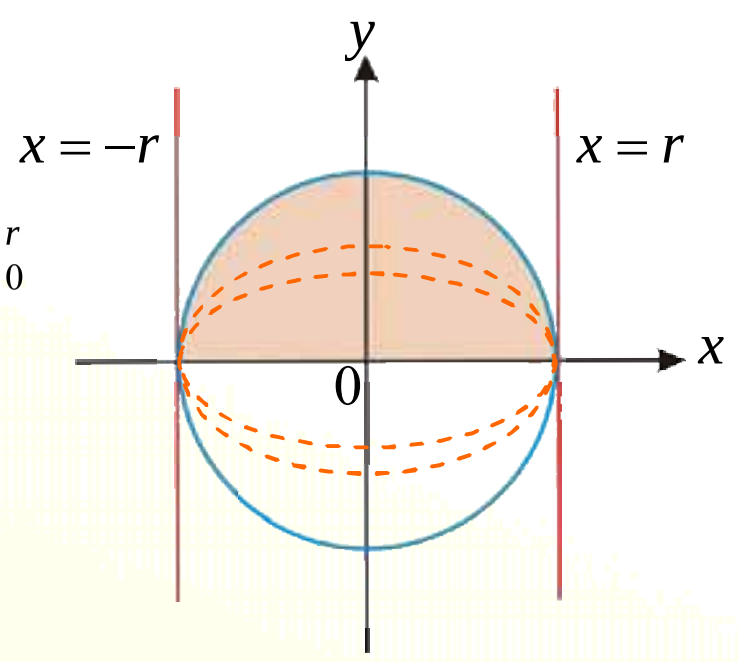

$$= 2\pi \int_{0}^{r} (r^2 - x^2)\, dx = 2\pi [r^2 x - \frac{x^3}{3}]_0^r$$

$$= 2\pi [(r^3 - \frac{r^3}{3}) - 0]$$

$$= 2\pi (\frac{3r^3 - r^3}{3})$$

$$= 2\pi (\frac{2r^3}{3})$$

$$V(\text{د کرې حجم}) = \frac{4}{3} \pi r^3$$

2- د انتیگرال په مرسته د مخروط حجم پیداکړئ.

ثبوت: خرنگه چې مخروطي سطح د $y = mx$ کرښې له دوران څخه د x د محور په چاپیریال په لاس راځي نو:

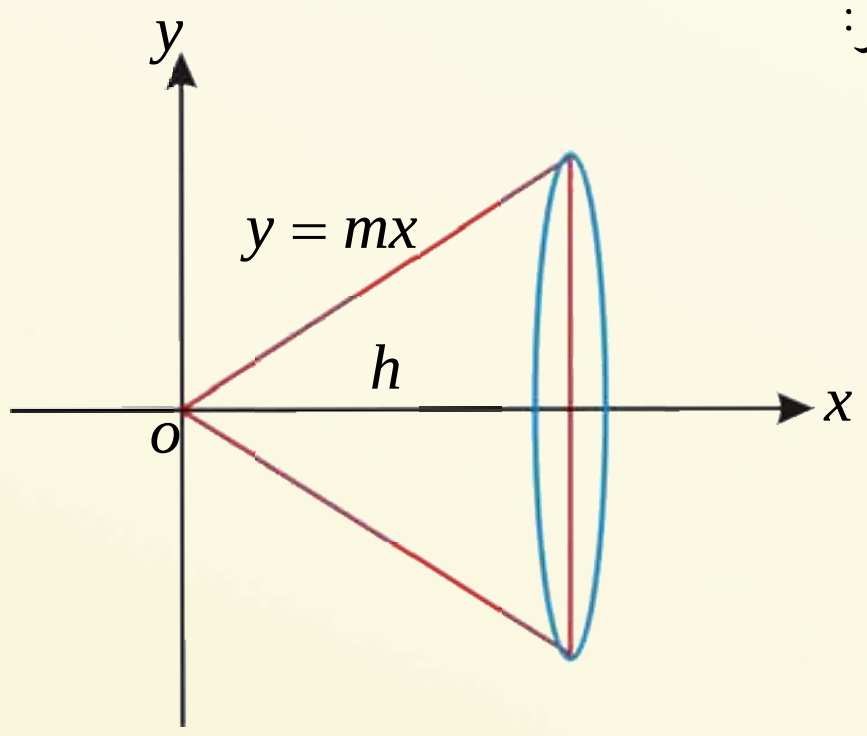

$$V = \int_0^h \pi y^2 dx$$

$$= \int_0^h \pi m^2 x^2 dx = \pi m^2 \int_0^h x^2 dx$$

$$= \pi m^2 [\frac{x^3}{3}]_0^h = \pi m^2 (\frac{h^3}{3})$$

$$= \frac{\pi h}{3} (mh)^2$$

له پورته شکل څخه لیدل کیږي چې د مخروط قاعده دایروی بڼه لري اوشعاع یې د h محور سره موازی ده، یعنې $y // r$ او همدا رنگه د مخروط ارتفاع (h) د x په محور باندې منطبق ده، $(x = h)$ نو د $y = mx$ په اړیکه کې یې قیمت وضع کوو:

$$y = mx \quad \Rightarrow \quad r = mh$$

$$= \frac{\pi h}{3} \quad r^2$$

$$V = \pi r^2 \times \frac{h}{3}$$

(c) ketabton.com: The Digital Library

څرنګه چې د مخروط قاعده دايروي ده، د دايرې مساحت πr^2 دی، لرو چې:

$$V = \pi r^2 \cdot \frac{h}{3}$$

$$V(\text{د مخروط حجم}) = \frac{1}{3}\pi r^2 h$$

3- د الپس حجم چې د $\frac{x^2}{a^2}+\frac{y^2}{b^2}=1$ د منحني او x محور په چاپير د لوی قطر په شاوخوا له دوران وروسته جوړېږي، په لاس راوړئ.

ثبوت: د الپس د نيمايي حجم د لوی قطر په شاوخوا په لاس راوړو او هغه دوه چنده کوو، چې د بشپړ الپس حجم په لاس راشي.

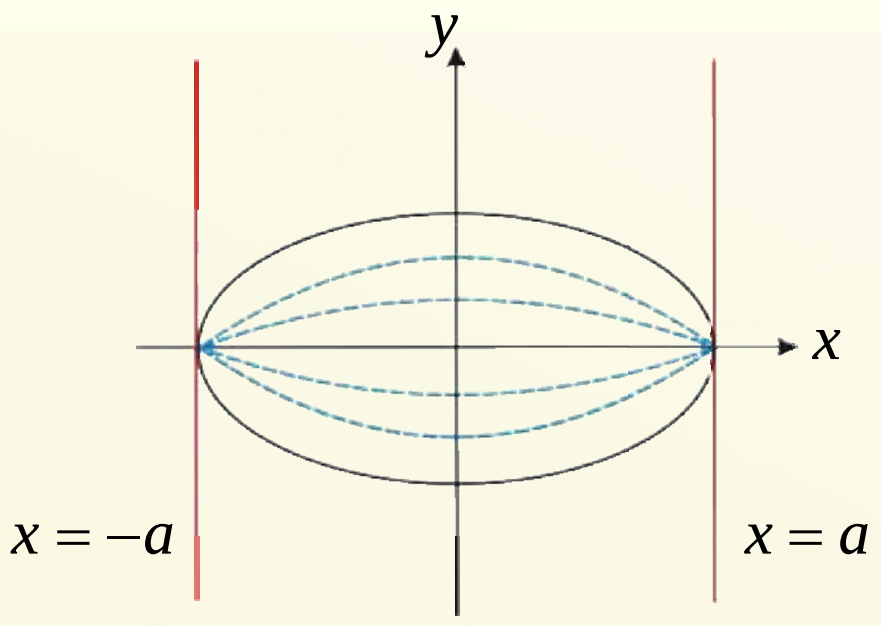

$$\frac{x^2}{a^2}+\frac{y^2}{b^2}=1$$

$$\frac{y^2}{b^2}=1-\frac{x^2}{a^2} \Rightarrow y^2 = b^2-\frac{b^2}{a^2}x^2$$

$$V = \int_{-a}^{a}\pi y^2\,dx = \pi\int_{-a}^{a}[b^2-\frac{b^2}{a^2}x^2]dx$$

$$= 2\pi\int_{0}^{a}[b^2-\frac{b^2}{a^2}x^2]dx = 2\pi[b^2x-\frac{b^2}{a^2}\cdot\frac{x^3}{3}]_0^a$$

$$= 2\pi[(b^2a-\frac{b^2}{a^2}\cdot\frac{a^3}{3})-0] = 2\pi[b^2a-\frac{b^2a}{3}]$$

$$= 2\pi[\frac{3b^2a-b^2a}{3}] = 2\pi[\frac{2b^2a}{3}]$$

$$V = \frac{4}{3}\pi b^2 a \Rightarrow \text{د الپس دوران د لوی قطر په شاوخوا حجم} = \frac{4}{3}\pi b^2 a$$

که چیرې د الپس محراقونه د y په محور پراته وي او د هغه انتګرال حساب کړو د الپس د کوچني قطر په شاوخوا حجم په لاندې ډول په لاس راځي:

$$\text{د الپس دوران د کوچني قطر په شاوخوا حجم} = \frac{4}{3}\pi a^2 b$$

(c) ketabton.com: The Digital Library

لومړی مثال: د هغه جسم حجم چې د $y=x^2$ او $y=1$ کرښې تر منځ پرتې مستوي مساحت د دوران څخه د y په محور په لاس راځي، پيدا کړئ.

حل: لومړی شکل رسموو وروسته يې مساحت حسابوو:

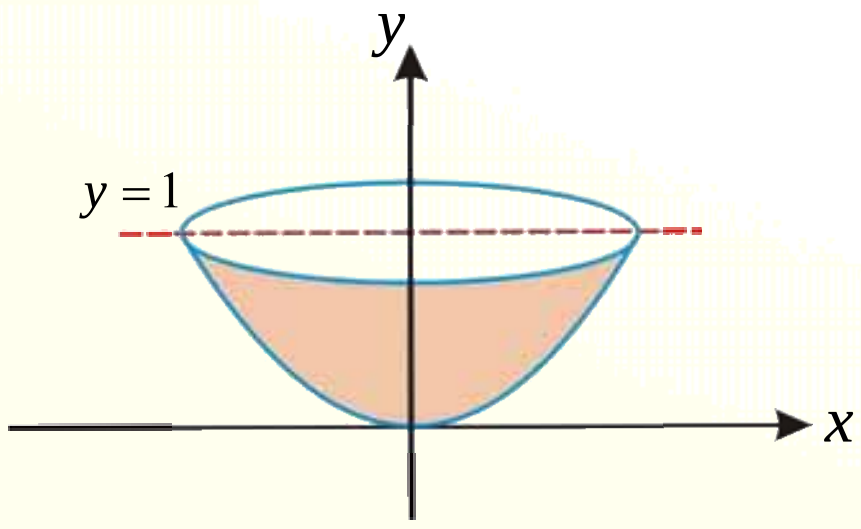

$$V=\int_a^b \pi x^2 dy=\pi\int_0^1 y\,dy=\frac{1}{2}\pi y^2\Big|_0^1=\frac{1}{2}\pi$$

$$\Rightarrow V=\frac{\pi}{2}$$

دويم مثال: د $y=\sqrt{2x}$ تابع او $y=3$ کرښې ترمنځ د څرخيدلی جسم مساحت پيدا کړئ.

حل:

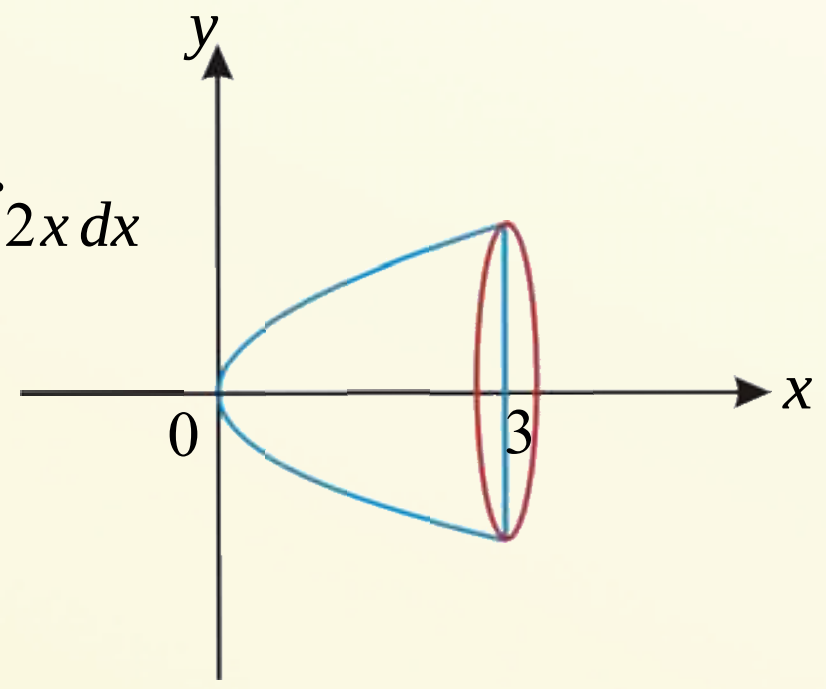

$$V=\int_a^b \pi y^2 dx=\int_0^3 \pi[\sqrt{2x}]^2 dx=\pi\int_0^3[\sqrt{2x}]^2 dx=\pi\int_0^3 2x\,dx$$

$$V=2\pi\int_0^3 x\,dx=2\pi[\frac{x^2}{2}]_0^3$$

$$V=9\pi$$

يادونه: که د $y_1=f(x)$ او $y_1=g(x)$ تابعګانې په $[a,b]$ انټروال کې متمادي وی د هغه دوراني جسم حجم د $f(x)$ او $g(x)$ منحني ګانو او د $x=a$ ، $x=b$ کرښو تر منځ جوړېږي له لاندې رابطې څخه لاسته راځي:

$=\Delta x$ د استوانې ارتفاع

$A(x)=$ (د استوانې د مقطع مساحت) $=\pi y_1-\pi y_2=\pi(y_1-y_2)$

د هغې استوانې د حجم فورمول چې د $f(x)$ تابع ګراف د $g(x)$ تابع ګراف څخه پورته قرار لري.

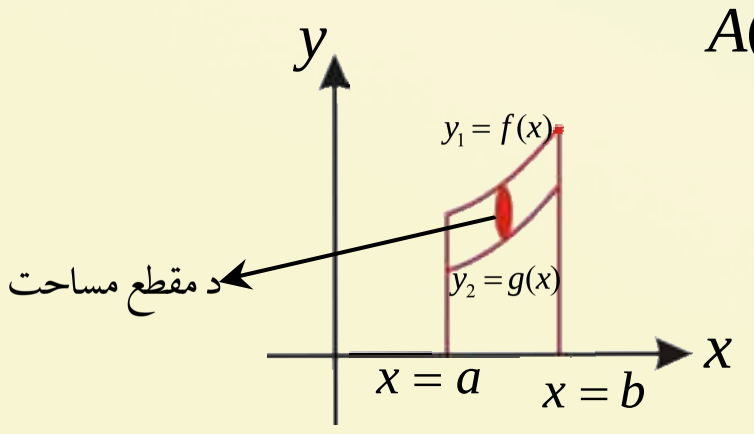

$$V=\int_a^b \pi(y_1^2-y_2^2)\,dx=\pi\int_a^b(y_1^2-y_2^2)\,dx$$

(c) ketabton.com: The Digital Library

د هغې استوانې د حجم فورمول چې د $g(x)$ تابع ګراف ، د $f(x)$ ګراف څخه پورته واقع وي.

$$V = \int_a^b \pi(y_2^2 - y_1^2)\,dx = \pi\int_a^b (y_2^2 - y_1^2)\,dx$$

مثال: د هغه جسم حجم پیدا کړئ چې د $y = x^2$ منحني او $y = x$ کرښې تر منځ د پرتې سطحې مساحت له دوران څخه د x محور په شاوخوا په لاس راځي، محاسبه کړئ.

حل:

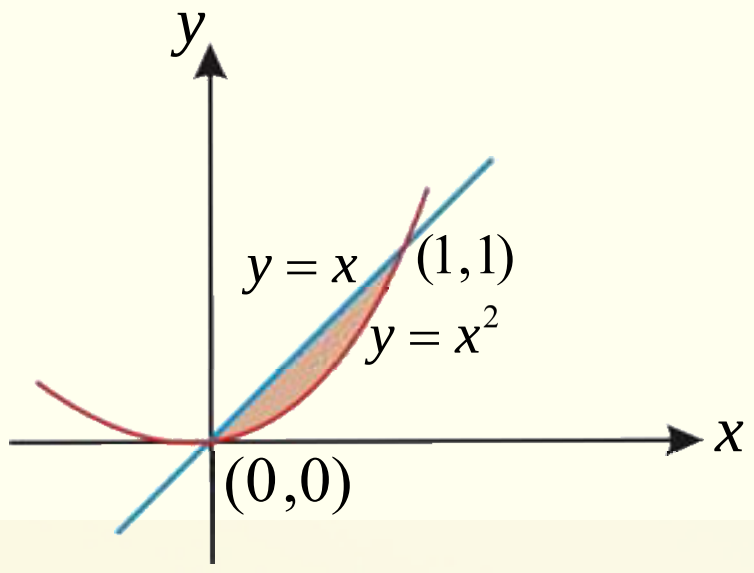

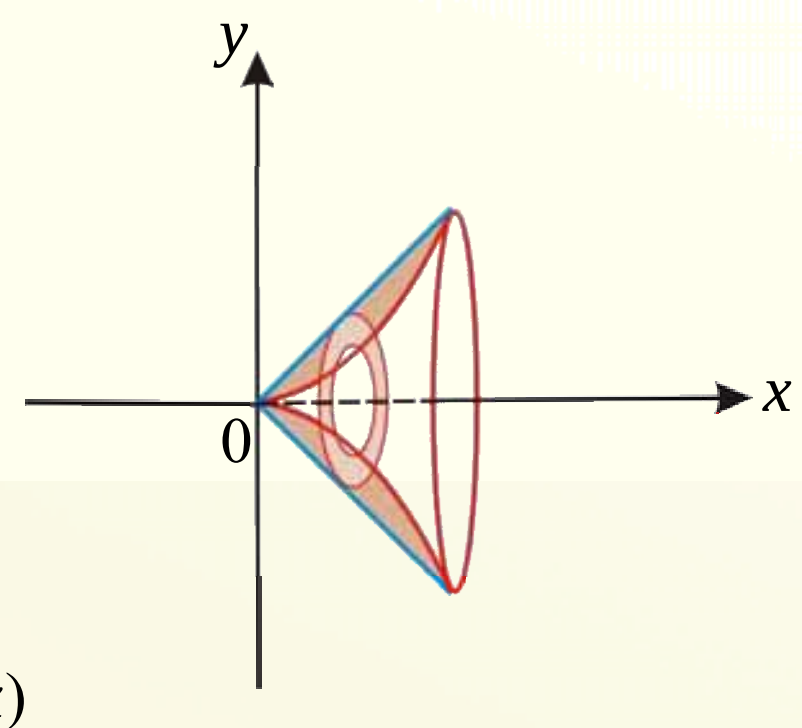

$$\left.\begin{array}{l} y_1 = x^2 = f(x) \\ y_2 = x = g(x) \end{array}\right\} \Rightarrow y_2 > y_1 \,,\; g(x) > f(x)$$

$$= \int_a^b \pi(y_2^2 - y_1^2)\,dx = \int_0^1 \pi(x^2 - (x^2)^2)dx$$

$$= \pi\int_0^1 (x^2 - x^4)\,dx = \pi[\frac{x^3}{3} - \frac{x^5}{5}]_0^1$$

$$= \pi[(\frac{1}{3} - 0) - (\frac{1}{5} - 0)] = \pi[\frac{1}{3} - \frac{1}{5}]$$

$$V = \pi[\frac{5-3}{15}] = \pi[\frac{2}{15}] = \frac{2\pi}{15}$$

پوښتنې

1. د هغه جسم حجم چې د $y = \sin x$ تابع او د $x = 0$ او $x = \pi$ دوو کرښو تر منځ محصور شوی مساحت له دوران څخه د x د محور په چاپیر جوړېږي پیدا کړئ.
2. د هغه جسم حجم پیدا کړئ چې د $y = x^3$ منحني او $y = 8$ ، $x = 0$ کرښو ترمنځ محصور شوی مساحت له دوران څخه د y د محور په چاپیر جوړېږي حساب کړئ؟

(c) ketabton.com: The Digital Library

د قوس د اوږوالی محاسبه

Accounting the Length of Arc

څرنګه کولای شو چی د مخامخ پرې اوږدوالی پیداکړو؟



- د قایمو مختصاتو په سیستم کې د $y = f(x)$ تابع په $[a,b]$ انټروال په پام کې ونیسئ او هغې ته $\overset{\frown}{A}$ ووایې، داسې چې تابع په نوموړی فاصله کې متمادي او د مشتق وړ وي.
- د $[a,b]$ انټروال په دریو مساوي برخو ویشو او د x_1 او د x_2 د قوس اوږدوالی په M_1 او M_2 ښیو.
- د M_1 له ټکي څخه یوه ټوټه کرښه د M_2 په ټکي او یوه بله کرښه، د هغې په مخامخ کرښه رسموو او د دوارو ټوټه کرښو، د تقاطع ټکی ونوموئ.
- د M_1 د کرښې فاصلې ته Δx او M_2 ته Δy وایې او د $M_1 M_2$ د قایم الزاویه مثلث د مخامخ قوس اوږوالی د فیثاغورث د قضیې په مرسته حساب کړئ.

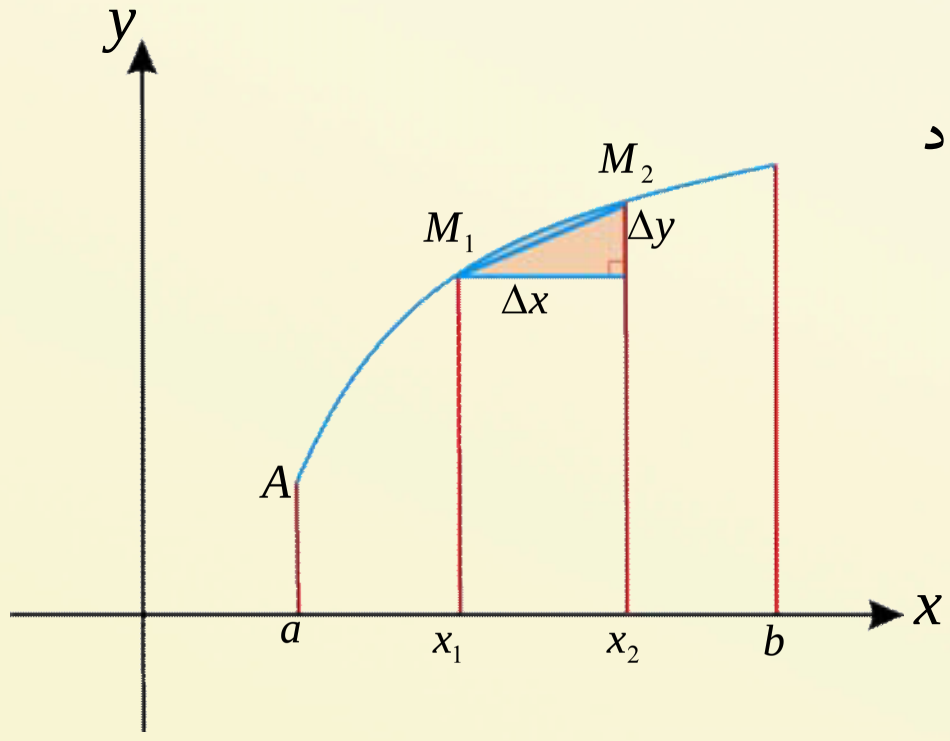

له پورتني فعالیت څخه کولای شو، چې د $M_1 M_2$ مثلث د مخامخ قوس اوږدوالی داسې ثبوت کړو.

ثبوت:

له قایم‌الزاویه $M_1 M_2$ مثلث څخه په ګټې اخیستني سره لرو چې:

$$(M_1 M_2)^2 = (\Delta x)^2 + (\Delta y)^2$$

$$M_1 M_2 = \sqrt{(\Delta x)^2 + (\Delta y)^2}$$

(c) ketabton.com: The Digital Library

د مشتق له تعريف څخه پوهېږو:

$$f'(t)=\frac{\Delta x}{\Delta t} \quad , \quad g'(t)=\frac{\Delta y}{\Delta t}$$

$$\Delta x = f'(t)\cdot\Delta t \quad , \quad \Delta y = g'(t)\cdot\Delta t$$

$$M_1M_2=\sqrt{(\Delta x)^2+(\Delta y)^2}=\sqrt{[f'(t)\cdot\Delta t]^2+[g'(t)\cdot\Delta t]^2}$$

$$M_1M_2=\sqrt{[f'(t)]^2+[g'(t)]^2}\cdot\Delta t$$

نو د ريمان له مجموعې څخه لرو:

$$=\lim_{n\to\infty}\sum_{i=1}^{n}\sqrt{[f'(t)]^2+[g'(t)]^2}\cdot\Delta t$$

$$=\int_a^b\sqrt{[f'(t)]^2+[g'(t)]^2}\,dt$$

لومړی مثال: د $x^2+y^2=r^2$ د دايرې محيط محاسبه کړئ:

حل: څرنګه چې د دايرې پارامتري معادله په دې ډول $\begin{cases} x=r\cos t \\ y=r\sin t \end{cases}$ ده.

که چيرې $0\le t\le\pi$ وي، نو د دايرې نمايي محيط پيدا کړئ.

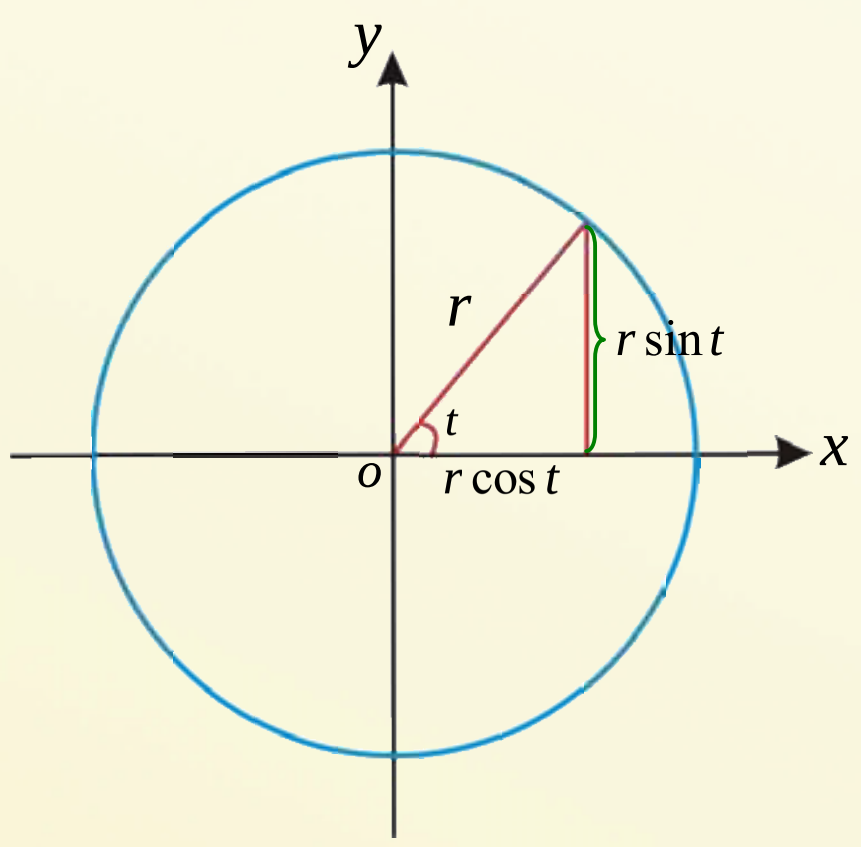

$$P=\int_0^{\pi}\sqrt{x'^2+y'^2}\,dt$$

$$x'=-r\sin t \quad , \quad y'=r\cos t$$

$$P=\int_0^{\pi}\sqrt{(-r\sin t)^2+(r\cos t)^2}\,dt$$

$$P=\int_0^{\pi}\sqrt{r^2\sin^2 t+r^2\cos^2 t}\,dt$$

$$P=\int_0^{\pi}\sqrt{r^2(\sin^2 t+\cos^2 t)}\,dt=\int_0^{\pi}\sqrt{r^2}\,dt$$

$P=[rt]_0^{\pi}=(r\cdot\pi-r\cdot 0)=\pi r$ د دايرې نيمايي محيط

د دايرې مکمل محيط $=2\pi r$

(c) ketabton.com: The Digital Library

یادونه:

1- د $y = f(x)$ منحني معادله په $a \le x \le b$ انټروال کې راکړل شوې ده، د x د پارامتر په پام کې نیولو سره د منحنی د قوس اوږدوالی داسې محاسبه کوو:

$$= \int_a^b \sqrt{1+f'^{2}(x)}\,dx$$

مثال: د $y = f(x) = x^{\frac{3}{2}}$ منحني د قوس اوږدوالي په $0 \le x \le 4$ فاصله کې حساب کړئ.

حل: $f(x) = x^{\frac{3}{2}} \Rightarrow f'(x) = \frac{3}{2}x^{\frac{1}{2}}$

$$= \int_a^b \sqrt{1+f'^{2}(x)}\,dx = \int_0^4 \sqrt{1+(\frac{3}{2}x^{\frac{1}{2}})^2}\cdot dx$$

$$= \int_0^4 \sqrt{1+\frac{9}{4}x}\,dx = \int_0^4 \sqrt{u}\cdot\frac{4}{9}du = \frac{4}{9}\int_0^4 u^{\frac{1}{2}}du$$

$$u = 1+\frac{9}{4}x$$

$$du = \frac{9}{4}dx$$

$$dx = \frac{4}{9}du$$

$$= \frac{4}{9}[\frac{u^{\frac{1}{2}+1}}{\frac{1}{2}+1}]_0^4 = \frac{4}{9}\cdot\frac{2}{3}[u^{\frac{3}{2}}]_0^4 = \frac{8}{27}[\sqrt{u^3}]_0^4$$

$$= \frac{8}{27}[\sqrt{(1+\frac{9}{4}x)^3}]_0^4 = \frac{8}{27}[\sqrt{(1+\frac{9}{4}\cdot 4)^3} - 1] = \frac{8}{27}(\sqrt{10^3} - 1)$$

$$= \frac{8}{27}(10\sqrt{10} - 1)$$

2- د $x = f(y)$ منحني په $a \le y \le b$ انټروال کې راکړل شوې ده، د y د پارامتر د په پام کې نیولو سره لرو، چې:

$$= \int_a^b \sqrt{f'^{2}(y)+1}\,dy$$

مثال: د $x = f(y) = y^{\frac{3}{2}}$ منحني د قوس اوږدوالی په $1 \le y \le 4$ انټروال کې حساب کړئ.

(c) ketabton.com: The Digital Library

حل:

$$f(y)=y^{\frac{3}{2}} \quad , \quad f'(y)=\frac{3}{2}\cdot y^{\frac{1}{2}}$$

$$=\int_a^b\sqrt{f'^2(y)+1}\,dy=\int_1^4\sqrt{(\frac{3}{2}\cdot y^{\frac{1}{2}})^2+1}\,dy$$

$$=\int_1^4\sqrt{\frac{9}{4}y+1}\,dy=\int_1^4\sqrt{u}\cdot\frac{4}{9}du \qquad u=\frac{9}{4}y+1$$

$$=\frac{4}{9}\cdot\frac{2}{3}[u^{\frac{3}{2}}]_1^4=\frac{8}{27}[\sqrt{(\frac{9}{4}y+1)^3}]_1^4 \qquad du=\frac{9}{4}dy$$

$$=\frac{8}{27}[\sqrt{(10)^3}-\sqrt{(\frac{9}{4}+1)^3}] \qquad dy=\frac{4}{9}du$$

$$=\frac{8}{27}[\sqrt{1000}-\sqrt{(\frac{13}{4})^3}]=\frac{8}{27}[10\sqrt{10}-\sqrt{\frac{2197}{64}}]$$

پوښتني

1. د $x=t^2$ او $y=t^3$ د منحنيگانو د قوس اوږدوالی د $1\le x\le 2$ د فاصلې تر منځ پیداکړئ.

2. د $f(x)=\frac{1}{2}x^{\frac{3}{2}}$ د منحني د قوس اوږدوالی د $0\le x\le 1$ د فاصلې تر منځ پیداکړئ.

(c) ketabton.com: The Digital Library

(c) ketabton.com: The Digital Library

د څېړکي مهم ټکي

- د $\int_a^b f(x)\,dx = F(b)-F(a)$ انتيګرال د يوې سطحې د مساحت اندازه يا پراخوالی راښيي چې د $y=f(x)$ منحني او د x د محور او د $x=a$ او $x=b$ کرښو له خوا رابند دی.
- که د $f(x)$ تابع په $[a,b]$ انټروال کې مثبت او متمادي وي، يعنې $y=f(x)\geq 0$ په دې صورت کې د $f(x)$ تابع تل د x د محور پورته خواته او که $y=f(x)\leq 0$ وي، په دې حالت کې د $f(x)$ د x د محور لاندې خواته واقع او انتيګرال يې منفي دی.

د دوو منحني ګانو په واسطه د محصور شوی مساحت محاسبه:

- که چيرې د $f(x)$ تابع د $g(x)$ تابع د ګراف په پورتنۍ برخه کې واقع وي، نو لرو:

$$A=\int_a^b [f(x)-g(x)]\,dx=\int_a^b f(x)\,dx-\int_a^b g(x)\,dx$$

- که چيرې د $g(x)$ تابع ګراف د $f(x)$ تابع په پاسنۍ برخه کې واقع وی؛ لرو چې:

$$A=\int_a^b [g(x)-f(x)]dx=\int_a^b g(x)dx-\int_a^b f(x)dx$$

د دوراني جسمونو د حجم مساحت:

- که چيرې د $y=f(x)$ متمادي تابع مساحت د $x=a$ او $x=b$ کرښو په واسطه محصور شوی وي، نو د هغه جسم حجم چې د پورتني تابع له منحني د دوران څخه د x محور په شاوخوا لاسته راځي تقريباً استوانه‌يي شکل لري .

چې ارتفاع يې $\Delta x=b-a$ ده او د دې استوانې سطح د دايروي سطحو په واسطه محصوره شوې ده چې دې سطحو ته مقطع وايي او پوهيږو چې د دايرې مساحت نظر د x محور ته $A(x)=\pi r^2$ دی او ددې مقطع شعاع نظر شکل ته د y له محور سره موازي دی؛ نو $y=r$ کيږي او د حجم فورمول يې نظر د ريمان مجموعې ته په لاندې ډول دی:

$$v=\lim_{n\to\infty} V_n=\lim_{n\to\infty}\sum_{i=1}^{n} A(x)\Delta x=\int_a^b \pi r^2\,dx=\int_a^b \pi y^2\,dx=\pi\int_a^b [f(x)]^2\,dx$$

- که د $x=f(y)$ تابع مساحت د $y=c$ ، $y=d$ کرښو ترمنځ محصور شوی وي دداسې استوانې مقطع نظر y محور ته $A(y)=\pi r^2$ چې ارتفاع يې $\Delta x=d-c$ او شعاع يې $x=r$ سره ده هغه حجم چې ددې دوران د مساحت څخه په لاس راځي په لاندې ډول دی:

$$v=\lim_{n\to\infty} V_n=\lim_{n\to\infty}\sum_{i=1}^{n} A(y)\Delta y=\int_a^b \pi r^2\,dy=\int_a^b \pi x^2\,dy=\pi\int_a^b [f(y)]^2\,dy$$

د قوس د اوږدوالی محاسبه:

د قوس د اوږدوالی د محاسبې فورمول:

$$=\int_a^b \sqrt{[f'(t)]^2+[g'(t)]^2}\,dt$$

1) $$=\int_a^b \sqrt{1+f'^2(x)}\,dx$$

2) $$=\int_a^b \sqrt{1+f'^2(y)}\,dy$$

د شپږم څپرکي پوښتنې

1. د $y^2-x-5=0$ منحني او د y د محور تر منځ د پرتې سطحې مساحت محاسبه کړئ.
2. د هغې سطحې مساحت چې د $y=\sin x$ منحني په $[0,2\pi]$ انټروال کې او د x د محور تر منځ پرته ده، پیدا کړئ.
3. د $y=x^2-2x$ او $y=6x-x^2$ منحني ګانو تر منځ د پرتې سطحې مساحت حساب کړئ.
4. د $y=-x^2+4x-3$ منحني او x محور تر منځ د پرتې سطحې مساحت پیدا کړئ.
5. د $y=x^3-6x^2+8x$ او $y=x^2-4x$ منحني ګانو تر منځ د پرتې سطحې مساحت پیدا کړئ.
6. د هغه جسم حجم وټاکئ چې د $y=\sin x-\cos x$ منحني او $x=0$, $x=\frac{\pi}{2}$ کرښو د x محور په شاوخوا له دوران څخه په لاس راځي، حساب کړئ.
7. د هغې سطحې حجم چې د $y=\frac{1}{4}x^2+2$ منحني د تابع له دوران څخه د x د محور پرشاوخوا په $[0,4]$ انټروال کې جوړ شوي وي.
8. د هغې رابندې شوې مسطحې د جسم حجم چې د $y=x^2$ منحني او د $x^2+y^2=2$ دایرې له دوران څخه د x محور په شاوخوا جوړ شوې وي پیدا کړئ.
9. د هغه جسم حجم چې د $y=\frac{1}{2}x+1$ کرښې دوران او د x محور په $[2,6]$ انټروال کې جوړېږي، په لاس راوړئ.
10. د $y=-x+4$ منحني د قوس اوږدوالی په $-2\le x\le 2$ انټروال کې حساب کړئ.
11. د $y=\frac{4}{3}x+\frac{4}{3}$ تابع د منحني د قوس اوږدوالی په $2\le x\le 5$ انټروال کې پیدا کړئ.

(c) ketabton.com: The Digital Library

اووم څپرکی

احصائیه

(c) ketabton.com: The Digital Library

(c) ketabton.com: The Digital Library

موږ ټول افغانان یو.

(c) ketabton.com: The Digital Library

د احتمال د تابع توزیع

د تصادفي ازمايښت، نمونه‌يي فضا او ناخاپه متحول کلمې ستاسو په ذهن کې څه څه را ژوندي کوي.

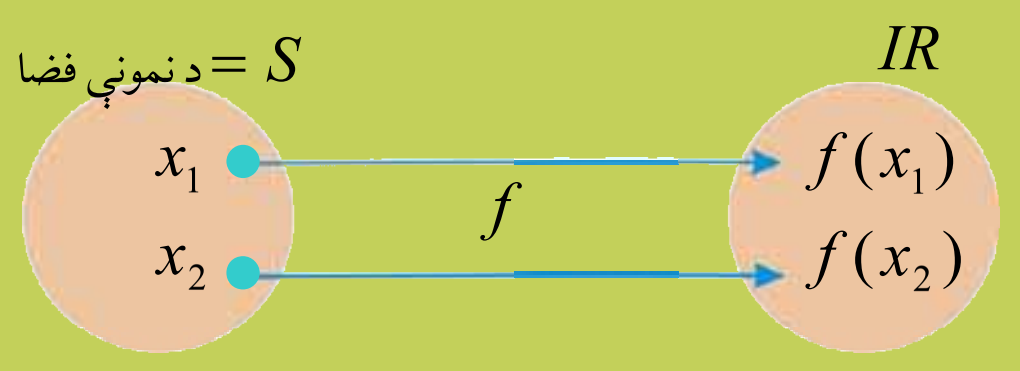

- هغه تصادفي متحول چې په احصائيه او احتمالاتو کې تري گټه اخلي، له هغه متحول سره چې په الجبر کې مو لوستي دی څه توپير لري؟
- که $x_1, x_2 \ldots x_n$ د يوه سټ عناصر او $P(x = x_i) = f(x_i)$ تابع ولرو، هغه مرتبې جوړې چې د نوموړی تابع څخه په لاس راځي، جوړې او بيا يې وليکئ.
- مخامخ شکل ته په کتني سره د k_1 او k_2 مقدارونو ترمنځ او $f(x)$ د منحني لاندينی محدود شوی مساحت د انتيگرال په شکل وښيئ.

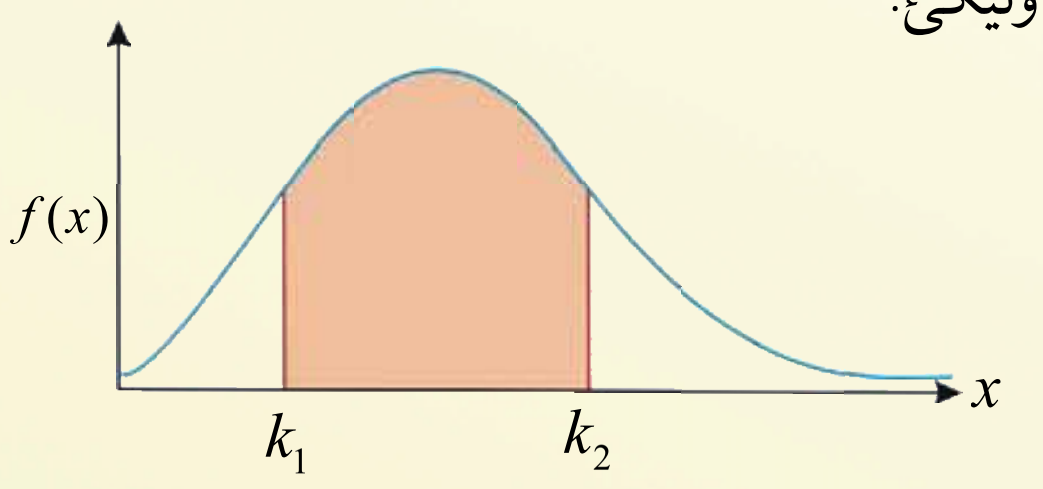

- د لاندې جدول په پام کې نيولو سره د $x_i f(x_i)$ $[E(x = x_i)] = \sum_{i=1}^{2} x_i f(x_i)$ ، $[x_i - E(x_i)]^2$ او $[x_i - E(x_i)]^2 f(x_i)$ مجموعه په لاس راوړئ.

x_i	0	1
$f(x_i)$	0.5	0.5

د پورتنی فعالیت پایله داسې بیانوو:

ـ هغه تصادفي متحول چې په احصائیه او احتمالاتو کې تر ټولو ډېر لاندې نیول کېږي عبارت له هغه تابع څخه دی، چې د تعریف ناحیه یې نمونه‌یي فضا او د قیمتونو ناحیه یې حقیقي اعداد دي.

ـ که $P(x=x_i)=f(x_i)$ ولرو نو د $[x_1, f(x_1)], [x_2, f(x_2)], \dots, [x_n, f(x_n)]$ مرتبو جوړو ته د مجزا(گسسته) احتمال تابع وايي.

- د تجمعي او پیوسته احتمال تابع کولای شو، په دې بڼه $F(x)=P(X\le x)$ وښیو.
- که چیرې $f(x)$ د احتمال تابع او x تصادفي متحول وي، په دې صورت کې د دې احتمال چې x د k_1 او k_2 په منځ کې وي برابر دی له:

$$P(k_1\le x\le k_2)=\int_{k_1}^{k_2} f(x)\,dx$$

- که چیرې x پیوسته ناڅاپه (تصادفي) متحول او $k_1<k_2$ څخه وي، په دې صورت کې:

$$P(k_1\le x\le k_2)=F(k_2)-F(k_1)$$

- که چیرې x ناڅاپه مجزا متحول وي، په دې حالت کې اوسط (*Expected Value*) د x تصادفي مجزا متحول چې د $E(x)$ په بڼه ښودل کېږي، برابر دی له:

$$E(x)=x_1f(x_1)+x_2f(x_2)+\dots\dots\dots+x_nf(x_n)=\sum_{i=1}^{n}x_if(x_i)$$

$E(x)$ د x اوسط هم بلل کېږي چې هغه په $\bar{x}$ ښيي همدارنگه که چیرې x گسسته تصادفي متحول وي، په دې صورت کې د x وریانس چې د S^2 په شکل ښودل کېږي برابر دی له:

$$S^2=\sum_{i=1}^{n}[x_i-E(x_i)]^2 f(x_i)$$

(c) ketabton.com: The Digital Library

مثال: یو شخصي شرکت غواړي د یوې غونډۍ پر سر د اوبو یوه څاه وکني، د اوبو څاه په یو میلیون افغانۍ تمامېږي که نوموړې څاه اوبه ورکړي د شرکت مالك لس میلیونه افغانۍ اجوره اخلي، پرته له هغې بـه د څـاه د کېندلو یو میلیون افغانۍ مصرف په زیان ورکړي.

الف_ دا موضوع د یوې تابع په بڼه وښیئ.

ب_ که د دې احتمال چې کیندل شوې څاه اوبه ورکړي 0.2 او د نه ورکولو احتمال یې 0.8 وي، په دې صورت کې د احتمال تابع، اوسط (*Expected Value*)، وریانس او د x تصادفي متحول معیاري انحراف پیدا کړئ.

د الف حل:

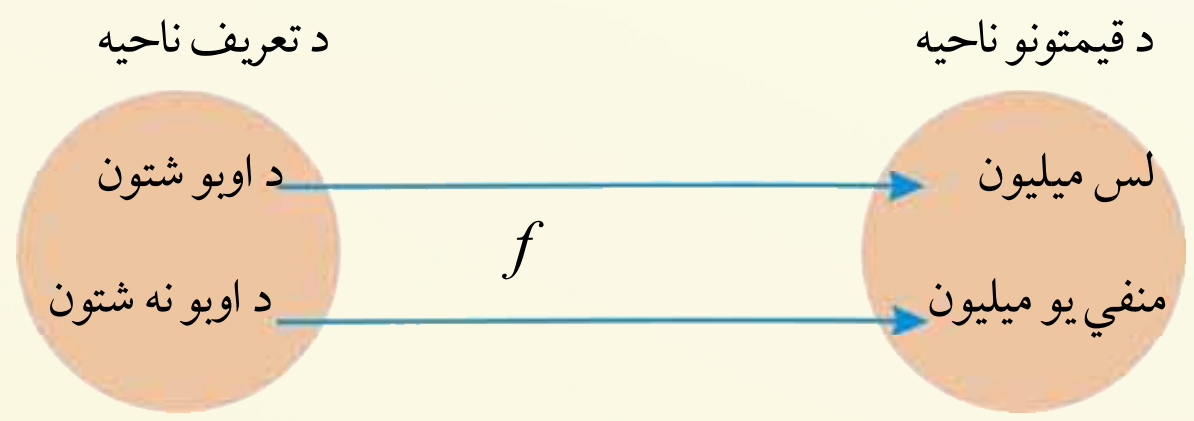

د ب حل: د تصادفي متحول احتمال تابع، اوسط، وریانس او معیاري انحراف په لاندې جدول کې ښودل شوي دي:

تصادفي متحول	د تابع احتمال	اوسط	د تصادفي متحول د مربعاتو انحراف د تصادفي متحول له اوسط څخه	واریانس	انحراف معیار
x_i	$f(x_i)$	$E(x)=\sum x_i f(x_i)$	$[x_i-E(x)]^2$	$S^2=[x_i-E(x)]^2 f(x_i)$	S
-1	0.8	$-1\cdot 0.8=-0.8$	$(-1-1.2)^2=4.84$	$4.84\cdot 0.8=3.872$	4.4
10	0.2	$10\cdot 0.2=2$	$(10-1.2)^2=77.44$	$77.44\cdot 0.2=15.488$	
	0.1	1.2		$\sum S^2=19.360$	

(c) ketabton.com: The Digital Library

پوښتنې

فرض کوو چې د یوه موټر پلورنځي د 100 ورځو خرڅلاو په لاندې ډول دی:

د ورځو شمېر	60	30	8	2
د پېرودل شوو موټرو شمېر	0	1	2	3

د x تصادفي متحول د احتمال تابع او د تجمعي احتمال تابع پیدا کړئ.

د تجمعي احتمال له تابع څخه په ګټه اخېستنې سره ووایئ چې په یوه ورځ کې حداکثر احتمال د (2) موټرونو او حداقل احتمال د دوو موټرونو په کومه کچه ده؟

(c) ketabton.com: The Digital Library

د دوه جمله‌یي توزیع او د برنولي ازمویښت

یو ګڼ‌شمېر کوونکي د پوهنتون د کانکور په آزموینه کې د 160 سؤالونو څخه 100 سؤالونه حل کړل. تاسې څه سوچ کوئ چې دا ګڼ‌شمېر کوونکي په آزموینه کې بریالي کېږي او یا بې نتیجه پاتې کېږي؟

د احتمال دوه جمله‌یي توزیع یوه مجزا توزیع ده چې د مختلفو پېښو د توصیف لپاره په کار وړل کېږي اکثراً پېښې چې په نړۍ کې منځ ته راځي دوه حالتونه لري.

فعالیت

د لاندې آزموینتي پېښو د شرطونو څخه څه ډول پایلې په لاس راوړلای شئ.

- څو ځلې دوه سکې واچول شي چې سمدلاسه دواړه شېر راشي.
- څو ځلې دوه تاسه واچول شي چې د شمېرو مجموعه یې له 7 څخه کوچنۍ شي.
- د یوې جعبې څخه څو ځلې د یوې مرۍ(مهره) اخېستل چې د تورو او سپینو مرۍ لرونکې ده.
- د یوې جعبې څخه چې د تورو او سپینو مریو لرونکې ده څو ځلې یوه مرۍ واخېستل شي چې اخېستل شوې مرۍ سپینه وي(چې اخېستل شوې مرۍ بیا په جعبه کې واچول شي)
- که چېرې m بریالیتوب د n آزمایښت څخه($m<n$) چې ترتیب په کې مهم نه دی دا ټاکنه د څه په نامه یادېږي او فورمول یې ولیکئ.
- که د m شکلونو د بریالیتوب احتمال د n ازمایښت څخه په P او $n-m$ شکلونو د ناکامي احتمال د n آزمایښت څخه په q وښودل شي نو د m کامیابي احتمال د آزمایښت د n شکلونو څخه به څو وي؟
- زده‌کوونکي له پنځو څلور ځوابه آزموینې د پوښتنو سره مخامخ کېږي. هغوی په ناځاپه ډول پوښتنو ته ځوابونه ورکوي، فرض وکړئ که د (سم ځواب) بریالیتوب په T او (ناسم ځواب) نه بریالیتوب د F په توري وښودل شي په دې صورت کې د هر یوه سم او ناسم ځواب احتمال به څومره وي؟

له پورتني فعالیت څخه څرګندېږي چې د برنولي آزمایښت یو ناڅاپه ازمایښت دی، چې کولای شو پایله یې په دوو حالتونو بریالیتوب او نابریالیتوب دسته بندي کړو.

(c) ketabton.com: The Digital Library

د برنولي توزیع کولای شو چې په $P(x=m)=P^m(1-P)^{1-m}=P^m\cdot q^{1-m}$ په بڼه وښیو په داسې حال کې چې P د بریالیتوب احتمال او $q=1-p$ د نابریالیتوب احتمال دی.

که چیرې یو ازمایښت n ځلې تکرار کړو، یو ترادف په لاس راځي، داسې چې که د هر آزمایښت د بریالیتوب احتمال P او نابریالیتوب احتمال q وي، په دې صورت کې د n ځلي آزمایښت څخه د m ځلې بریالیتوب احتمال عبارت دی له: $0\le m\le n$ $\qquad P(X\le m)=\binom{n}{m}P^m q^{n-m}$

پورتني اړیکه کولای شو چې په دې ډول $B(m,n,p)$ هم وښیو،

د پورتنی فورمول په پام کې نیولو سره کولای شو، د دوه جملهیي د توزیع اوسط په $\bar{x}=np$ او د دوی توزیع معیاري انحراف د $S=\sqrt{npq}$ په بڼه وښیو.

مثال: د یوه ناروغ د ښه کېدو احتمال د شکرې له ناروغی څخه 0.4 دی، که چیرې 15 تنه په دې ناروغی اخته وي، ددې خومره احتمال شته چې پنځه تنه ښۀ شي او همدا شان پیداکړئ چې له 3 څخه تر 4 تنو پورې جوړ شي.

حل: څرنګه چې $n=15$, $m=5$, $q=0.6$, $P=0.4$ دی نو:

$$P(m=5)=\binom{n}{m}P^m\cdot q^{n-m}=\binom{15}{5}(0.4)^5(0.6)^{10}$$

$$=\frac{15!}{5!(15-5)!}\cdot 0.01024\cdot 0.0060466176 0=\frac{360360}{120}\cdot 0.00006191$$

$$=\frac{22.3098876}{120}=0.1859$$

$$P(3\le m\le 4)=\sum_{i=3}^{4}\binom{15}{i}(0.4)^i(0.6)^{15-i}=(3^{15})(0.4)^3(0.6)^{15-3}+(4^{15})(0.4)^4(0.6)^{15-4}$$

$$=\frac{15!}{3!(15-3)!}(0.064)(0.6)^{12}+\frac{15!}{4!(15-4)!}(0.0256)(0.6)^{11}$$

$$=\frac{2730}{6}(0.000139264)+\frac{3270}{24}(0.0000928512)$$

$$=\frac{0.38019072}{6}+\frac{0.3036}{24}=0.063365+0.012650$$

$$P(3\le m\le 4)=0.076015$$

پوښتنې

په یوه کلي کې 200 کورنۍ اوسیږي که هره کورنۍ 4 ماشومان ولري ددې احتمال پیداکړئ چې هره کورنۍ

- حد اقل یو زوی لري.
- یوازې دوه زامن لري.
- یوه یا دوې لوڼې ولري.

(c) ketabton.com: The Digital Library

(c) ketabton.com: The Digital Library

د پواسن د احتمال توزیع

که چیرې د برنولي دوه جملهيي توزیع فورمول په پام کې ونیسو، ایا ویلاي شئ که چیرې د برنولي په دوه جملهيي توزیع کې د P قیمت صفر ته تقرب وکړي او د n قیمت لایتناهي ته تقرب وکړي؛ نو د برنولي دوه جملهيي توزیع څه سره مساوي کیږي.

$$1)\ b(x,n,p)=\binom{x}{n}p^x q^{n-x}$$

$$2)\ \lim_{n\to\infty} b(x,n,p)=\frac{\lambda^x\cdot e^{-\lambda}}{x!}$$

$$3)\ P(x,\lambda)=\frac{\lambda^x\cdot e^{-\lambda}}{x!}$$

کـــه $n=5$, $p=0.1$ او $m=2$ وي د $P(x=m)=\frac{e^{-\lambda}\lambda^m}{m!}$ قیمتونـــه پـــه داســـې حـــال کـــې چـــې $P(X=m)=\binom{n}{m}P^m q^{n-m}$ او $\lambda=np$ وي محاسبه کړئ او له پاسنیو توابع قیمتونه سره يې پرتله کړئ، ویلای شي چې دکوم فورمول په کار وړل، ساده دی؟

د پواسن فورمول کولای شي، چې د m شکلونو دکامیابي احتمال د n آزمایښتونو څخه کله چې n لوی او دکامیابي احتمال P کوچنی وي، د تقریبي محاسبې لپاره وکارول کیږي.

دا فورمول عبارت دی له: $P(X=m)=\frac{e^{-x}\lambda^m}{m!}$

چې $\lambda=np$ او $e=2.71828$ دی.

په یاد ولرئ چې د پواسن په توزیع کې اوسط او هم وریانس له λ سره برابر دی.

مثال: 200 تنو مسافرینو د یوې الوتکې ټکټ اخېستلی دی د مخکنیو تجاربو په اساس که د هغه مسافرینو چې ټکټ یې رانیولی دی د نه راتګ احتمال 0.01 وي. ددې احتمال چې 3 تنه مسافرین واپس را نه شي څومره دی.

حل: په دې مسئله کې د(نه راتلل) کامیابي ده او همدارنګه لیدل کېږي چې $n = 200$ ډېر لوی او $P = 0.01$ یعنې د کامیابی احتمال کوچنی دی، نو لرو:

$$P(X = m) = \frac{e^{-\lambda}\,\lambda^m}{m!} \qquad \lambda = n\,p = 200 \cdot 0.01 = 2$$

$$P(3) = \frac{(2.71828)^{-2} \cdot 2^3}{3!} = \frac{\frac{1}{(2.71828)^2} \cdot 8}{6} = \frac{\frac{1}{7.3890461584} \cdot 8}{6}$$

$$= \frac{0.13533 \cdot 8}{6} = \frac{1.08268}{6} = 0.1804$$

اوس که چیرې دا احتمال د دو جمله‌یي په فورمول محاسبه کړو، لرو چې:

$$P(X = m) = \binom{n}{m} P^m\ q^{n-m}$$

$$\left.\begin{matrix} n = 200 \\ p = 0.01 \end{matrix}\right\} \Rightarrow q = 0.99$$

$$P(3) = P(X = 3) = \binom{200}{3} (0.01)^3 (0.099)^{200-3}$$

$$= \frac{200!}{3! \cdot 197!} (0.01)^3 (0.099)^{197} = 0.1814$$

څرنګه چې لیدل کېږي دواړه ځوابونه سره معادل دي نو واضح ده چې د پواسن د فورمول له لارې احتمال محاسبه ساده ده.

(c) ketabton.com: The Digital Library

یادونه:

د پواسن د فورمول په واسطه کولای شو چې په یوه ټاکلي وخت کې د ورتللو د شمېر احتمال په لاندې ډول وښیو:

$$P(X=m)=\frac{e^{-\lambda t}(\lambda t)^m}{m!}$$

په پورتني فورمول کې t د ښودل شوی وخت نسبت پر ټول وخت چې اوسط هغې ته ورکړل شوی وي m د ورتللو شمېر د t په واحد وخت کې د λ د ورتګ شمېر اوسط په واحد د وخت کې دی.

مثال: که په یوه ساعت کې د یوه بانک د مراجعینو شمېر په متوسط ډول 60 تنه وي، ددې احتمال چې څلور تنه په لومړیو دریو دقیقو کې راغلی وي څومره دی.

حل:

$$\lambda=60 \quad , \quad t=\frac{3}{60}=\frac{1}{20}$$

$$m=4 \quad , \quad \lambda t=60\cdot\frac{1}{20}=3$$

$$P(m=4)=\frac{e^{-\lambda t}(\lambda t)^m}{m!}=\frac{e^{-3}(3)^4}{4!}=\frac{(2.71828)^{-3}(3)^4}{4!}=\frac{\frac{1}{(2.71828)^3}\cdot 81}{4\cdot 3\cdot 2\cdot 1}$$

$$=\frac{\frac{1}{20.0854}\cdot 81}{24}=\frac{4.03278}{24}=0.168032$$

(c) ketabton.com: The Digital Library

پوښتني

د چاپ د یوه ماشین د جوړولو لپاره په یوه کال کې په متوسط ډول ورتګ دوه ځلې ده، فرض کوو چې د پواسن توزیع په دې اړه صدق کوي.

الف: د ماشین د جوړولو لپاره د ورتګ د احتمال توزیع په یوه کال کې حساب کړئ.

ب: د توزیع اوسط او معیار انحراف څومره دی؟

ج: فرض کړئ که د هر ورتګ مصرف 100 افغانۍ وي، د هر ماشین د جوړولو مصرف پیدا کړئ؟

د: ددې احتمال چې په هر کال کې دیوه ماشین د جوړولو مصرف له 300 افغانیو څخه زیات وي، څومره دی؟

(c) ketabton.com: The Digital Library

(c) ketabton.com: The Digital Library

د نورمال توزیع

پوهېږو چې د نورمال منحني شکل مشابه او متناظر له زانګولی سره ده، په نورمال منحني کې د پراګندګی مرکزي شاخصونه(معیاري انحراف او اوسط) څه ډول ځایونه(موقعیتونه) نیولی شي.

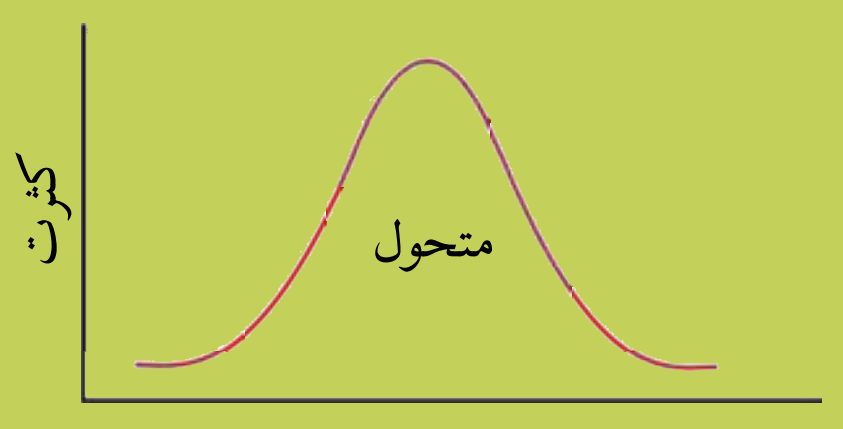

فعالیت

د نورمال بېلابیل توزیعات د بېلابېلو اوسط او معیار انحرافونو لرونکی دی.

څو د نورمال توزیع له بېلابېلو اوسطحو او معیار انحرافونو سره په لاندې شکلونو کې ورکړل شوي دي.

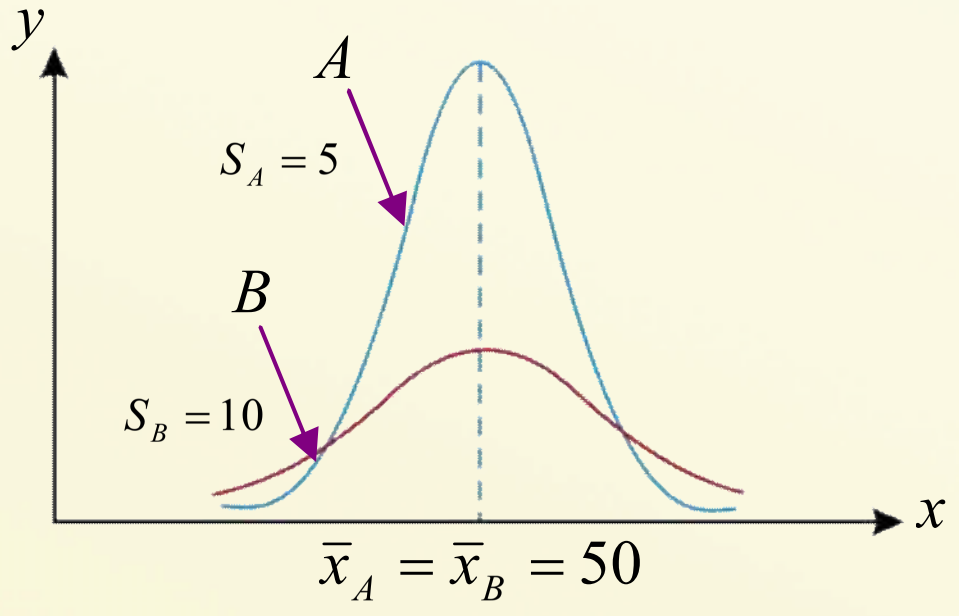

الف شکل

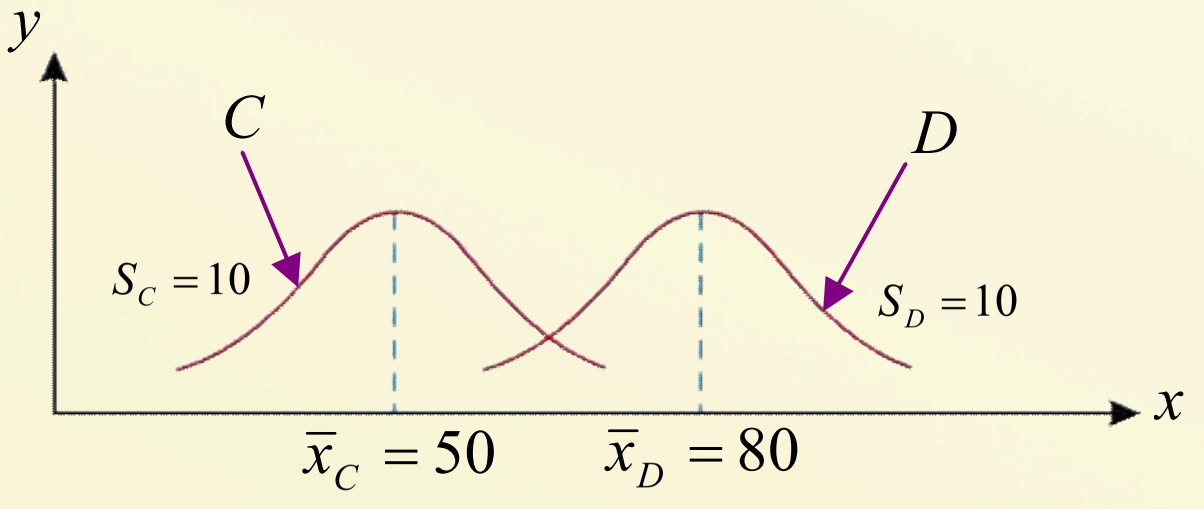

ب شکل

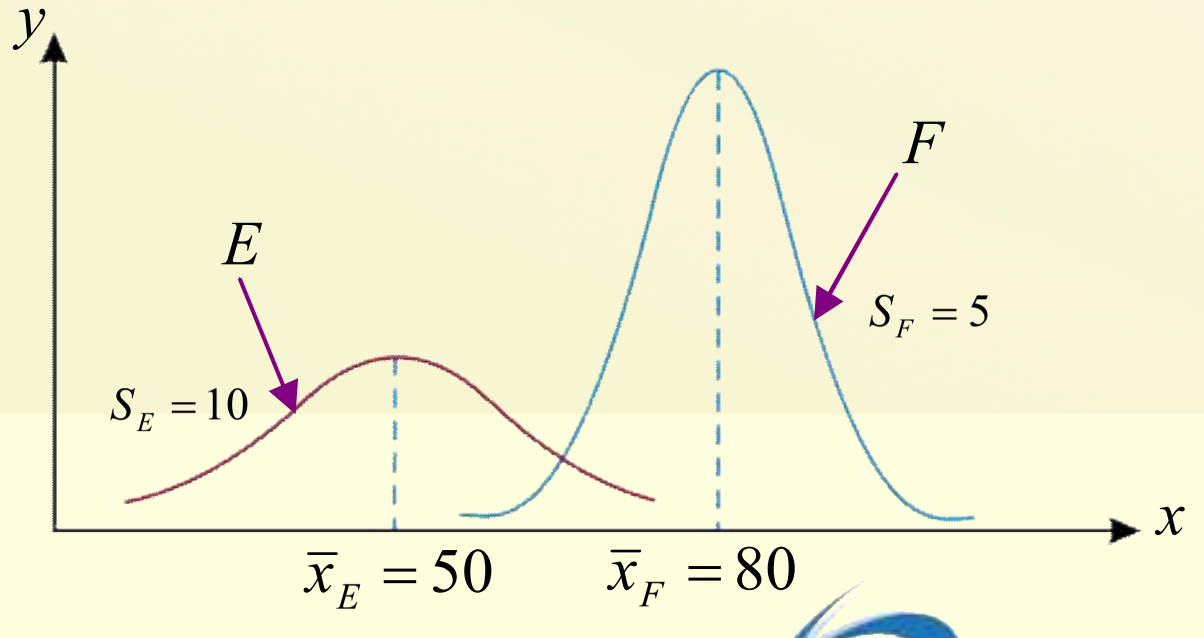

ج شکل

لاندینی فعالیت له پورتنیو شکلونو څخه په ګټه اخېستنې سره په شفاهي ډول بیان کړئ؟

- د الف په شکل کې د A او B د تصادفي متحول توزیع د څه ډول معیاري انحراف او اوسط لرونکې ده؟
- د ب په شکل کې C او D توزیع د څه ډول معیار انحراف او اوسط لرونکی دی؟
- د ج په شکل کې د E او F توزیع د څه ډول معیار انحراف اوسط لرونکی دی؟
- د نورمال منحني شکل دوارو خواوو ته ترکوم ځایه غزیدلي دي؟

د پورتني فعالیت له سرته رسولو څخه داسې پایله په لاس راځي چې:

د نورمال منحني توزیع کیدای شي چې په څلورو طریقو یو له بل سره توپیر ولري. د نورمال توزیع ریاضیکي معادله چې د $f(x)$ احتمال توزیع تابع ښودونکی ده، په لاندې ډول ښوول کېږي.

$$f(x) = \frac{1}{s\sqrt{2\pi}} e^{-\frac{1}{2}(\frac{x-\bar{x}}{s})^2}$$

او یا

$$f(x) = N(x, \bar{x}, s)$$

په داسې حال کې چې $e = 2.71828$ او π هم ثابت عدد 3.14189 دی $\bar{x}$ اوسط، s معیار انحراف، x پیوسته تصادفي مقدار او $f(x)$ د منحني جګوالی راښیي.

د نورمال توزیع له پیوسته توزیعګانو څخه ده. د نورمال توزیع په واسطه کولای شو، د اندازه کولو توپیر په ښه توګه سره نږدې کړو.

(c) ketabton.com: The Digital Library

مثال: د موټرونو ماشين د تيلو سوزولو په وخت کې يوه اندازه مضر لوګي توليدوي، د هغه مضر لوګي مقدار چې له 46 موټرونو توليديږي، چې د يوه تن په واسطه چې لورنزن نوميده په 1980 کال کې وڅيړل شو.يوه اندازه لوګي د نايتروجن اوکسايدونه لري. لاندې مستطيلي ګراف د نايتروجن اوکسايد ميزان د $(\frac{gr}{mil})$ د 46 موټرونو د نورمال احتمال توزيع اوسط او وريانس چې د نومورې کس له خوا تر څيړنې لاندې نيول شوی. ددې مستطيلي ګراف د ستونونو مساحت متناسب دی له هغو 46 نمونه‌يي شمېر له اندازه‌ګيری سره چې ددې ستون د افقي ټکو تر منځ قرار لري.

د مثال په ډول په څلورم ستون کې(چې له 1 څخه تر 1.2 پورې په افقي محور قرار لري) د $0.870 \cdot 0.2 = 0.174$ مساحت لرونکی دی چې د $\frac{4}{46}$ سره برابر دی ځکه 8 ډيټا له 1 څخه تر 1.2 پورې پراته دي.

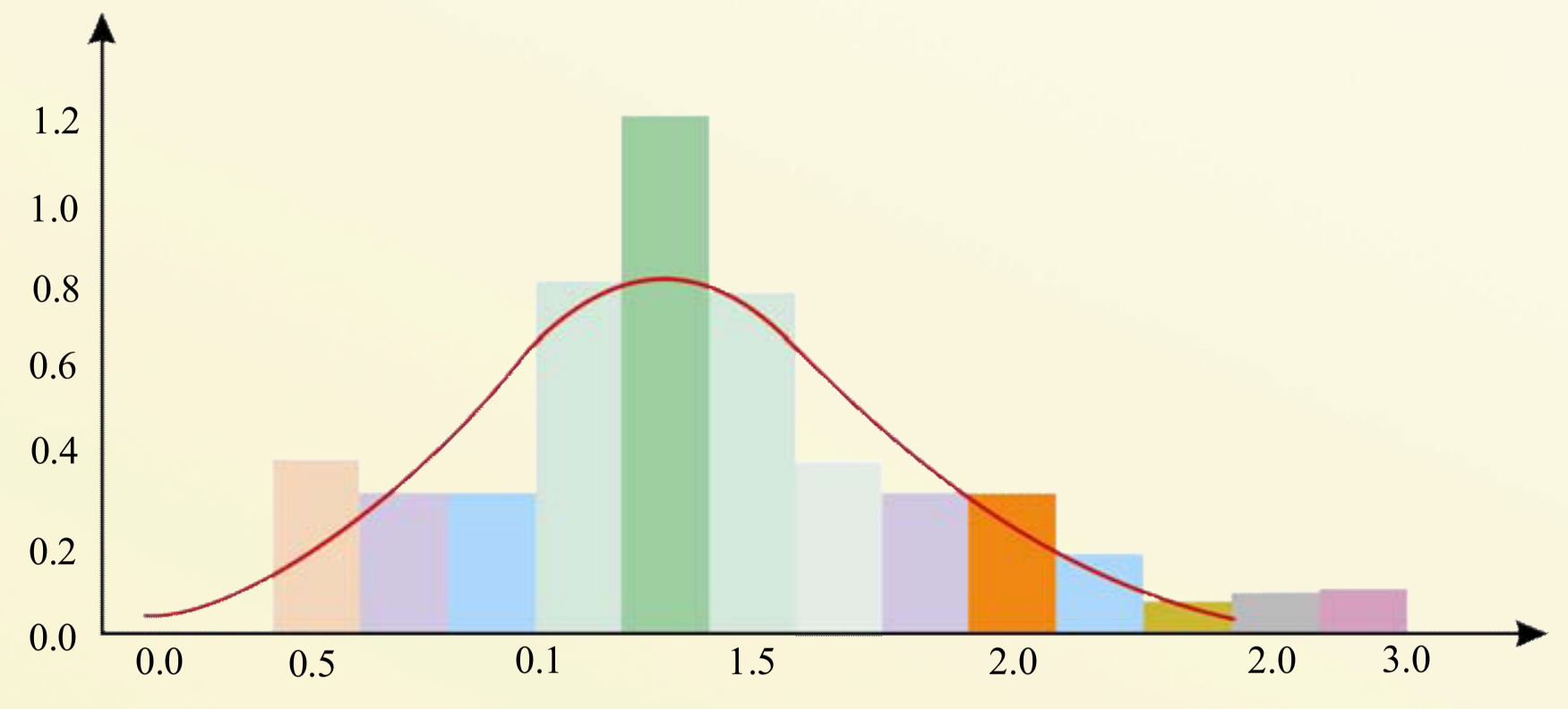

(c) ketabton.com: The Digital Library

پوښتنه

لاندینی شکل په پام کې ونیسئ د A, B, C, D او E ټکو موقعیت د معیار انحراف د اوسط له جنسه پیداکړئ.

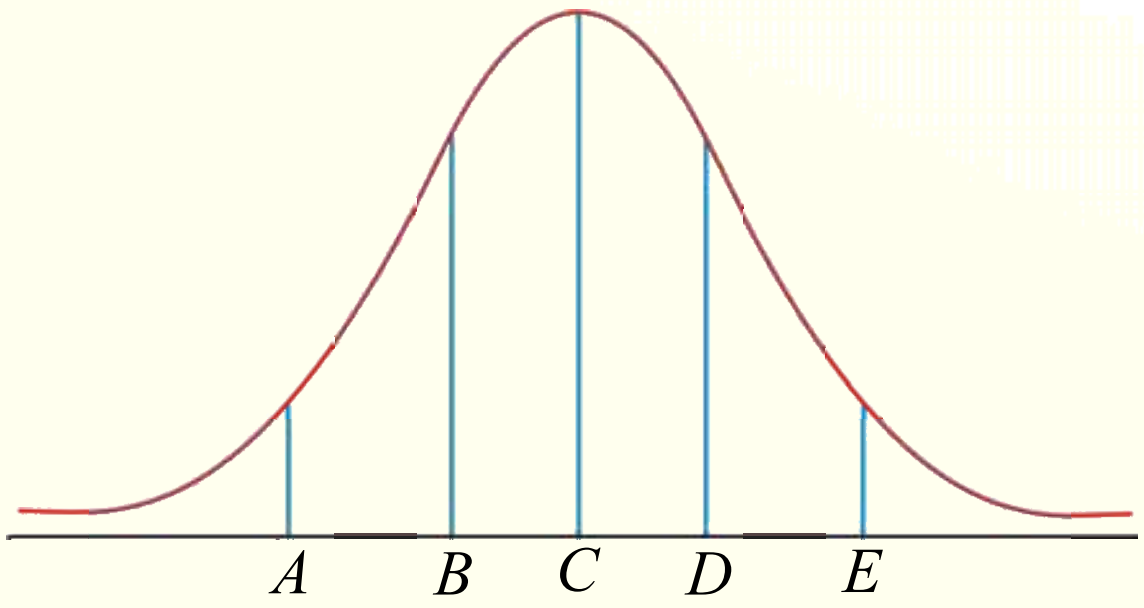

(c) ketabton.com: The Digital Library

د نورمال توزيع منحني لاندې مساحت او د هغې سټنډرډ کول

مخامخ شکل په پام کې ونيسئ:

د $y = f(x)$ د منحني لاندې مساحت د محاسبې لپاره د

څه ډول لارو وړانديز کوئ.

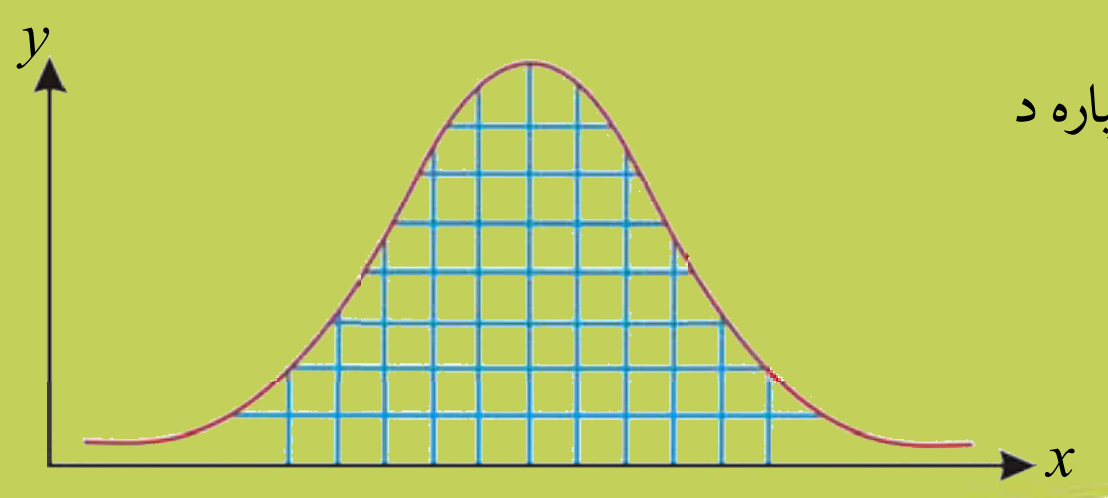

فعاليت

- که چيرې د x تصادفي پيوسته متحول د احتمال نورمال توزيع چې اوسط يې $\bar{x}$ او معيار انحراف يې s وي، ددې احتمال چې دا تصادفي متحول د x_1 او x_2 تر منځ کميت غوره کړي د انتيګرال په بڼه يې وليکئ.
- سوچ کولای شئ چې د احتمال نورمال توزيع د رياضي شکل انتيګرال محاسبه به ساده کار وي.
- که چيرې د نورمال تصادفي متحول په $z = \dfrac{x - \bar{x}}{s}$ ډول وليکو، د $f(x)$ تابع د احتمال توزيع برابر له څه سره ده؟
- ويلای شئ چې اوسط او معيار انحراف په لاندې شکل کې له کومو عددونو سره برابر دي؟

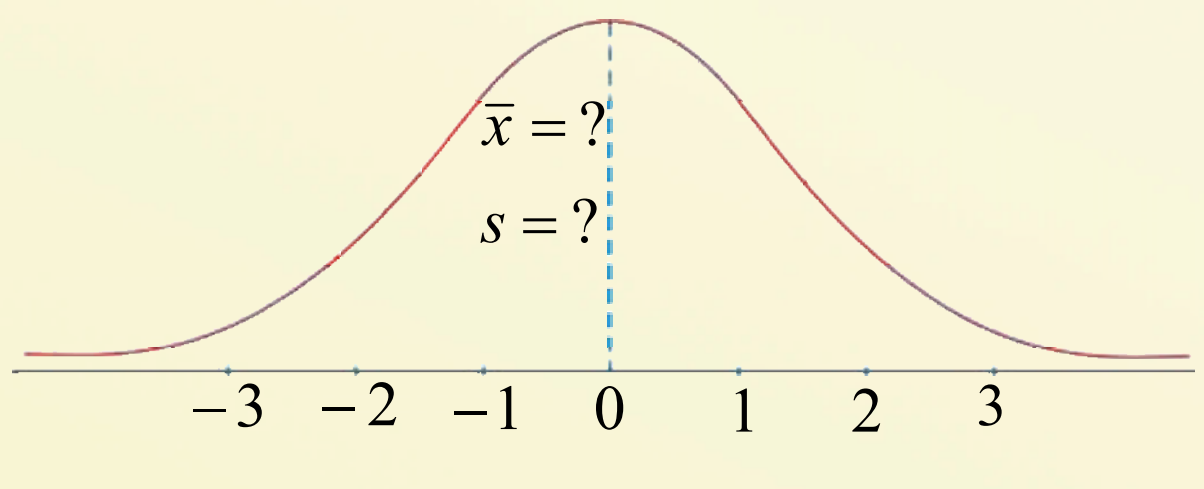

(c) ketabton.com: The Digital Library

- که پـه لانـدې شـکل کې چې د $x = 41$ او $x = 53$ قیمتونـه پـه نورمـال ډول د $\bar{x} = 50$ اوسـط او $S = 5$ معیار انحراف ښودل شوی دی نو د $z = \frac{x - \bar{x}}{s}$ مقدار په لاس راوړئ.

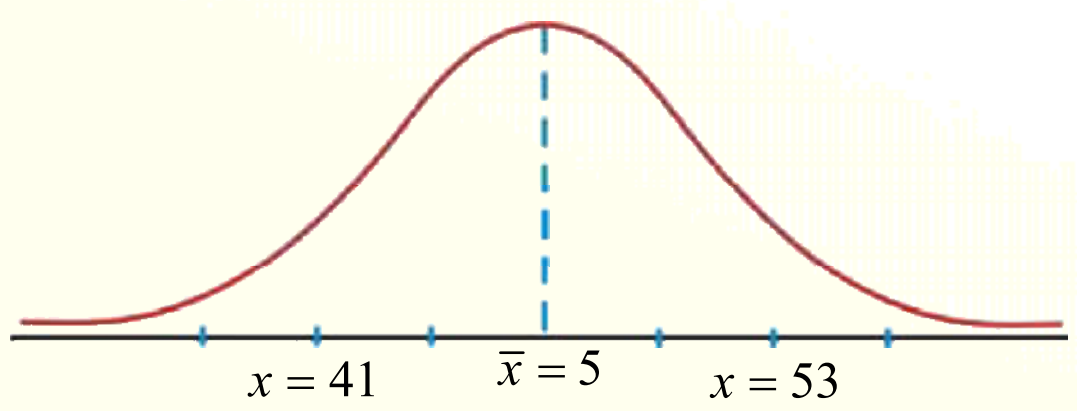

له پورتنی فعالیت څخه دا پایله په لاس راځي چې د احتمال د محاسبې لپاره داسې چې د x پیوسته تصادفي متحول د x_1 او x_2 تر منځ یو کمیت ونیسئ، نو باید د x د احتمال د توزیع له تابع څخه انتګرال ونیسو او د منحنې لاندې سطحه د x_1 او x_2 فاصلو ترمنځ په لاندې ډول محاسبه کړو:

$$f(x_1 < x < x_2) = \int_{x_1}^{x_2} f(x)dx = \int_{x_1}^{x_2} \frac{1}{s\sqrt{2\pi}} e^{-\frac{1}{2}(\frac{x-\bar{x}}{s})^2}$$

$$= \int_{x_1}^{x_2} N(x, \bar{x}, s)dx$$

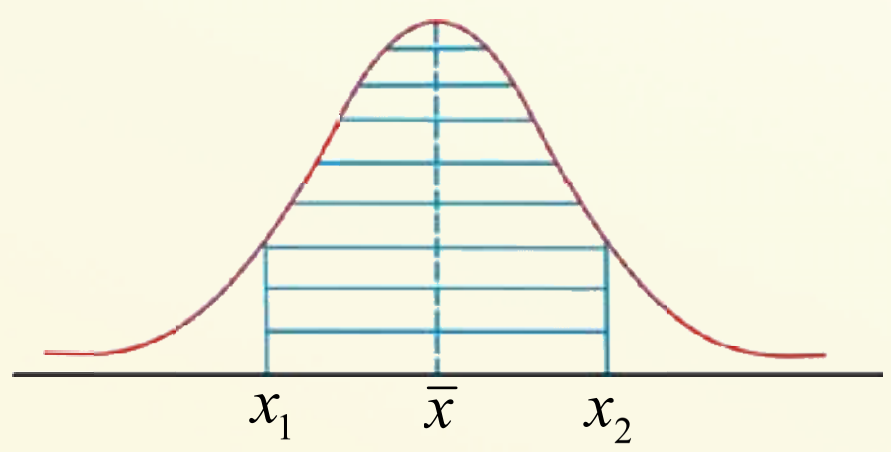

د نورمال توزیع احتمال محاسبه ساده کار نه دی، د نورمال توزیعګانو د منحنې لانـدې مساحت محاسبه اوږدو جدولونو ته اړتیا لري چې عملاً دا کار ګران دی، کولای شو چې د جدول د جوړولو شکل د احصائیوي data د سټنډرډ کولو په واسطه حل کړو.

په دې معنا چې کولای شو په x پورې اړوند تصادفي متحول چې د نورمال توزیع لرونکی دی، د لانـدې اړیکې په واسطه سټنډرډ کړو.

$$z = \frac{x - \bar{x}}{s}$$

دلته z د سټنډرډ نورمال متحول په نامه او منحنې ته د سټنډرډ نورمال منحنې په نامه یا د نورمال احتمال منحنې نومول کېږي، په یاد ولرئ چې د z سټنډرډ وي، متحول تل د صفر اوسط لرونکی او یو معیار انحراف یې دی، همدرانګه د نورمال منحنې او افقي محور ترمنځ مساحت له ټاکل شوي واحد سره برابر وي.

(c) ketabton.com: The Digital Library

لاندې مساحت د یوه منحني یوه برخه د نورمال احتمال چې له احتمال سره مستقیم تناسب لري او کولای شو چې د $z = \frac{x-\bar{x}}{s}$ بدلولو سره یې په لاندې ډول وښیو.

$$f(z_1 < z < z_2) = \int_{z_1}^{z_2} \frac{1}{s\sqrt{2\pi}} e^{\frac{-z^2}{2}} dz = \int_{z_1}^{z_2} N(z,0,1)\, dz$$

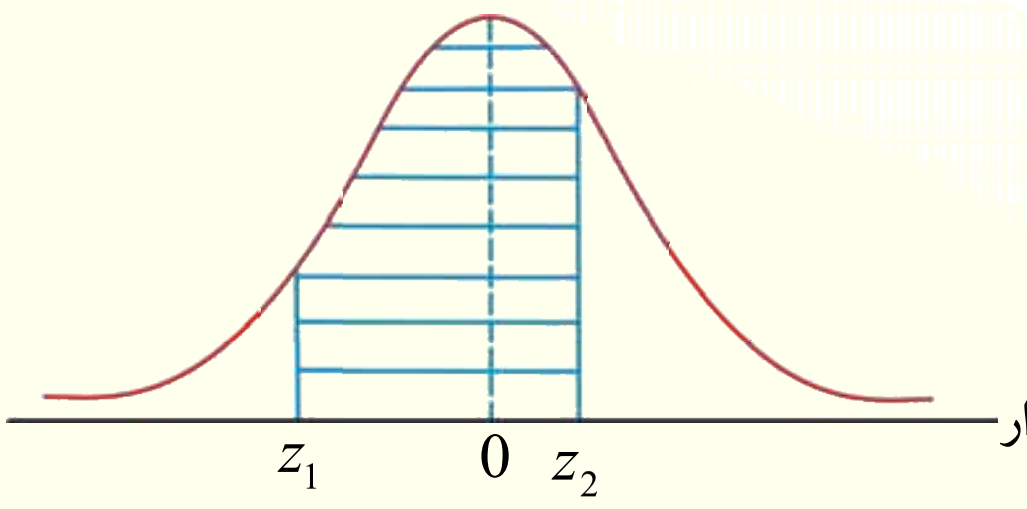

د x متحول منحني لاندې مساحت چې د $x = x_1$ او $x = x_2$ ترمنځ واقع دی، د z متحول له منحني مساحت سره چې د $z = z_1$ او $z = z_2$ ترمنځ پراته مساوي دي. په پایله کې کولای شو چې د نورمال د توزیع سټنډرډ د جدول په لرلو سره د نورمال توزیع احتمال د ناڅاپه متحول د هر ممکنه قیمت لپاره په لاس راوړای شو.

د سټنډرډ نورمال د توزیع احتمال د جدول د استعمال له لارې کولای شو، په لنډ ډول توضیح کړو. هغه جدول چې ددې لوست په پای کې راغلی دی، د سټنډرډ نورمال توزیع اړوند په احتمالاتو کې ګډون لري. لاندې جدول ددې لوست یوه برخه د جدول پای راښیي، هغه ارقام چې د جدول دپاسه لیکل شوي دي، راښیي چې z د مثبتو مقدارونو لپاره تنظیم شوي دي چې د منحني لاندې مساحت له صفر څخه تر z پورې راښیي.

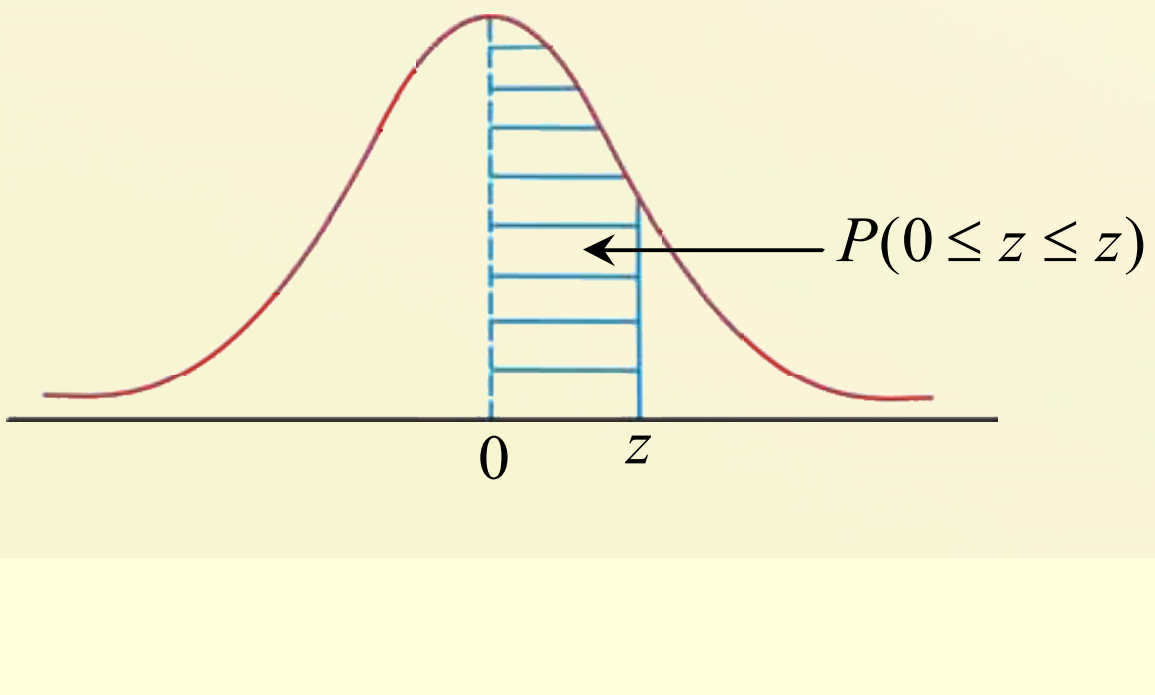

(c) ketabton.com: The Digital Library

جدول(1)

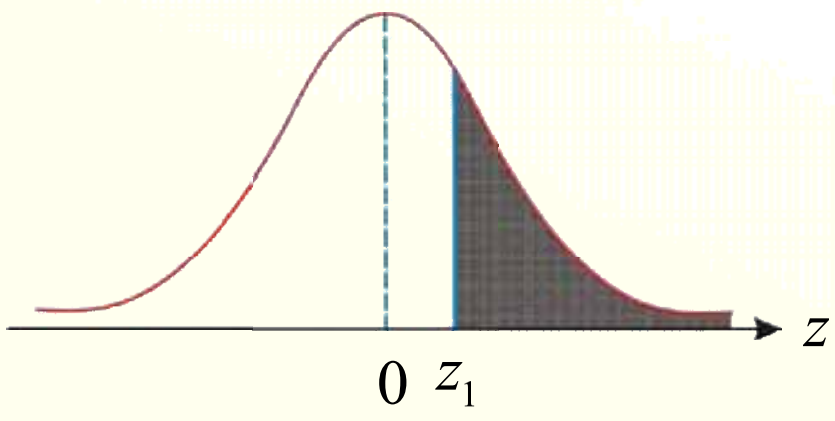

z	0.00	0.01	0.02	0.03	0.04	0.05	0.06	0.07	0.08	0.09
0.0	0.5000	0.5040	0.5080	0.5120	0.5160	0.5199	0.5239	0.5279	0.5319	0.5359
0.1	0.5398	0.5438	0.5478	0.5517	0.5557	0.5596	0.5636	0.5675	0.5714	0.5753
0.2	0.5793	0.5832	0.5871	0.5910	0.5948	0.5987	0.6026	0.6064	0.6103	0.6141
0.3	0.6179	0.6217	0.6255	0.6293	0.6331	0.6368	0.6406	0.6443	0.6480	0.6517
0.4	0.6554	0.6591	0.6628	0.6664	0.6700	0.6736	0.6772	0.6808	0.6844	0.6879
0.5	0.6915	0.6950	0.6985	0.7019	0.7054	0.7088	0.7123	0.7157	0.7190	0.7224
0.6	0.7257	0.7291	0.7324	0.7357	0.7389	0.7422	0.7454	0.7486	0.7517	0.7549
0.7	0.7580	0.7611	0.7642	0.7673	0.7704	0.7734	0.7764	0.7794	0.7823	0.7852
0.8	0.7881	0.7910	0.7939	0.7967	0.7995	0.8023	0.8051	0.8078	0.8106	0.8133
0.9	0.8159	0.8186	0.8212	0.8238	0.8264	0.8289	0.8315	0.8340	0.8365	0.8389
1.0	0.8413	0.8438	0.8461	0.8485	0.8508	0.8531	0.8554	0.8577	0.8599	0.8621
1.1	0.8643	0.8665	0.8686	0.8708	0.8729	0.8749	0.8770	0.8790	0.8810	0.8830
1.2	0.8849	0.8869	0.8888	0.8907	0.8925	0.8944	0.8962	0.8980	0.8997	0.9015
1.3	0.9032	0.9049	0.9066	0.9082	0.9099	0.9115	0.9131	0.9147	0.9162	0.9177
1.4	0.9192	0.9207	0.9222	0.9236	0.9251	0.9265	0.9278	0.9292	0.9306	0.9319
1.5	0.9332	0.9345	0.9357	0.9370	0.9382	0.9394	0.9406	0.9418	0.9429	0.9441
1.6	0.9452	0.9463	0.9474	0.9484	0.9495	0.9505	0.9515	0.9525	0.9535	0.9545
1.7	0.9554	0.9564	0.9573	0.9582	0.9591	0.9599	0.9608	0.9616	0.9625	0.9633
1.8	0.9641	0.9649	0.9656	0.9664	0.9671	0.9678	0.9686	0.9693	0.9699	0.9706
1.9	0.9713	0.9719	0.9726	0.9732	0.9738	0.9744	0.9750	0.9756	0.9761	0.9767
2.0	0.9772	0.9778	0.9783	0.9788	0.9793	0.9798	0.9803	0.9808	0.9812	0.9817
2.1	0.9821	0.9826	0.9830	0.9834	0.9838	0.9842	0.9846	0.9850	0.9854	0.9857
2.2	0.9861	0.9864	0.9268	0.9871	0.9875	0.9878	0.9881	0.9884	0.9887	0.9890
2.3	0.9893	0.9896	0.9898	0.9901	0.9904	0.9906	0.9909	0.9911	0.9913	0.9916
2.4	0.9918	0.9920	0.9922	0.9925	0.9927	0.9929	0.9931	0.9932	0.9934	0.9936
2.5	0.9938	0.9940	0.9941	0.9943	0.9945	0.9946	0.9948	0.9949	0.9951	0.9952
2.6	0.9953	0.9955	0.9956	0.9957	0.9959	0.9960	0.9961	0.9962	0.9963	0.9964
2.7	0.9965	0.9966	0.9967	0.9968	0.9969	0.9970	0.9971	0.9972	0.9973	0.9974
2.8	0.9974	0.9975	0.9976	0.9977	0.9977	0.9978	0.9979	0.9979	0.9980	0.9981
2.9	0.9981	0.9982	0.9982	0.9983	0.9984	0.9984	0.9985	0.9985	0.9986	0.9986
3.0	0.9987	0.9987	0.9987	0.9988	0.9988	0.9989	0.9989	0.9989	0.9990	0.9990
3.1	0.9990	0.9991	0.9991	0.9991	0.9992	0.9992	0.9992	0.9992	0.9993	0.9993
3.2	0.9993	0.9993	0.9994	0.9994	0.9994	0.9994	0.9994	0.9995	0.9995	0.9995
3.3	0.9995	0.9995	0.9995	0.9996	0.9996	0.9996	0.9996	0.9996	0.9996	0.9997

(c) ketabton.com: The Digital Library

جدول(2)

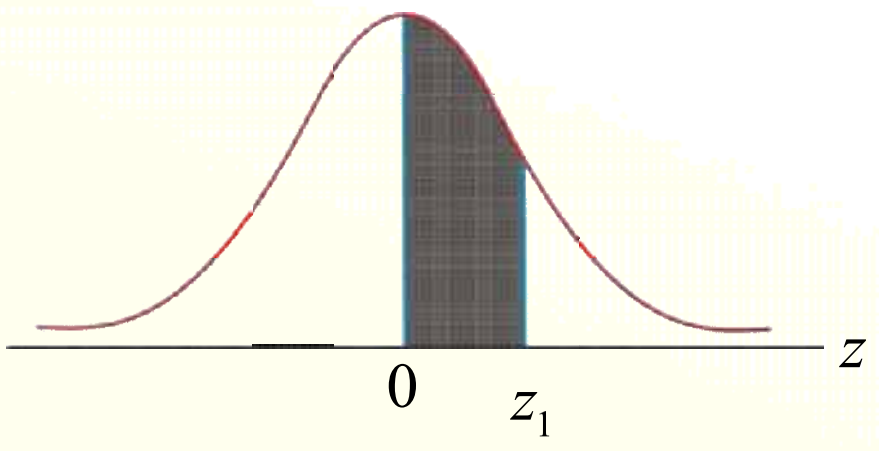

z	۰	۱	۲	۳	۴	۵	۶	۷	۸	۹
۰/۰	۰/۰۰۰۰	۰/۰۰۴۰	۰/۰۰۸۰	۰/۰۱۲۰	۰/۰۱۶۰	۰/۰۱۹۹	۰/۰۲۳۹	۰/۰۲۷۹	۰/۰۳۱۹	۰/۰۳۵۹
۰/۱	۰/۰۳۹۸	۰/۰۴۳۸	۰/۰۴۷۸	۰/۰۵۱۷	۰/۰۵۵۷	۰/۰۵۹۶	۰/۰۶۳۶	۰/۰۶۷۵	۰/۰۷۱۴	۰/۰۷۵۴
۰/۲	۰/۰۷۹۳	۰/۰۸۳۲	۰/۰۸۷۱	۰/۰۹۱۰	۰/۰۹۴۸	۰/۰۹۸۷	۰/۱۰۲۶	۰/۱۰۶۴	۰/۱۱۰۳	۰/۱۱۴۱
۰/۳	۰/۱۱۷۹	۰/۱۲۱۷	۰/۱۲۵۵	۰/۱۲۹۳	۰/۱۳۳۱	۰/۱۳۶۸	۰/۱۴۰۶	۰/۱۴۴۳	۰/۱۴۸۰	۰/۱۵۱۷
۰/۴	۰/۱۵۵۴	۰/۱۵۹۱	۰/۱۶۲۸	۰/۱۶۶۴	۰/۱۷۰۰	۰/۱۷۳۶	۰/۱۷۷۲	۰/۱۸۰۸	۰/۱۸۴۴	۰/۱۸۷۹
۰/۵	۰/۱۹۱۵	۰/۱۹۵۰	۰/۱۹۸۵	۰/۲۰۱۹	۰/۲۰۵۴	۰/۲۰۸۸	۰/۲۱۲۳	۰/۲۱۵۷	۰/۲۱۹۰	۰/۲۲۲۴
۰/۶	۰/۲۲۵۸	۰/۲۲۹۱	۰/۲۳۲۴	۰/۲۳۵۷	۰/۲۳۸۹	۰/۲۴۲۲	۰/۲۴۵۴	۰/۲۴۸۶	۰/۲۵۱۸	۰/۲۵۴۹
۰/۷	۰/۲۵۸۰	۰/۲۶۱۲	۰/۲۶۴۲	۰/۲۶۷۳	۰/۲۷۰۴	۰/۲۷۳۴	۰/۲۷۶۴	۰/۲۷۹۴	۰/۲۸۲۳	۰/۲۸۵۲
۰/۸	۰/۲۸۸۱	۰/۲۹۱۰	۰/۲۹۳۹	۰/۲۹۶۷	۰/۲۹۹۶	۰/۳۰۲۳	۰/۳۰۵۱	۰/۳۰۷۸	۰/۳۱۰۶	۰/۳۱۳۳
۰/۹	۰/۳۱۵۹	۰/۳۱۸۶	۰/۳۲۱۲	۰/۳۲۳۸	۰/۳۲۶۴	۰/۳۲۸۹	۰/۳۳۱۵	۰/۳۳۴۰	۰/۳۳۶۵	۰/۳۳۸۹
۱/۰	۰/۳۴۱۳	۰/۳۴۳۸	۰/۳۴۶۱	۰/۳۴۸۵	۰/۳۵۰۸	۰/۳۵۳۱	۰/۳۵۵۴	۰/۳۵۷۷	۰/۳۵۹۹	۰/۳۶۲۱
۱/۱	۰/۳۶۴۳	۰/۳۶۶۵	۰/۳۶۸۶	۰/۳۷۰۸	۰/۳۷۲۹	۰/۳۷۴۹	۰/۳۷۷۰	۰/۳۷۹۰	۰/۳۸۱۰	۰/۳۸۳۰
۱/۲	۰/۳۸۴۹	۰/۳۸۶۹	۰/۳۸۸۸	۰/۳۹۰۷	۰/۳۹۲۵	۰/۳۹۴۴	۰/۳۹۶۲	۰/۳۹۸۰	۰/۳۹۹۷	۰/۴۰۱۵
۱/۳	۰/۴۰۳۲	۰/۴۰۴۹	۰/۴۰۶۶	۰/۴۰۸۲	۰/۴۰۹۹	۰/۴۱۱۵	۰/۴۱۳۱	۰/۴۱۴۷	۰/۴۱۶۲	۰/۴۱۷۷
۱/۴	۰/۴۱۹۲	۰/۴۲۰۷	۰/۴۲۲۲	۰/۴۲۳۶	۰/۴۲۵۱	۰/۴۲۶۵	۰/۴۲۷۹	۰/۴۲۹۲	۰/۴۳۰۶	۰/۴۳۱۹
۱/۵	۰/۴۳۳۲	۰/۴۳۴۵	۰/۴۳۵۷	۰/۴۳۷۰	۰/۴۳۸۲	۰/۴۳۹۴	۰/۴۴۰۶	۰/۴۴۱۸	۰/۴۴۲۹	۰/۴۴۴۱
۱/۶	۰/۴۴۵۲	۰/۴۴۶۳	۰/۴۴۷۴	۰/۴۴۸۴	۰/۴۴۹۵	۰/۴۵۰۵	۰/۴۵۱۵	۰/۴۵۲۵	۰/۴۵۳۵	۰/۴۵۴۵
۱/۷	۰/۴۵۵۴	۰/۴۵۶۴	۰/۴۵۷۳	۰/۴۵۸۲	۰/۴۵۹۱	۰/۴۵۹۹	۰/۴۶۰۸	۰/۴۶۱۶	۰/۴۶۲۵	۰/۴۶۳۳
۱/۸	۰/۴۶۴۱	۰/۴۶۴۹	۰/۴۶۵۶	۰/۴۶۶۴	۰/۴۶۷۱	۰/۴۶۷۸	۰/۴۶۸۶	۰/۴۶۹۳	۰/۴۶۹۹	۰/۴۷۰۶
۱/۹	۰/۴۷۱۳	۰/۴۷۱۹	۰/۴۷۲۶	۰/۴۷۳۲	۰/۴۷۳۸	۰/۴۷۴۴	۰/۴۷۵۰	۰/۴۷۵۶	۰/۴۷۶۱	۰/۴۷۶۷
۲/۰	۰/۴۷۷۲	۰/۴۷۷۸	۰/۴۷۸۳	۰/۴۷۸۸	۰/۴۷۹۳	۰/۴۷۹۸	۰/۴۸۰۳	۰/۴۸۰۸	۰/۴۸۱۲	۰/۴۸۱۷
۲/۱	۰/۴۸۲۱	۰/۴۸۲۶	۰/۴۸۳۰	۰/۴۸۳۴	۰/۴۸۳۸	۰/۴۸۴۲	۰/۴۸۴۶	۰/۴۸۵۰	۰/۴۸۵۴	۰/۴۸۵۷
۲/۲	۰/۴۸۶۱	۰/۴۸۶۴	۰/۴۸۶۸	۰/۴۸۷۱	۰/۴۸۷۵	۰/۴۸۷۸	۰/۴۸۸۱	۰/۴۸۸۴	۰/۴۸۸۷	۰/۴۸۹۰
۲/۳	۰/۴۸۹۳	۰/۴۸۹۶	۰/۴۸۹۸	۰/۴۹۰۱	۰/۴۹۰۴	۰/۴۹۰۶	۰/۴۹۰۹	۰/۴۹۱۱	۰/۴۹۱۳	۰/۴۹۱۶
۲/۴	۰/۴۹۱۸	۰/۴۹۲۰	۰/۴۹۲۲	۰/۴۹۲۵	۰/۴۹۲۷	۰/۴۹۲۹	۰/۴۹۳۱	۰/۴۹۳۲	۰/۴۹۳۴	۰/۴۹۳۶
۲/۵	۰/۴۹۳۸	۰/۴۹۴۰	۰/۴۹۴۱	۰/۴۹۴۳	۰/۴۹۴۵	۰/۴۹۴۶	۰/۴۹۴۸	۰/۴۹۴۹	۰/۴۹۵۱	۰/۴۹۵۲
۲/۶	۰/۴۹۵۳	۰/۴۹۵۵	۰/۴۹۵۶	۰/۴۹۵۷	۰/۴۹۵۹	۰/۴۹۶۰	۰/۴۹۶۱	۰/۴۹۶۲	۰/۴۹۶۳	۰/۴۹۶۴
۲/۷	۰/۴۹۶۵	۰/۴۹۶۶	۰/۴۹۶۷	۰/۴۹۶۸	۰/۴۹۶۹	۰/۴۹۷۰	۰/۴۹۷۱	۰/۴۹۷۲	۰/۴۹۷۳	۰/۴۹۷۴
۲/۸	۰/۴۹۷۴	۰/۴۹۷۵	۰/۴۹۷۶	۰/۴۹۷۷	۰/۴۹۷۷	۰/۴۹۷۸	۰/۴۹۷۹	۰/۴۹۷۹	۰/۴۹۸۰	۰/۴۹۸۱
۲/۹	۰/۴۹۸۱	۰/۴۹۸۲	۰/۴۹۸۲	۰/۴۹۸۳	۰/۴۹۸۴	۰/۴۹۸۴	۰/۴۹۸۵	۰/۴۹۸۵	۰/۴۹۸۶	۰/۴۹۸۶
۳/۰	۰/۴۹۸۷	۰/۴۹۸۷	۰/۴۹۸۷	۰/۴۹۸۸	۰/۴۹۸۸	۰/۴۹۸۹	۰/۴۹۸۹	۰/۴۹۸۹	۰/۴۹۹۰	۰/۴۹۹۰
۳/۱	۰/۴۹۹۰	۰/۴۹۹۱	۰/۴۹۹۱	۰/۴۹۹۱	۰/۴۹۹۲	۰/۴۹۹۲	۰/۴۹۹۲	۰/۴۹۹۲	۰/۴۹۹۳	۰/۴۹۹۳
۳/۲	۰/۴۹۹۳	۰/۴۹۹۳	۰/۴۹۹۴	۰/۴۹۹۴	۰/۴۹۹۴	۰/۴۹۹۴	۰/۴۹۹۴	۰/۴۹۹۵	۰/۴۹۹۵	۰/۴۹۹۵
۳/۳	۰/۴۹۹۵	۰/۴۹۹۵	۰/۴۹۹۵	۰/۴۹۹۶	۰/۴۹۹۶	۰/۴۹۹۶	۰/۴۹۹۶	۰/۴۹۹۶	۰/۴۹۹۶	۰/۴۹۹۷
۳/۴	۰/۴۹۹۷	۰/۴۹۹۷	۰/۴۹۹۷	۰/۴۹۹۷	۰/۴۹۹۷	۰/۴۹۹۷	۰/۴۹۹۷	۰/۴۹۹۷	۰/۴۹۹۷	۰/۴۹۹۸
۳/۵	۰/۴۹۹۸	۰/۴۹۹۸	۰/۴۹۹۸	۰/۴۹۹۸	۰/۴۹۹۸	۰/۴۹۹۸	۰/۴۹۹۸	۰/۴۹۹۸	۰/۴۹۹۸	۰/۴۹۹۸
۳/۶	۰/۴۹۹۸	۰/۴۹۹۸	۰/۴۹۹۹	۰/۴۹۹۹	۰/۴۹۹۹	۰/۴۹۹۹	۰/۴۹۹۹	۰/۴۹۹۹	۰/۴۹۹۹	۰/۴۹۹۹
۳/۷	۰/۴۹۹۹	۰/۴۹۹۹	۰/۴۹۹۹	۰/۴۹۹۹	۰/۴۹۹۹	۰/۴۹۹۹	۰/۴۹۹۹	۰/۴۹۹۹	۰/۴۹۹۹	۰/۴۹۹۹
۳/۸	۰/۴۹۹۹	۰/۴۹۹۹	۰/۴۹۹۹	۰/۴۹۹۹	۰/۴۹۹۹	۰/۴۹۹۹	۰/۴۹۹۹	۰/۴۹۹۹	۰/۴۹۹۹	۰/۴۹۹۹
۳/۹	۰/۵۰۰۰	۰/۵۰۰۰	۰/۵۰۰۰	۰/۵۰۰۰	۰/۵۰۰۰	۰/۵۰۰۰	۰/۵۰۰۰	۰/۵۰۰۰	۰/۵۰۰۰	۰/۵۰۰۰

(c) ketabton.com: The Digital Library

د مثال په ډول که چیري $z=1.56$ وي لومړی هغه سطر پیداکړئ چې په هغه کې z د 1.5 معادل دی، که چیرې ددې کرښې په اوږدوالي پرمخ لاړ شو، تر څو هغه ستون ته ورسېږو چې له پاسه 0.06 لیکل شوی دی له 0.9406 عدد سره مخامخ کېږو چې د منحنې د لاندې اړوندې سطحې د $z=0$ څخه تر $z=1.56$ پورې دی، نو لیکلای شو چې: $P(0 \le Z \le 1.56) = 0.9406$

لومړی مثال: د ښنبلو(نوشابې) د بوتلونو د ډکولو دستگاه داسې تنظیم شوې ده، که 952 ملي‌لیټر نوشابه په بوتل کې واچوي ددې نوشابې میزان چې د نورمال توزیع اوسط یې 952 ملي‌لیټره او معیاري انحراف یې 4 ملي‌لیټره دی. ددې احتمال چې بوتل د 952 او 956 ملي‌لیټرو ترمنځ نوشابه ولري، څومره دی.

حل: لومړی z د x له جنسه پیداکوو:

$$z_1 = \frac{x-\bar{x}}{s} = \frac{952-952}{4} = \frac{0}{4} = 0$$

$$z_2 = \frac{956-952}{4} = \frac{4}{4} = 1$$

نو پر دې اساس د x د تعریف ناحیه له 952 څخه تر 956 د z تعریف د ناحیې له صفر څخه تر 1 بدلېږي. د لوست د پیل له جدول(2) څخه په گټه اخیستنې سره لرو $P(0 \le z \le 1) = 0.3413$ احتمال داسې دی چې هغه بوتل چې له 952 څخه تر 956 ملي‌لیټرو نوشابه ولري، یا په بل عبارت 34.13 فیصده ډک شوي بوتلونه له 952 څخه تر 956 ملي‌لیټره نوشابه لري؛ یعنې:

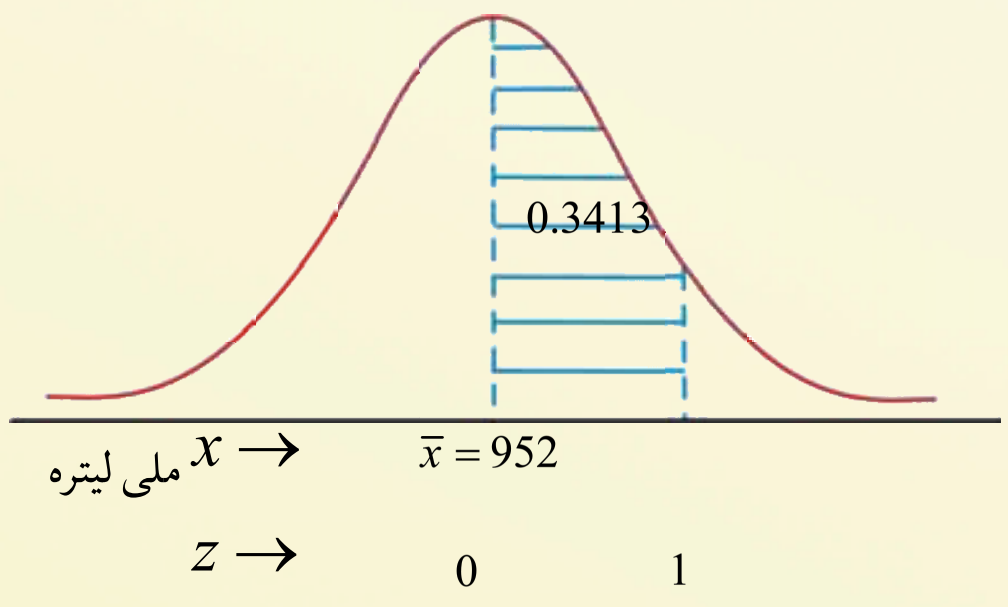

$$\begin{aligned} P(0 \le z \le 1) &= P(z_2) - P(z_1) \\ &= P(1) - P(0) \\ &= 0.3413 - 0 \\ &= 0.3413 \end{aligned}$$

دویم مثال: په یوه خاص مضمون کې د زده‌کوونکو د نمبرو د نورمال توزیع اوسط 70 او معیاري انحراف یې 8 دی له نورمال سټنډرډ جدول څخه په گټه اخیستنې سره له 54 څخه تر 84 نمبرو ترمنځ فیصدي پیداکړئ.

(c) ketabton.com: The Digital Library

حل: د مسألې حل په لاندې ډول په ترسیمي بڼه ښودل شوی دی.

د $x = 54$ لپاره لرو:
$$z_1 = \frac{54-70}{8} = -2$$

د $x = 84$ لپاره لرو:
$$z_2 = \frac{84-70}{8} = 1.75$$

څرنګه چې د سټنډرډ نورمال منحني لاندې مساحت په یو محدود انټروال کې په پام کې نیول شوی دی؛ نو له نورمال سټنډرډ جدول(2) څخه لرو:

$$P(-2 \le z \le 0) = P(0 \le z \le 2) = 0.9772$$
$$P(0 \le z \le 1.75) = 0.9599$$

د ټاکل شوي مساحت د پام وړ احتمال دی.

$$P(-2 \le z \le 0) + P(0 \le z \le 1.75) = 0.4772 + 0.4599$$
$$= 0.9371$$

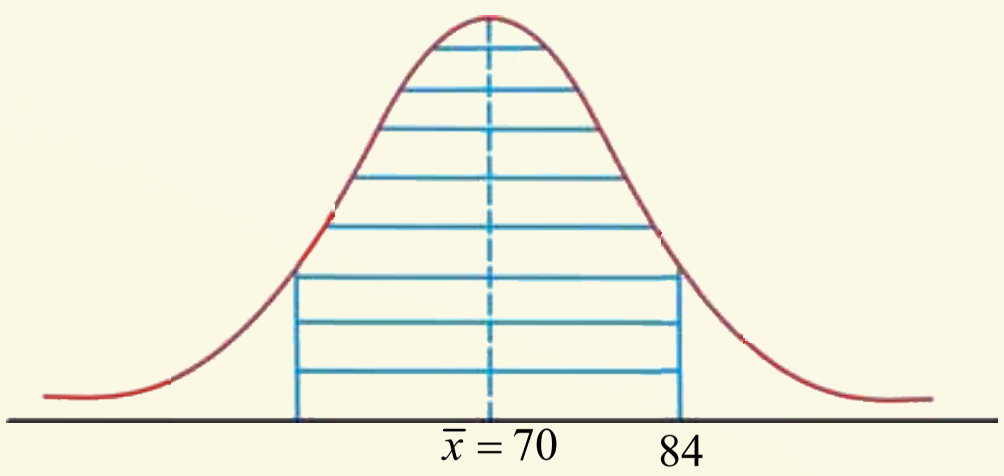

پوښتنې

د لومړي مثال په پام کې نیولو سره محاسبه کړئ چې د بوتلونو څو فیصده له 948 څخه تر 956 ملي‌لیټره پورې نوشابه لري.

(c) ketabton.com: The Digital Library

نمونه اخېستل

په دې متل کې((موټي د خروارو نمونه ده)) څرنګه تحليلوئ.

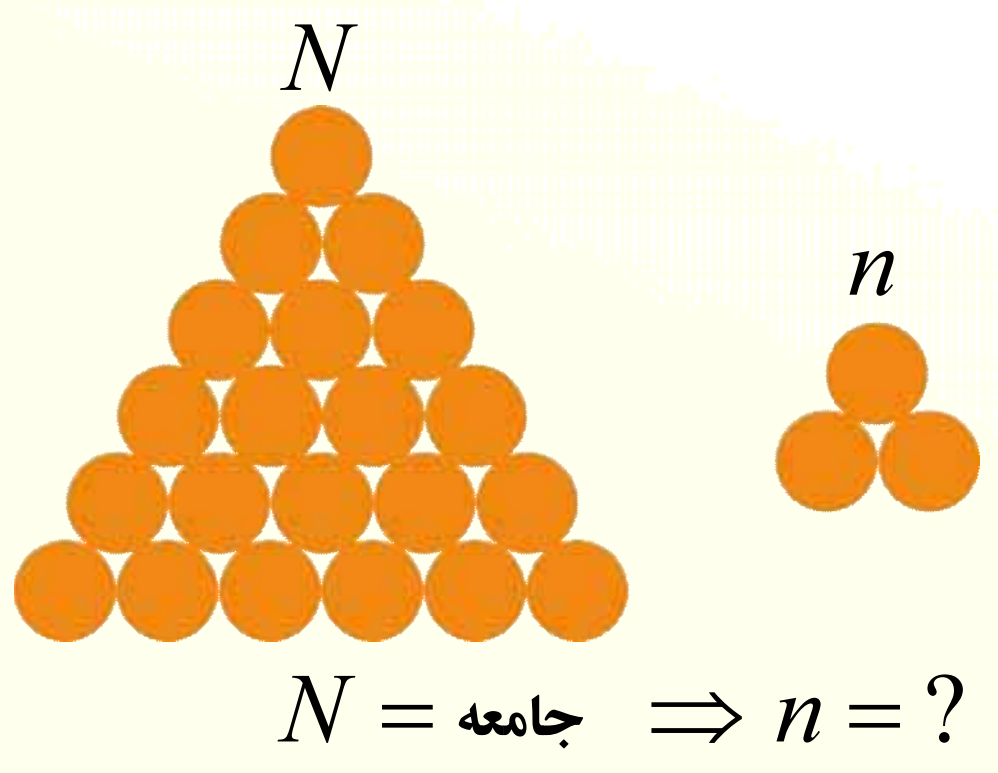

فعالیت

- که چیرې وغواړئ چې د افغانستان د 12 ټولګي د زدهکوونکو ونې(قد) اندازه کړئ ددې کار لپاره څه ډول لارې وړاندیز کوئ.
- نمونه په دوو ډولونو وېشل کېږي، ساده نمونه او ناخاپه نمونه، تاسې ددې نمونو کومې یوې ته غوره‌والی ورکوئ؟ ولې؟
- د نمونه‌ګیرۍ لپاره ښکاره خپل دلایل شته ایا کولای شئ یو یا دوه دلیلونه یې ووایئ.
- سوچ کولای شئ چې د اوسط او معیار انحراف عددي ځانګړنې چې د ټولنې د توزیع او د نمونې د توزیع لپاره ورڅخه ګټه اخېستل کېږي، یو شان وي.
- ایا د نمونه‌ګیرۍ او لیدل شویو ناخاپه متحولینو د مقدارونو ترمنځ توپیر شته؟

له پورتنۍ فعالیت څخه پوهېږو چې د نمونه اخېستنې بېلې بېلې لارې شته دی.

ـ ناخاپه نمونه اخېستنه: د ټولنې ټول عناصر په ټاکل کېدو کې هم چانس دی.

ـ سیستماټیک نمونه اخېستنه: د ټولنې عناصر په منظم ډول کود وهل شوی دی.

ـ طبقه‌یي نمونه اخېستنه: ټولنه په بېلابېلو متجانسو ډلو وېشل شوی وي.

ـ خوشه‌یي نمونه اخېستنه: که ټولنه ډېره لویه وي، هغه په بېلابېلو ځانګو وېشو او له هرې ځانګې څخه یوه نمونه ټاکو.

ـ د هرې ټولنې عددي ځانګړنې(اوسط معیار انحراف) ته د ټولنې پارامتر وایي.

ـ د هرې ټولنې د عددي نمونه‌ګیرۍ ځانګړنې(اوسط معیار انحراف) ته آماره وایي.

ـ د نمونې پایلې د مشاهدې د مقدارونو په عنوان د ناخاپه متحولینو په بڼه په پام کې نیسو.

ـ د $x_1, x_2 \dots x_n$ ناخاپه متحولونو یوه ناخاپه نمونه د x تصادفي متحول ویل کېږي.

(c) ketabton.com: The Digital Library

که چيرې تابع يې په دې ډول تعريف شوې وي.

$$f(x_1, x_2)..., x_n) = f(x_1) \cdot f(x_2) ... f(x_n)$$

مثال: فرض کوو چې په يوه قطی کې 5 سپينې او 7 تورې ګلولې وي، د قطی له منځ څخه 5 ګلولې يوه يوه ځای په ځای کول(د يوه عنصر دويم ځل ټاکل مجاز) ټاکو.

د ټاکل شوی ناڅاپه نمونې تصادفي متحولين په ژبه بيان کړئ او اړونده توزيع يې پيدا کړئ.

حل: د x_1, x_2 او x_3 ناڅاپه متحولونو په پام کې ونيسئ په لومړی پړاو کې د x_1 ناڅاپه متحول لپاره د صفر عدد د تورې ګلولې لپاره او د (1) عدد د سپينې ګلولې ټاکلو په لومړی پړاو کې ځانته غوره کړئ. او د x_2 متحول هم د صفر عدد د تورې ګلولې او د (1) عدد سپينه ګلوله لپاره په دويم پړاو کې ځانته غوره کوي په همدې بڼه د x_3 ناڅاپه متحول په دويم پړاو کې هم د صفر عدد د تورې ګلولې لپاره ټاکو چې په دې پړاو کې (1) عدد سپينه ګلوله ځانته غوره کوي، په دې حالت کې د x_1, x_2 او x_3 ناڅاپي متحولونه د برنولي ناڅاپه متحولين دي. د $p = \frac{5}{12}$ له پارامتر او د $i = 1, 2, 3$ مقدارونو څخه لرو:

$$f(x_i) = (\frac{5}{12})^{x_i} (1 - \frac{5}{12})^{1-x_i}$$

څرنګه چې نمونه اخيسته ناڅاپه ده، نو د x_1, x_2 و x_3 ناڅاپه متحولين يو له بل څخه بېل دی نو تابع يې عبارت دی له:

$$f(x_1, x_2, x_3) = P(x_1 = x_1 \;,\; x_2 = x_2 \;,\; x_3 = x_3)$$

په ياد ولرئ چې د عناصرو هره ناڅاپه نمونې له مجهول پارامترونو سره تړلې نه دي، هغې ته آماره وايي.

پوښتنې

1. که $N = 25$ د يوې ټولنې حجم وي که وغواړو چې پنځه ګونه ناڅاپه نمونه يې پيدا کړو، د هغو نمونو شمېر چې په لاس راځي څومره ده؟
2. ساده او ناڅاپه نمونې سره له مثال بيان کړئ؟
3. فرض کوو چې د يوې ټولنې څخه مو ناڅاپه نمونه رانيولی ده څه سوچ کوئ چې ددې نمونې سره به څه وکړو؟

(c) ketabton.com: The Digital Library

د نموني د اوسط توزیع

دولت غواړي وپوهېږي چې د یوه ښار د وګړو متوسطه ګټه(سپما) څومره ده؟

ددې کار لپاره ناڅاپه نمونه ټاکي او د نموني اوسط محاسبه کوي.

اوس باید ددې محاسبه شوې مقدار څخه کوم کمیت تخمین کړئ؟

$$\frac{\sum_{i=1}^{n} x_i}{n} = ?$$

فعالیت

- د لاندې data د دریو زده‌کوونکو د ورزشي لوبو د نمبرو پایله راښیي:

نوم	پژواک	سلیمان	داود
نمبري	4	3	2

- د نمبرو د احتمال توزیع یې ولیکئ.
- د زده‌کوونکو د نمبرو اوسط او معیار انحراف حساب کړئ.
- راکړل شوی نمبرې د مرتبو جوړو په مرسته(ممکنې دوه ګوني نمونې د ځای په نیولو) ارایه او د هرې نمونې اوسط د جدول په بڼه وښیئ.
- د نمونو د اوسط د احتمال توزیع جدول(د $\bar{x}$ د کثرت د توزیع جدول) ولیکئ.
- د $\bar{x}$ د کثرت توزیع جدول مستطیلي ګرام رسم کړئ.
- د اوسط د $\bar{x}$ متحول د زده‌کوونکو د نمبرو د اوسط سره پرتله کړئ.

(c) ketabton.com: The Digital Library

له پورتني فعاليت څخه دا پايله په لاس راځي:

که $x_1, x_2, ...x_n$ د يوې ټولنې د $f(x)$ احتمال تابع ناڅاپه نمونه وي په دې صورت کې د ناڅاپه نمونې احتمال توزيع عبارت دی له:

x	x_1	x_2	...	x_n
$f(x)$	$\frac{1}{n}$	$\frac{1}{n}$	...	

د $\bar{x}_n$ متحول د اوسط، $E(\bar{x}_n) = \mu$

د $\bar{x}_n$ متحول وريانس، $U(\bar{x}_n) = \frac{1}{n}\delta$

د نمونې وريانس $S_n^{\ 2} = S^2 = \frac{1}{n-1}\sum_{i=1}^{n}(x_i - \bar{x})^2$

د نمونه‌يي وريانس اوسط، $E(S^2) = \delta^2$

په داسې حال کې چې $\bar{x}_n = \frac{1}{n}\sum_{i=1}^{n} x_i$ نمونه‌يي اوسط، μ د ټولنې اوسط δ^2 د ټولنې وريانس S^2 د نمونې وريانس دی.

مثال: د لاندې ټولنه، ټولې دوه ګونې ممکنه ناڅاپه نمونې د ځای په ځای کولو سره ټاکو:

$$f(x) = \frac{1}{3} \quad , \quad x = 1,2,3$$

الف: د x د احتمال توزيع وليکئ.

ب: د ټولنې اوسط او وريانس حساب کړئ.

ج: د $\bar{x}$ د توزيع جدول تشکيل او مستطيلي ګراف يې رسم کړې.

د: $E(\bar{x})$ او $V(\bar{x})$ حساب کړئ.

حل:

الف:

x	1	2	3
$f(x)$	$\frac{1}{3}$	$\frac{1}{3}$	$\frac{1}{3}$

(c) ketabton.com: The Digital Library

ب:

$$\mu = E(x) = \sum_{x=1}^{3} x f(x) = \frac{1}{3}(1+2+3) = 2$$

$$E(x^2) = \sum_{x=1}^{3} x^2 f(x) = \frac{1}{3}(1^2+2^2+3^3) = \frac{14}{3}$$

$$\delta_x^2 = E(x^2) - (E(x))^2 = \frac{14}{3} - 2^2 = \frac{2}{3}$$

ج: لاندې جدول ټولې دوه‌ګوني ممکنو نمونو د ځای نیول، د سره او هر یوه اوسط راښيي:

نمونه	(1,1)	(1,2)	(1,3)	(2,1)	(2,2)	(2,3)	(3,1)	(3,2)	(3,3)
$\bar{x}$	1	1.5	2	1.5	2	2.5	2	2.5	3

د $\bar{x}$ د توزیع د کثرت جدول په لاندې ډول ښودل کېږي:

$\bar{x}$	1	1.5	2	2.5	3
$f(\bar{x})$	$\frac{1}{9}$	$\frac{2}{9}$	$\frac{3}{9}$	$\frac{2}{9}$	$\frac{1}{9}$

د $\bar{x}$ مستطیلي ګراف په لاندې ډول رسمېږي:

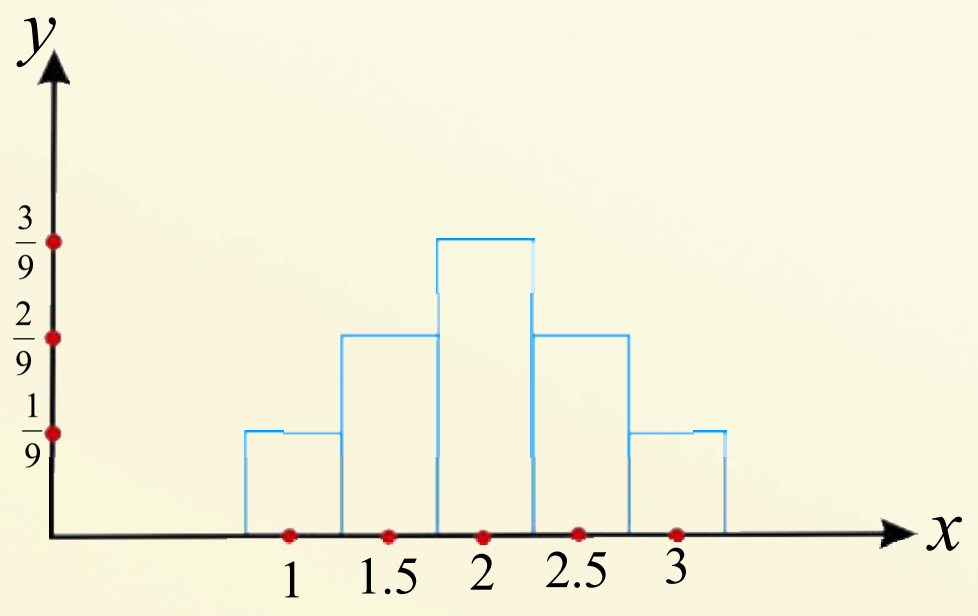

د:

$$\mu_{\bar{x}} = E(\bar{x}) = \sum \bar{x} f(\bar{x}) = 1\cdot\frac{1}{9} + 1.5\cdot\frac{2}{9} + 2\cdot\frac{3}{9} + 2.5\cdot\frac{2}{9} + 3\cdot\frac{1}{9} = \frac{18}{9} = 2$$

$$E(\bar{x}^2) = \sum \bar{x}^2 f(\bar{x}) = 1^2\cdot\frac{1}{9} + (1.5)^2\cdot\frac{2}{9} + 2^2\cdot\frac{3}{9} + (2.5)^2\cdot\frac{2}{9} + 3^2\cdot\frac{1}{9} = \frac{13}{3}$$

$$\delta_{\bar{x}}^2 = V(\bar{x}) = E(\bar{x}^2) - (E(\bar{x}))^2 = \frac{13}{3} - 4 = \frac{1}{3}$$

$$E(x) = E(\bar{x}) = 2$$

(c) ketabton.com: The Digital Library

نو ليدل کېږي چې:

$$V(\bar{x}) = \frac{\delta_x^{\ 2}}{n} = \frac{\frac{2}{3}}{2} = \frac{1}{3}$$

پوښتنه

1. فرض کوو چې يوه ټولنه د $6,4,2$ او 8 څلورو عددونو څخه جوړه شوې وي، په دې صورت کې توزيع، اوسط او وريانس ددې ټولنې محاسبه او وروسته ددې ټولنې څخه دوه ګوني ناخاپه نمونه د ځای په نيولو سره وټاکئ او د نمونې توزيع اوسط يعنې $\bar{x}$ په لاس راوړئ. د کثرت څو ضلعي ګراف يې رسم کړئ، د $\bar{x}$ اوسط او وريانس حساب کړئ.

(c) ketabton.com: The Digital Library

د مرکزي لیمیټ قضیه

پوهېږو چې د ټولنې کمیت ته د ټولنې پارامتر او د نمونې کمیت ته نمونه یي اوسط ویل کېږي د $S_{\bar{x}}$ او $\bar{x}$ د نمونو احصائیه د کوم پارامتر په اړه اطلاعات زموږ په اختیار کې ږدي.

$$\lim_{n\to\infty}\frac{S}{\sqrt{n}}\sqrt{\frac{N-n}{N-1}}=?$$

- که د لویې ټولنې حجم په $\frac{S}{\sqrt{n}}$ و، د کوچنۍ ټولنې حجم په $\frac{S}{\sqrt{n}}\sqrt{\frac{N-n}{N-1}}$ (چې N د ټولنې عناصر شمېر، n د نمونه عناصرو شمېر او S معیار انحراف دی) وښیو څه وخت کېدای شي چې د لویې ټولنې حجم له کوچنۍ ټولنې سره برابر شي؟
- که د $x_1, x_2, \dots, x_n$ نورمال توزیع یو له بل څخه بیل وي آیا د هغوی د جمع حاصل د نورمال توزیع لرونکی ده؟
- که $x_1, x_2, \dots, x_n$ ناخاپه ځانګړي متحولونه په یو شان توزیع شوی وي او د μ اوسط لرونکی وي او ς^2 وریانس وي ویلای شو چې د $S_n = x_1 + x_2 + \dots + x_n$ د توزیع وریانس او اوسط څو دی؟

د پورتني فعالیت څخه لاندې پایله په لاس راځي:

که چیرې N د یوې لویې ټولنې د μ متناهي اوسط او δ^2 متناهي وریانس لرونکی یوه ناخاپه n ګونه نمونه وټاکو، په دې صورت کې د نمونې اوسط یعنې $\bar{x}$ د تقریبي نورمال توزیع د $\mu_{\bar{x}} = \mu$ اوسط $\delta_{\bar{x}}^2 = \frac{\delta^2}{n}$ وریانس دی او $Z = \frac{\bar{x}-M}{\frac{\delta}{\sqrt{n}}}$ ناخاپه متحول د نورمال سټنډرډ توزیع دی. په داسې حال کې چې $\frac{N-n}{N-1}$ ضریب د N د لویو قیمتونو لپاره (1) ته نږدې کېږي. په حقیقت کې یې لیمیټ هغه وخت چې $n \to \infty$ وکړی، برابر له (1) سره دی.

مثال: د یوه لوی ټولګی څخه چې د زده‌کوونکو د ریاضي مضمون نمبرو نورمال توزیع د 71 اوسط او معیار انحراف یې 9 دی. یوه 9 تایي نمونه ټاکو، ددې احتمال چې ددې نمونې د نمبرو اوسط له 80 څخه زیات وي حساب کړئ. همدارنګه که چیرې په تصادفي ډول یو زده‌کوونکی وټاکو، په دې صورت کې احتمال ددې چې نمبرې یې له 80 څخه زیاتې وي محاسبه کړئ.

حل: څرنګه چې $\bar{x}$ د نورمال توزیع د μ په اوسط او معیار انحراف لرونکی دی، نولرو:

$$P(\bar{x} > 80) = P(z = \frac{\bar{x}-\mu}{\frac{\delta}{\sqrt{n}}} > \frac{80-71}{\frac{9}{\sqrt{n}}} = P(z > 3)$$

$$= 1 - P(z) \leq 3 = 1 - 0.9987 = 0.0013$$

همدارنګه د $n = 1$ لپاره لرو:

$$P(\bar{x} > 80) = P(z = \frac{\bar{x}-\mu}{\delta} > \frac{80-71}{9} = P(z > 1)$$

$$= 1 - P(z) \leq 1 = 1 - 0.8413 = 0.1587$$

پاملرنه:

د $P(z)$ قیمت له (2) جدول څخه په لاس راوړو.

(c) ketabton.com: The Digital Library

پوښتنه

1- د هغو جعبو وزن چې د یوه ماشین په واسطه ترل کېږي، د نورمال توزیع اوسط یې $\mu = 250gr$ او معیاري انحراف یې $\delta = 20gr$ وي مطلوب دی، د هغې احتمال محاسبه چې د ناخاپه نمونې د اوسط وزن $n = 16$ تایي د جعبو کوچنی له $240gr$ وي.

(c) ketabton.com: The Digital Library

(c) ketabton.com: The Digital Library

د نمونه‌يي توزيع نسبت

د A په يوه ښارکې n کسان غواړي د B يوکس د ښاروال په صفت وټاکي، که دا کسان تر پوښتنې لاندې راشي او x د موافقو کسانو شمېر وښيئ ددې کسانو نسبي کثرت مساوي په څه دي.

فعاليت

- که چيرې x د دوو جملو توزيع لرونکی وي، کولای شو وليکو چې:

$$f(x)=\binom{n}{x}P^{x}(1-p)^{n-x} \qquad x=0,1,2,\ ....$$

که چيرې $\overset{\frown}{P}=\frac{x}{n}\Rightarrow x=n\overset{\frown}{P}$ وي د x قيمت په تعويض سره په پورتنی فورمول کې $f(\overset{\frown}{P})$ وليکئ.

- د $\overset{\frown}{P}=\frac{x}{n}$ په فورمول کې که د x تصادفي متحول د n ناخاپه متحولينو د $x_1,x_2,...,x_n$ له مجموع څخه تشکيل شوی وي، $\overset{\frown}{P}$ د نمونې اوسط سره څه اړيکه لري؟

که چيرې x ناخاپه متحول، n د برنولي د آزمايښتونو مجموعه، P د هر آزمايښت برياليتوب احتمال وي په دې صورت کې $\overset{\frown}{P}$ د نمونې د نسبت آماره $E(x)=n\,p$ اوسط $V(x)=n\,p\,q$ د x ناخاپه متحول وريانس وي.

د دوه جمله‌يي د توزيع په پاملرنې سره د $\overset{\frown}{P}$ توزيع په دې فورمول سره کولای شو.

$$f(n\overset{\frown}{P})=\binom{n}{n\overset{\frown}{P}}p^{n\overset{\frown}{p}}(1-p)^{n(1-\overset{\frown}{p})} \qquad \overset{\frown}{P}=0,\frac{1}{n},\frac{2}{n},.....,1$$

د $\overset{\frown}{P}$ ناخاپه متحولينو اوسط $(Expected\ Value)$ او وريانس په لاندې صورت ليکلای شو:

$$\mu_p=E(\overset{\frown}{P})=P$$

$$\delta^2\overset{\frown}{P}=V(\overset{\frown}{P})=\frac{p\,q}{n}=\frac{p(1-p)}{n}$$

د نورمال ستنډرډ توزيع يې عبارت دی له:

$$z=\frac{x-n\,p}{\sqrt{n\,p\,q}}=\frac{\overset{\frown}{p}-p}{\sqrt{\frac{p\,q}{n}}}$$

مثال: د کاليو د ښه والي احتمال $P = 0.3$ دی، يوه ساده ناخاپه نمونه $n = 6$ گونه ټاکو که چيرې x د ناقصو کاليو ښودونکی وي، د x او $\hat{P}$ احتمال توزيع وليکئ.

حل: د x ناخاپه متحول د دوه جملهيي توزيع د $P = 0.3$ او $n = 6$ پارامترونه وي.

$$f(x) = P(X = x) = B(x,6,0.3) \qquad x = 0,1,...,6$$

د دوه جملهيي توزيع جدول څخه په ګټه اخيستني سره لاندې احتمالونه محاسبه او د توزيع د جدول احتمال يې ليکو:

x	0	1	2	3	4	5	6
$f(x)$	0.1176	0.3025	0.3241	0.1852	0.0595	0.0102	0.0007

د $\hat{P}$ ناخاپه متحول د $0, \frac{1}{6}, \frac{2}{6}, \frac{3}{6}, \frac{4}{6}, \frac{5}{6}$ او 1 قيمتونه نيسي:

$$P(\hat{P} = 0) = P(X = 0) = 0.1176$$

$$P(\hat{P} = \frac{1}{6}) = P(X = 1) = 0.3025$$

او پاتې نور په مشابه ډول محاسبه کېږي، پام وکړئ چې:

$$P(\hat{P} = \frac{x}{n}) = P(X = x)$$

او د $\hat{P}$ د احتمال توزيع عبارت دی:

$\hat{P}$	0	1.6	2.6	3.6	5.6	1
$f(\hat{P})$	0.1176	0.3025	0.3241	0.0595	0.0102	0.0007

په پورتني مثال کې:

$$P(\hat{P} \le 0.6) = P(x \le 3.6) = P(x \le 3) = \sum_{x=0}^{3} B(x,6,0,3) = 0.9294$$

اويا:

$$P(\hat{P} \le 0.27) = P(x \le 1.62) = P(x \le 3) = 0.1176 + 0.3025 = 0.4201$$

پوښتني

1. ددې احتمال چې د يوه تن د غوښتنليک فرم په پوره ډول پرته له غلطۍ(تېروتنې) څخه ډک کړي $P = 0.7$ وي، يوه نمونه د $n = 200$ گونه د استخدام ډک شوی فارمونه مو ټاکلې وي.

- ددې احتمال محاسبه کړئ چې $\hat{P}$ د ± 00.05 داخلي فاصله کې د ټولنې له بنسټ څخه ولوېږي.
- ددې احتمال محاسبه کړئ چې $\hat{P}$ د 0.6 څخه زيات وي.

(c) ketabton.com: The Digital Library

د څپرکي مهم ټکي

- ناڅاپه متحول هغه اصطلاح ده چې د یوې تابع په عنوان په احصائیه او احتمالاتو کې تر ې نه ګټه اخیستل کېږي.
- د یوه مجزا ناڅاپه متحول د احتمال تابع هغه تابع ده چې د تعریف ناحیه یې هغه عددونه دي چې ناڅاپه متحول کولای شي هغه غوره کړي او د قیمتونو ناحیه سره د تعریف د ناحیې د عناصرو اړونده احتمالونه ګڼون لري.
- د تجمعي احتمال تابع هغه تابع ده چې د تعریف ناحیه کې هغه عددونه ګډون ولري چې د x ناڅاپه متحول یې ځانته غوره کوي او د قیمتونو ناحیه یې د $f(x)$ ټول تصویرونه موجود دي.
- د یوه پیوسته(متمادي) متحول د احتمال تابع هغه تابع ده چې د تعریف ناحیه یې د x ټول پیوسته(متمادي) مقدارونه غوره کړي او دقیمتونو ناحیه یې $F(x)$ ټول تصویرونه وي.
- د x مجزا ناڅاپه متحول اوسط Expected value او وریانس په وار سره عبارت دي له:

$$E(x)=\sum_{i=1}^{n} x_i f(x_i)=\bar{x}$$

$$V(x)=S^2=\sum_{i=1}^{n}(x_i-E(x_i))^2 f(x_i)$$

- د برنولي توزیع، $P(X=m)=P^m(1-P)^{1-m}$
- د دوه جمله‌یي توزیع، $P(X=m)=\binom{n}{m}P^m\ q^{n-m}$
- د دوه جمله‌یي توزیع اوسط او معیاري انحراف عبارت له: $S=\sqrt{n\,p\,q}$, $\bar{x}=n\,p$
- د پواسن د احتمال توزیع یو مجزا احتمال توزیع ده چې فورمول یې عبارت دی له:

$$P(x=m)=\frac{e^{-\lambda}\ \lambda^m}{m!}$$

- که N له یوې نورمالې جامعې څخه د n خلې(تایي) ناڅاپه نمونه وټاکو د $\bar{x}$ د نمونه‌یي اوسط آماره د نورمال توزیع لرونکی له $\mu_{(\bar{x})}=\mu$ اوسط سره او $\delta_{\bar{x}}^{2}=\frac{\delta^2}{n}$ او $z=\frac{\bar{x}-\mu}{\frac{\delta}{\sqrt{n}}}$ د سټنډرډ نورمال توزیع سره ده.
- د نورمال توزیع: د نورمال توزیع شکل له زنګولی سره مشابه او متناظر دی، په نورمال توزیع کې مرکزي شاخصونه یو له بل سره برابر دي او د پیوسته ناڅاپه متحولونو د ناحیې تعریف محدود دی چې د احتمال توزیع یې عبارت ده له:

$$f(x)=\frac{1}{\delta\sqrt{2\pi}}e^{-\frac{1}{2}(\frac{x-\bar{x}}{\delta})^2}$$

چې μ د ټولنې اوسط او δ د ټولنې معیاري انحراف دی.

(c) ketabton.com: The Digital Library

- د $f(x)$ تابع د منحني لاندې مساحت د محاسبې لپاره د a او b په فاصلو کې کولای شو له دې انتیګرال څخه ګټه واخلو:

$$P(a \le x \le b) = \int_a^b f(x)\,dx = \int_a^b \frac{1}{\delta\sqrt{2\pi}} e^{-\frac{1}{2}(\frac{x-\mu}{\delta})^2}$$

- که چیرې x د دوه جمله‌یي توزیع د n شمېرد برنولي پر له پسې ازمایښتونه، P د کامیابی احتمال او $q = 1 - p$ د هر ازمایښت د نابریالیتوب احتمال وي، په دې صورت کې د احصائیه د اوسط نمونه او د x ناخاپه متحول وریانس په ترتیب سره عبارت دی له: $\hat{P} = \frac{x}{n}$, $E(x) = np$ او $V(x) = npq$

همدارنګه د دوه جمله‌یي توزیع، اوسط، وریانس او د سټنډرډ توزیع او $\hat{P}$ ناخاپه متحول په ترتیب سره عبارت دی له:

$$E(\hat{P}) = P \quad , \quad f(\hat{P}) = \binom{n}{n\hat{P}} P^{n\hat{P}} q^{(1-P)}$$

$$z = \frac{\hat{P} - P}{\sqrt{\frac{pq}{n}}} \quad , \quad V(\hat{P}) = \frac{pq}{n}$$

- ددې $z = \frac{x-\mu}{\delta}$ اړیکې په واسطه کولای شو چې هره احصائیوي مجموعه یې د نورمال توزیع لرونکی وي هغه په سټنډرډ نورمال بدل کړو.
- نمونه په دوو برخو وېشل کېږي، ساده نمونه او ناخاپه نمونه.
- د نمونه ګیری طریقې په عمومي ډول عبارت دي له: ناخاپه نمونه‌ګیري، منظمه نمونه‌ګیري، ګروپي نمونه‌ګیري، خوشه‌یي نمونه ګیري.
- د x نمونې ناخاپه متحولونو اړوند تابع په دې صورت تعریفېږي.

$$f(x_1, x_2, x_3, \ldots\ldots\ldots, x_n) = f(x_1), f(x_2), \ldots\ldots\ldots, f(x_n)$$

- که چیرې x د ټولنې یوه ناخاپه نمونه د $f(x)$ د احتمال تابع په لرلو سره وي $E(\bar{x}_n) = \mu$ اوسط، $V(\bar{x}_n) = \frac{1}{n}\delta$ د اوسط وریانس، δ^2 د ټولنې وریانس او S^2 ته د نمونو وریانس وایي.

(c) ketabton.com: The Digital Library

د څپرکي پوښتنې

1. دوه سکې څلور ځلې پورته واچوئ او د خط راتللو شمېر په پام کې ونيسئ:
   - ناڅاپه متحولونه د تابع په بڼه وښيئ.
   - د هر ځل د پورته اچونې احتمال نمونه‌یي فضا سره نسبت ورکړئ.
   - د تابع د تجمعي او مجزا احتمال وليکئ.
2. که چيرې د يوې جوړې بوټونو د نقيصي احتمال $P = 0.1$ وي، د ناقصو بوټونو اوسط او معيار انحراف په يوه نمونه کې $n = 400$ جوړو بوټونو پيدا کړئ.
3. د يوه شرکت په گدام کې 500 پايې کمپيوټرونه شته چې د هغې له جملې څخه يې 50 پايې نقص لري، يو اخېستونکی له هغې څخه 10 پايې کمپيوټرونه اخلي، ددې احتمال څومره دی چې هغې 8 پايې جوړ اخېستی وي؟
4. لاندې اطلاعات چې اوسط او معيار انحراف د دوو پارامترونو په اړوند دی د نورمال توزيع د رسمولو لپاره ترې گټه واخلئ. لومړی يو افقي محور رسم کړئ او د $\bar{x}$, $\bar{x}+s$, $\bar{x}-s$, $\bar{x}+2s$ او $\bar{x}-2s$ ټکي پرې وټاکئ وروسته يو ټکی د h اختياري جگوالی په اندازه د $\bar{x}$ له پاسه په پام کې ونيسئ او $\bar{x}+s$ له پاسه يو ټکی د $0.6h$ په جگوالی وټاکئ، يعنې يو ټکی چې مختصات يې $(\bar{x}+s, 0.6h)$ څرنگه چې د نورمال منحنې متناظر دی، همدا عمل په ځانگړې توگه په $\bar{x}-s$ هم سرته ورسوئ. اوس د $\bar{x}+2s$, $\bar{x}-2s$ د پاسه دوه ټکې د h او $0.15h$ په جگوالي په پام کې ونيسئ، پام وکړئ چې د نورمال منحنې د دقيق رسمولو لپاره د $0.6067h$ او $0.1354h$ په ځای له $0.6h$ او $0.15h$ څخه گټه واخلئ. په پايله کې دا ټکې د يوه منحنې په واسطه وصل او ووايئ چې دا منحنې په کومو فاصلو کې محدب او په کومو فاصلو کې مقعره ده.
5. په يوه روغتون يوه څېړنه راښيي چې د مراجعينو شمېر د شنبې په ورځ وروسته له وخت څخه د 6 او 8 ترمنځ 25 تنه دی. فرض کړئ چې د پواسن د احتمال توزيع په دې حالت کې صدق وکړي.
   - د روغتون د مراجعينو د احتمال توضيح د دوشنبې له ورځې، وروسته له وخت څخه د 6 او 8 ساعتونو تر منځ پيدا او گراف يې رسم کړئ؟ آيا دا توزيع خميده ده؟
   - ددې توزيع د اوسط او معيار انحراف مقدار په لاس راوړئ.
   - آيا دا ممکنه ده چې د دوشنبې په ورځ وروسته له وخت څخه د 6 او 8 ساعتونو ترمنځ به له 7 تنو څخه زيات روغتون ته مراجعه کړې وي؟ ولې؟
6. فرض کوو چې د يوه کتاب د يوه مخ د تېروتنو شمېر د پواسن د توزيع يا $\lambda = \frac{1}{2}$ پارامتر لرونکی دی د محاسبې احتمال يې مطلوب دی داسې چې:

(c) ketabton.com: The Digital Library

- حد اقل یوه ټاپیي تېروتنه په هغه مخ کې وي.
- دقیقاً 5 ټاپیي تېروتنې په هغه مخ کې دي.
- د 3 او 6 ترمنځ ټاپیي تیروتنې په هغه کې وي.

7. فرض کوو چې د هغه پستون قطر چې د یوه اتوماتیکي ماشین په واسطه جوړېږي په نورمال یا اوسط ډول 25 ملي متر او معیار انحراف یې 0.5 ملي متره توزیع شوی وي.
   - کله چې د پستون قطر د 25.2 او 25.9 ترمنځ وي احتمال یې څومره دی.
   - د پستونونو کوم نسبت د 25 ملي قطر لرونکی او له هغې څخه کم دی.
   - که چیرې 1000 پستونه جوړ شي، له هغوی څخه څو دانې ددې وړ دی چې 24.07 ملي مترو څخه کم قطر ولري.
   - د تولید شویو پستونونو څو فیصده د 24.56 ملي متره معادل قطر یا له هغه څخه زیات لري.

8. که چیرې $x_1, x_2, \ldots, x_n$ د x ناڅاپه متحول یوه تصادفي نمونه وي ایا د $\frac{1}{n}\sum_{i=1}^{n}(x_i - \bar{x})^2$، $\frac{1}{n}\sum_{i=1}^{n}x_i$، $\frac{x_1 + x_2}{x_4}$ او $x_1 + 3x_2 - x_3$ تابع آماره دی.

9. که چیرې x یو ناڅاپه متحول او د μ او δ^2 پارامترونه وي آیا د $\frac{3x_1 - 2x_3 - \delta}{8\mu + x_2}$، $\frac{1}{n}\sum_{i=1}^{n}(x_i - \mu)$ او $x_1 + x_3 - \mu$ توابع μ او δ^2 مجهول وي آیا پورتنیو تابعګانو ته احصائیه ویلی شو؟

10. ټولنه د برق په څلورو ډلو کې ګټون لري، که د عمرونو اوږدوالی یې د ساعتونو په حساب سره عبارت له 108 104 112 103 دي یوه ډله ناڅاپه ټاکو، فرض کوو چې د x ناڅاپه متحول ټاکل شوی د ډلو د عمر اوږدوالی راوښیئ:
    - د x د احتمال توزیع ولیکئ.
    - $E(x)$ او $V(x)$ محاسبه کړئ.

11. د یوه ښار د وګړو د ګټې اندازه چې د غیرنورمال توزیع $\mu = 90$ افغانۍ اوسط او د 25 افغانۍ معیار انحراف سره دی که چیرې د 225 کسیز د وګړو د یوې نمونې د ګټې مجموعه له 2100 افغانیو څخه زیاته وي، احتمال یې څومره دی؟

12. پوهېږو چې 56% وګړي د A نوماند طرف دار دی، څومره ددې احتمال شته چې $n = 50$ دوه‌ګونې یوه نمونه کې حداقل 60% وګړي د A نوماند طرفدار وي.

13. په 12 مثال کې که چیرې $P = 0.4$ وي، یعنې ددې احتمال چې یو وګړی د A کاندید طرفدار وي 0.4 دی، یوه $n = 200$ ګونه نمونه وټاکو نو څومره ددې احتمال شته چې لااقل 100 وګړی د A کاندید طرفدار وي.

(c) ketabton.com: The Digital Library

(c) ketabton.com: The Digital Library

اتم څپرکی

احتمالات

(c) ketabton.com: The Digital Library

بېلې شوې(غیرمتمادي) او نښتې(متمادي) فضاګانې

په مخامخ شکلونو کې د لومړي او دویم نل څخه په وار سره اوبه په څمکه تویېږي ویلای شئ چې له دې نلونو څخه په څمکه د اوبو د څاڅکو د تویېدو توپیر په څه کې دی؟

فعالیت

- د یو رمل په اچولو سره ویلای شي چې د نمونه یي فضا ټولې ممکنې پایلې کومې دي؟
- آیا د ونې څخه د یو یې پخې منې د لوېدلو وخت وړاندوینه کولای شئ چې وروسته له څو ثانیو، دقیقو او یا ساعتونو څخه پر څمکه ولوېږي؟
- نظر وخت ته د منې د لوېدلو نمونه یي فضا ولیکې.
- د رمل دانې د اچولو تجربې نمونه یي فضا د عناصرو شمېر او له ونې څخه د منې د لوېدلو وخت څنګه پرتله کولای شي.

د پورتنی فعالیت له سرته رسولو څخه لاندې پایله په لاس راځي:

د یوې ناڅاپه تجربې نمونه یي فضا عبارت له هغه ټاکلې او یا نا ټاکلې سټ یا مجموعې څخه ده، چې د ځینې عناصرو یې د شمېر وړ، او ځینې یې د شمېر وړ نه وي.

هغه نمونه یي فضاګانې چې عناصر یې د شمېر(countable) او تشخیص وړ وي د پرېکړې یا ګسسته(شلیدلې) نمونه یي فضا یا متصل په نامه یادېږي او هغه نمونه یي فضاګانې چې عناصر یې د شمېر وړ نه وي د نښتې(پیوسته) یا متمادي نمونه یي فضا په نامه یادېږي.

لومړی مثال: له لاندې نمونه یي فضاګانو څخه کومه یوه نښتې(پیوسته) او کومه یوه پرېکړې(ګسسته) ده.

الف: د دوو رمل دانو اچول

ب: د 8 او 12 ترمنځ د یوه حقیقي عدد ټاکل.

ج: له 30 زده کوونکو څخه د 3 تنو ټاکل

(c) ketabton.com: The Digital Library

د: د يوې کُرې د حرارت د يوې درجې لوړېدل د 100 درجو د سانتي گرېډ څخه تر 1000 درجود سانتي گرېډ پورې.

هـ: د 30° او 45° زاويو ترمنځ يوه زاويه ټاکل.

حل: څرنگه چې (الف او ج) نمونه‌يي فضاگانې د محدودو غړو له شمېر څخه جوړ شوې، نو پرېکړې يا گسسته فضا ولې (ب، د او هـ) له نامحدود حقيقي عددونو څخه تشکيل(جوړ) چې د شمېر وړ نه دي، نو نبتی يا پيوسته فضاگانې دي.

دويم مثال: خيبر د کور د گلانو د اوبولو لپاره يو واټرپمپ اخيستی دي.

که چېرې د واټرپمپ عمرد ساعت له مخې په پام کې ونيسو، په دې حالت کې د واټرپمپ د عمر د اوږدوالی نمونه-يي فضا چې کيدای شي هر مثبت حقيقي عدد د واټرپمپ د ورانېدو په صورت کې د کار د مودې قيمت شي، په دې ډول د داسې ناڅاپه حادثې پېښېدل صفر هر حقيقي عددکيداې شي چې دا نمونه‌يي فضا يوه غير متمادی، نبتی يا پيوسته نمونه يي فضا ده؛ يعنې { t د واټرپمپ د ورانېدو وخت، $S = \{t \in IR : t \geq 0$ چې په پورتنی نمونه يي فضاکې t د واټرپمپ د عمر اوږدوالي راښيي.

يادونه:

1- د لومړي مثال الف او ج جزونه کې محدودې نمونه‌يي فضاگانو څخه بحث شوی چې عناصر يې د شمېر وړ دي، د ب او د جزونو کې نامحدودې نمونه‌يي فضاگانې ذکر شوي چې عناصر يې د شمېر وړ نه دي، نو ځکه ټول مثبت حقيقي عددونه اخېستلای شي.

2- په دويم مثال کې نمونه‌يي فضا متصل يا غير محدوده ده چې د حقيقي عددونو د انټروال په توگه ښودل کېږي.

پوښتنې

1- يو غشي وېشتونکی د يوه دايروي د سک په دننه چې ورانگه يې r ده، په پام کې ونيسي. د غشي د لگېدو ځای د دايرې په دننه کې چې مرکز ته نږدې ولگېږي، د هغې نمونه يې فضا ارايه کړې. وواياست چې دا څنگه يوه نمونه يې فضا ده.

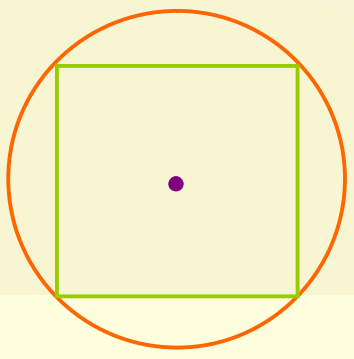

2- په مخامخ شکل کې په ناڅاپي يا تصادفي ډول د دايرې په دننه کې يو ټکې و ټاکئ، احتمال ددې شته چې مطلوب ټکې د مربع په دننه کې وي.

3- يو طبيعي دوه رقمی عدد و ټاکئ، هغه احتمال پيداکړې چې عدد د 4 مضرب وي.

(c) ketabton.com: The Digital Library

هم چانسه پېښې

د يوې نورمال رمل دانې په اچولو کې د (1) او يا (5) شمېرې مخ ته راتللو لپاره شرط څه دي؟
د 2 او 5 شمېرې د راتللو چانس يو له بل سره څه اړيکه لري؟

فعاليت

د مخامخ شکل په څېر يوه دايره په پام کې ونيسئ، که چېرې په راکړې شوې دايره کې يو ښکاري غشي وولي لاندې پوښتنو ته ځواب ورکړئ.

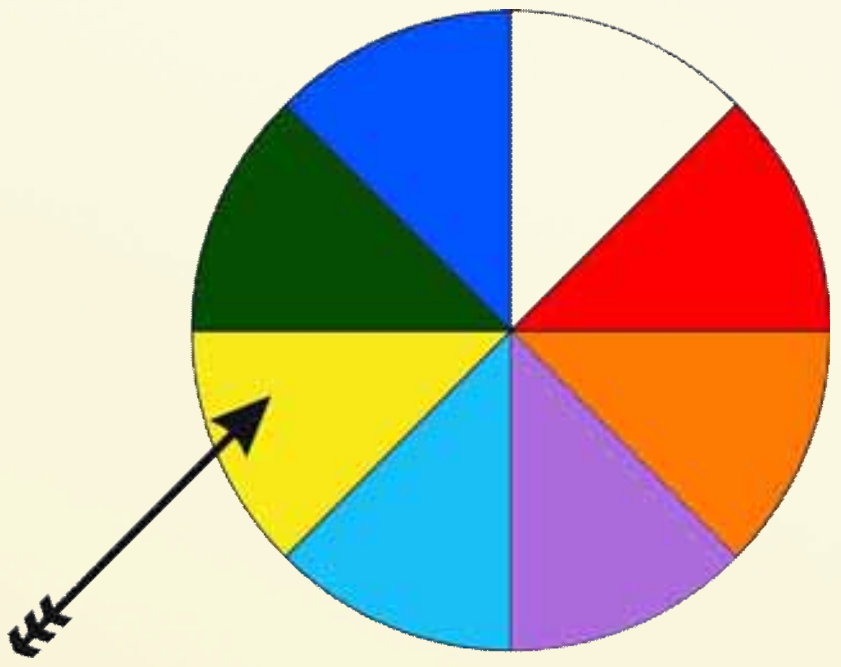

- په سور رنګه ناحيه او شين رنګه ناحيه کې د غشي لګېدل يو له بل سره څه اړيکه لري؟
- د غشي د لګېدو چانس دکچه په اړه د نارنجي او سپين رنګونو سره په پرتله باندې څه ويلای شې؟
- د غشي د لګېدو د چانس کچې په تور رنګ څومره ده؟
- د تجربې، نمونه‌يي فضا يې وليکئ.
- لومړنی ناځاپه پېښې لست کړي او د هر يو احتمال پيدا کړی دي؟
- د لومړنيو پېښو د احتمالونو د مجموع په برخه کې څه ويلای شې؟

د پورتنی فعاليت له اجرا کولو څخه لاندې پايله په لاس راوړو:

هغه لومړنی ساده پېښې چې د هغوی د پېښېدلو چانس په يوې تجربې په اجرا کولو کې سره برابر وي، د هم چانسه پېښو په نامه يادېږي. لکه:

که چېرې $S=\{e_1,e_2,\ldots e_n\}$ يوه نمونه يي فضا وي، نو $\{e_i\}$ د هر $i=1,2\ldots n$ لپاره يوه ناځاپه لومړنۍ پېښه ده که $0\le P(\{e_i\})\le 1$, $i=1,2,\ldots n$ دي.

سربېره پر دې د لومړنيو پېښو د احتمالونو مجموع مساوي له يوه سره ده.

$$P(\{e_1\})+P(\{e_2\})+\ldots+P(\{e_n\})=\sum_{i=1}^{n}P(e_i)=1$$

(c) ketabton.com: The Digital Library

مثال: څلور تنه په یوه لوبه کې ګډون کوي. تاسې د هر یوه د ګټلو احتمال پیدا کړئ په داسې حال کې چې نمونه‌یي فضا هم چانسه وي.

حل: که چېرې $S = \{a, b, c, d\}$ نمونه یې فضا وي، نو د هرې ناخاپه لومړنۍ پیښې احتمال $\frac{1}{4}$ دی.

لرو چې:

$$P(a) = P(b) = P(c) = P(d) = \frac{1}{4}$$

پاسنۍ لومړنۍ پیښې سره هم چانسه دي.

پوښتنې

1- مخامخ شکل په پام کې ونیسئ، که چېرې د عقربې(ستنې) د درېدلو احتمال په آسماني او سپین رنګ 0.30 او د سره رنګ پرمخ 0.26 وي، د شنه رنګ پرمخ د درېدلو احتمال به څومره وي؟

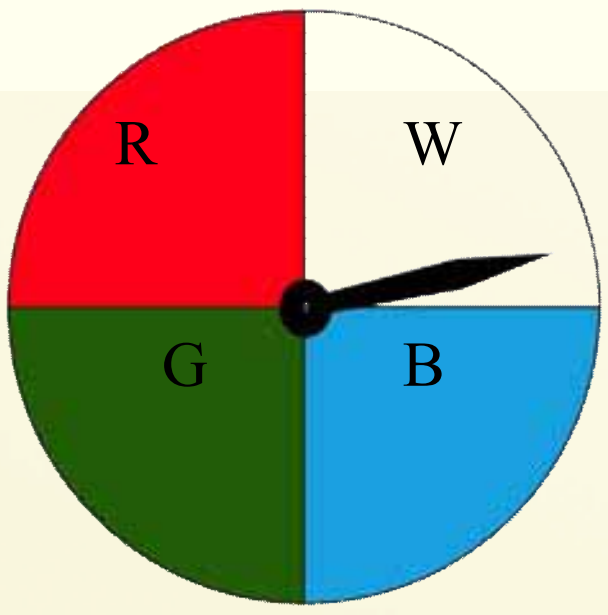

2- لاندې د کثرت جدول د رمل یوې دانې د اچولو لپاره په پام کې ونیسئ. هغه احتمال پیدا کړئ، چې د رمل دانه (5) شمېره راشي.

د رمل شمېره	1	2	3	4	5	6
کثرت	7	9	8	7	3	10

3- د رمل یوه دانه داسې ډکه شوې چې د جفت شمېرو د راتللو احتمال د طاق شمېرو دوه برابره وي، که یو چا په شرط وهلو کې (5) شمېره ټاکلې وي، د هغې احتمال پیدا کړئ.

(c) ketabton.com: The Digital Library

د نښتي يا پيوسته(متمادي) فضاګانو احتمال

د يوه متساوي الاضلاع مثلث دننه چې هره ضلعه يې 3 واحده ده، يو غشي ولو، ددې احتمال چې د غشي د لګېدلو ټکي د مثلث د هر رأس نه د يو واحد په اندازه لوی وي، څو دی؟

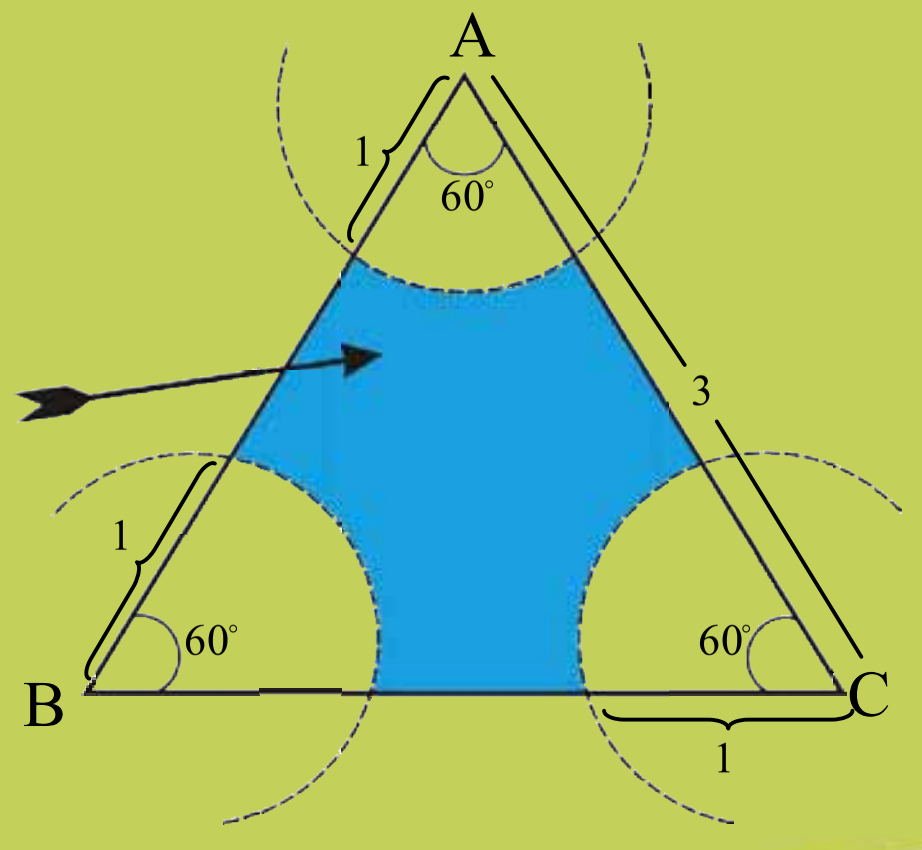

فعاليت

- آيا ويلای شي چې د يوې ټوټه کرښې، د يوې مستوي د يوې برخې او يا د فضا د حجم څو ټکي يو پر بل پسې موجود دي؟
- د هغو ټکو د پيښېدلو احتمال چې د A په برخه کې چې د S د لويې برخې فرعي مساحت دی، لکه څرنګه چې په شکل کې ليدل کيږي د A او S د ساحو د مساحتونو د نسبت سره څه اړيکه لري؟

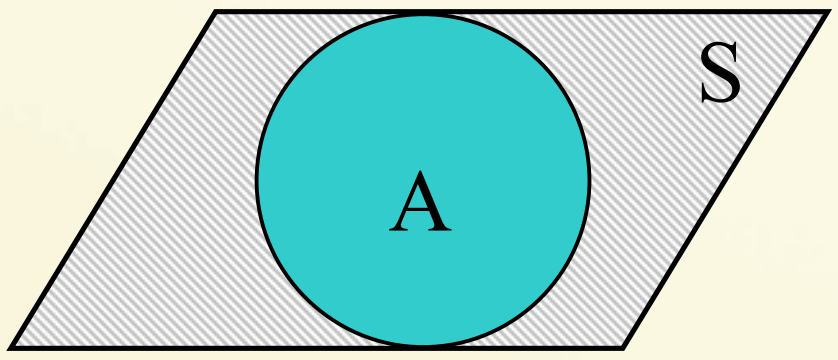

- آيا کولای شئ دا مسئله په فضا د يوه جسم حجم د يوې برخې د احتمال د محاسبې لپاره عموميت ورکړئ؟

د پورتني فعاليت له سرته رسولو څخه لاندې پايله لاسته راځي.

پيوسته(متمادي) نمونه‌يي فضا د نامعينو ټکو مجموعه ده، چې شکل يې د اعدادو په محور ، په مستوي کې لکه سطح او يا په فضا کې لکه حجمونه دی، څرنګه چې ددې ټکو ښوونه ممکن نه ده، نو د احتمال د نسبت پيدا کولو لپاره د ټوټه کرښو د اوږدوالي، د اشکالو سطحو او يا د جسمونو له حجم څخه استفاده کوو.

معمولاً د اعداد له محور څخه په ګټه اخيستنې سره د x يو متحول، د يوه مساحت د يوې برخې لپاره د دوو متحولونو لکه x او y او په همدې ترتيب د حجمونو لپاره له دريو متحولونو لکه x، y او z څخه ګټه اخلو.

لومړی مثال: د اعدادو په محور د $(0,3)$ په انټروال کې د x يو ټکي په ناڅاپي يا اتفاقي ډول ټاکو پيدا کړئ ددې احتمال چې $1 < x < 2.5$ وي؟

(c) ketabton.com: The Digital Library

حل: د حقیقي اعدادو محور رسم کړئ د S او A فاصلې د هغې پر مخ ټاکو، د شکل په پام کې نیولو سره د A پېښې د پېښېدو احتمال څخه لرو:

$$P(A)=\frac{\text{د A ټوټې کرښې اوږدوالی}}{\text{د B ټوټې کرښې اوږدوالی}}=\frac{2.5-1}{3-0}=\frac{1.5}{3}=\frac{1}{2}$$

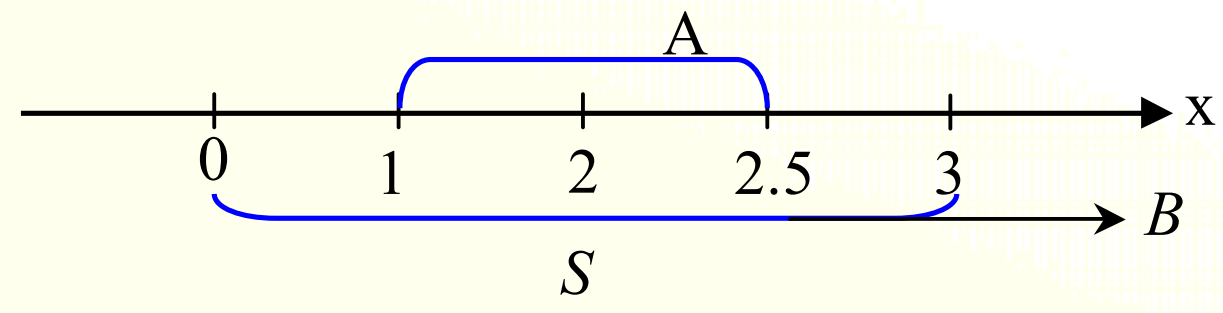

دویم مثال: په ناڅاپه ډول یو ټکی د یوه مکعب په دننه کې چې ضلعه یې 2 واحده وي ټاکو پیدا کړئ ددې احتمال چې نوموړي ټکي د مکعب د محاطي کُرې په دننه کې وي.

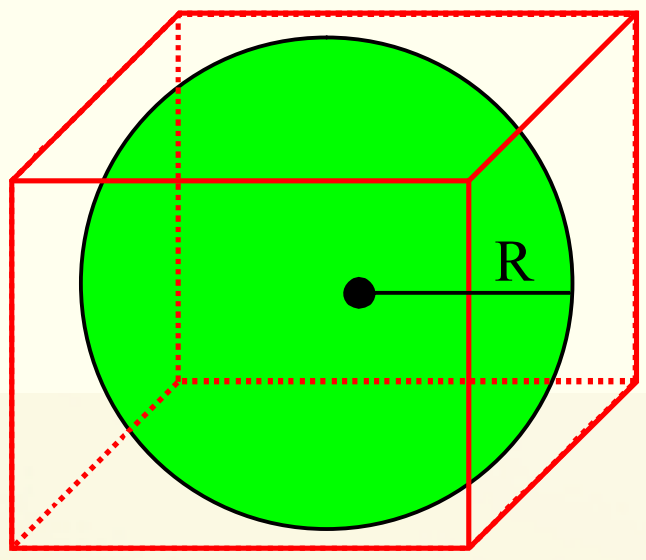

حل: که چېرې کره د هغه مکعب په دننه کې چې ضلعه یې a واحده ده، محاطه وي، نو د کرې شعاع $r=\frac{a}{2}$ کیداې شي نو:

A ناڅاپه پېښه د کرې د حجم او S نمونه یې فضا سره مساوي چې د مکعب حجم دی، نو لرو:

$$r=\frac{a}{2}=\frac{2}{2}=1$$

$$P(A)=\frac{\text{د کرې حجم}}{\text{د مکعب حجم}}=\frac{\frac{4}{3}\pi r^3}{a^3}=\frac{\frac{4}{3}\pi(1)^3}{2^3}=\frac{\pi}{6}$$

پوښتنې

1- د حقیقي اعدادو په محور د A او B دوه ټکي په ناڅاپي یا تصادفي ډول داسې ټاکو چې $0 \le A \le 3$ او $-2 \le B \le 0$ وي، ددې احتمال پیدا کړئ چې د d واټن د A او B ترمنځ وي او 3 واحدو څخه لوی وي.

2- که چېرې یو ټکي په ناڅاپي یا تصادفي ډول د دایرې د سطحې پرمخ وټاکو، ددې احتمال پیدا کړئ، چې نوموړي ټکي نظر د دایرې محیط ته د دایرې مرکز ته نږدې وي.

(c) ketabton.com: The Digital Library

مشروط احتمال

له یوه ولایت څخه (20) تنه نارینه او ښځینه زده‌کوونکي د کانکور په آزموینه کې د طب پوهنځي ته بریالي شوي دي، د هغوی له جملې څخه یې 5 تنه ښه کاراته بازان دي: که په 15 تنو بریالیو نارینه وو کې 4 تنه یې ښه کاراته بازان وي. د نومړو محصلینو له منځ څخه په اتفاقي ډول یو تن ټاکو احتمال د دې پیدا کړئ، چې:

- ټاکل شوی محصل یوه کارته بازه نجلي وي؟
- په پورتني سوال کې هغه نجلي په کوم شرط سره د طب پوهنځي ته بریالي شوي؟

فعالیت

له 2500 زده‌کوونکو څخه 1600 تنه یې په مطالعه کولو عادت لري.

چې له 80% زده‌کوونکو څخه یې 70% نارینه زده‌کوونکي وي او په مطالعه کولو عادت ولري، که د ټولو زده‌کوونکو لپاره احتمال یو شان وی، د لاندې پیښو په پام کې نیولو سره د یوه تن زده‌کوونکی ټاکل د ښوونځی له زده‌کوونکو څخه:

R: له مطالعې سره عادت لري.

M : نارینه زده‌کوونکي دی.

F: یوه ښځینه زده‌کوونکې ده.

د لاندې پوښتنو په حل فکر وکړئ:

- ددې احتمال پیدا کړئ چې د مطالعه کوونکو له منځ څخه ټاکل شوي زده‌کوونکی نارینه وي؟
- ددې احتمال پیدا کړئ چې د مطالعه کوونکو له منځ څخه ټاکل شوی تن یوه ښځینه وي؟
- ددې احتمال پیدا کړئ چې ټاکل شوي زده‌کوونکي یو نارینه وي په دې شرط چې په مطالعه عادت وي.

د پورته فعالیت د سرته رسولو څخه لاندې پایله په لاس راوړو:

په حقیقت کې د هغه نارینه زده‌کوونکی د ټاکلو احتمال په دې شرط چې په مطالعه عادت ولري.

(c) ketabton.com: The Digital Library

د لاندې احتمالات وېش له حاصل څخه عبارت دی که چیرې Ω ټوله نمونه‌یي فضا او $|\Omega|$ نمونه‌یي فضا د عناصرو شمیر وي، نو لرو:

$$P_R(M)=\frac{P(M\cap R)}{P(R)}=\frac{\frac{|M\cap R|}{|\Omega|}}{\frac{|R|}{|\Omega|}}=\frac{|M\cap R|}{|R|}=$$ د هغه نارینه زده‌کوونکو د ټاکلو احتمال چې په مطالعه عادت وي.

$P_R(M)$ د هغې پیښې له احتمال څخه عبارت دي چې ټاکلې زده‌کوونکې نارینه وي، په دې شرط چې هغه په مطالعه عادت وي.

تعریف: که چیرې S نمونه‌یي فضا A او B د نمونه‌یي فضا دوې ناڅاپي پیښې وي، په داسې حال کې چې $P(B)\neq 0$ وي. په دې حالت کې نوموړی احتمال یعنې $P_B(A)=\frac{P(A\cap B)}{P(B)}$ چې د A ناڅاپي پیښې احتمال نظر د B ناڅاپي پیښې ته مشروط احتمال بلل کېږي.

د پورته تعریف په پام کې نیولو سره نظر د مسیر لومړي قاعدې ته د ونه‌ییز دیاګرام په مرسته هم په لاس راوړای شو.

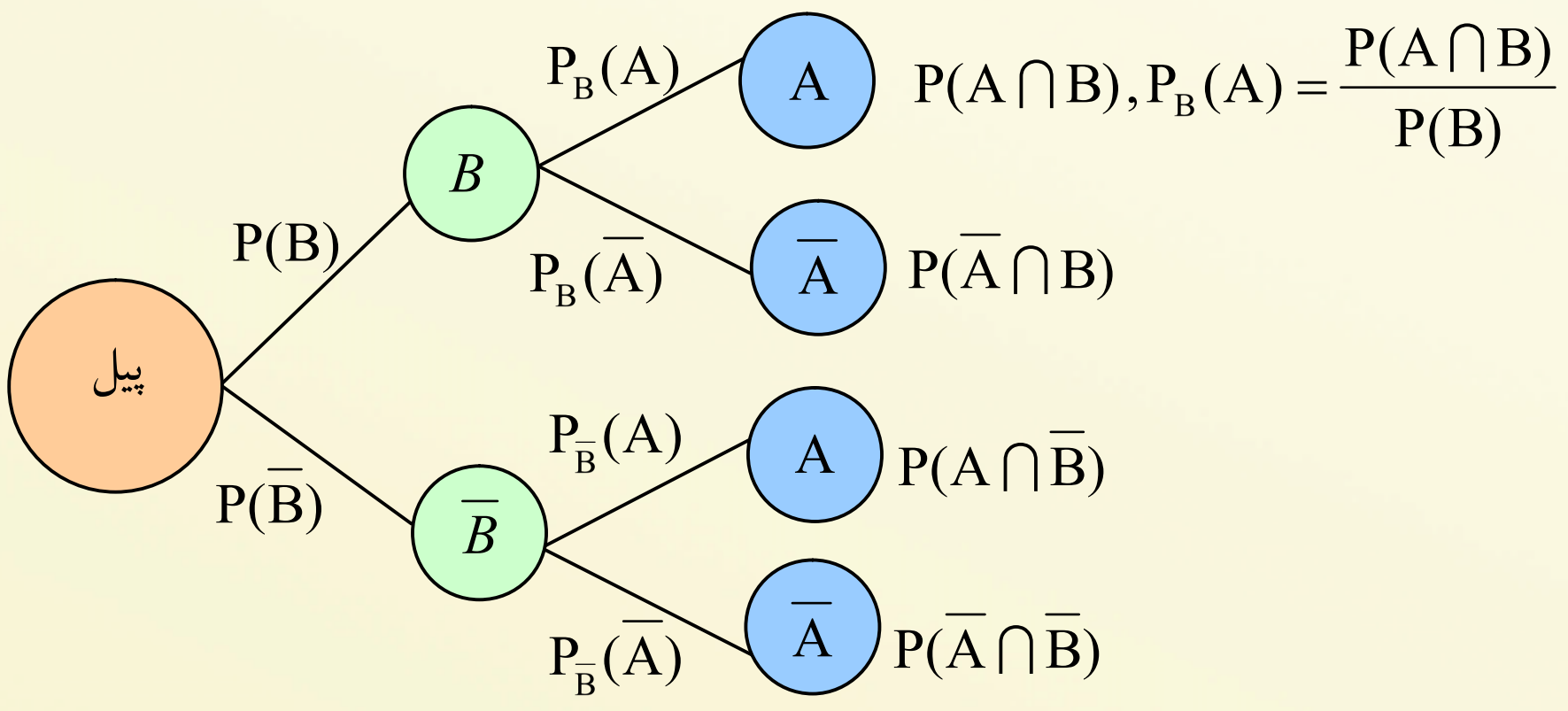

د مشروط احتمال له فورمول څخه لاندې مهمې پایلې په لاس راځي:

1- د مسیر د لومړۍ قاعدې څخه لرو: $P(A\cap B)=P(B)\cdot P_B(A)$

مسیر له دویمې قاعدې د څخه په ګټه اخیستنې سره لرو: $P(A\cap\bar{B})=P(\bar{B})\cdot P_{\bar{B}}(A)$

$P(A)=P(B)\cdot P_B(A)+P(\bar{B})\cdot P_{\bar{B}}(A)$

2- ونه‌ییزه(درختي) دیاګرام له مخې $P_A(B)=\frac{P(A\cap B)}{P(A)}$

(c) ketabton.com: The Digital Library

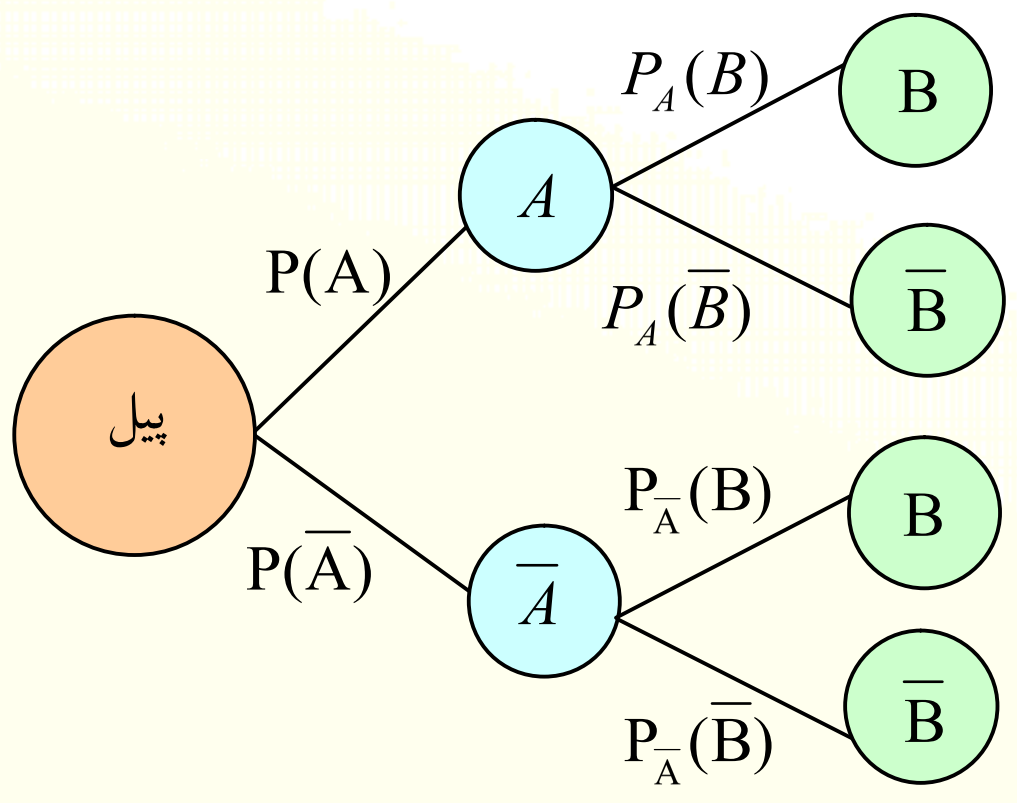

له لومړي پایلې څخه په لاس راځي چې: $P_A(B)=\dfrac{P_B(A)\cdot P(B)}{P(B)\cdot P_B(A)+P(\overline{B})\cdot P_{\overline{B}}(A)}$

3- که چیرې نوموړی حالت د Ω نمونه یي فضا ناځاپي پیښو د $B_1, B_2, ..., B_n$ اختیاري ویش لپاره عمومیت ورکړو د ونې په ډول د دیاګرام د په پام کې نیولو سره کولای شو، لاندې فورمول په لاس راوړو.

$$P_A(B_i)=\frac{P_{B_i}(A)\cdot P(B_i)}{P(B_1)\cdot P_{B_1}(A)+...+P(B_n)\cdot P_{B_n}(A)}=\frac{P(A\cap B_i)}{\sum_{k=1}^{n}P(B_k)\cdot P_{B_k}(A)} \qquad i=1,2,...,\ n$$

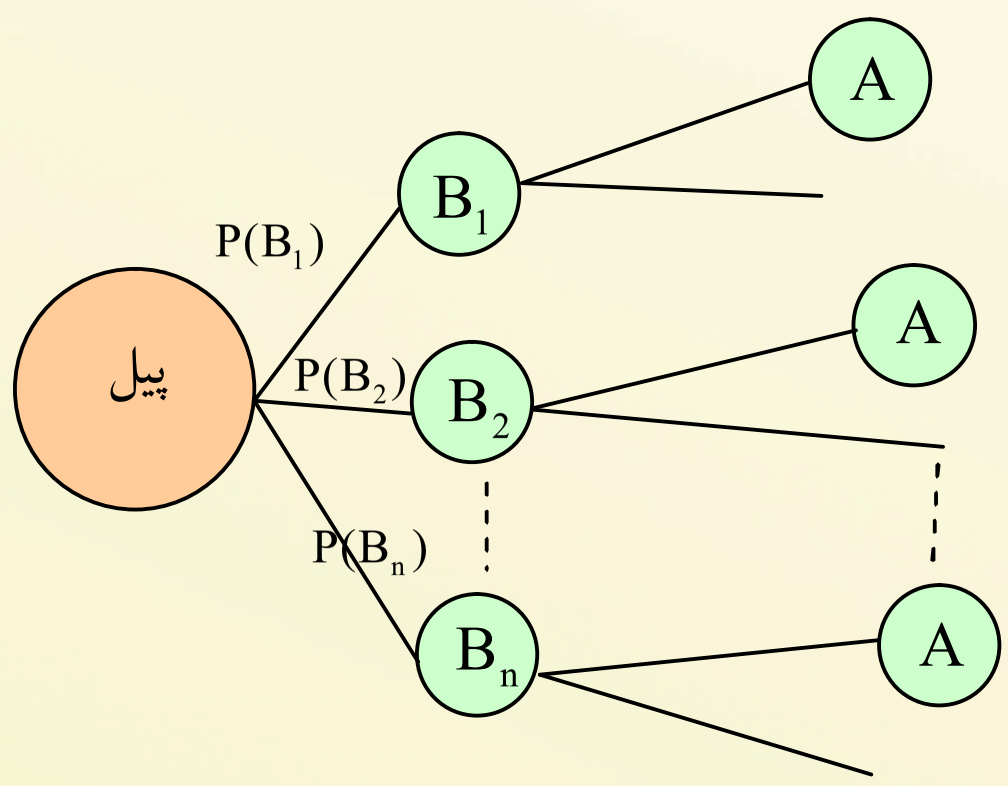

لومړی مثال: یو زده کوونکی ښوونځي ته د تللو لپاره 50% هره ورځ د ګاډي څخه ګټه اخلي چې 70% په ټاکلي وخت ښوونځي ته رسیږي. په منځني ډول نوموړی 60% په ټاکلي وخت ښوونځي تـه حاضریږي کـه چیرې پیښې:

A: د ګاډي په واسطه راتلل B: په ټاکلي وخت رسیدل

(c) ketabton.com: The Digital Library

وي په دي صورت کې د A مشروط احتمال نظر B ته يعنې $P_B(A)$ مطلوب دی؟

حل: د نوموړي احتمال د پيداکولو لپاره د ونهييز يا درختي ډياګرام په پام کې نيولو سره نظر فورمول ته په لاندې ډول په لاس راځي:

$$P_B(A) = \frac{P(A)\cdot P_A(B)}{P(B)} = \frac{0.5\cdot 0.7}{0.6} = 0.5833 = 58.33\%$$

نو په دې اساس د ګاډي په واسطه د رسېدلو احتمال په دې شرط چې په ټاکلي وخت په ښوونځي کې وي 58.33% سلنې سره برابر دی.

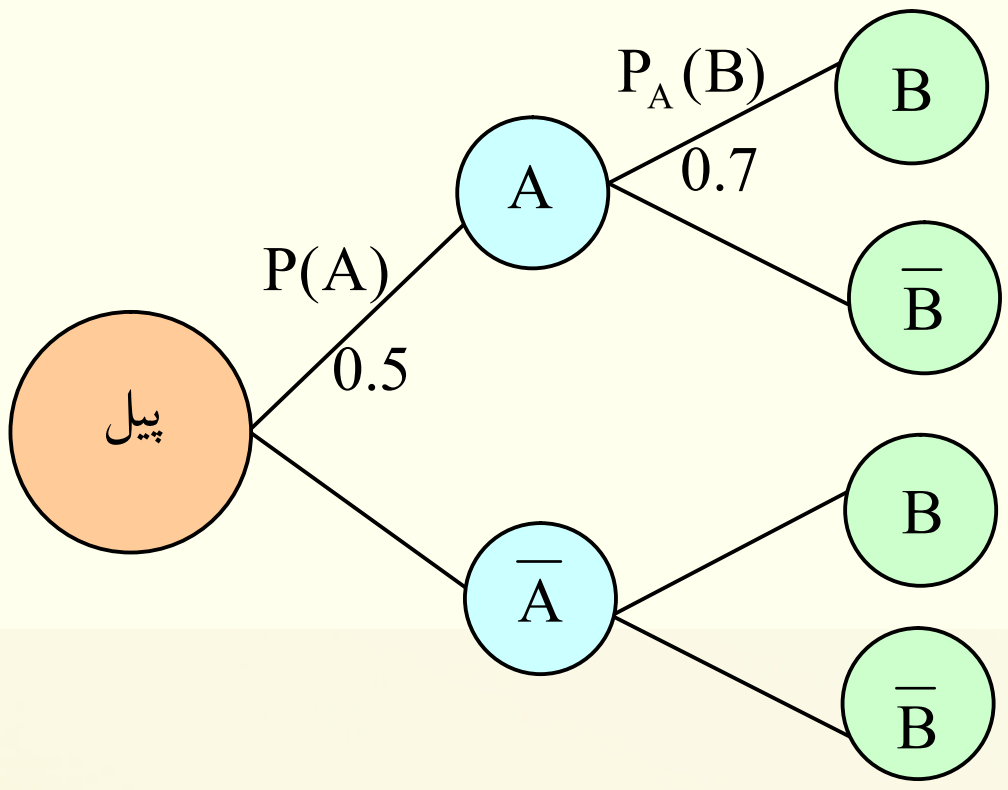

پوښتنې

له لاندې ډياګرام څخه په ګټه اخيستنې سره د مشروط احتمال په ټاکلي وخت رسېدل ښوونځي ته په دې شرط چې د ګاډي په واسطه سرته رسيدلي وي، يعنې $P_A(B)$ د ناڅاپه پيښې احتمال ښوونځي ته په ټاکلي وخت رسيدل، په دې شرط چې د ګاډي په واسطه نه وي راغلي يعنې $P_A(B)$ مطلوب دی.

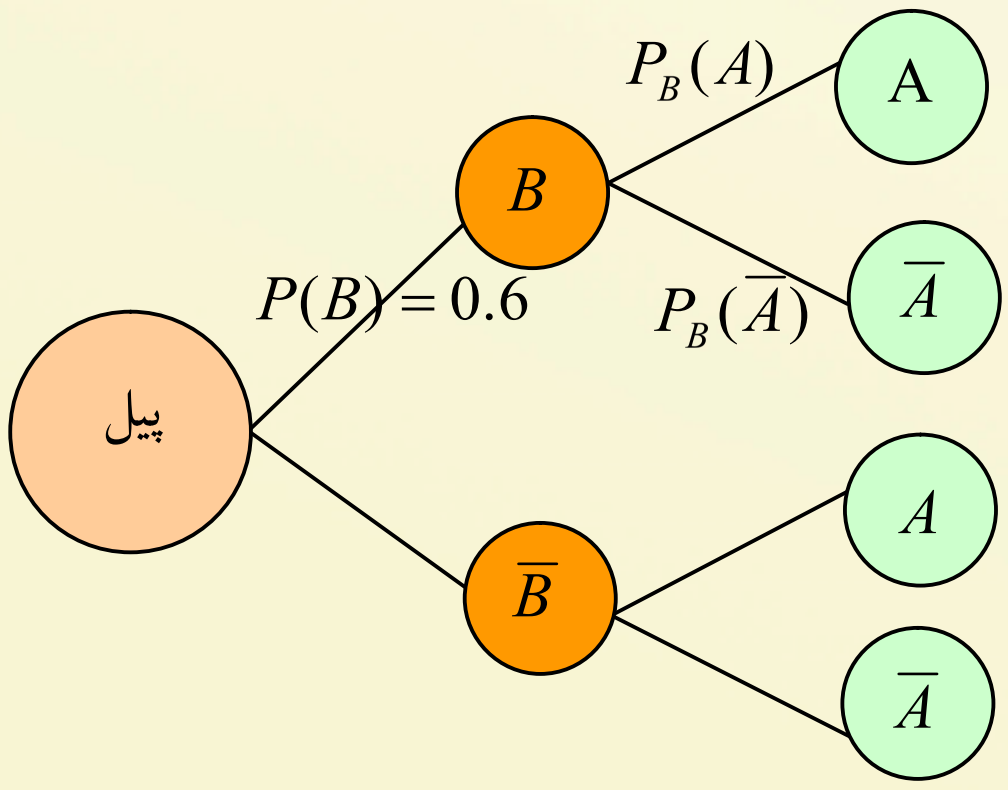

(c) ketabton.com: The Digital Library

د حاصل ضرب اصل

د A ناڅاپه پېښې مشروط احتمال په B ، د A او B ناڅاپه پېښې احتمال یو له بل سره څه اړیکه لري؟

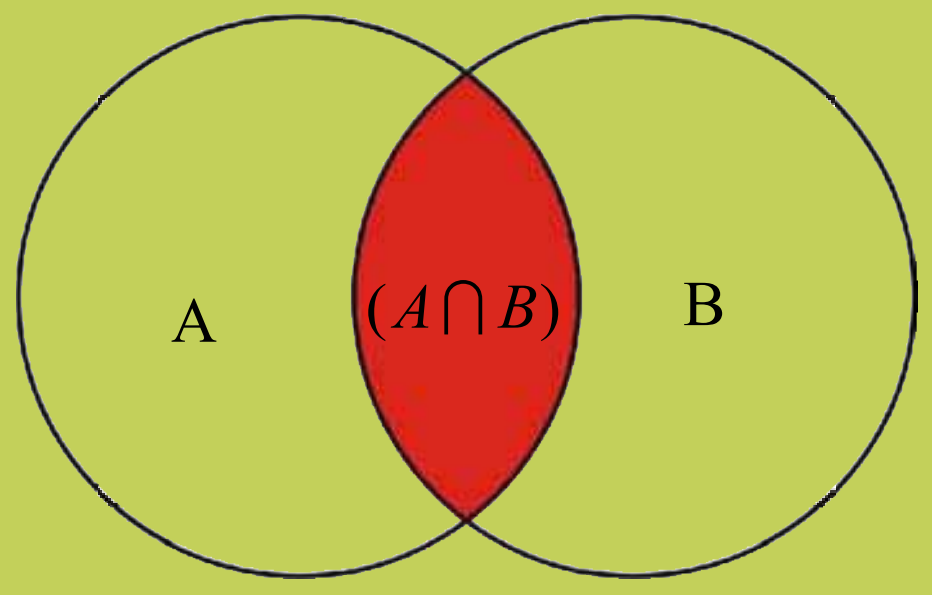

فعالیت

- که چیرې A او B دوې ناڅاپه پیښې د S په نمونه یي فضا کې وي.
- د A ناڅاپه پیښې مشروط احتمال B ته ولیکئ.
- د ونهیز دیاګرام څخه په ګټه اخیستنې سره د $P(B)\cdot P_B(A)$ قیمت په لاس راوړئ.
- د $(A\bigcap B)$ ناڅاپه پیښو احتمال د A او B ناڅاپه پیښو څخه او یا د A مشروط له B څخه په ګټه اخیستنې سره ولیکئ.
- د فعالیت د دوو پورتنیو بندونو د محاسبې پایلې یو له بل سره پرتله کړې.
- آیا کولای شو چې موضوع د ډیرو ناڅاپه پیښو لپاره عمومیت ورکړو.

د پورتني فعالیت له سرته رسولو څخه لاندې پایله په لاس راوړو.

د S په یوه نمونه یي فضا کې د A او B د دوو ناڅاپه پیښو لپاره د مشروط احتمال د تعریف په پام کې نیولو سره لرو: $P(A\bigcap B)=P(B)\cdot P_B(A)$

دا مسئله کولای شو چې د ونهیز دیاګرام په مرسته هم په لاس راوړو:

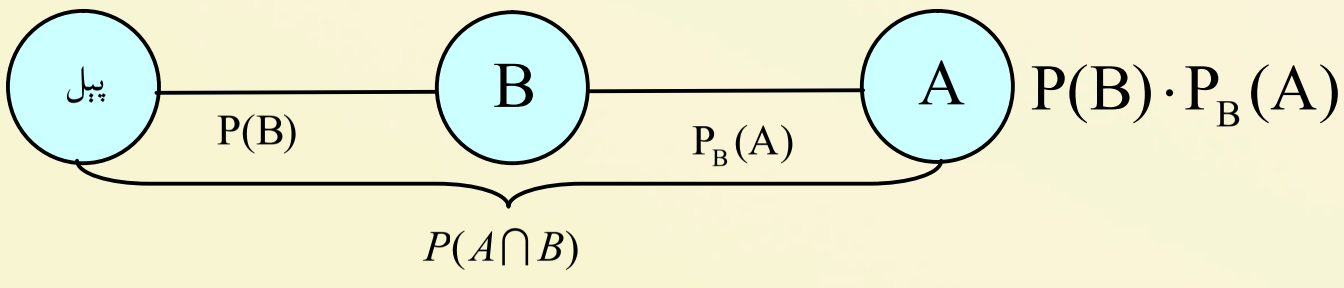

$$\Rightarrow P(A\bigcap B)=P(B)\cdot P_B(A)$$

(c) ketabton.com: The Digital Library

دا مطلب د دريو A، B او C پيښو لپاره په لاندې ډول پراخوو.

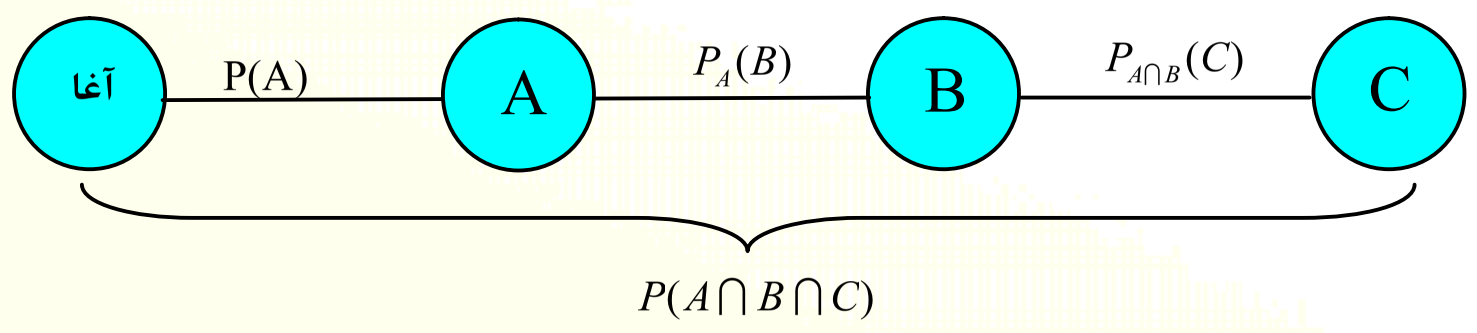

$$\Rightarrow P(A\cap B\cap C)=P(A)\cdot P_A(B)\cdot P_{A\cap B}(C)$$

پورتنۍ قاعده د حاصل ضرب په نامه يادېږي او کولای شو، هغه د يو شمېر اختياري ناخاپي پيښو لپاره هـم پـه لاس راوړو.

مثال: د B_1, B_2 او B_3 دريو ولايتونو په پارلماني ټاکنو کې چې د هر يوه لپاره د ټاکنو دګډون کوونکـو فيـصدي او د جمهوري ګوند برخه فيصدي ورکړل شوې ده؟

په کوم احتمال د ټاکنو ګډون کوونکي او يا رايې اچوونکي جمهوري ګوند ټاکلی وي.

حل: په لاندې ډول ناخاپي پيښې تعريف او نوموو:

V : هغه رايې ورکوونکي چې د جمهوري ګوند يې ټاکلي دي.

B_i : د ولايت رايې ورکوونکي B_i – (i-ام) ... i=1,2,3 لاندې ارقام ورکړل شوي وي.

ولايت	راي ورکوونکي فيصدي	جمهوري ګوند ته رايې ورکوونکي
B_1	33.2%	35
B_2	46.5%	22
B_3	20.3%	30

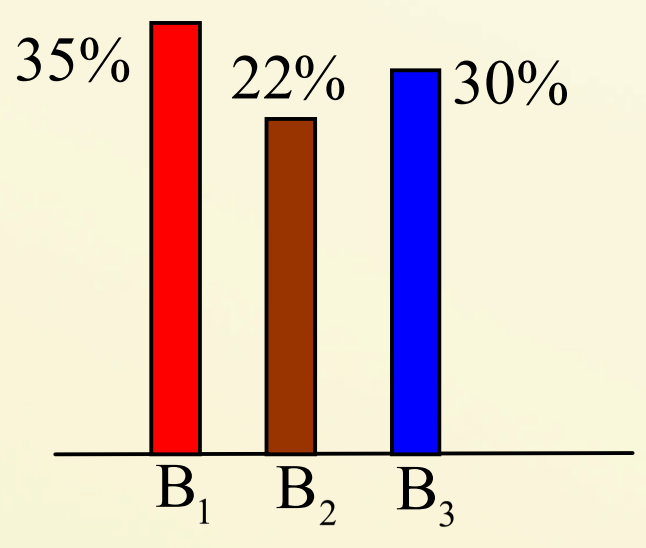

د $B_i\ (i=1,2,3)$ ناخاپه پيښې په حقيقت کې يې د S نمونه يي فضا يـو ويـش جـوړ کـړي چـې د هغـوی لپـاره صورت نيسي.

1- B_i يو له بل سره دوه په دوه مستقل او ګډ عناصر نه لري.

2- د S نمونه يي فضا لپاره $\bigcup_{i=1}^{3}B_i = S=B_1\cup B_2\cup B_3$ دی، نو $B_i\cap V\ \ (i=1,2,3)$ پيښنه يو له بل سره يو په يو مستقل د هغوی لپاره صورت نيسي. $V=\bigcup_{i=1}^{3}(B_i\cap V)$

(c) ketabton.com: The Digital Library

له دې اړیکې څخه کولای شو، د دواړو خواوو د احتمال لپاره ولیکو:

$$P(V)=P\left(\bigcup_{i=1}^{3}(B_i\cap V)\right)=\sum_{i=1}^{3}P(B_i\cap V)=\sum_{i=1}^{3}P(B_i)\cdot P_{B_i}(V)$$
$$=P(B_1)\cdot P_{B_1}(V)+P(B_2)\cdot P_{B_2}(V)+P(B_3)\cdot P_{B_3}(V)$$
$$=0.332\cdot 0.35+0.465\cdot 0.22+0.203\cdot 0.3=0.1162+0.1023+0.0609$$
$$=0.2794=27.94\%$$

تعریف: که چیرې د $B_1, B_2, ..., B_n$ خرنګه چې $P(B_i)\neq 0$ وی $i=1,...n$ پیښنو عمومي حالت د S په نمونه‌يي فضاکې یوه پېښنه وي، نو $P(A)$ د کامل احتمال په نامه یاد او د A اختیاري ناڅاپه پیښې لپاره لرو:

$$P(A)=\sum_{i=1}^{n}P(B_i)\cdot P_{B_i}(A)$$

د مشروط احتمال د تعریف، د اصل حاصل ضرب له قضیې څخه دکامل احتمال د مسئلې په پام کې نیولو څخه لاندې فورمول چې د بائیز(Baye's) د فورمول په نامه یادیږي، په آسانۍ سره په لاس راځي، داسې چې B_i چې $i=1,...n$ د S نمونه يي فضا یو پېښې لپاره چې $P(B_i)\neq 0$ ، $i=1,...n$ د A د ناڅاپه پیښې احتمال چې $P(A)\neq 0$ سره وي، لرو:

د بائیز (Bayex)فورمول:

$$P_A(B_i)=\frac{P(A\cap B_i)}{P(A)}=\frac{P(B_i)\cdot P_{B_i}(A)}{\sum_{k=1}^{n}P(B_k)\cdot P_{B_k}(A)}$$

د بائیز فورمول ډېر استعمال لري لکه د $n=2$ لپاره $B_1=\overline{B}, B_2=\overline{B}$ په پام کې ونیسو، په حقیقت کې B_1 او B_2 د S نمونه يي فضا پېښې وي لرو:

$$P_A(B)=\frac{P(B)\cdot P_B(A)}{P(B)\cdot P_B(A)+P(\overline{B})\cdot P_{\overline{B}}(A)}$$

پورتنی فورمول د $n=2$ د بائیز له فورمول څخه عبارت دي.

مثال: په یوه فابریکه کې د A، B او C درې ماشینونه په ترتیب سره 30% ، 30% او 40% برخه د برق ګروپونه تولیدوي. که چیرې په ماشینونو کې دګروپونو د خرابېدو کچه په ترتیب سره 4%، 2% او 5% وي او نوموړي ګروپونه په ګډه سره خرڅ شي، مطلوب دي:

a) ددې احتمال چې یو اخېستل شوي ګروپ وران یا خراب وي.

(c) ketabton.com: The Digital Library

b) په کوم احتمال خراب خرڅ شوی گروپ د C ماشین پورې اړه لري.

c) یو نوی تولید شوی گروپ لرو، په کوم احتمال سره به د B ماشین پورې مربوط وي.

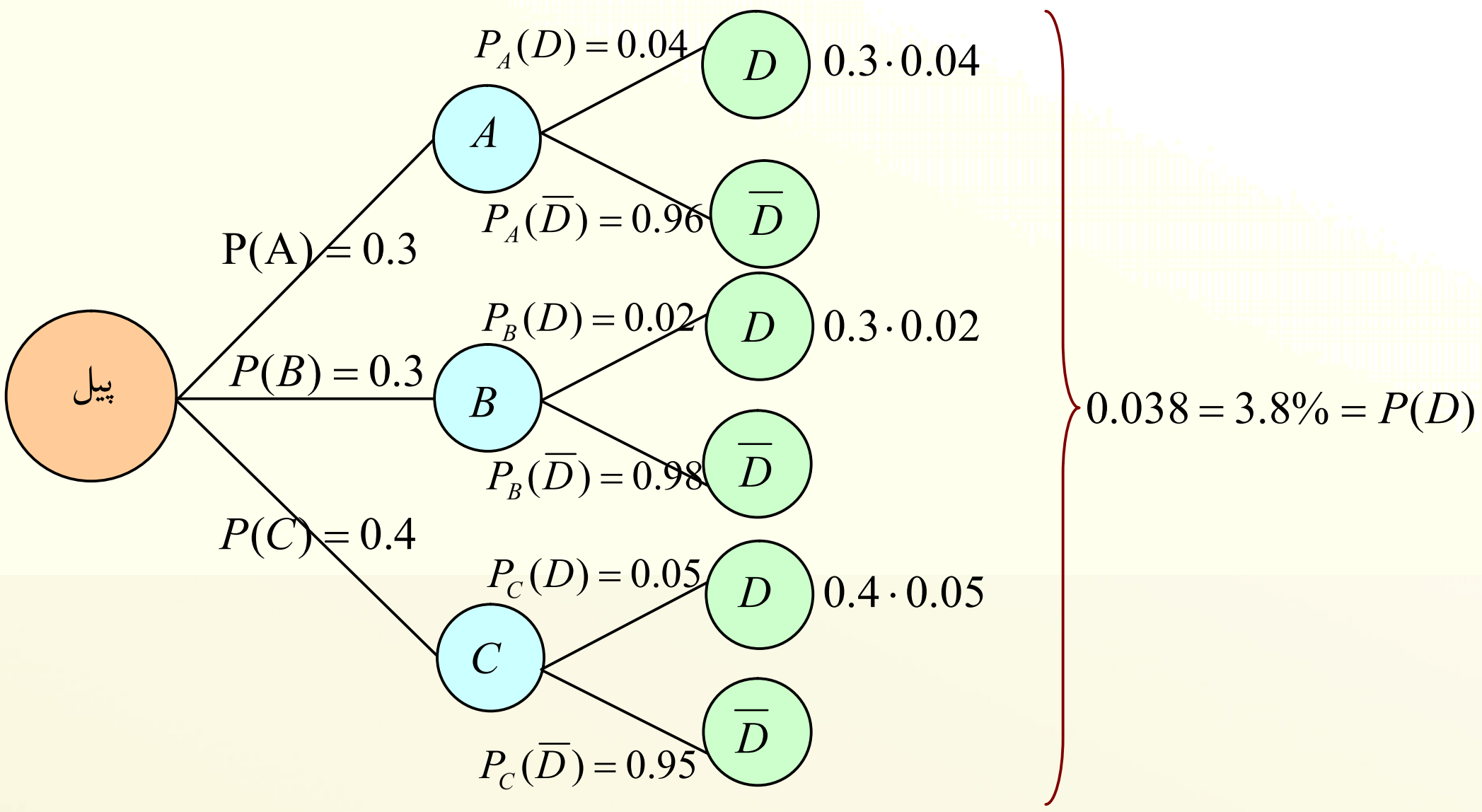

د b جز:

$$P_D(C)=\frac{P(D\cap C)}{P(D)}=\frac{P(C)\cdot P_C(D)}{P(D)}=\frac{0.4\cdot 0.05}{0.038}=\frac{0.02}{0.038}=0.526=52.6\%$$

د c جز:

$$P_{\overline{D}}(B)=\frac{P(\overline{D}\cap B)}{P(\overline{D})}=\frac{P(B)\cdot P_B(\overline{D})}{P(\overline{D})}=\frac{0.3\cdot 0.98}{0.3\cdot 0.96+0.3\cdot 0.98+0.4\cdot 0.95}$$

$$=\frac{0.294}{0.288+0.294+0.38}=\frac{0.294}{0.962}=0.3056=30.56\%$$

پوښتني

1- د 1000 دانو رملونو په منځ کې د يوې دانې په شپږ واړه مخونه يوازې د 6 شميره وهل شوې ده. د هغوې له منځ څخه يوه ناڅاپه د رمل دانه ټاکل شوې او درې ځلې اچول شوې ده. درې ځلې 6 راغلي. پيدا کړې، هغه احتمال چې په ټاکل شوې دانه به سم ډول شميرې وهل شوې وي؟

(c) ketabton.com: The Digital Library

(c) ketabton.com: The Digital Library

د ناخاپه پېښو استقلالیت

لـه مـشروط احتمـال څخـه پـوهېږو چې د A او B دوو ناخاپو پېښو یا حادثو د B د پېښې پېښدل د A پـه پېښه تـاثیر اچـوي پـه دې سـبب لازمـه ده چـې د احتمـال د محاسبې په وخت کې د A او B پېښه په پام کې ونیسو.

$$P(A\cap B)=P(A)\cdot P(B)$$

د هغه حالت لپاره چې د A ناخاپه پېښې پېښدل پر B ناخاپه پېښې اغېزه ونه لري او بر عکس.

د A او B د ضرب د حاصل احتمال د $A\cap B$ پېښې له احتمال سره څه اړیکه لري.

تعریف: د A او B دوې ناخاپه پېښې چې یوه پر بله اغېزه لرونکې نه وي د ناخاپه مستقلو پېښو په نامه یادېږي.

$$P(A\cap B)=P(A)\cdot P(B)$$

فعالیت

- د S نمونه يي فضا او د A او B دوې یوه له بلې څخه مستقلې پېښې چې د S نمونه یي فضاکې شامل وي، په پام کې ونیسئ.
- د مشروط احتمـال فورمول څخه په هغه صورت کې چې A او B یوه له بلې څخه مستقلې دوې پېښې وي د $P(A)$ او $P_B(A)$ احتمالونه یو له بل څخه څه توپیر لري؟
- د $P(A\cap B)$ ناخاپه پېښې احتمال له څه سره مساوي دي؟
- د $P(A\cup B)=P(A)+P(B)-P(A\cap B)$ د پېښو د احتمال د فورمول څخه په هغه صورت کې چې A او B ګډ ټکی ونه لري څه پایله اخلي؟

د پورتني فعالیت له سرته رسولو څخه لاندې پایله په لاس راځي:

1: د A او B دوې پېښې مستقلې بلل کېږي که چېرې:

$P(A\cap B)=P(A)\cdot P(B)$ (د ضرب د حاصل اصل)

2: که چېرې A او B پېښې د ګډو ټکو لرونکې نه وي، نو

$A\cap B=\emptyset\Rightarrow P(A\cap B)=0$

$\Rightarrow P(A\cup B)=P(A)+P(B)$ (د جمع د حاصل اصل)

لومړی مثال: که چېرې د یوه ښوونځي د زده کوونکو د سترګو رنګ او ذکاوت یو پر بل پرته له اغېزې فرض شوي وي. د لاندې پېښو په پام کې نیولو سره په ناڅاپه ډول د یوه زده کوونکي ټاکلو لپاره:

H: ټاکل شوي تن یو هوښیار ذکي زده کوونکی وي.

B: ټاکل شوي زده کوونکي تورې سترګې ولري.

پیدا کړئ هغه احتمال چې ټاکل شوي زده کوونکي په ناڅاپه توګه هوښیار ذکي او تورې سترګې ولري.

حل: ددې لپاره چې ټاکل شوي زده کوونکي هوښیار او تورې سترګې ولري لیکلای شو:

څرنګه چې $P_B(H) = P(H)$ بر سیره پردې $P_B(H) = \dfrac{P(B \cap H)}{P(B)}$ نو:

$$P(B \cap H) = P(H) \cdot P(B)$$

عمومي حالت: د A_1 , A_2 , A_n..... , $(n \geq 2)$ ناڅاپه پېښی احتمالاً یو له بلې څخه مستقلې بلل کېږي که چېرې د هرو دوو یا څو پېښو په ترکیب کې د ضرب د حاصل قاعده صدق وکړي پرته له هغې پېښې احتمالاً یوه له بلې سره تړلي نومول کېږي.

پایله:

1: پاملرنه باید وشي چې د ضرب د حاصل له قاعدې څخه په ګټه اخیستنې سره په لاندې متقاطع جدول کې هم کولای شو چې $A \cap B$, $A \cap \overline{B}$, $\overline{A} \cap \overline{B}$ او $A \cap \overline{B}$ ا ناڅاپه پېښو احتمالي پایلې د A او B پېښو لپاره چې احتمالونه یې a او b وي، په آسانی په لاس راوړو. د A او B د مستقل والی څخه پوهېږو چې د A او $\overline{B}$ ، $\overline{A}$ او B په پای کې $\overline{A}$ او $\overline{B}$ هم یوه له بلې څخه مستقلې دي؛ نو لرو:

	B	$\overline{B}$	
A	$P(A \cap B) = a \cdot b$	$P(A \cap \overline{B}) = a(1-b)$	a
$\overline{A}$	$P(\overline{A} \cap B) = b(1-a)$	$P(\overline{A} \cap \overline{B}) = (1-a)(1-b)$	$1-a$
	b	$1-b$	1

2: د A ، B او C درې ناڅاپه پېښې چې یوه له بلې څخه مستقلې دي، لرو:

$$P(A \cap B) = P(A) \cdot P(B)$$
$$P(A \cap C) = P(A) \cdot P(C)$$
$$P(B \cap C) = P(B) \cdot P(C)$$
$$P(A \cap B \cap C) = P(A) \cdot P(B) \cdot P(C)$$

(c) ketabton.com: The Digital Library

دویم مثال: په یوه کڅوړه کې دوې سپینې او دوې تورې مرۍ پرتې دي. دوې مرۍ یوه له بلې پسې له کڅوړې څخه پورته کوو، په داسې حال کې چې:

a- د لومړۍ مرۍ د پورته کولو نه وروسته هغه بېرته په کڅوړه کې ږدو.

b- پرته له دې چې مرۍ واپس کېښودل شي.

د A پېښه: په لومړي ځل سپینه مرۍ راووزي. B: دویم ځل مرۍ سپینه وي.

له یوې بلې څخه مستقلې یا ترلې (وابسته) دي.

حل:

a) څرنګه چې $P(A)=\frac{1}{2}$ او $P(B)=\frac{1}{2}\cdot\frac{1}{2}+\frac{1}{2}\cdot\frac{1}{2}=\frac{1}{2}$ وي او

$P(A\cap B)=P(A)\cdot P(B)=\frac{1}{4}$ دي نو A او B یوه له بلې څخه مستقلې دي.

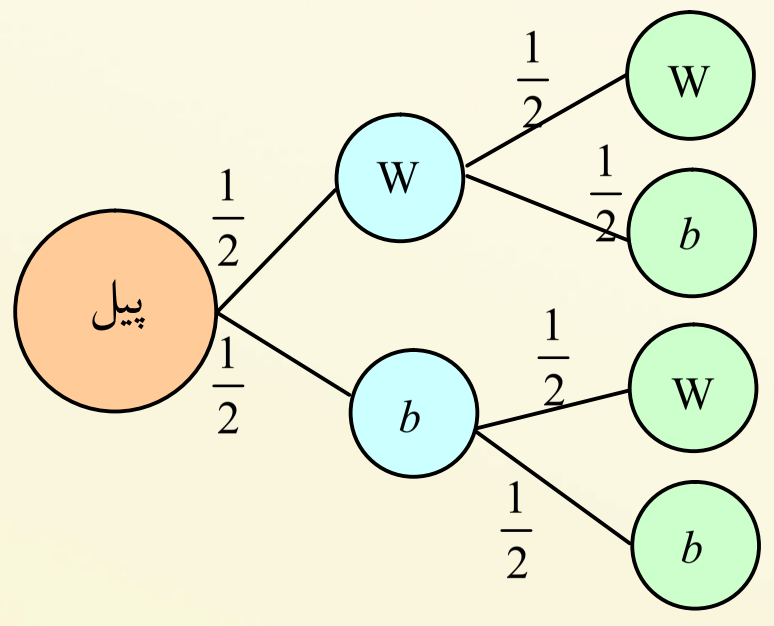

b) څرنګه چې:

$$P(B)=\frac{1}{2}\cdot\frac{1}{3}+\frac{1}{2}\cdot\frac{2}{3}=\frac{1}{2}\,,\ P(A)=\frac{1}{2}$$

$$\Rightarrow P(A\cap B)\neq P(A)\cdot P(B)$$

نو A او B یوه له بلې څخه ترلې یا وابسته دي.

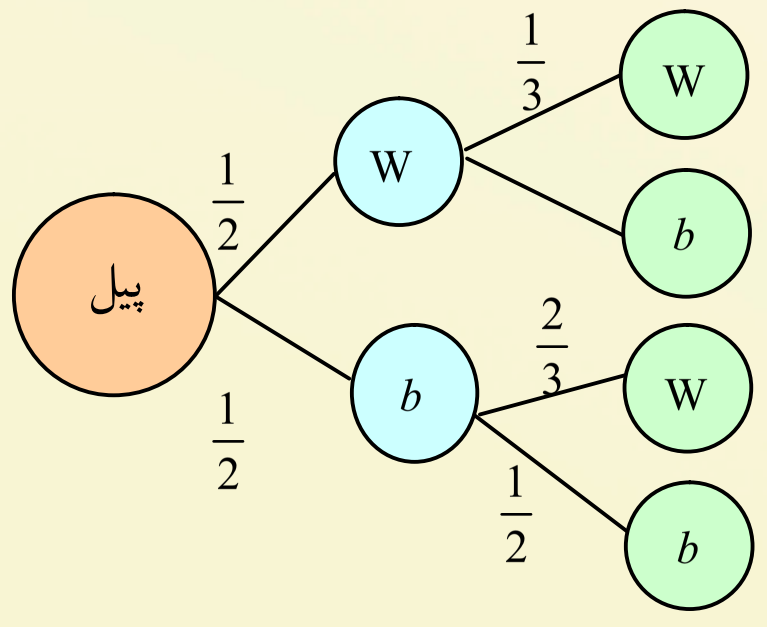

(c) ketabton.com: The Digital Library

(c) ketabton.com: The Digital Library

دريم مثال: د لاندي متقاطع جدول خالي ځايونه چې په نښه شوي دي ډک يې کړئ:

	B	$\overline{B}$	
A	0.12	$P(A\cap\overline{B})=?$	?
$\overline{A}$	$P(\overline{A}\cap B)=?$	$P(\overline{A}\cap\overline{B})=?$	?
	?	0.6	

حل: څرنګه چې $P(\overline{B})=0.6$ دي نو لرو:

$$P(B)=1-P(\overline{B})=1-0.6=0.4$$
$$P(A)=\frac{P(A\cap B)}{P(B)}=\frac{0.12}{0.4}=0.30$$
$$\Rightarrow P(\overline{A})=1-P(A)=1-0.3=0.70$$

او د پېښو د تقاطع څخه لرو چې:

$$P(A\cap\overline{B})=P(A)\cdot P(\overline{B})=0.3\cdot0.6=0.18$$
$$P(\overline{A}\cap B)=P(\overline{A})\cdot P(B)=0.7\cdot0.4=0.28$$
$$P(\overline{A}\cap\overline{B})=P(\overline{A})\cdot P(\overline{B})=0.7\cdot0.6=0.42$$

په همدې ترتيب په جدول کې د قيمتونو په وضع کولو سره مسئله تکميلېږي.

پوښتنې

يو سېټ چې عناصر يې 5,3,2 او 30 دی د يوه رقم د انتخاب احتمال يې 0.25 دی په ناخاپي ډول له نوموړي سېټ څخه يو رقم انتخابوو، که چيرې A_k ناخاپه پېښه د هغه رقم چې انتخاب شوي او د تقسيم قابليت په k ولري، آيا A_2, A_3 او A_5 ناخاپي پېښې دوه په دوه مستقل دي او که نه؟

(c) ketabton.com: The Digital Library

د څپرکي مهم ټکي

بېلې شوې(غیرمتمادي) نمونه يي فضا:

هغه نمونه يي فضا چې عناصر يې د شمېر او تشخيص وړ وي، د **پرېکړې يا** گسسته نمونه‌يي فضا په نامه يادېږي؛ لکه د رمل يا د سکې اچولو تجربي نمونه‌يي فضا.

نښتي(متمادي) نمونه يي فضا:

هغه نمونه يي فضا چې عناصر يې د شمېر وړ نه وی د پيوسته يا متمادی نمونه‌يې فضا په نامه يادېږي چې د حقيقي اعدادو پر محور د فاصلې په بڼه او يا په فضا کې د هندسي شکلونو يا حجمونو په ډول څرگندېږي.

هم چانس پېښې:

د يوې نمونه يي فضا لومړني پيښې چې د هغوي پېښې د تجربې په پای کې په برابر احتمال پېښېږي، هم چانسه پېښې بلل کېږي. د هم چانس پېښو د احتمال مجموع له يوه سره مساوي ده.

د نښتی(پيوسته) فضا احتمال:

د ټوټه کرښو، سطحو او حجمونو مساعد حالتونه د يوې پام وړ ناڅاپې پيښې لپاره په يوه تجربي نمونه‌يي فضا کې شامل ټوټه کرښو، سطحو او حجمونه عبارت دی د متصلې فضا له احتمال څخه.

مشروط احتمال:

که چيرې A او B د S، د نمونه‌يي فضا دوې ناڅاپه پېښې چې $P(B) \neq 0$ وي په دې حالت کې $P_B(A) = \dfrac{P(A \cap B)}{P(B)}$ ته د A ناڅاپه پيښې د مشروط احتمال په نامه يادېږي په دې شرط چې د B پېښه له مخکې پېښه شوې وي.

يوه له بلې څخه مستقلې پېښې:

د A او B دوه ناڅاپه پېښې يوه له بلې څخه مستقلې بلل کېږي، که چيرې:

$P(A \cap B) = P(A) \cdot P(B)$ (د ضرب د حاصل اصل)

(c) ketabton.com: The Digital Library

د څېړکي پوښتنې

1. د لاندې نمونه يي فضاګانو څخه کومه يوه سره نښتې يا پيوسته او کومه يوه پرېکړې يا ګسسته دي؟
الف: د يوې رمل دانې اچولو تجربه
ب: د يوې سکې د اچولو تجربه
ج: د يو غشي لګېدل په يوه دايره
د: د يوې فلزي ميلې د اوږدوالي زياتېدلو تجربه نظر حرارت ته

2. د يو چارتراش چې اوږدوالي يې L دي په ناڅاپه ډول په سور اره کوو، تر څو دوه برخې شي څومره احتمال ددې شته دي چې د کين اړخ اره شوي برخه د ښي اړخ له درې برابره څخه کوچنې وي.

3. د يوه خصوصي شرکت يو کارګر هره ورځ د 8 او 8:50 ساعتونو په منځ کې کورته نږدې تم ځاي کې چې د مامورينو په ګاډي کې د کارته د تګ لپاره ګډون وکړي او په 8:15 ، 8:30 او 8:45 وختونو تم ځاي ته رسېږئ څومره احتمال ددې شته چې نوموړې تن له 5 دقيقو څخه لږ منتظر پاتې شي.

4. د $[0.3]$ ترلې فاصلې څخه په ناڅاپه ډول دوه عددونه ټاکو، پيدا کړې ددې احتمال چې د اعدادو مجموعه د 5 څخه کوچنی او د 2 څخه لويه وي.

5. په ناڅاپه ډول يو ټکې د مخروط دننه چې د قاعدې ورانګې يا شعاع يې R او جګوالی $R\sqrt{3}$ دې ټاکو، پيدا کړې ددې احتمال چې ټکې د محاطې کرې دننه په دې مخروط کې قرار لرې.

6. د يو خودکار قلم خرابېدل دوه دليلونه لرې:
1- د ميخانيکيت خرابېدل
2- د خودکار د نيچې خرابېدل
که چېرې د يو خودکار قلم د خرابېدو احتمال 0.088 او ددې احتمال چې د خرابېدو دليل (1)،شميره وي مساوي په 0.05 او د دويم نقص احتمال مساوي په 0.002 وي وڅېړئ: چې دوه پورتنی دلايل مستقلې او يا غير مستقلې پېښې دي؟

7. خيبر غواړې هغه څلور کلي‌ګانې چې په جيب کې يې لري او سره يو شان دي د کورد دروازې قلف خلاص کړي په کوم احتمال سره وروسته د دريمې کلي له آزمويلو سره چې له جيب څخه يې را باسي د قلف اړوند کلي وي، په هغه صورت کې چې:
a) هره آزمويل شوي کلي په هغه صورت کې چې اصلي کلي نه وي دوباره په همغه جيب کې اچوي.
b) هره آزمويل شوي کلي په هغه صورت کې چې اصلي کلي نه وي په بل جيب کې اچوي.

Get more e-books from www.ketabton.com
Ketabton.com: The Digital Library